小3 円と球 練習プリント①

円の ことば 全6問

なまえ ＿＿＿＿＿＿＿＿

学習日 ＿＿＿月＿＿＿日

ねらい 円の 中の 線の 名前を、図を 見て 言えるように なろう。

ときかた **円の 中の 線を 見分けよう。**

はんけい（中心から ふちまで）は、［　　］

ちょっけい（中心を 通る）は、［　　］

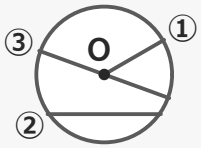

②は、中心を 通らない 線。

点Oが 円の 中心。ちょっけいは、中心を 通って ふちから ふちまでの 線。

れんしゅう

図を 見て、答えを 書きましょう。数の 答えは cmや 倍も 書きます。

1 アの 線は、円の 中心から ふちまで ひいた 線です。アの 線を 何と いいますか。［　　］

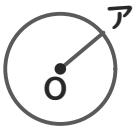

2 イの 線は、円の 中心を 通って、ふちから ふちまで ひいた 線です。イの 線を 何と いいますか。［　　］

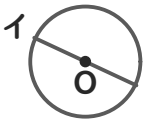

3 ア・イ・ウの 線の うち、中心を 通らない 線は どれですか。記号で 答えましょう。［　　］

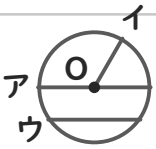

4 円の 中に ひいた 線の うち、いちばん 長い 線は ア・イ・ウの どれですか。記号で 答えましょう。［　　］

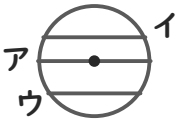

5 ちょっけいは、はんけいの 何倍の 長さですか。［　　］

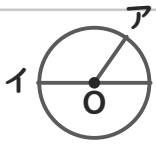

6 アと イは、どちらも この 円の ちょっけいです。アの 長さは 16cm。イの 長さは 何cmですか。［　　］

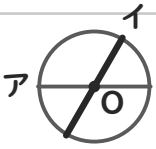

いちごドリル プリント

つづきの無料プリント
「小3の円と球」のプリント一覧がひらきます

小3 円と球 練習プリント①【こたえ】

円の ことば 全6問

なまえ ＿＿＿＿＿＿＿＿

学習日 ＿＿＿月＿＿＿日

ねらい 円の 中の 線の 名前を、図を 見て 言えるように なろう。

ときかた **円の 中の 線を 見分けよう。**

はんけい（中心から ふちまで）は、 ①

ちょっけい（中心を 通る）は、 ③

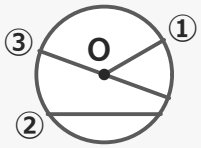

②は、中心を 通らない 線。

点Oが 円の 中心。ちょっけいは、中心を 通って ふちから ふちまでの 線。

れんしゅう

図を 見て、答えを 書きましょう。数の 答えは cmや 倍も 書きます。

1 アの 線は、円の 中心から ふちまで ひいた 線です。アの 線を 何と いいますか。

はんけい

中心から ふちまでの 線は、はんけい



2 イの 線は、円の 中心を 通って、ふちから ふちまで ひいた 線です。イの 線を 何と いいますか。

ちょっけい

中心を 通って ふちから ふちまでの線は、ちょっけい

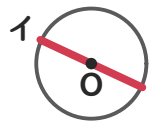

3 ア・イ・ウの 線の うち、中心を 通らない 線は どれですか。記号で 答えましょう。

ウ

ウだけ 中心を 通らない。
アは ちょっけい、イは はんけい

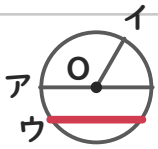

4 円の 中に ひいた 線の うち、いちばん 長い 線は ア・イ・ウの どれですか。記号で 答えましょう。

ア

いちばん 長い 線は、中心を 通る ちょっけい（ア）

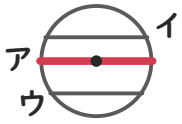

5 ちょっけいは、はんけいの 何倍の 長さですか。

2倍

イ（ちょっけい）は ア（はんけい）を 2つ つなげた 長さ

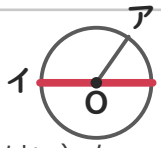

6 アと イは、どちらも この 円の ちょっけいです。アの 長さは 16cm。イの 長さは 何cmですか。

16cm

ちょっけいは どれも 同じ長さだから イも 16cm

