小6 データの整理と活用 練習プリント③

さいひん値と ドットプロット 全6問

なまえ ＿＿＿＿＿＿＿＿

学習日 ＿＿＿月＿＿＿日

ねらい いちばん 多く 出てくる 値を、回数を 数えて 見つけよう。

ときかた **13人の 1日に 食べた おやつの 数(こ)。さいひん値を さがす。**

いちばん 多い 回数は ① ＿＿＿＿ 人

その 値が さいひん値。 ② ＿＿＿＿ こ

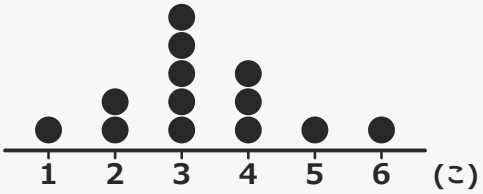

さいひん値は、いちばん 多く 出てくる 値。大きさでは 決まらない。

れんしゅう

3・4は 下の 正しい ものに ○を つけましょう。
1・2・5は さいひん値を □に 単位も 書き、6は 目の 数を 書きましょう。

1

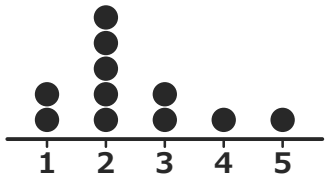

11人の 家の 人数(人)です。
さいひん値は 何人ですか。

＿＿＿＿ （単位も 書こう）

2 9人の もっている ペンの 数(本)です。さいひん値は 何本ですか。

12	9	12	15	12	9	18	12	15

＿＿＿＿ （単位も 書こう）

3 いちばん 大きい 値が、いつも さいひん値に なる。

○ ×

4 11人の 図書室に 行った 回数(回)です。さいひん値は どれですか。

回数(回)	3	4	5	6	7
人数(人)	1	2	4	3	1

5 7 4

5 ゆうとさんは、8人の とくてん(点)の さいひん値を 9と しました。
正しい さいひん値は 何点ですか。

7	4	9	7	5	7	9	6

＿＿＿＿ （単位も 書こう）

6 さいころを 10回 ふって、出た 目です。さいひん値は 何の 目ですか。

4	2	5	4	6	4	3	5	1	4

＿＿＿＿

いちごドリル プリント

解きおわったら よんでね
答えと次の1枚がひらきます

小6 データの整理と活用 練習プリント③【こたえ】

なまえ ＿＿＿＿＿＿＿＿

さいひん値と ドットプロット 全6問

学習日 ＿＿＿＿月＿＿＿＿日

ねらい いちばん 多く 出てくる 値を、回数を 数えて 見つけよう。

ときかた **13人の 1日に 食べた おやつの 数(こ)。さいひん値を さがす。**

いちばん 多い 回数は ① 5 人

その 値が さいひん値。 ② 3 こ

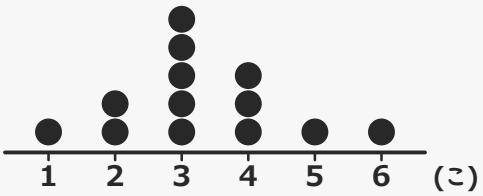

さいひん値は、いちばん 多く 出てくる 値。大きさでは 決まらない。

れんしゅう

3・4は 下の 正しい ものに ○を つけましょう。
1・2・5は さいひん値を □に 単位も 書き、6は 目の 数を 書きましょう。

1

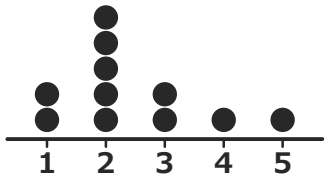

11人の 家の 人数(人)です。
さいひん値は 何人ですか。

2人 (単位も 書こう)

いちばん 高い 列は 2。
その 回数は 5。

2 9人の もっている ペンの 数(本)です。さいひん値は 何本ですか。

12	9	12	15	12	9	18	12	15

12本 (単位も 書こう)

12が 4回で いちばん 多い(18は 1回)

3 いちばん 大きい 値が、いつも さいひん値に なる。

○ ×

回数が いちばん 多い 値。
大きさでは 決まらない。

4 11人の 図書室に 行った 回数(回)です。さいひん値は どれですか。

回数(回)	3	4	5	6	7
人数(人)	1	2	4	3	1

5 7 4

人数が いちばん 多い のは 4人で、回数は 5回。(4は 人数・7は 大きい 回数)

5 ゆうとさんは、8人の とくてん(点)の さいひん値を 9と しました。
正しい さいひん値は 何点ですか。

7	4	9	7	5	7	9	6

7点 (単位も 書こう)

7が 3回で いちばん 多い(9は 2回)

6 さいころを 10回 ふって、出た 目です。さいひん値は 何の 目ですか。

4	2	5	4	6	4	3	5	1	4

4

4の 目が 4回で いちばん 多い(6は 1回)

いちごドリル プリント