# 小6 データの整理と活用 総合プリント（その1）

なまえ ＿＿＿＿＿＿＿＿

つまずきを6つ、2問ずつ（100点）

学習日 ＿＿＿＿＿＿＿＿

・数の答えは 単位も 書きましょう。
・選ぶ問は 正しいものに ○を つけましょう。

**1** 7人の なわとびの 回数を 調べました。中央値は いくつですか。

| 24 | 32 | 48 | 20 | 33 | 39 | 25 |
|---|---|---|---|---|---|---|

□

**2** 5人の ジャンプの 高さ（cm）は、34，21，35，45，24 でした。中央値（cm）は どれですか。

35　34　24

**3** 6人の とった 魚の 長さ（cm）を 小さい順に。中央値は いくつですか。

| 19 | 20 | 25 | 29 | 32 | 34 |
|---|---|---|---|---|---|

□

**4** 5人の 1日の 練習時間（分）は、9，25，100，21，13。とびぬけた 値の えいきょうを 受けにくい 代表値は？

平均値　さいひん値　中央値

**5** 15人の 1週間に 図書室へ 行った 回数を ドットプロットに した。さいひん値は いくつですか。

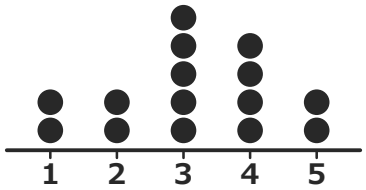


□

**6** なわとびの 回数。50以上60未満 2人、60以上70未満 7人、70以上80未満 5人。60以上の 人数（人）は どれ？

12　7　14

**7** 9人の 1分間の 腹筋の 回数を 調べました。20以上25未満の 人は 何人ですか。

| 27 | 20 | 18 | 18 | 30 | 23 | 25 | 24 | 28 |
|---|---|---|---|---|---|---|---|---|

□

**8** 階級の はばを 10に します。70は どの 階級に はいりますか。

60以上70未満　80以上90未満　70以上80未満

**9** なわとびの 回数の 柱状グラフです。40以上の 人は 何人ですか。

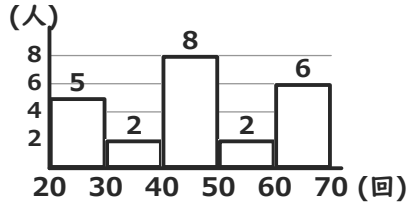


□

**10** データ 3，4，4，4，4，7，6，3，6 の さいひん値は 4 である。正しければ ○、ちがえば ×。

○　×

**11** 6人の 読書の 時間（分）です。1人だけ とびぬけて 大きい 値を のぞいた 平均は いくつ？

| 35 | 33 | 21 | 215 | 13 | 18 |
|---|---|---|---|---|---|

□

**12** 6人の ゲームの 得点は、83，65，29，21，22，57 でした。中央値は いくつですか。

□

# 小6 データの整理と活用 特訓ドリル①-1

なまえ ＿＿＿＿＿＿＿＿

中央値（ならべかえ・ぐう数個）（8問）

学習日 ＿＿＿＿＿＿＿＿

**・中央値を 考えます。数の答えは 単位も 書きましょう。**
**・選ぶ問は 正しいものに ○を つけましょう。**

**1** 9人の 1分間の 腹筋の 回数を 調べました。 中央値は いくつですか。

| | | | | | | | | |
|---|---|---|---|---|---|---|---|---|
| 37 | 10 | 29 | 15 | 41 | 17 | 26 | 42 | 46 |

**2** 5人の 集めた ごみの 重さ（kg）は、22，10，15，13，9 でした。中央値（kg）は どれですか。

15　13　10

**3** 5人の 集めた ごみの 重さ（kg）を 表に しました。 中央値は いくつですか。

| 名前 | A | B | C | D | E |
|---|---|---|---|---|---|
| 重さ | 6 | 11 | 3 | 4 | 8 |

**4** 5人の なわとびの 回数は、39，58，57，13，16 でした。中央値は いくつですか。

**5** 6人の なわとびの 回数を 小さい順に。 中央値は いくつですか。

| | | | | | |
|---|---|---|---|---|---|
| 12 | 24 | 25 | 29 | 42 | 47 |

**6** 6人の 1分間の 腹筋の 回数は、24，35，43，26，23，21 でした。中央値は いくつですか。

**7** 20人の 1分間の 腹筋の 回数を 表に しました。 中央値は いくつですか。

| 回数 | 26 | 28 | 30 | 32 | 34 |
|---|---|---|---|---|---|
| 人数 | 5 | 3 | 2 | 5 | 5 |

**8** 小さい順の データ 15，16，18，34，38，45 の 中央値は 18 である。 正しければ ○、ちがえば ×。

○　×

# 小6 データの整理と活用 特訓ドリル①-2

中央値（ならべかえ・ぐう数個）（8問）

なまえ ＿＿＿＿＿＿＿＿

学習日 ＿＿＿＿＿＿＿＿

・中央値を 考えます。数の答えは 単位も 書きましょう。
・選ぶ問は 正しいものに ○を つけましょう。

**1** 5人の 1日の 練習時間（分）は、70，67，76，85，14 でした。中央値は いくつですか。

□

**2** 5人の 集めた ごみの 重さ（kg）を 表に しました。中央値は いくつですか。

| 名前 | A | B | C | D | E |
|---|---|---|---|---|---|
| 重さ | 20 | 16 | 17 | 14 | 11 |

□

**3** データ 99，98，61，88，67 の 中央値は 61 である。正しければ ○、ちがえば ×。

○ ×

**4** 7人の ボール投げの きょり（m）を 調べました。中央値は いくつですか。

| 11 | 12 | 37 | 25 | 15 | 22 | 18 |
|---|---|---|---|---|---|---|

□

**5** 小さい順の データ 10，12，17，19，21，23 の 中央値は 18 である。正しければ ○、ちがえば ×。

○ ×

**6** 12人の 1分間の 腹筋の 回数を 表に しました。中央値は いくつですか。

| 回数 | 34 | 36 | 38 | 40 | 42 |
|---|---|---|---|---|---|
| 人数 | 3 | 2 | 1 | 4 | 2 |

□

**7** 6人の リレーの タイム（秒）を 小さい順に ならべると、19，23，24，26，27，32。中央値（秒）は どれですか。

26 25 50

**8** 8人の おやつの ねだん（円）を 小さい順に。中央値は いくつですか。

| 92 | 101 | 105 | 111 | 187 | 260 | 269 | 282 |
|---|---|---|---|---|---|---|---|

□

# 小6 データの整理と活用 特訓ドリル①-3

なまえ ＿＿＿＿＿＿＿＿

中央値（ならべかえ・ぐう数個）（8問）

学習日 ＿＿＿＿＿＿＿＿

・中央値を 考えます。数の答えは 単位も 書きましょう。
・選ぶ問は 正しいものに ○を つけましょう。

**1** 7人の ジャンプの 高さ（cm）を 調べました。 中央値は いくつですか。

| 69 | 40 | 59 | 23 | 41 | 46 | 21 |
|---|---|---|---|---|---|---|

**2** データ 73，88，92，76，63 の 中央値は 76 である。 正しければ ○、ちがえば ×。

○ ×

**3** 5人の とった 魚の 長さ（cm）を 表に しました。 中央値は いくつですか。

| 名前 | A | B | C | D | E |
|---|---|---|---|---|---|
| 長さ | 18 | 20 | 30 | 29 | 32 |

**4** 5人の ボール投げの きょり（m）は、8，32，30，22，12。そらさんは 中央値を 30と 答えた。 正しい 中央値は いくつ？

**5** 6人の 1日の 練習時間（分）を 小さい順に。 中央値は いくつですか。

| 30 | 31 | 34 | 36 | 45 | 78 |
|---|---|---|---|---|---|

**6** 6人の ボール投げの きょり（m）を 小さい順に ならべると、22，23，26，30，37，39。 中央値（m）は どれですか。

30 56 28

**7** 16人の なわとびの 回数を 表に しました。 中央値は いくつですか。

| 回数 | 49 | 51 | 53 | 55 | 57 |
|---|---|---|---|---|---|
| 人数 | 4 | 4 | 2 | 3 | 3 |

**8** 20個の データを 小さい順に ならべました。 中央値は 何番目と 何番目の 平均ですか。

10番目と11番目　9番目と10番目　11番目と12番目

# 小6 データの整理と活用 特訓ドリル①-4

なまえ ＿＿＿＿＿＿＿＿

中央値（ならべかえ・ぐう数個）（8問）

学習日 ＿＿＿＿＿＿＿＿

**・中央値を 考えます。数の答えは 単位も 書きましょう。**
**・選ぶ問は 正しいものに ○を つけましょう。**

**1** 5人の リレーの タイム（秒）は、32，31，23，18，27。はるさんは 中央値を 23と 答えた。正しい 中央値は いくつ？

**2** 7人の 漢字テストの 点数を 表に しました。中央値は いくつですか。

| 名前 | A | B | C | D | E | F | G |
|---|---|---|---|---|---|---|---|
| 点数 | 98 | 92 | 94 | 76 | 93 | 85 | 88 |

**3** 90，38，49，12，18，28，73 を 小さい順に ならべると、2番目は いくつ？

**4** 9人の 漢字テストの 点数を 調べました。中央値は いくつですか。

| 69 | 84 | 100 | 58 | 56 | 82 | 97 | 79 | 52 |
|---|---|---|---|---|---|---|---|---|

**5** 16個の データを 小さい順に ならべました。中央値は 何番目と 何番目の 平均ですか。

**7番目と8番目**　**9番目と10番目**　**8番目と9番目**

**6** 14人の なわとびの 回数を 表に しました。中央値は いくつですか。

| 回数 | 14 | 16 | 18 | 20 | 22 |
|---|---|---|---|---|---|
| 人数 | 4 | 3 | 2 | 2 | 3 |

**7** 6人の ボール投げの きょり（m）は、33，29，23，31，14，32。あいさんは 中央値を 29と 答えた。正しい 中央値は いくつ？

**8** 6人の ジャンプの 高さ（cm）を 小さい順に。中央値は いくつですか。

| 22 | 44 | 60 | 62 | 64 | 68 |
|---|---|---|---|---|---|

# 小6 データの整理と活用 特訓ドリル①-5

なまえ ＿＿＿＿＿＿＿＿

中央値（ならべかえ・ぐう数個）（8問）

学習日 ＿＿＿＿＿＿＿＿

・中央値を 考えます。数の答えは 単位も 書きましょう。
・選ぶ問は 正しいものに ○を つけましょう。

**1** 7人の なわとびの 回数を 調べました。中央値は いくつですか。

| 26 | 43 | 53 | 18 | 30 | 56 | 51 |
|---|---|---|---|---|---|---|

**2** 76，52，22，41，72 を 小さい順に ならべると、4番目は いくつ?

**3** 5人の ゲームの 得点を 表に しました。中央値は いくつですか。

| 名前 | A | B | C | D | E |
|---|---|---|---|---|---|
| 得点 | 53 | 85 | 33 | 61 | 39 |

**4** 5人の 1分間の 腹筋の 回数は、44，26，11，45，16 でした。中央値（回）は どれですか。

26　11　44

**5** 8人の リレーの タイム（秒）を 小さい順に。中央値は いくつですか。

| 10 | 11 | 18 | 20 | 26 | 28 | 29 | 32 |
|---|---|---|---|---|---|---|---|

**6** 6人の 集めた ごみの 重さ（kg）は、17，11，4，24，13，19。りくさんは 中央値を 13と 答えた。正しい 中央値は いくつ?

**7** 16人の ゲームの 得点を 表に しました。中央値は いくつですか。

| 得点 | 76 | 78 | 80 | 82 | 84 |
|---|---|---|---|---|---|
| 人数 | 2 | 1 | 5 | 4 | 4 |

**8** 6人の 1日の 練習時間（分）は、75，53，64，66，82，44 でした。中央値は いくつですか。

# 小6 データの整理と活用 特訓ドリル②-1

なまえ ＿＿＿＿＿＿＿＿

さいひん値と 階級の さかい目（8問）

学習日 ＿＿＿＿＿＿＿＿

**・さいひん値と 階級を 考えます。数の答えは 単位も 書きましょう。**
**・選ぶ問は 正しいものに ○を つけましょう。**

**1** 23人の 1日の ゲームの 時間を ドットプロットに した。さいひん値は いくつですか。

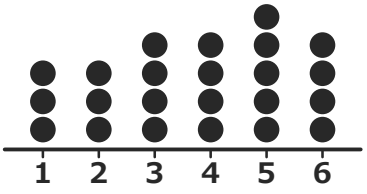


＿＿＿＿

**2** 9人の クイズの 正解数は、7，8，8，6，3，5，9，7，8 でした。さいひん値は どれですか。

**9** **8** **3**

**3** 20人の 1週間に 図書室へ 行った 回数を 表に しました。さいひん値は いくつですか。

| 回数 | 2 | 3 | 4 | 5 | 6 | 7 |
|---|---|---|---|---|---|---|
| 人数 | 4 | 5 | 3 | 4 | 3 | 1 |

＿＿＿＿

**4** 9人の 集めた ごみの 重さ（kg）は、3，8，3，2，1，2，1，3，5 でした。さいひん値は いくつですか。

＿＿＿＿

**5** 9人の 1分間の 腹筋の 回数を 調べました。30以上35未満の 人は 何人ですか。

| 33 | 37 | 30 | 35 | 37 | 39 | 32 | 28 | 35 |
|---|---|---|---|---|---|---|---|---|

＿＿＿＿

**6** 階級の はばを 10に します。80は どの 階級に はいりますか。

**80以上90未満** **70以上80未満** **90以上100未満**

**7** 10人の ジャンプの 高さ（cm）を 調べました。60未満の 人は 何人ですか。

| 64 | 63 | 55 | 59 | 60 | 51 | 58 | 65 | 54 | 62 |
|---|---|---|---|---|---|---|---|---|---|

＿＿＿＿

**8** 8人の とった 魚の 長さ（cm）は、8，8，8，6，10，7，12，15。
10以上15未満は 何人？

＿＿＿＿

# 小6 データの整理と活用 特訓ドリル②-2

さいひん値と 階級の さかい目（8問）

なまえ ＿＿＿＿＿＿＿＿

学習日 ＿＿＿＿＿＿＿＿

**・さいひん値と 階級を 考えます。数の答えは 単位も 書きましょう。**
**・選ぶ問は 正しいものに ○を つけましょう。**

**1** 9人の 1日の 練習時間（分）は、7，12，7，10，11，7，10，6，5 でした。さいひん値は いくつですか。

□

**2** 13人の 1か月に 読んだ 本の さつ数を 表に しました。さいひん値は いくつですか。

| さつ数 | 2 | 3 | 4 | 5 | 6 |
|---|---|---|---|---|---|
| 人数 | 2 | 4 | 3 | 3 | 1 |

□

**3** データ 7，7，7，6，4，2，5，6，9 の さいひん値は 9 である。正しければ ○、ちがえば ×。

○ ×

**4** 17人の 筆箱に 入れた えんぴつの 本数を ドットプロットに した。さいひん値は いくつですか。

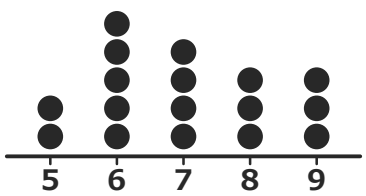


□

**5** 8人の なわとびの 回数は、40，50，37，54，49，35，54，58。
40以上50未満は 何人？

□

**6** 9人の リレーの タイム（秒）を 調べました。15未満の 人は 何人ですか。

| 20 | 11 | 17 | 10 | 8 | 20 | 18 | 15 | 20 |
|---|---|---|---|---|---|---|---|---|

□

**7** 30は、25以上30未満の 階級に はいる。正しければ ○、ちがえば ×。

○ ×

**8** 10人の リレーの タイム（秒）を 調べました。10以上15未満の 人は 何人ですか。

| 11 | 18 | 8 | 15 | 10 | 9 | 14 | 5 | 6 | 6 |
|---|---|---|---|---|---|---|---|---|---|

□

# 小6 データの整理と活用 特訓ドリル②-3

さいひん値と 階級の さかい目（8問）

なまえ ＿＿＿＿＿＿＿＿

学習日 ＿＿＿＿＿＿＿＿

・さいひん値と 階級を 考えます。数の答えは 単位も 書きましょう。
・選ぶ問は 正しいものに ○を つけましょう。

**1** 20人の 家の 人数を ドットプロットに した。さいひん値は いくつですか。

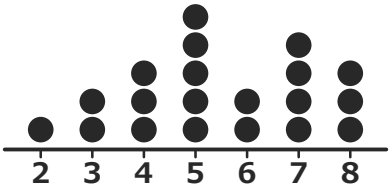


□

**2** データ 4，2，2，9，8，3，8，6，8 の さいひん値は 8 である。正しければ ○、ちがえば ×。

○ ×

**3** 21人の 1か月に 読んだ 本の さつ数を 表に しました。さいひん値は いくつですか。

| さつ数 | 1 | 2 | 3 | 4 | 5 | 6 | 7 |
|---|---|---|---|---|---|---|---|
| 人数 | 3 | 4 | 2 | 2 | 5 | 4 | 1 |

□

**4** 9人の クイズの 正解数は、8，8，5，6，2，6，2，6，3。はるさんは さいひん値を 8と 答えた。正しい さいひん値は？

□

**5** 10人の 1分間の 腹筋の 回数を 調べました。30以上35未満の 人は 何人ですか。

| 28 | 35 | 26 | 33 | 30 | 31 | 34 | 29 | 40 | 35 |
|---|---|---|---|---|---|---|---|---|---|

□

**6** 25は、25以上30未満の 階級に はいる。正しければ ○、ちがえば ×。

○ ×

**7** 10人の ジャンプの 高さ（cm）を 調べました。40未満の 人は 何人ですか。

| 30 | 41 | 44 | 38 | 36 | 43 | 38 | 32 | 42 | 40 |
|---|---|---|---|---|---|---|---|---|---|

□

**8** 8人の なわとびの 回数は、48，50，42，54，47，48，45，46。あいさんは 45以上50未満を 6人と した。正しい 人数は？

□

# 小6 データの整理と活用 特訓ドリル②-4

さいひん値と 階級の さかい目（8問）

なまえ ＿＿＿＿＿＿＿＿

学習日 ＿＿＿＿＿＿＿＿

**・さいひん値と 階級を 考えます。数の答えは 単位も 書きましょう。**
**・選ぶ問は 正しいものに ○を つけましょう。**

**1** 9人の クイズの 正解数は、7，6，5，5，2，3，5，6，4。そらさんは さいひん値を 7と 答えた。正しい さいひん値は？

**2** 18人の 筆箱に 入れた えんぴつの 本数を 表に しました。さいひん値は いくつですか。

| 本数 | 4 | 5 | 6 | 7 | 8 |
|---|---|---|---|---|---|
| 人数 | 3 | 5 | 4 | 2 | 4 |

**3** 好きな 学年の 番号を 聞いた ところ、5，2，1，5，2，6，2，2。いちばん 多く 出た 番号は？

**4** 19人の クイズの 正解数を ドットプロットに した。さいひん値は いくつですか。

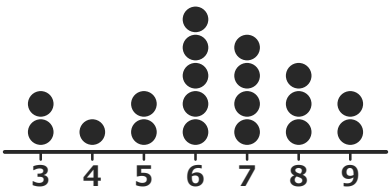


**5** 8人の ゲームの 得点は、47，40，42，36，50，55，50，57。みおさんは 40以上50未満を 5人と した。正しい 人数は？

**6** 9人の 1日の 練習時間（分）を 調べました。60未満の 人は 何人ですか。

| 69 | 64 | 50 | 60 | 61 | 58 | 41 | 45 | 60 |
|---|---|---|---|---|---|---|---|---|

**7** 階級を 5ずつに 分けます。70は どの 階級に はいりますか。

**65以上70未満**　**75以上80未満**　**70以上75未満**

**8** 10人の ジャンプの 高さ（cm）を 調べました。40以上45未満の 人は 何人ですか。

| 38 | 41 | 45 | 45 | 44 | 40 | 39 | 37 | 42 | 44 |
|---|---|---|---|---|---|---|---|---|---|

# 小6 データの整理と活用 特訓ドリル②-5

さいひん値と 階級の さかい目（8問）

なまえ ＿＿＿＿＿＿＿＿

学習日 ＿＿＿＿＿＿＿＿

・さいひん値と 階級を 考えます。数の答えは 単位も 書きましょう。
・選ぶ問は 正しいものに ○を つけましょう。

**1** 22人の クイズの 正解数を ドットプロットに した。さいひん値は いくつですか。

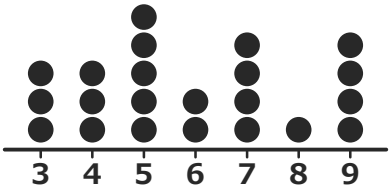


**2** さいころを 投げて 出た 目は、4，2，1，5，4，4，3，5。いちばん 多く 出た 目は いくつ？

**3** 21人の 家の 人数を 表に しました。さいひん値は いくつですか。

| 家族数 | 2 | 3 | 4 | 5 | 6 | 7 | 8 |
|---|---|---|---|---|---|---|---|
| 人数 | 4 | 3 | 2 | 1 | 5 | 4 | 2 |

**4** 9人の クイズの 正解数は、9，3，8，7，2，6，5，7，7 でした。さいひん値は どれですか。

9　7　3

**5** 9人の ゲームの 得点を 調べました。30以上40未満の 人は 何人ですか。

| 30 | 31 | 28 | 45 | 44 | 47 | 33 | 40 | 48 |
|---|---|---|---|---|---|---|---|---|

**6** 階級を 5ずつに 分けます。95は どの 階級に はいりますか。

90以上95未満　95以上100未満　100以上105未満

**7** 10人の 漢字テストの 点数を 調べました。70未満の 人は 何人ですか。

| 74 | 80 | 70 | 54 | 79 | 79 | 72 | 65 | 60 | 74 |
|---|---|---|---|---|---|---|---|---|---|

**8** 階級の はばを 10に します。130は どの 階級に はいりますか。

130以上140未満
120以上130未満
140以上150未満

# 小6 データの整理と活用 特訓ドリル③-1

柱状グラフと 代表値の 使い分け(8問)

なまえ ＿＿＿＿＿＿＿＿

学習日 ＿＿＿＿＿＿＿＿

・柱状グラフと 代表値を 考えます。数の答えは 単位も 書きましょう。
・選ぶ問は 正しいものに ○を つけましょう。

**1** 1日の 勉強時間の 柱状グラフです。
50以上の 人は 何人ですか。

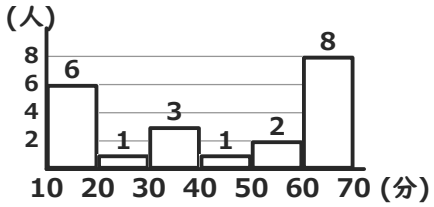


**2** ゲームの 得点。 50以上60未満
7人、60以上70未満 6人、70以上80未満
9人。 60以上の 人数(人)は どれ?

6　22　15

**3** なわとびの 回数の 柱状グラフです。
40未満の 人は 何人ですか。

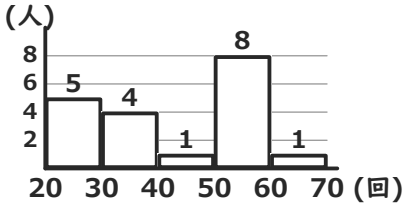


**4** 漢字テストの 点数。 50以上60未満
5人、60以上70未満 4人、70以上80未満
8人。 60以上は 何人?

**5** 6人の おやつの ねだん(円)です。1人だけ
とびぬけて 大きい 値を のぞいた 平均は
いくつ?

| 14 | 10 | 145 | 36 | 32 | 13 |
|---|---|---|---|---|---|

**6** 5人の 1日の 練習時間(分)は、19, 36,
155, 23, 26。とびぬけた 値の
えいきょうを 受けにくい 代表値は?

中央値　平均値　さいひん値

**7** 5人の 読書の 時間(分)です。 平均値は
中央値より いくつ 大きい?

| 31 | 175 | 24 | 23 | 22 |
|---|---|---|---|---|

**8** 5人の 1分間の 腹筋の 回数の 平均値は
36。このうち 1人の 120は とびぬけて
大きい。この 1人を のぞいた 4人の
平均値は?

# 小6 データの整理と活用 特訓ドリル③-2

柱状グラフと 代表値の 使い分け(8問)

なまえ ＿＿＿＿＿＿＿＿

学習日 ＿＿＿＿＿＿＿＿

・柱状グラフと 代表値を 考えます。数の答えは 単位も 書きましょう。
・選ぶ問は 正しいものに ○を つけましょう。

**1** 漢字テストの 点数。50以上60未満 3人、60以上70未満 4人、70以上80未満 9人。60以上は 何人?

**2** 1日の 勉強時間の 柱状グラフです。30未満の 人は 何人ですか。

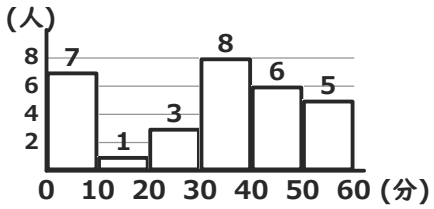


**3** 柱状グラフに 80以上の 柱も ある。『70以上』の 人数は、70以上80未満の 柱 1本の 人数だけ である。正しければ ○、ちがえば ×。

○ ×

**4** 漢字テストの 点数の 柱状グラフです。60以上80未満の 人は 何人ですか。

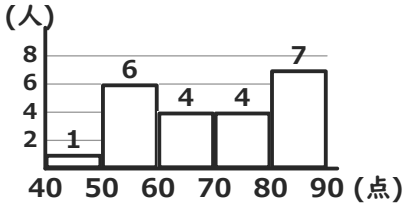


**5** 5人の おやつの ねだん(円)の 平均値は 18。このうち 1人の 50は とびぬけて 大きい。この 1人を のぞいた 4人の 平均値は?

**6** 7人の なわとびの 回数です。平均値は 中央値より いくつ 大きい?

| 29 | 200 | 17 | 20 | 18 | 31 | 35 |
|---|---|---|---|---|---|---|

**7** 売れた パンの ねだん(円)は、110, 140, 210, 80, 180, 140, 140, 110。いちばん 多く 売れた ねだんを 知りたい。どの 代表値?

平均値 さいひん値 中央値

**8** 5人の 1日の 練習時間(分)です。1人だけ とびぬけて 大きい 値を のぞいた 平均は いくつ?

| 16 | 190 | 31 | 27 | 22 |
|---|---|---|---|---|

# 小6 データの整理と活用 特訓ドリル③-3

柱状グラフと 代表値の 使い分け(8問)

なまえ ＿＿＿＿＿＿＿＿

学習日 ＿＿＿＿＿＿＿＿

・柱状グラフと 代表値を 考えます。数の答えは 単位も 書きましょう。
・選ぶ問は 正しいものに ○を つけましょう。

**1** 1日の 勉強時間の 柱状グラフです。
10以上40未満の 人は 何人ですか。

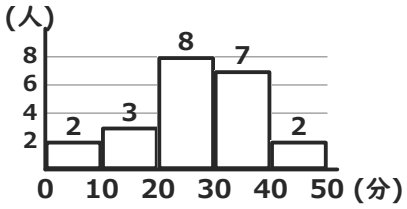


**2** 柱状グラフに 35以上の 柱も
ある。『30以上』の
人数は、30以上35未満の 柱 1本の 人数
だけ である。 正しければ ○、ちがえば ×。

○ ×

**3** なわとびの 回数の 柱状グラフです。
れんさんは 60以上を 7人と した。 正しい
人数は?

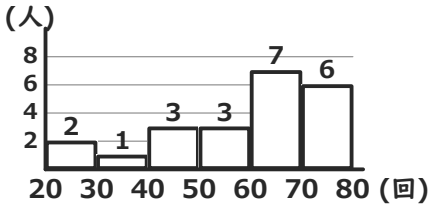


**4** 体重。45以上50未満 2人、50以上55未満
8人、55以上60未満 3人。 高い 方から
5番目の 人は どの 階級?

55以上60未満　45以上50未満
50以上55未満

**5** 5人の おやつの ねだん(円)です。1人だけ
とびぬけて 大きい 値を のぞいた 平均は
いくつ?

| 14 | 35 | 23 | 12 | 145 |
|---|---|---|---|---|

**6** 売れた パンの ねだん(円)は、180, 160,
90, 140, 150, 160, 160, 120。
いちばん 多く 売れた ねだんを 知りたい。
どの 代表値?

平均値　中央値　さいひん値

**7** 7人の 1日の 練習時間(分)です。
平均値は 中央値より いくつ 大きい?

| 34 | 29 | 26 | 22 | 36 | 260 | 27 |
|---|---|---|---|---|---|---|

**8** 1分間の 腹筋の 回数は 32, 37, 155,
24, 31。 中央値の ほうが ふつうを よく
表す。 正しければ ○、ちがえば ×。

○ ×

# 小6 データの整理と活用 特訓ドリル③-4

柱状グラフと 代表値の 使い分け(8問)

なまえ ＿＿＿＿＿＿＿＿

学習日 ＿＿＿＿＿＿＿＿

・柱状グラフと 代表値を 考えます。数の答えは 単位も 書きましょう。
・選ぶ問は 正しいものに ○を つけましょう。

**1** なわとびの 回数。30以上40未満 7人、40以上50未満 5人、50以上60未満 2人。高い 方から 4番目の 人は どの 階級?

**40以上50未満** **50以上60未満** **30以上40未満**

**2** 1日の 勉強時間の 柱状グラフです。れんさんは 50以上を 3人と した。正しい 人数は?

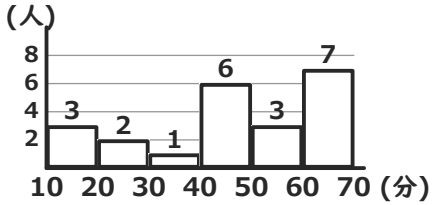


□

**3** 漢字テストの 点数。40以上50未満 5人、50以上60未満 8人、60以上70未満 4人。50以上の 人数(人)は どれ?

**8** **12** **17**

**4** なわとびの 回数の 柱状グラフです。50以上の 人は 何人ですか。

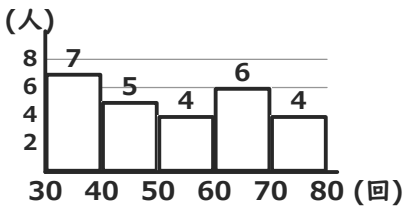


□

**5** おやつの ねだん(円)は 34, 105, 16, 12, 10。平均値の ほうが ふつうを よく表す。正しければ ○、ちがえば ×。

**○** **×**

**6** 5人の なわとびの 回数です。平均値は 中央値より いくつ 大きい?

| 31 | 24 | 225 | 23 | 22 |
|---|---|---|---|---|

□

**7** 4日間に 読んだ ページ数は、35, 25, 28, 36。全体を ならして 1日分に したい。どの 代表値?

**中央値** **平均値** **さいひん値**

**8** 5人の 1日の 練習時間(分)です。1人だけ とびぬけて 大きい 値を のぞいた 平均は いくつ?

| 25 | 10 | 140 | 21 | 24 |
|---|---|---|---|---|

□

# 小6 データの整理と活用 特訓ドリル③-5

柱状グラフと 代表値の 使い分け(8問)

なまえ ＿＿＿＿＿＿＿＿

学習日 ＿＿＿＿＿＿＿＿

・柱状グラフと 代表値を 考えます。数の答えは 単位も 書きましょう。
・選ぶ問は 正しいものに ○を つけましょう。

**1** 体重の 柱状グラフです。 55以上の 人は 何人ですか。

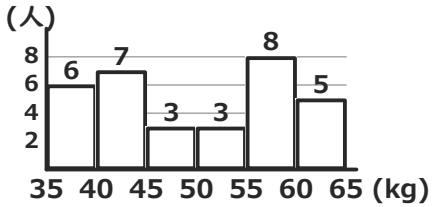


＿＿＿＿

**2** 体重。 45以上50未満 2人、50以上55未満 6人、55以上60未満 9人。 50以上の 人数(人)は どれ?

15　6　17

**3** 1日の 勉強時間の 柱状グラフです。 20未満の 人は 何人ですか。

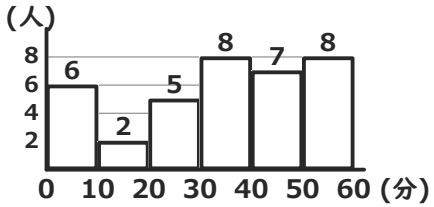


＿＿＿＿

**4** 柱状グラフに 55以上の 柱も ある。『50以上』の 人数は、50以上の 柱を ぜんぶ たした 人数 である。 正しければ ○、ちがえば ×。

○　×

**5** 5人の おやつの ねだん(円)です。1人だけ とびぬけて 大きい 値を のぞいた 平均は いくつ?

| 20 | 14 | 100 | 31 | 15 |
|---|---|---|---|---|

＿＿＿＿

**6** 4日間に 読んだ ページ数は、26, 21, 29, 20。 全体を ならして 1日分に したい。どの 代表値?

中央値　さいひん値　平均値

**7** 5人の おやつの ねだん(円)です。 平均値は 中央値より いくつ 大きい?

| 22 | 16 | 33 | 200 | 29 |
|---|---|---|---|---|

＿＿＿＿

**8** 5人の 読書の 時間(分)は、30, 205, 29, 20, 25。とびぬけた 値の えいきょうを 受けにくい 代表値は?

平均値　さいひん値　中央値

# 小6 データの整理と活用 総合プリント（その2）

なまえ ＿＿＿＿＿＿＿＿

つまずきを6つ、2問ずつ（100点）

学習日 ＿＿＿＿＿＿＿＿

・数の答えは 単位も 書きましょう。
・選ぶ問は 正しいものに ○を つけましょう。

**1** 14人の なわとびの 回数を 表に しました。中央値は いくつですか。

| 回数 | 15 | 17 | 19 | 21 | 23 |
|---|---|---|---|---|---|
| 人数 | 2 | 5 | 1 | 4 | 2 |

**2** 9人の クイズの 正解数は、4，3，8，6，6，5，5，5，7 でした。さいひん値は どれですか。

5　8　3

**3** 20人の 1週間に 図書室へ 行った 回数を 表に しました。さいひん値は いくつですか。

| 回数 | 2 | 3 | 4 | 5 | 6 | 7 |
|---|---|---|---|---|---|---|
| 人数 | 2 | 3 | 4 | 2 | 5 | 4 |

**4** 小さい順の データ 13，16，34，40，54，62 の 中央値は 34 である。正しければ ○、ちがえば ×。

○　×

**5** 9人の ゲームの 得点を 調べました。75未満の 人は 何人ですか。

| 70 | 72 | 65 | 75 | 73 | 75 | 74 | 77 | 68 |
|---|---|---|---|---|---|---|---|---|

**6** 7人の 1日の 練習時間（分）は、29，69，43，72，31，89，75 でした。中央値は いくつですか。

**7** 1日の 勉強時間の 柱状グラフです。40未満の 人は 何人ですか。

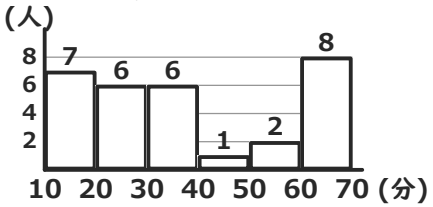


**8** 5人の おやつの ねだん（円）の 平均値は 50。このうち 1人の 150は とびぬけて 大きい。この 1人を のぞいた 4人の 平均値は？

**9** 5人の 1分間の 腹筋の 回数です。平均値は 中央値より いくつ 大きい？

| 13 | 35 | 16 | 36 | 125 |
|---|---|---|---|---|

**10** 柱状グラフに 60以上の 柱も ある。『55以上』の 人数は、55以上の 柱を ぜんぶ たした 人数 である。 正しければ ○、ちがえば ×。

○　×

**11** 7人の 1日の 練習時間（分）を 表に しました。 中央値は いくつですか。

| 名前 | A | B | C | D | E | F | G |
|---|---|---|---|---|---|---|---|
| 時間 | 79 | 66 | 78 | 68 | 11 | 60 | 53 |

**12** 8人の 漢字テストの 点数は、64，70，70，73，66，67，51，60。60以上70未満は 何人？

# 小6 データの整理と活用 総合プリント（その3）

なまえ ＿＿＿＿＿＿＿＿

つまずきを6つ、2問ずつ（100点）

学習日 ＿＿＿＿＿＿＿＿

・数の答えは 単位も 書きましょう。
・選ぶ問は 正しいものに ○を つけましょう。

**1** 17人の 1週間に 図書室へ 行った 回数を ドットプロットに した。さいひん値は いくつですか。

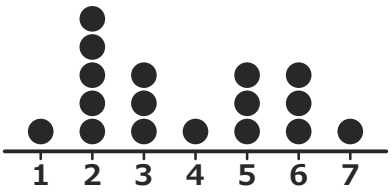


□

**2** ゲームの 得点。60以上70未満 9人、70以上80未満 3人、80以上90未満 8人。70以上は 何人？

□

**3** 10人の なわとびの 回数を 調べました。20未満の 人は 何人ですか。

| | | | | | | | | | |
|---|---|---|---|---|---|---|---|---|---|
| 20 | 20 | 22 | 19 | 18 | 13 | 15 | 23 | 13 | 14 |

□

**4** 120は、110以上120未満の 階級に はいる。正しければ ○、ちがえば ×。

○ ×

**5** 1日の 勉強時間の 柱状グラフです。30以上60未満の 人は 何人ですか。

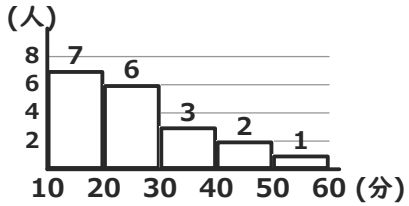


□

**6** 10人の ジャンプの 高さ（cm）は、13, 16, 17, 15, 13, 17, 11, 14, 16, 13 でした。さいひん値は いくつですか。

□

**7** 5人の おやつの ねだん（円）です。平均値は 中央値より いくつ 大きい？

| | | | | |
|---|---|---|---|---|
| 31 | 32 | 21 | 225 | 16 |

□

**8** 6人の 集めた ごみの 重さ（kg）を 小さい順に ならべると、2, 9, 11, 13, 17, 20。中央値（kg）は どれですか。

13 12 24

**9** 7人の 漢字テストの 点数を 調べました。中央値は いくつですか。

| | | | | | | |
|---|---|---|---|---|---|---|
| 66 | 89 | 95 | 65 | 92 | 51 | 99 |

□

**10** データ 77, 102, 116, 67, 211 の 中央値は 116 である。正しければ ○、ちがえば ×。

○ ×

**11** 14人の なわとびの 回数を 表に しました。中央値は いくつですか。

| 回数 | 12 | 14 | 16 | 18 | 20 |
|---|---|---|---|---|---|
| 人数 | 2 | 5 | 1 | 4 | 2 |

□

**12** 売れた パンの ねだん（円）は、170, 160, 200, 170, 170, 140, 80, 130。いちばん 多く 売れた ねだんを 知りたい。どの 代表値？

さいひん値 平均値 中央値

# 小6 データの整理と活用 総合プリント（その4）

なまえ ＿＿＿＿＿＿＿＿

つまずきを6つ、2問ずつ（100点）

学習日 ＿＿＿＿＿＿＿＿

・数の答えは 単位も 書きましょう。
・選ぶ問は 正しいものに ○を つけましょう。

**1** 10人の リレーの タイム（秒）を 調べました。15以上20未満の 人は 何人ですか。

| 10 | 15 | 18 | 12 | 21 | 20 | 12 | 18 | 22 | 24 |
|---|---|---|---|---|---|---|---|---|---|

**2** 5人の ジャンプの 高さ（cm）は、29，34，66，21，26。あいさんは 中央値を 66と 答えた。正しい 中央値は いくつ？

**3** なわとびの 回数の 柱状グラフです。あいさんは 40以上を 5人と した。正しい 人数は？

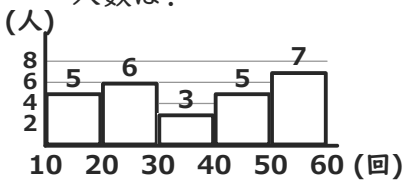


**4** 読書の 時間（分）は 28，18，15，23，125。中央値の ほうが ふつうを よく 表す。正しければ ○、ちがえば ×。

○ ×

**5** 6人の 読書の 時間（分）です。1人だけ とびぬけて 大きい 値を のぞいた 平均は いくつ？

| 32 | 23 | 30 | 21 | 190 | 14 |
|---|---|---|---|---|---|

**6** 漢字テストの 点数。60以上70未満 7人、70以上80未満 6人、80以上90未満 2人。高い 方から 7番目の 人は どの 階級？

80以上90未満　70以上80未満　60以上70未満

**7** 5人の リレーの タイム（秒）を 表に しました。中央値は いくつですか。

| 名前 | A | B | C | D | E |
|---|---|---|---|---|---|
| タイム | 15 | 18 | 31 | 29 | 9 |

**8** 8人の ゲームの 得点は、70，63，55，60，78，66，73，58。れんさんは 60以上70未満を 4人と した。正しい 人数は？

**9** 6人の 1分間の 腹筋の 回数を 小さい順に。中央値は いくつですか。

| 28 | 29 | 30 | 36 | 42 | 45 |
|---|---|---|---|---|---|

**10** 好きな 学年の 番号を 聞いた ところ、3，6，5，4，4，1，5，4。いちばん 多く 出た 番号は？

**11** 14人の 筆箱に 入れた えんぴつの 本数を 表に しました。さいひん値は いくつですか。

| 本数 | 4 | 5 | 6 | 7 | 8 |
|---|---|---|---|---|---|
| 人数 | 1 | 4 | 5 | 1 | 3 |

**12** 10個の データを 小さい順に ならべました。中央値は 何番目と 何番目の 平均ですか。

4番目と5番目　6番目と7番目　5番目と6番目

# 小6 データの整理と活用 総合プリント（その5）

なまえ ＿＿＿＿＿＿＿＿

つまずきを6つ、2問ずつ（100点）

学習日 ＿＿＿＿＿＿＿＿

・数の答えは 単位も 書きましょう。
・選ぶ問は 正しいものに ○を つけましょう。

**1** 1日の 勉強時間の 柱状グラフです。30以上の 人は 何人ですか。

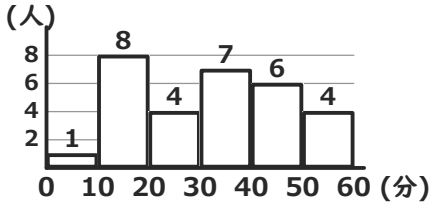


□

**2** 9人の クイズの 正解数は、9，4，6，6，8，6，6，6，2。ゆうさんは さいひん値を 9と 答えた。正しい さいひん値は？

□

**3** 7人の 1日の 練習時間（分）です。平均値は 中央値より いくつ 大きい？

| 20 | 27 | 19 | 16 | 35 | 9 | 105 |
|---|---|---|---|---|---|---|

□

**4** 6人の ボール投げの きょり（m）は、31，26，11，15，24，16。れんさんは 中央値を 16と 答えた。正しい 中央値は いくつ？

□

**5** 9人の なわとびの 回数を 調べました。中央値は いくつですか。

| 45 | 56 | 20 | 53 | 25 | 32 | 51 | 43 | 42 |
|---|---|---|---|---|---|---|---|---|

□

**6** 4，24，7，10，15 を 小さい順に ならべると、2番目は いくつ？

□

**7** 12人の ゲームの 得点を 表に しました。中央値は いくつですか。

| 得点 | 79 | 81 | 83 | 85 | 87 |
|---|---|---|---|---|---|
| 人数 | 1 | 5 | 1 | 4 | 1 |

□

**8** 4日間に 読んだ ページ数は、30，32，21，37。全体を ならして 1日分に したい。どの 代表値？

中央値　さいひん値　平均値

**9** 13人の 1週間に 図書室へ 行った 回数を ドットプロットに した。さいひん値は いくつですか。

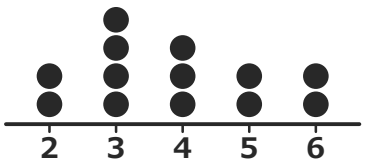


□

**10** 柱状グラフに 50以上の 柱も ある。『45以上』の 人数は、45以上の 柱を ぜんぶ たした 人数 である。正しければ ○、ちがえば ×。

○　×

**11** 10人の ジャンプの 高さ（cm）を 調べました。65未満の 人は 何人ですか。

| 69 | 57 | 65 | 64 | 65 | 64 | 60 | 55 | 61 | 58 |
|---|---|---|---|---|---|---|---|---|---|

□

**12** 階級を 5ずつに 分けます。85は どの 階級に はいりますか。

85以上90未満　80以上85未満　90以上95未満

# 小6 データの整理と活用 総合プリント（その1）【こたえ】

なまえ ＿＿＿＿＿＿＿＿

番号は問題面と同じ。つまずきごとに2問ずつ（2問とも○で合格）

学習日 ＿＿＿＿＿＿＿＿

## 1 中央値（小さい順に）

まちがえたら→「練習プリント①」

問1 中央値

答え 32回

小さい順 20，24，25，32，33，39，48
真ん中の 4番目 ＝ 32回
よくある×：20回（ならべかえず 元の 真ん中）

問2 中央値

答え 34

小さい順 21，24，34，35，45。真ん中は 34
35 は 元の 真ん中

## 2 中央値（ぐう数個）

まちがえたら→「練習プリント②」

問3 中央値

答え 27cm

真ん中は 3番目の 25 と 4番目の 29
(25＋29)÷2＝27cm
よくある×：25cm（片方だけ）

問12 中央値

答え 43点

小さい順 21，22，29，57，65，83
(29＋57)÷2＝43点
よくある×：57点（片方だけ）

## 3 さいひん値（いちばん多い）

まちがえたら→「練習プリント③」

問5 さいひん値

答え 3回

3回の ドットが いちばん 多い（5こ）
よくある×：5回（いちばん 大きい 値）

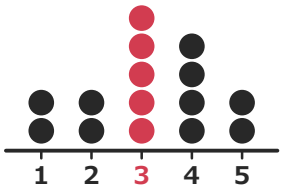


問10 さいひん値

答え ○

4 が 4回で いちばん 多い
いちばん 多く 出る 値

## 4 階級の さかい目

まちがえたら→「練習プリント④」

問7 階級の 人数

答え 3人

20は ふくむ・25は ふくまない
20以上25未満 ＝ 3人
よくある×：4人（25も 数えた）

問8 階級

答え 70以上80未満

70は 70以上80未満
60以上70未満 には 70は はいらない

## 5 柱状グラフを まとめて

まちがえたら→「練習プリント⑤」

問6 ○以上の 人数

答え 12

60以上の 柱を たす
7＋5＝12

問9 ○以上の 人数

答え 16人

40以上の 柱を ぜんぶ たす
8＋2＋6＝16人
よくある×：8人（柱1本分だけ）

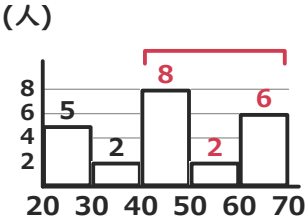


## 6 代表値の 使い分け

まちがえたら→「練習プリント⑥」

問4 代表値

答え 中央値

100 が とびぬけて 大きい
→ 中央値が えいきょうを 受けにくい

問11 のぞいた 平均

答え 24分

とびぬけた 215 を のぞく
(35＋33＋21＋13＋18)÷5＝24分
よくある×：全体の平均分（とびぬけた 値も ふくめた）

丸つけ：数の答えは 単位も 合って いれば ○。選ぶ問は 選んだものが 合って いれば ○。
2問とも ○で その つまずきは 合格。×が あれば 「まちがえたら」の 練習プリントへ。

いちごドリル プリント

# 小6 データの整理と活用 特訓ドリル①-1【こたえ】

なまえ ＿＿＿＿＿＿＿＿

番号は問題面と同じ（8問）

学習日 ＿＿＿＿＿＿＿＿

## 中央値（小さい順に）

→「練習プリント①」

問1　中央値

答え　29回

小さい順 10，15，17，26，29，37，41，42，46
真ん中の 5番目 ＝ 29回
よくある×：41回（ならべかえず 元の 真ん中）

問2　中央値

答え　13

小さい順 9，10，13，15，22。真ん中は 13
15 は 元の 真ん中

問3　中央値

答え　6kg

小さい順 3，4，6，8，11
真ん中の 3番目 ＝ 6kg
よくある×：3kg（ならべかえず 元の 真ん中）

問4　中央値

答え　39回

小さい順 13，16，39，57，58
真ん中の 3番目 ＝ 39回
よくある×：57回（ならべかえず 元の 真ん中）

## 中央値（ぐう数個）

→「練習プリント②」

問5　中央値

答え　27回

真ん中は 3番目の 25 と 4番目の 29
(25＋29)÷2＝27回
よくある×：25回（片方だけ）

問6　中央値

答え　25回

小さい順 21，23，24，26，35，43
(24＋26)÷2＝25回
よくある×：26回（片方だけ）

問7　中央値

答え　31回

20人 小さい順の 10番目は 30、11番目は 32
(30＋32)÷2＝31回
よくある×：30回（片方だけ）

問8　中央値

答え　×

真ん中の 2つは 18 と 34
平均 26 が 中央値（18だけ ではない）

丸つけ：数の答えは 単位も 合って いれば ○。選ぶ問は 選んだものが 合って いれば ○。
×が 多い つまずきは、列の 上の 練習プリント（データの整理と活用 ①〜⑥）で ときかたを 見直す。

いちごドリル プリント

# 小6 データの整理と活用 特訓ドリル①-2【こたえ】

なまえ ＿＿＿＿＿＿＿＿

番号は問題面と同じ（8問）

学習日 ＿＿＿＿＿＿＿＿

## 中央値（小さい順に）

→「練習プリント①」

問1　中央値

答え　70分

小さい順 14，67，70，76，85
真ん中の 3番目 ＝ 70分
よくある×：76分（ならべかえず 元の 真ん中）

問2　中央値

答え　16kg

小さい順 11，14，16，17，20
真ん中の 3番目 ＝ 16kg
よくある×：17kg（ならべかえず 元の 真ん中）

問3　中央値

答え　×

小さい順 61，67，88，98，99。中央値は 88
（元の 真ん中 ではない）

問4　中央値

答え　18m

小さい順 11，12，15，18，22，25，37
真ん中の 4番目 ＝ 18m
よくある×：25m（ならべかえず 元の 真ん中）

## 中央値（ぐう数個）

→「練習プリント②」

問5　中央値

答え　○

真ん中の 2つは 17 と 19
平均 18 が 中央値

問6　中央値

答え　39回

12人 小さい順の 6番目は 38、7番目は 40
(38＋40)÷2＝39回
よくある×：38回（片方だけ）

問7　中央値

答え　25

真ん中の 2つ 24 と 26 の 平均 25
26 は 片方だけ・50 は ÷2を わすれた 値

問8　中央値

答え　149円

真ん中は 4番目の 111 と 5番目の 187
(111＋187)÷2＝149円
よくある×：187円（片方だけ）

丸つけ：数の答えは 単位も 合って いれば ○。選ぶ問は 選んだものが 合って いれば ○。
×が 多い つまずきは、列の 上の 練習プリント（データの整理と活用 ①〜⑥）で ときかたを 見直す。

いちごドリル プリント

# 小6 データの整理と活用 特訓ドリル①-3【こたえ】

なまえ ＿＿＿＿＿＿＿＿

番号は問題面と同じ（8問）

学習日 ＿＿＿＿＿＿＿＿

## 中央値（小さい順に）

→「練習プリント①」

問1　中央値

答え　41cm

小さい順 21，23，40，41，46，59，69
真ん中の 4番目 ＝ 41cm
よくある×：23cm（ならべかえず 元の 真ん中）

問2　中央値

答え　○

小さい順 63，73，76，88，92。中央値は 76
（小さい順の 真ん中）

問3　中央値

答え　29cm

小さい順 18，20，29，30，32
真ん中の 3番目 ＝ 29cm
よくある×：30cm（ならべかえず 元の 真ん中）

問4　中央値

答え　22m

小さい順 8，12，22，30，32
真ん中は 22m
よくある×：30m（ならべかえず 元の 真ん中）

## 中央値（ぐう数個）

→「練習プリント②」

問5　中央値

答え　35分

真ん中は 3番目の 34 と 4番目の 36
(34＋36)÷2＝35分
よくある×：34分（片方だけ）

問6　中央値

答え　28

真ん中の 2つ 26 と 30 の 平均 28
30 は 片方だけ・56 は ÷2を わすれた 値

問7　中央値

答え　52回

16人 小さい順の 8番目は 51、9番目は 53
(51＋53)÷2＝52回
よくある×：51回（片方だけ）

問8　中央値の 位置

答え　10番目と11番目

20個の 真ん中は 10番目と 11番目
その 2つの 平均が 中央値

丸つけ：数の答えは 単位も 合って いれば ○。選ぶ問は 選んだものが 合って いれば ○。
×が 多い つまずきは、列の 上の 練習プリント（データの整理と活用 ①〜⑥）で ときかたを 見直す。

# 小6 データの整理と活用 特訓ドリル①-4【こたえ】

なまえ ＿＿＿＿＿＿＿＿

番号は問題面と同じ（8問）

学習日 ＿＿＿＿＿＿＿＿

## 中央値（小さい順に）

→「練習プリント①」

問1　中央値

答え　27秒

小さい順 18，23，27，31，32
真ん中は 27秒
よくある×：23秒（ならべかえず 元の 真ん中）

問2　中央値

答え　92点

小さい順 76，85，88，92，93，94，98
真ん中の 4番目 ＝ 92点
よくある×：76点（ならべかえず 元の 真ん中）

問3　小さい順の 値

答え　18

小さい順 12，18，28，38，49，73，90
2番目 ＝ 18
よくある×：38（元の ならびの まま）

問4　中央値

答え　79点

小さい順 52，56，58，69，79，82，84，97，100
真ん中の 5番目 ＝ 79点
よくある×：56点（ならべかえず 元の 真ん中）

## 中央値（ぐう数個）

→「練習プリント②」

問5　中央値の 位置

答え　8番目と9番目

16個の 真ん中は 8番目と 9番目
その 2つの 平均が 中央値

問6　中央値

答え　17回

14人 小さい順の 7番目は 16、8番目は 18
(16＋18)÷2＝17回
よくある×：16回（片方だけ）

問7　中央値

答え　30m

小さい順 14，23，29，31，32，33
(29＋31)÷2＝30m
よくある×：29m（片方だけ）

問8　中央値

答え　61cm

真ん中は 3番目の 60 と 4番目の 62
(60＋62)÷2＝61cm
よくある×：60cm（片方だけ）

丸つけ：数の答えは 単位も 合って いれば ○。選ぶ問は 選んだものが 合って いれば ○。
×が 多い つまずきは、列の 上の 練習プリント（データの整理と活用 ①〜⑥）で ときかたを 見直す。

いちごドリル プリント

# 小6 データの整理と活用 特訓ドリル①-5【こたえ】

なまえ ＿＿＿＿＿＿＿＿

番号は問題面と同じ（8問）

学習日 ＿＿＿＿＿＿＿＿

## 中央値（小さい順に）

→「練習プリント①」

問1　中央値

答え　43回

小さい順 18，26，30，43，51，53，56
真ん中の 4番目 ＝ 43回
よくある×：18回（ならべかえず 元の 真ん中）

問2　小さい順の 値

答え　72

小さい順 22，41，52，72，76
4番目 ＝ 72
よくある×：41（元の ならびの まま）

問3　中央値

答え　53点

小さい順 33，39，53，61，85
真ん中の 3番目 ＝ 53点
よくある×：33点（ならべかえず 元の 真ん中）

問4　中央値

答え　26

小さい順 11，16，26，44，45。真ん中は 26
11 は 元の 真ん中

## 中央値（ぐう数個）

→「練習プリント②」

問5　中央値

答え　23秒

真ん中は 4番目の 20 と 5番目の 26
(20＋26)÷2＝23秒
よくある×：26秒（片方だけ）

問6　中央値

答え　15kg

小さい順 4，11，13，17，19，24
(13＋17)÷2＝15kg
よくある×：13kg（片方だけ）

問7　中央値

答え　81点

16人 小さい順の 8番目は 80、9番目は 82
(80＋82)÷2＝81点
よくある×：80点（片方だけ）

問8　中央値

答え　65分

小さい順 44，53，64，66，75，82
(64＋66)÷2＝65分
よくある×：66分（片方だけ）

丸つけ：数の答えは 単位も 合って いれば ○。選ぶ問は 選んだものが 合って いれば ○。
×が 多い つまずきは、列の 上の 練習プリント（データの整理と活用 ①〜⑥）で ときかたを 見直す。

いちごドリル プリント

# 小6 データの整理と活用 特訓ドリル②-1【こたえ】

なまえ ＿＿＿＿＿＿＿＿

番号は問題面と同じ（8問）

学習日 ＿＿＿＿＿＿＿＿

## さいひん値（いちばん多い） →「練習プリント③」

問1 さいひん値

答え 5時間

5時間の ドットが いちばん 多い（5こ）

よくある×：6時間（いちばん 大きい 値）

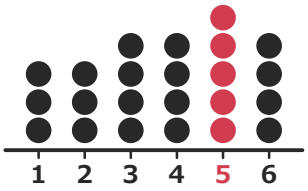


問2 さいひん値

答え 8

8 が 3回で いちばん 多い

9 は 最大・3 は 回数

問3 さいひん値

答え 3回

人数が いちばん 多い のは 3回（5人）

5 は 人数。答えは 3

よくある×：7回（いちばん 大きい 値）

問4 さいひん値

答え 3kg

3 が 3回 出て、いちばん 多い

いちばん 大きい 値は 8

よくある×：8（いちばん 大きい 値）

## 階級の さかい目 →「練習プリント④」

問5 階級の 人数

答え 3人

30は ふくむ・35は ふくまない

30以上35未満 ＝ 3人

よくある×：5人（35も 数えた）

問6 階級

答え 80以上90未満

80は 80以上90未満

70以上80未満 には 80は はいらない

問7 未満の 人数

答え 5人

60未満は 60を ふくまない

60より 小さい 値は 5こ

よくある×：6人（60も 数えた）

問8 階級の 人数

答え 2人

10は ふくむ・15は ふくまない

10以上15未満 ＝ 2人

よくある×：3人（15も 数えた）

丸つけ：数の答えは 単位も 合って いれば ○。選ぶ問は 選んだものが 合って いれば ○。

×が 多い つまずきは、列の 上の 練習プリント（データの整理と活用 ①～⑥）で ときかたを 見直す。

# 小6 データの整理と活用 特訓ドリル②-2【こたえ】

なまえ ＿＿＿＿＿＿＿＿

番号は問題面と同じ（8問）

学習日 ＿＿＿＿＿＿＿＿

## さいひん値（いちばん多い） →「練習プリント③」

問1 さいひん値

答え 7分

7 が 3回 出て、いちばん 多い
いちばん 大きい 値は 12
よくある×：12（いちばん 大きい 値）

問2 さいひん値

答え 3さつ

人数が いちばん 多い のは 3さつ（4人）
4 は 人数。答えは 3
よくある×：6さつ（いちばん 大きい 値）

問3 さいひん値

答え ×

7 が 3回で いちばん 多い
9は いちばん 大きい 値で 1回だけ

問4 さいひん値

答え 6本

6本の ドットが いちばん
多い（5こ）
よくある×：9本
（いちばん 大きい 値）

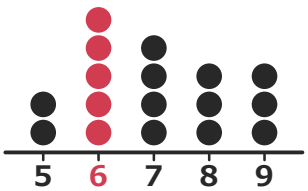


## 階級の さかい目 →「練習プリント④」

問5 階級の 人数

答え 2人

40は ふくむ・50は ふくまない
40以上50未満 ＝ 2人
よくある×：3人（50も 数えた）

問6 未満の 人数

答え 3人

15未満は 15を ふくまない
15より 小さい 値は 3こ
よくある×：4人（15も 数えた）

問7 階級

答え ×

30は 30以上35未満の 階級
（大きい方の はしは ふくまない）

問8 階級の 人数

答え 3人

10は ふくむ・15は ふくまない
10以上15未満 ＝ 3人
よくある×：4人（15も 数えた）

丸つけ：数の答えは 単位も 合って いれば ○。選ぶ問は 選んだものが 合って いれば ○。
×が 多い つまずきは、列の 上の 練習プリント（データの整理と活用 ①〜⑥）で ときかたを 見直す。

# 小6 データの整理と活用 特訓ドリル②-3【こたえ】

なまえ ＿＿＿＿＿＿＿＿

番号は問題面と同じ（8問）

学習日 ＿＿＿＿＿＿＿＿

## さいひん値（いちばん多い）

→「練習プリント③」

### 問1　さいひん値

答え　5人

5人の ドットが いちばん
多い（5こ）
よくある×：8人
（いちばん 大きい 値）

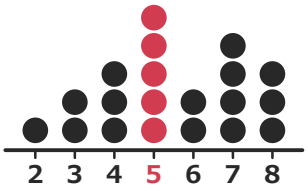


### 問2　さいひん値

答え　○

8 が 3回で いちばん 多い
いちばん 多く 出る 値

### 問3　さいひん値

答え　5さつ

人数が いちばん 多い のは 5さつ（5人）
5 は 人数。答えは 5
よくある×：7さつ（いちばん 大きい 値）

### 問4　さいひん値

答え　6問

6 が 3回で いちばん 多い
8 は いちばん 大きい 値
よくある×：8（いちばん 大きい 値）

## 階級の さかい目

→「練習プリント④」

### 問5　階級の 人数

答え　4人

30は ふくむ・35は ふくまない
30以上35未満 ＝ 4人
よくある×：6人（35も 数えた）

### 問6　階級

答え　○

25は 25以上30未満の 階級
（小さい方の はしは ふくむ）

### 問7　未満の 人数

答え　5人

40未満は 40を ふくまない
40より 小さい 値は 5こ
よくある×：6人（40も 数えた）

### 問8　階級の 人数

答え　5人

50は ふくまない
45以上50未満 ＝ 5人
よくある×：6人（50も 数えた）

丸つけ：数の答えは 単位も 合って いれば ○。選ぶ問は 選んだものが 合って いれば ○。
×が 多い つまずきは、列の 上の 練習プリント（データの整理と活用 ①〜⑥）で ときかたを 見直す。

いちごドリル プリント

# 小6 データの整理と活用 特訓ドリル②-4【こたえ】

なまえ ＿＿＿＿＿＿＿＿

番号は問題面と同じ（8問）

学習日 ＿＿＿＿＿＿＿＿

## さいひん値（いちばん多い）

→「練習プリント③」

問1　さいひん値

答え　5問

5 が 3回で いちばん 多い
7 は いちばん 大きい 値
よくある×：7（いちばん 大きい 値）

問2　さいひん値

答え　5本

人数が いちばん 多い のは 5本（5人）
5 は 人数。答えは 5
よくある×：8本（いちばん 大きい 値）

問3　いちばん 多い 値

答え　2

2 が 4回で いちばん 多い
いちばん 大きい 値は 6
よくある×：6（いちばん 大きい 値）

問4　さいひん値

答え　6問

6問の ドットが いちばん 多い（5こ）
よくある×：9問
（いちばん 大きい 値）




## 階級の さかい目

→「練習プリント④」

問5　階級の 人数

答え　3人

50は ふくまない
40以上50未満 ＝ 3人
よくある×：5人（50も 数えた）

問6　未満の 人数

答え　4人

60未満は 60を ふくまない
60より 小さい 値は 4こ
よくある×：6人（60も 数えた）

問7　階級

答え　70以上75未満

70は 70以上75未満
70は 上の はしでは ない

問8　階級の 人数

答え　5人

40は ふくむ・45は ふくまない
40以上45未満 ＝ 5人
よくある×：7人（45も 数えた）

丸つけ：数の答えは 単位も 合って いれば ○。選ぶ問は 選んだものが 合って いれば ○。
×が 多い つまずきは、列の 上の 練習プリント（データの整理と活用 ①～⑥）で ときかたを 見直す。

いちごドリル プリント

# 小6 データの整理と活用 特訓ドリル②-5【こたえ】

なまえ ＿＿＿＿＿＿＿＿

番号は問題面と同じ（8問）

学習日 ＿＿＿＿＿＿＿＿

## さいひん値（いちばん多い）

→「練習プリント③」

問1　さいひん値

答え　5問

5問の ドットが いちばん
多い（5こ）
よくある×：9問
（いちばん 大きい 値）

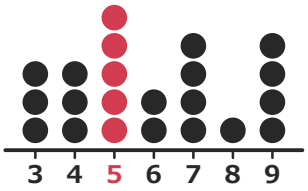


問2　いちばん 多い 値

答え　4

4 が 3回で いちばん 多い
いちばん 大きい 値は 5
よくある×：5（いちばん 大きい 値）

問3　さいひん値

答え　6人

家族数が 6人の 子が いちばん 多い（5人）
5 は 人数。答えは 6
よくある×：8人（いちばん 大きい 値）

問4　さいひん値

答え　7

7 が 3回で いちばん 多い
9 は 最大・3 は 回数

## 階級の さかい目

→「練習プリント④」

問5　階級の 人数

答え　3人

30は ふくむ・40は ふくまない
30以上40未満 ＝ 3人
よくある×：4人（40も 数えた）

問6　階級

答え　95以上100未満

95は 95以上100未満
95は 上の はしでは ない

問7　未満の 人数

答え　3人

70未満は 70を ふくまない
70より 小さい 値は 3こ
よくある×：4人（70も 数えた）

問8　階級

答え　130以上140未満

130は 130以上140未満
120以上130未満 には 130は はいらない

丸つけ：数の答えは 単位も 合って いれば ○。選ぶ問は 選んだものが 合って いれば ○。
×が 多い つまずきは、列の 上の 練習プリント（データの整理と活用 ①〜⑥）で ときかたを 見直す。

いちごドリル プリント

# 小6 データの整理と活用 特訓ドリル③-1【こたえ】

なまえ ＿＿＿＿＿＿＿＿

番号は問題面と同じ（8問）

学習日 ＿＿＿＿＿＿＿＿

## 柱状グラフを まとめて

→「練習プリント⑤」

問1 ○以上の 人数

答え 10人

50以上の 柱を ぜんぶ たす
2＋8＝10人
よくある×：2人（柱1本分だけ）

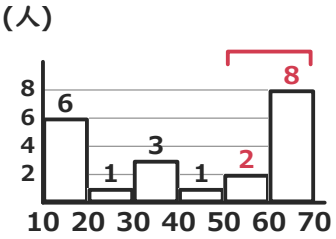


問2 ○以上の 人数

答え 15

60以上の 柱を たす
6＋9＝15

問3 未満の 人数

答え 9人

40未満の 柱を ぜんぶ たす
5＋4＝9人
よくある×：4人（柱1本分だけ）

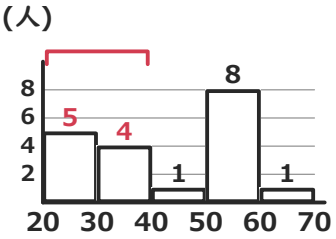


問4 ○以上の 人数

答え 12人

60以上の 柱を ぜんぶ たす
4＋8＝12人
よくある×：4人（柱1本分だけ）

## 代表値の 使い分け

→「練習プリント⑥」

問5 のぞいた 平均

答え 21円

とびぬけた 145 を のぞく
(14＋10＋36＋32＋13)÷5＝21円
よくある×：全体の平均円（とびぬけた 値も ふくめた）

問6 代表値

答え 中央値

155 が とびぬけて 大きい
→ 中央値が えいきょうを 受けにくい

問7 平均値と 中央値の さ

答え 31分

平均値 275÷5＝55
中央値 24。55－24＝31分
よくある×：55分（平均値だけ 答えた）

問8 のぞいた 平均

答え 15回

合計 36×5＝180・180－120＝60
60÷4＝15回
よくある×：36回（のぞく前の 平均）

丸つけ：数の答えは 単位も 合って いれば ○。選ぶ問は 選んだものが 合って いれば ○。
×が 多い つまずきは、列の 上の 練習プリント（データの整理と活用 ①～⑥）で ときかたを 見直す。

いちごドリル プリント

# 小6 データの整理と活用 特訓ドリル③-2【こたえ】

なまえ ＿＿＿＿＿＿＿＿

番号は問題面と同じ（8問）

学習日 ＿＿＿＿＿＿＿＿

## 柱状グラフを まとめて

→「練習プリント⑤」

問1 ○以上の 人数

答え 13人

60以上の 柱を ぜんぶ たす
4＋9＝13人
よくある×：4人（柱1本分だけ）

問2 未満の 人数

答え 11人

30未満の 柱を ぜんぶ たす
7＋1＋3＝11人
よくある×：3人（柱1本分だけ）

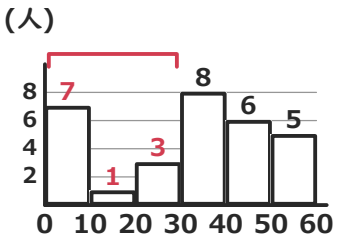


問3 ○以上の 人数

答え ×

『70以上』は 70以上の 柱 すべて
（柱1本分だけ ではない）

問4 2つ以上の 柱

答え 8人

60以上80未満の 柱を たす
4＋4＝8人
よくある×：4人（柱1本分だけ）

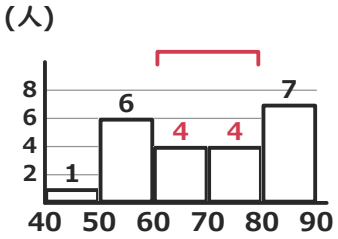


## 代表値の 使い分け

→「練習プリント⑥」

問5 のぞいた 平均

答え 10円

合計 18×5＝90・90－50＝40
40÷4＝10円
よくある×：18円（のぞく前の 平均）

問6 平均値と 中央値の さ

答え 21回

平均値 350÷7＝50
中央値 29。50－29＝21回
よくある×：50回（平均値だけ 答えた）

問7 代表値

答え さいひん値

いちばん 多く 出る 値を 知りたい
→ さいひん値

問8 のぞいた 平均

答え 24分

とびぬけた 190 を のぞく
(16＋31＋27＋22)÷4＝24分
よくある×：57.2分（とびぬけた 値も ふくめた）

丸つけ：数の答えは 単位も 合って いれば ○。選ぶ問は 選んだものが 合って いれば ○。
×が 多い つまずきは、列の 上の 練習プリント（データの整理と活用 ①～⑥）で ときかたを 見直す。

いちごドリル プリント

# 小6 データの整理と活用 特訓ドリル③-3【こたえ】

なまえ ＿＿＿＿＿＿＿＿

番号は問題面と同じ（8問）

学習日 ＿＿＿＿＿＿＿＿

## 柱状グラフを まとめて

→「練習プリント⑤」

問1 2つ以上の 柱

答え 18人

10以上40未満の 柱を たす

3＋8＋7＝18人

よくある×：3人（柱1本分だけ）

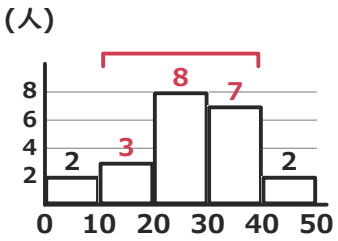


問2 ○以上の 人数

答え ×

『30以上』は 30以上の 柱 すべて（柱1本分だけ ではない）

問3 ○以上の 人数

答え 13人

60以上の 柱を ぜんぶ たす

7＋6＝13人

よくある×：7人（柱1本分だけ）

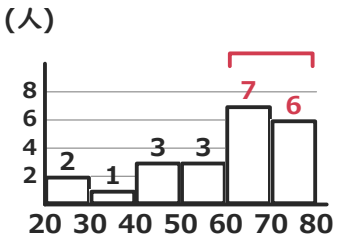


問4 N番目の 階級

答え 50以上55未満

高い 方から 数える：55以上60未満は 3人（1～3番目）

50以上55未満は 4～11番目

## 代表値の 使い分け

→「練習プリント⑥」

問5 のぞいた 平均

答え 21円

とびぬけた 145 を のぞく

(14＋35＋23＋12)÷4＝21円

よくある×：45.8円（とびぬけた 値も ふくめた）

問6 代表値

答え さいひん値

いちばん 多く 出る 値を 知りたい

→ さいひん値

問7 平均値と 中央値の さ

答え 33分

平均値 434÷7＝62

中央値 29。62－29＝33分

よくある×：62分（平均値だけ 答えた）

問8 代表値

答え ○

155 が とびぬけて 大きい ので 平均値は ひっぱられる

中央値の ほうが ふつうを 表す

丸つけ：数の答えは 単位も 合って いれば ○。選ぶ問は 選んだものが 合って いれば ○。

×が 多い つまずきは、列の 上の 練習プリント（データの整理と活用 ①～⑥）で ときかたを 見直す。

いちごドリル プリント

# 小6 データの整理と活用 特訓ドリル③-4【こたえ】

なまえ ＿＿＿＿＿＿＿＿

番号は問題面と同じ（8問）

学習日 ＿＿＿＿＿＿＿＿

## 柱状グラフを まとめて

→「練習プリント⑤」

問1 N番目の 階級

答え 40以上50未満

高い 方から 数える：50以上60未満は 2人（1〜2番目）
40以上50未満は 3〜7番目

問2 ○以上の 人数

答え 10人

50以上の 柱を ぜんぶ たす
3＋7＝10人
よくある×：3人（柱1本分だけ）

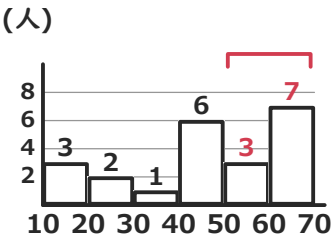


問3 ○以上の 人数

答え 12

50以上の 柱を たす
8＋4＝12

問4 ○以上の 人数

答え 14人

50以上の 柱を ぜんぶ たす
4＋6＋4＝14人
よくある×：4人（柱1本分だけ）

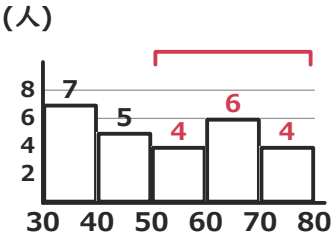


## 代表値の 使い分け

→「練習プリント⑥」

問5 代表値

答え ×

105 が とびぬけて 大きい ので 平均値は ひっぱられる
平均値は ふつうを 表さない（中央値が 合う）

問6 平均値と 中央値の さ

答え 41回

平均値 325÷5＝65
中央値 24。65－24＝41回
よくある×：65回（平均値だけ 答えた）

問7 代表値

答え 平均値

ならして 1日分に する
→ 平均値

問8 のぞいた 平均

答え 20分

とびぬけた 140 を のぞく
(25＋10＋21＋24)÷4＝20分
よくある×：44分（とびぬけた 値も ふくめた）

丸つけ：数の答えは 単位も 合って いれば ○。選ぶ問は 選んだものが 合って いれば ○。
×が 多い つまずきは、列の 上の 練習プリント（データの整理と活用 ①〜⑥）で ときかたを 見直す。

いちごドリル プリント

# 小6 データの整理と活用 特訓ドリル③-5【こたえ】

なまえ ＿＿＿＿＿＿＿＿

番号は問題面と同じ（8問）

学習日 ＿＿＿＿＿＿＿＿

## 柱状グラフを まとめて

→「練習プリント⑤」

問1 ○以上の 人数

答え 13人

55以上の 柱を ぜんぶ たす
8＋5＝13人
よくある×：8人（柱1本分だけ）

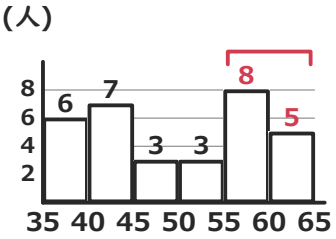


問2 ○以上の 人数

答え 15

50以上の 柱を たす
6＋9＝15

問3 未満の 人数

答え 8人

20未満の 柱を ぜんぶ たす
6＋2＝8人
よくある×：2人（柱1本分だけ）

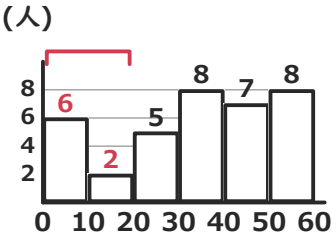


問4 ○以上の 人数

答え ○

『50以上』は 50以上の 柱 すべて（右の 柱まで ぜんぶ たす）

## 代表値の 使い分け

→「練習プリント⑥」

問5 のぞいた 平均

答え 20円

とびぬけた 100 を のぞく
(20＋14＋31＋15)÷4＝20円
よくある×：36円（とびぬけた 値も ふくめた）

問6 代表値

答え 平均値

ならして 1日分に する
→ 平均値

問7 平均値と 中央値の さ

答え 31円

平均値 300÷5＝60
中央値 29。60－29＝31円
よくある×：60円（平均値だけ 答えた）

問8 代表値

答え 中央値

205 が とびぬけて 大きい
→ 中央値が えいきょうを 受けにくい

丸つけ：数の答えは 単位も 合って いれば ○。選ぶ問は 選んだものが 合って いれば ○。
×が 多い つまずきは、列の 上の 練習プリント（データの整理と活用 ①～⑥）で ときかたを 見直す。

いちごドリル プリント

# 小6 データの整理と活用 総合プリント（その2）【こたえ】

なまえ ＿＿＿＿＿＿＿＿

番号は問題面と同じ。つまずきごとに2問ずつ（2問とも○で合格）

学習日 ＿＿＿＿＿＿＿＿

## 1 中央値（小さい順に）

まちがえたら→「練習プリント①」

問6 中央値

答え 69分

小さい順 29，31，43，69，72，75，89
真ん中の 4番目 ＝ 69分
よくある×：72分（ならべかえず 元の 真ん中）

問11 中央値

答え 66分

小さい順 11，53，60，66，68，78，79
真ん中の 4番目 ＝ 66分
よくある×：68分（ならべかえず 元の 真ん中）

## 2 中央値（ぐう数個）

まちがえたら→「練習プリント②」

問1 中央値

答え 18回

14人 小さい順の 7番目は 17、8番目は 19
(17＋19)÷2＝18回
よくある×：17回（片方だけ）

問4 中央値

答え ×

真ん中の 2つは 34 と 40
平均 37 が 中央値（34だけ ではない）

## 3 さいひん値（いちばん多い）

まちがえたら→「練習プリント③」

問2 さいひん値

答え 5

5 が 3回で いちばん 多い
8 は 最大・3 は 回数

問3 さいひん値

答え 6回

人数が いちばん 多い のは 6回（5人）
5 は 人数。答えは 6
よくある×：7回（いちばん 大きい 値）

## 4 階級の さかい目

まちがえたら→「練習プリント④」

問5 未満の 人数

答え 6人

75未満は 75を ふくまない
75より 小さい 値は 6こ
よくある×：8人（75も 数えた）

問12 階級の 人数

答え 4人

60は ふくむ・70は ふくまない
60以上70未満 ＝ 4人
よくある×：6人（70も 数えた）

## 5 柱状グラフを まとめて

まちがえたら→「練習プリント⑤」

問7 未満の 人数

答え 19人

40未満の 柱を ぜんぶ たす
7＋6＋6＝19人
よくある×：6人（柱1本分だけ）

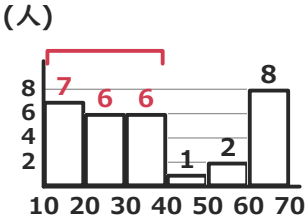


問10 ○以上の 人数

答え ○

『55以上』は 55以上の 柱 すべて
（右の 柱まで ぜんぶ たす）

## 6 代表値の 使い分け

まちがえたら→「練習プリント⑥」

問8 のぞいた 平均

答え 25円

合計 50×5＝250・250－150＝100
100÷4＝25円
よくある×：50円（のぞく前の 平均）

問9 平均値と 中央値の さ

答え 10回

平均値 225÷5＝45
中央値 35。45－35＝10回
よくある×：45回（平均値だけ 答えた）

丸つけ：数の答えは 単位も 合って いれば ○。選ぶ問は 選んだものが 合って いれば ○。
2問とも ○で その つまずきは 合格。×が あれば 「まちがえたら」の 練習プリントへ。

いちごドリル プリント

# 小6 データの整理と活用 総合プリント（その3）【こたえ】

なまえ ＿＿＿＿＿＿＿＿

番号は問題面と同じ。つまずきごとに2問ずつ（2問とも○で合格）

学習日 ＿＿＿＿＿＿＿＿

## 1 中央値（小さい順に）

まちがえたら→「練習プリント①」

問9 中央値

答え 89点

小さい順 51，65，66，89，92，95，99
真ん中の 4番目 ＝ 89点
よくある×：65点（ならべかえず 元の 真ん中）

問10 中央値

答え ×

小さい順 67，77，102，116，211。中央値は 102
（元の 真ん中 ではない）

## 2 中央値（ぐう数個）

まちがえたら→「練習プリント②」

問8 中央値

答え 12

真ん中の 2つ 11 と 13 の 平均 12
13 は 片方だけ・24 は ÷2を わすれた 値

問11 中央値

答え 15回

14人 小さい順の 7番目は 14、8番目は 16
(14＋16)÷2＝15回
よくある×：14回（片方だけ）

## 3 さいひん値（いちばん多い）

まちがえたら→「練習プリント③」

問1 さいひん値

答え 2回

2回の ドットが いちばん 多い（5こ）
よくある×：7回（いちばん 大きい 値）

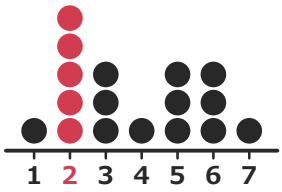


問6 さいひん値

答え 13cm

13 が 3回 出て、いちばん 多い
いちばん 大きい 値は 17
よくある×：17（いちばん 大きい 値）

## 4 階級の さかい目

まちがえたら→「練習プリント④」

問3 未満の 人数

答え 6人

20未満は 20を ふくまない
20より 小さい 値は 6こ
よくある×：8人（20も 数えた）

問4 階級

答え ×

120は 120以上130未満の 階級
（大きい方の はしは ふくまない）

## 5 柱状グラフを まとめて

まちがえたら→「練習プリント⑤」

問2 ○以上の 人数

答え 11人

70以上の 柱を ぜんぶ たす
3＋8＝11人
よくある×：3人（柱1本分だけ）

問5 2つ以上の 柱

答え 6人

30以上60未満の 柱を たす
3＋2＋1＝6人
よくある×：3人（柱1本分だけ）

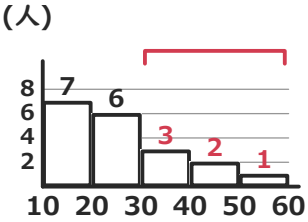


## 6 代表値の 使い分け

まちがえたら→「練習プリント⑥」

問7 平均値と 中央値の さ

答え 34円

平均値 325÷5＝65
中央値 31。65－31＝34円
よくある×：65円（平均値だけ 答えた）

問12 代表値

答え さいひん値

いちばん 多く 出る 値を 知りたい
→ さいひん値

丸つけ：数の答えは 単位も 合って いれば ○。選ぶ問は 選んだものが 合って いれば ○。
2問とも ○で その つまずきは 合格。×が あれば 「まちがえたら」の 練習プリントへ。

いちごドリル プリント

# 小6 データの整理と活用 総合プリント（その4）【こたえ】

なまえ ＿＿＿＿＿＿＿＿

番号は問題面と同じ。つまずきごとに2問ずつ（2問とも○で合格）

学習日 ＿＿＿＿＿＿＿＿

## 1 中央値（小さい順に）

まちがえたら→「練習プリント①」

問2 中央値

答え 29cm

小さい順 21，26，29，34，66
真ん中は 29cm
よくある×：66cm（ならべかえず 元の 真ん中）

問7 中央値

答え 18秒

小さい順 9，15，18，29，31
真ん中の 3番目 ＝ 18秒
よくある×：31秒（ならべかえず 元の 真ん中）

## 2 中央値（ぐう数個）

まちがえたら→「練習プリント②」

問9 中央値

答え 33回

真ん中は 3番目の 30 と 4番目の 36
(30＋36)÷2＝33回
よくある×：36回（片方だけ）

問12 中央値の 位置

答え 5番目と6番目

10個の 真ん中は 5番目と 6番目
その 2つの 平均が 中央値

## 3 さいひん値（いちばん多い）

まちがえたら→「練習プリント③」

問10 いちばん 多い 値

答え 4

4 が 3回で いちばん 多い
いちばん 大きい 値は 6
よくある×：6（いちばん 大きい 値）

問11 さいひん値

答え 6本

人数が いちばん 多い のは 6本（5人）
5 は 人数。答えは 6
よくある×：8本（いちばん 大きい 値）

## 4 階級の さかい目

まちがえたら→「練習プリント④」

問1 階級の 人数

答え 3人

15は ふくむ・20は ふくまない
15以上20未満 ＝ 3人
よくある×：4人（20も 数えた）

問8 階級の 人数

答え 3人

70は ふくまない
60以上70未満 ＝ 3人
よくある×：4人（70も 数えた）

## 5 柱状グラフを まとめて

まちがえたら→「練習プリント⑤」

問3 ○以上の 人数

答え 12人

40以上の 柱を ぜんぶ たす
5＋7＝12人
よくある×：5人（柱1本分だけ）

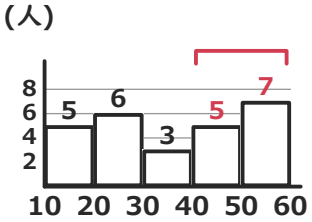


問6 N番目の 階級

答え 70以上80未満

高い 方から 数える：80以上90未満は 2人（1～2番目）
70以上80未満は 3～8番目

## 6 代表値の 使い分け

まちがえたら→「練習プリント⑥」

問4 代表値

答え ○

125 が とびぬけて 大きい ので 平均値は ひっぱられる
中央値の ほうが ふつうを 表す

問5 のぞいた 平均

答え 24分

とびぬけた 190 を のぞく
(32＋23＋30＋21＋14)÷5＝24分
よくある×：全体の平均分（とびぬけた 値も ふくめた）

丸つけ：数の答えは 単位も 合って いれば ○。選ぶ問は 選んだものが 合って いれば ○。
2問とも ○で その つまずきは 合格。×が あれば 「まちがえたら」の 練習プリントへ。

いちごドリル プリント

# 小6 データの整理と活用 総合プリント（その5）【こたえ】

なまえ ＿＿＿＿＿＿＿＿

番号は問題面と同じ。つまずきごとに2問ずつ（2問とも○で合格）

学習日 ＿＿＿＿＿＿＿＿

## 1 中央値（小さい順に）

まちがえたら→「練習プリント①」

問5 中央値

答え 43回

小さい順 20，25，32，42，43，45，51，53，56
真ん中の 5番目 ＝ 43回
よくある×：25回（ならべかえず 元の 真ん中）

問6 小さい順の 値

答え 7

小さい順 4，7，10，15，24
2番目 ＝ 7
よくある×：24（元の ならびの まま）

## 2 中央値（ぐう数個）

まちがえたら→「練習プリント②」

問4 中央値

答え 20m

小さい順 11，15，16，24，26，31
(16＋24)÷2＝20m
よくある×：16m（片方だけ）

問7 中央値

答え 82点

12人 小さい順の 6番目は 81、7番目は 83
(81＋83)÷2＝82点
よくある×：81点（片方だけ）

## 3 さいひん値（いちばん多い）

まちがえたら→「練習プリント③」

問2 さいひん値

答え 6問

6 が 5回で いちばん 多い
9 は いちばん 大きい 値
よくある×：9（いちばん 大きい 値）

問9 さいひん値

答え 3回

3回の ドットが いちばん 多い（4こ）
よくある×：6回（いちばん 大きい 値）

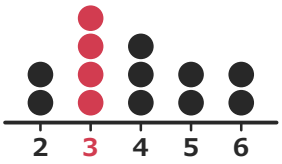


## 4 階級の さかい目

まちがえたら→「練習プリント④」

問11 未満の 人数

答え 7人

65未満は 65を ふくまない
65より 小さい 値は 7こ
よくある×：9人（65も 数えた）

問12 階級

答え 85以上90未満

85は 85以上90未満
85は 上の はしでは ない

## 5 柱状グラフを まとめて

まちがえたら→「練習プリント⑤」

問1 ○以上の 人数

答え 17人

30以上の 柱を ぜんぶ たす
7＋6＋4＝17人
よくある×：7人（柱1本分だけ）

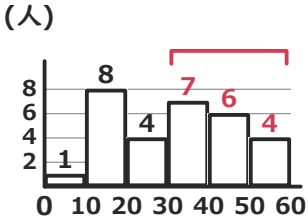


問10 ○以上の 人数

答え ○

『45以上』は 45以上の 柱 すべて
（右の 柱まで ぜんぶ たす）

## 6 代表値の 使い分け

まちがえたら→「練習プリント⑥」

問3 平均値と 中央値の さ

答え 13分

平均値 231÷7＝33
中央値 20。33－20＝13分
よくある×：33分（平均値だけ 答えた）

問8 代表値

答え 平均値

ならして 1日分に する
→ 平均値

丸つけ：数の答えは 単位も 合って いれば ○。選ぶ問は 選んだものが 合って いれば ○。
2問とも ○で その つまずきは 合格。×が あれば 「まちがえたら」の 練習プリントへ。

いちごドリル プリント