小6 データの整理と活用 総合プリント（その1）

なまえ ＿＿＿＿＿＿＿＿

つまずきを6つ、2問ずつ（100点）

学習日 ＿＿＿＿＿＿＿＿

・数の答えは 単位も 書きましょう。
・選ぶ問は 正しいものに ○を つけましょう。

1 7人の なわとびの 回数を 調べました。中央値は いくつですか。

24	32	48	20	33	39	25

□

2 5人の ジャンプの 高さ（cm）は、34，21，35，45，24 でした。中央値（cm）は どれですか。

35　34　24

3 6人の とった 魚の 長さ（cm）を 小さい順に。中央値は いくつですか。

19	20	25	29	32	34

□

4 5人の 1日の 練習時間（分）は、9，25，100，21，13。とびぬけた 値の えいきょうを 受けにくい 代表値は？

平均値　さいひん値　中央値

5 15人の 1週間に 図書室へ 行った 回数を ドットプロットに した。さいひん値は いくつですか。

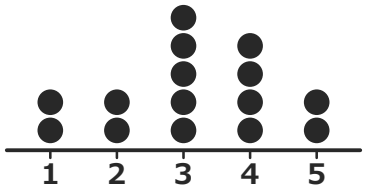

□

6 なわとびの 回数。50以上60未満 2人、60以上70未満 7人、70以上80未満 5人。60以上の 人数（人）は どれ？

12　7　14

7 9人の 1分間の 腹筋の 回数を 調べました。20以上25未満の 人は 何人ですか。

27	20	18	18	30	23	25	24	28

□

8 階級の はばを 10に します。70は どの 階級に はいりますか。

60以上70未満　80以上90未満　70以上80未満

9 なわとびの 回数の 柱状グラフです。40以上の 人は 何人ですか。

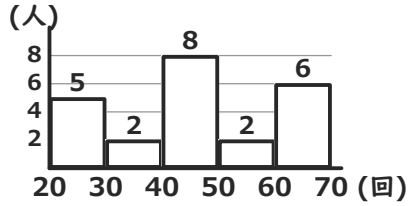

□

10 データ 3，4，4，4，4，7，6，3，6 の さいひん値は 4 である。正しければ ○、ちがえば ×。

○　×

11 6人の 読書の 時間（分）です。1人だけ とびぬけて 大きい 値を のぞいた 平均は いくつ？

35	33	21	215	13	18

□

12 6人の ゲームの 得点は、83，65，29，21，22，57 でした。中央値は いくつですか。

□

小6 データの整理と活用 特訓ドリル①-1

なまえ ＿＿＿＿＿＿＿＿

中央値（ならべかえ・ぐう数個）（8問）

学習日 ＿＿＿＿＿＿＿＿

・中央値を 考えます。数の答えは 単位も 書きましょう。
・選ぶ問は 正しいものに ○を つけましょう。

1 9人の 1分間の 腹筋の 回数を 調べました。 中央値は いくつですか。

37	10	29	15	41	17	26	42	46

2 5人の 集めた ごみの 重さ（kg）は、22，10，15，13，9 でした。中央値（kg）は どれですか。

15　13　10

3 5人の 集めた ごみの 重さ（kg）を 表に しました。 中央値は いくつですか。

名前	A	B	C	D	E
重さ	6	11	3	4	8

4 5人の なわとびの 回数は、39，58，57，13，16 でした。中央値は いくつですか。

5 6人の なわとびの 回数を 小さい順に。 中央値は いくつですか。

12	24	25	29	42	47

6 6人の 1分間の 腹筋の 回数は、24，35，43，26，23，21 でした。中央値は いくつですか。

7 20人の 1分間の 腹筋の 回数を 表に しました。 中央値は いくつですか。

回数	26	28	30	32	34
人数	5	3	2	5	5

8 小さい順の データ 15，16，18，34，38，45 の 中央値は 18 である。 正しければ ○、ちがえば ×。

○　×

小6 データの整理と活用 特訓ドリル①-2

中央値（ならべかえ・ぐう数個）（8問）

なまえ ＿＿＿＿＿＿＿＿

学習日 ＿＿＿＿＿＿＿＿

・中央値を 考えます。数の答えは 単位も 書きましょう。
・選ぶ問は 正しいものに ○を つけましょう。

1 5人の 1日の 練習時間（分）は、70，67，76，85，14 でした。中央値は いくつですか。

□

2 5人の 集めた ごみの 重さ（kg）を 表に しました。中央値は いくつですか。

名前	A	B	C	D	E
重さ	20	16	17	14	11

□

3 データ 99，98，61，88，67 の 中央値は 61 である。正しければ ○、ちがえば ×。

○ ×

4 7人の ボール投げの きょり（m）を 調べました。中央値は いくつですか。

11	12	37	25	15	22	18

□

5 小さい順の データ 10，12，17，19，21，23 の 中央値は 18 である。正しければ ○、ちがえば ×。

○ ×

6 12人の 1分間の 腹筋の 回数を 表に しました。中央値は いくつですか。

回数	34	36	38	40	42
人数	3	2	1	4	2

□

7 6人の リレーの タイム（秒）を 小さい順に ならべると、19，23，24，26，27，32。中央値（秒）は どれですか。

26 25 50

8 8人の おやつの ねだん（円）を 小さい順に。中央値は いくつですか。

92	101	105	111	187	260	269	282

□

小6 データの整理と活用 特訓ドリル①-3

なまえ ＿＿＿＿＿＿＿＿

中央値（ならべかえ・ぐう数個）（8問）

学習日 ＿＿＿＿＿＿＿＿

・中央値を 考えます。数の答えは 単位も 書きましょう。
・選ぶ問は 正しいものに ○を つけましょう。

1 7人の ジャンプの 高さ（cm）を 調べました。 中央値は いくつですか。

69	40	59	23	41	46	21

2 データ 73，88，92，76，63 の 中央値は 76 である。 正しければ ○、ちがえば ×。

○ ×

3 5人の とった 魚の 長さ（cm）を 表に しました。 中央値は いくつですか。

名前	A	B	C	D	E
長さ	18	20	30	29	32

4 5人の ボール投げの きょり（m）は、8，32，30，22，12。そらさんは 中央値を 30と 答えた。 正しい 中央値は いくつ？

5 6人の 1日の 練習時間（分）を 小さい順に。 中央値は いくつですか。

30	31	34	36	45	78

6 6人の ボール投げの きょり（m）を 小さい順に ならべると、22，23，26，30，37，39。 中央値（m）は どれですか。

30 56 28

7 16人の なわとびの 回数を 表に しました。 中央値は いくつですか。

回数	49	51	53	55	57
人数	4	4	2	3	3

8 20個の データを 小さい順に ならべました。 中央値は 何番目と 何番目の 平均ですか。

10番目と11番目　9番目と10番目　11番目と12番目

小6 データの整理と活用 特訓ドリル①-4

なまえ ＿＿＿＿＿＿＿＿

中央値（ならべかえ・ぐう数個）（8問）

学習日 ＿＿＿＿＿＿＿＿

・中央値を 考えます。数の答えは 単位も 書きましょう。
・選ぶ問は 正しいものに ○を つけましょう。

1 5人の リレーの タイム（秒）は、32，31，23，18，27。はるさんは 中央値を 23と 答えた。正しい 中央値は いくつ？

2 7人の 漢字テストの 点数を 表に しました。中央値は いくつですか。

名前	A	B	C	D	E	F	G
点数	98	92	94	76	93	85	88

3 90，38，49，12，18，28，73 を 小さい順に ならべると、2番目は いくつ？

4 9人の 漢字テストの 点数を 調べました。中央値は いくつですか。

69	84	100	58	56	82	97	79	52

5 16個の データを 小さい順に ならべました。中央値は 何番目と 何番目の 平均ですか。

7番目と8番目　**9番目と10番目**　**8番目と9番目**

6 14人の なわとびの 回数を 表に しました。中央値は いくつですか。

回数	14	16	18	20	22
人数	4	3	2	2	3

7 6人の ボール投げの きょり（m）は、33，29，23，31，14，32。あいさんは 中央値を 29と 答えた。正しい 中央値は いくつ？

8 6人の ジャンプの 高さ（cm）を 小さい順に。中央値は いくつですか。

22	44	60	62	64	68

小6 データの整理と活用 特訓ドリル①-5

なまえ ＿＿＿＿＿＿＿＿

中央値（ならべかえ・ぐう数個）（8問）

学習日 ＿＿＿＿＿＿＿＿

・中央値を 考えます。数の答えは 単位も 書きましょう。
・選ぶ問は 正しいものに ○を つけましょう。

1 7人の なわとびの 回数を 調べました。中央値は いくつですか。

26	43	53	18	30	56	51

2 76，52，22，41，72 を 小さい順に ならべると、4番目は いくつ?

3 5人の ゲームの 得点を 表に しました。中央値は いくつですか。

名前	A	B	C	D	E
得点	53	85	33	61	39

4 5人の 1分間の 腹筋の 回数は、44，26，11，45，16 でした。中央値（回）は どれですか。

26　11　44

5 8人の リレーの タイム（秒）を 小さい順に。中央値は いくつですか。

10	11	18	20	26	28	29	32

6 6人の 集めた ごみの 重さ（kg）は、17，11，4，24，13，19。りくさんは 中央値を 13と 答えた。正しい 中央値は いくつ?

7 16人の ゲームの 得点を 表に しました。中央値は いくつですか。

得点	76	78	80	82	84
人数	2	1	5	4	4

8 6人の 1日の 練習時間（分）は、75，53，64，66，82，44 でした。中央値は いくつですか。

小6 データの整理と活用 特訓ドリル②-1

なまえ ＿＿＿＿＿＿＿＿

さいひん値と 階級の さかい目（8問）

学習日 ＿＿＿＿＿＿＿＿

・さいひん値と 階級を 考えます。数の答えは 単位も 書きましょう。
・選ぶ問は 正しいものに ○を つけましょう。

1 23人の 1日の ゲームの 時間を ドットプロットに した。さいひん値は いくつですか。

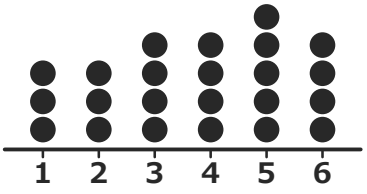

＿＿＿＿

2 9人の クイズの 正解数は、7，8，8，6，3，5，9，7，8 でした。さいひん値は どれですか。

9 **8** **3**

3 20人の 1週間に 図書室へ 行った 回数を 表に しました。さいひん値は いくつですか。

回数	2	3	4	5	6	7
人数	4	5	3	4	3	1

＿＿＿＿

4 9人の 集めた ごみの 重さ（kg）は、3，8，3，2，1，2，1，3，5 でした。さいひん値は いくつですか。

＿＿＿＿

5 9人の 1分間の 腹筋の 回数を 調べました。30以上35未満の 人は 何人ですか。

33	37	30	35	37	39	32	28	35

＿＿＿＿

6 階級の はばを 10に します。80は どの 階級に はいりますか。

80以上90未満 **70以上80未満** **90以上100未満**

7 10人の ジャンプの 高さ（cm）を 調べました。60未満の 人は 何人ですか。

64	63	55	59	60	51	58	65	54	62

＿＿＿＿

8 8人の とった 魚の 長さ（cm）は、8，8，8，6，10，7，12，15。
10以上15未満は 何人？

＿＿＿＿

小6 データの整理と活用 特訓ドリル②-2

さいひん値と 階級の さかい目（8問）

なまえ ＿＿＿＿＿＿＿＿

学習日 ＿＿＿＿＿＿＿＿

・さいひん値と 階級を 考えます。数の答えは 単位も 書きましょう。
・選ぶ問は 正しいものに ○を つけましょう。

1 9人の 1日の 練習時間（分）は、7，12，7，10，11，7，10，6，5 でした。さいひん値は いくつですか。

□

2 13人の 1か月に 読んだ 本の さつ数を 表に しました。さいひん値は いくつですか。

さつ数	2	3	4	5	6
人数	2	4	3	3	1

□

3 データ 7，7，7，6，4，2，5，6，9 の さいひん値は 9 である。正しければ ○、ちがえば ×。

○ ×

4 17人の 筆箱に 入れた えんぴつの 本数を ドットプロットに した。さいひん値は いくつですか。

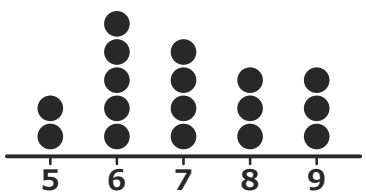

□

5 8人の なわとびの 回数は、40，50，37，54，49，35，54，58。
40以上50未満は 何人？

□

6 9人の リレーの タイム（秒）を 調べました。15未満の 人は 何人ですか。

20	11	17	10	8	20	18	15	20

□

7 30は、25以上30未満の 階級に はいる。正しければ ○、ちがえば ×。

○ ×

8 10人の リレーの タイム（秒）を 調べました。10以上15未満の 人は 何人ですか。

11	18	8	15	10	9	14	5	6	6

□

小6 データの整理と活用 特訓ドリル②-3

さいひん値と 階級の さかい目（8問）

なまえ ＿＿＿＿＿＿＿＿

学習日 ＿＿＿＿＿＿＿＿

・さいひん値と 階級を 考えます。数の答えは 単位も 書きましょう。
・選ぶ問は 正しいものに ○を つけましょう。

1 20人の 家の 人数を ドットプロットに した。さいひん値は いくつですか。

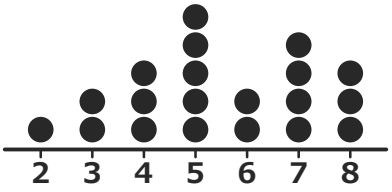

□

2 データ 4，2，2，9，8，3，8，6，8 の さいひん値は 8 である。正しければ ○、ちがえば ×。

○ ×

3 21人の 1か月に 読んだ 本の さつ数を 表に しました。さいひん値は いくつですか。

さつ数	1	2	3	4	5	6	7
人数	3	4	2	2	5	4	1

□

4 9人の クイズの 正解数は、8，8，5，6，2，6，2，6，3。はるさんは さいひん値を 8と 答えた。正しい さいひん値は？

□

5 10人の 1分間の 腹筋の 回数を 調べました。30以上35未満の 人は 何人ですか。

28	35	26	33	30	31	34	29	40	35

□

6 25は、25以上30未満の 階級に はいる。正しければ ○、ちがえば ×。

○ ×

7 10人の ジャンプの 高さ（cm）を 調べました。40未満の 人は 何人ですか。

30	41	44	38	36	43	38	32	42	40

□

8 8人の なわとびの 回数は、48，50，42，54，47，48，45，46。あいさんは 45以上50未満を 6人と した。正しい 人数は？

□

小6 データの整理と活用 特訓ドリル②-4

さいひん値と 階級の さかい目（8問）

なまえ ＿＿＿＿＿＿＿＿

学習日 ＿＿＿＿＿＿＿＿

・さいひん値と 階級を 考えます。数の答えは 単位も 書きましょう。
・選ぶ問は 正しいものに ○を つけましょう。

1 9人の クイズの 正解数は、7，6，5，5，2，3，5，6，4。そらさんは さいひん値を 7と 答えた。正しい さいひん値は？

2 18人の 筆箱に 入れた えんぴつの 本数を 表に しました。さいひん値は いくつですか。

本数	4	5	6	7	8
人数	3	5	4	2	4

3 好きな 学年の 番号を 聞いた ところ、5，2，1，5，2，6，2，2。いちばん 多く 出た 番号は？

4 19人の クイズの 正解数を ドットプロットに した。さいひん値は いくつですか。

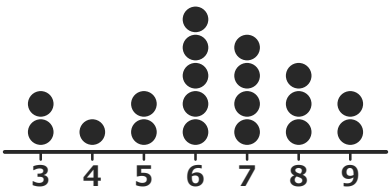

5 8人の ゲームの 得点は、47，40，42，36，50，55，50，57。みおさんは 40以上50未満を 5人と した。正しい 人数は？

6 9人の 1日の 練習時間（分）を 調べました。60未満の 人は 何人ですか。

69	64	50	60	61	58	41	45	60

7 階級を 5ずつに 分けます。70は どの 階級に はいりますか。

65以上70未満　**75以上80未満**　**70以上75未満**

8 10人の ジャンプの 高さ（cm）を 調べました。40以上45未満の 人は 何人ですか。

38	41	45	45	44	40	39	37	42	44

小6 データの整理と活用 特訓ドリル②-5

さいひん値と 階級の さかい目（8問）

なまえ ＿＿＿＿＿＿＿＿

学習日 ＿＿＿＿＿＿＿＿

・さいひん値と 階級を 考えます。数の答えは 単位も 書きましょう。
・選ぶ問は 正しいものに ○を つけましょう。

1 22人の クイズの 正解数を ドットプロットに した。さいひん値は いくつですか。

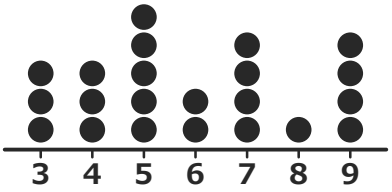

2 さいころを 投げて 出た 目は、4，2，1，5，4，4，3，5。いちばん 多く 出た 目は いくつ？

3 21人の 家の 人数を 表に しました。さいひん値は いくつですか。

家族数	2	3	4	5	6	7	8
人数	4	3	2	1	5	4	2

4 9人の クイズの 正解数は、9，3，8，7，2，6，5，7，7 でした。さいひん値は どれですか。

9　7　3

5 9人の ゲームの 得点を 調べました。30以上40未満の 人は 何人ですか。

30	31	28	45	44	47	33	40	48

6 階級を 5ずつに 分けます。95は どの 階級に はいりますか。

90以上95未満　95以上100未満　100以上105未満

7 10人の 漢字テストの 点数を 調べました。70未満の 人は 何人ですか。

74	80	70	54	79	79	72	65	60	74

8 階級の はばを 10に します。130は どの 階級に はいりますか。

130以上140未満
120以上130未満
140以上150未満

小6 データの整理と活用 特訓ドリル③-1

柱状グラフと 代表値の 使い分け(8問)

なまえ ＿＿＿＿＿＿＿＿

学習日 ＿＿＿＿＿＿＿＿

・柱状グラフと 代表値を 考えます。数の答えは 単位も 書きましょう。
・選ぶ問は 正しいものに ○を つけましょう。

1 1日の 勉強時間の 柱状グラフです。
50以上の 人は 何人ですか。

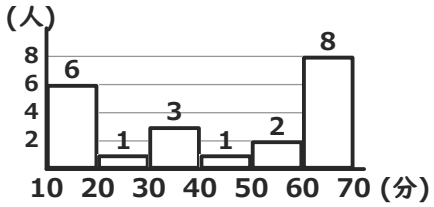

2 ゲームの 得点。 50以上60未満
7人、60以上70未満 6人、70以上80未満
9人。 60以上の 人数(人)は どれ?

6　22　15

3 なわとびの 回数の 柱状グラフです。
40未満の 人は 何人ですか。

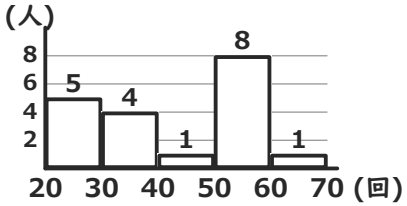

4 漢字テストの 点数。 50以上60未満
5人、60以上70未満 4人、70以上80未満
8人。 60以上は 何人?

5 6人の おやつの ねだん(円)です。1人だけ
とびぬけて 大きい 値を のぞいた 平均は
いくつ?

14	10	145	36	32	13

6 5人の 1日の 練習時間(分)は、19, 36,
155, 23, 26。とびぬけた 値の
えいきょうを 受けにくい 代表値は?

中央値　平均値　さいひん値

7 5人の 読書の 時間(分)です。 平均値は
中央値より いくつ 大きい?

31	175	24	23	22

8 5人の 1分間の 腹筋の 回数の 平均値は
36。このうち 1人の 120は とびぬけて
大きい。この 1人を のぞいた 4人の
平均値は?

小6 データの整理と活用 特訓ドリル③-2

柱状グラフと 代表値の 使い分け(8問)

なまえ ＿＿＿＿＿＿＿＿

学習日 ＿＿＿＿＿＿＿＿

・柱状グラフと 代表値を 考えます。数の答えは 単位も 書きましょう。
・選ぶ問は 正しいものに ○を つけましょう。

1 漢字テストの 点数。50以上60未満 3人、60以上70未満 4人、70以上80未満 9人。60以上は 何人?

2 1日の 勉強時間の 柱状グラフです。30未満の 人は 何人ですか。

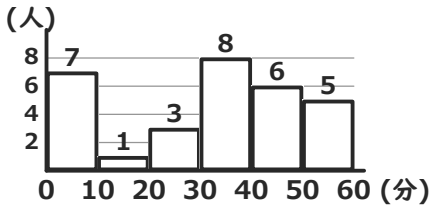

3 柱状グラフに 80以上の 柱も ある。『70以上』の 人数は、70以上80未満の 柱 1本の 人数だけ である。正しければ ○、ちがえば ×。

○ ×

4 漢字テストの 点数の 柱状グラフです。60以上80未満の 人は 何人ですか。

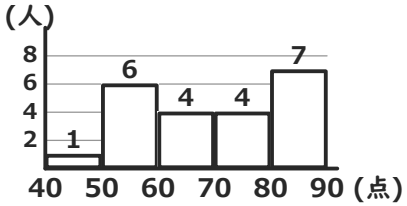

5 5人の おやつの ねだん(円)の 平均値は 18。このうち 1人の 50は とびぬけて 大きい。この 1人を のぞいた 4人の 平均値は?

6 7人の なわとびの 回数です。平均値は 中央値より いくつ 大きい?

29	200	17	20	18	31	35

7 売れた パンの ねだん(円)は、110, 140, 210, 80, 180, 140, 140, 110。いちばん 多く 売れた ねだんを 知りたい。どの 代表値?

平均値 さいひん値 中央値

8 5人の 1日の 練習時間(分)です。1人だけ とびぬけて 大きい 値を のぞいた 平均は いくつ?

16	190	31	27	22

小6 データの整理と活用 特訓ドリル③-3

柱状グラフと 代表値の 使い分け(8問)

なまえ ＿＿＿＿＿＿＿＿

学習日 ＿＿＿＿＿＿＿＿

・柱状グラフと 代表値を 考えます。数の答えは 単位も 書きましょう。
・選ぶ問は 正しいものに ○を つけましょう。

1 1日の 勉強時間の 柱状グラフです。
10以上40未満の 人は 何人ですか。

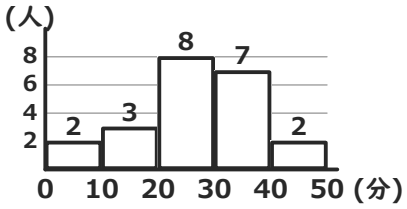

2 柱状グラフに 35以上の 柱も
ある。『30以上』の
人数は、30以上35未満の 柱 1本の 人数
だけ である。 正しければ ○、ちがえば ×。

○ ×

3 なわとびの 回数の 柱状グラフです。
れんさんは 60以上を 7人と した。 正しい
人数は?

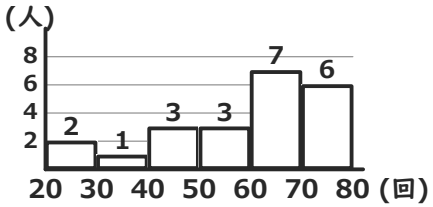

4 体重。45以上50未満 2人、50以上55未満
8人、55以上60未満 3人。 高い 方から
5番目の 人は どの 階級?

55以上60未満　45以上50未満
50以上55未満

5 5人の おやつの ねだん(円)です。1人だけ
とびぬけて 大きい 値を のぞいた 平均は
いくつ?

14	35	23	12	145

6 売れた パンの ねだん(円)は、180, 160,
90, 140, 150, 160, 160, 120。
いちばん 多く 売れた ねだんを 知りたい。
どの 代表値?

平均値　中央値　さいひん値

7 7人の 1日の 練習時間(分)です。
平均値は 中央値より いくつ 大きい?

34	29	26	22	36	260	27

8 1分間の 腹筋の 回数は 32, 37, 155,
24, 31。 中央値の ほうが ふつうを よく
表す。 正しければ ○、ちがえば ×。

○ ×

小6 データの整理と活用 特訓ドリル③-4

柱状グラフと 代表値の 使い分け(8問)

なまえ ＿＿＿＿＿＿＿＿

学習日 ＿＿＿＿＿＿＿＿

・柱状グラフと 代表値を 考えます。数の答えは 単位も 書きましょう。
・選ぶ問は 正しいものに ○を つけましょう。

1 なわとびの 回数。30以上40未満 7人、40以上50未満 5人、50以上60未満 2人。高い 方から 4番目の 人は どの 階級?

40以上50未満 **50以上60未満** **30以上40未満**

2 1日の 勉強時間の 柱状グラフです。れんさんは 50以上を 3人と した。正しい 人数は?

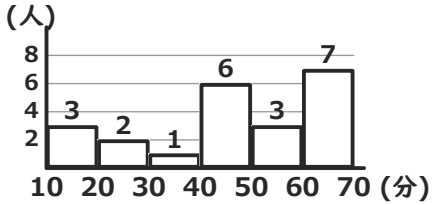

□

3 漢字テストの 点数。40以上50未満 5人、50以上60未満 8人、60以上70未満 4人。50以上の 人数(人)は どれ?

8 **12** **17**

4 なわとびの 回数の 柱状グラフです。50以上の 人は 何人ですか。

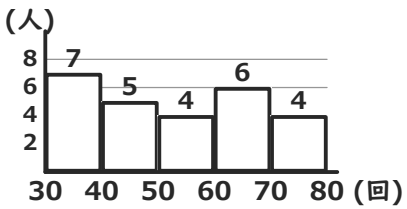

□

5 おやつの ねだん(円)は 34, 105, 16, 12, 10。平均値の ほうが ふつうを よく表す。正しければ ○、ちがえば ×。

○ **×**

6 5人の なわとびの 回数です。平均値は 中央値より いくつ 大きい?

31	24	225	23	22

□

7 4日間に 読んだ ページ数は、35, 25, 28, 36。全体を ならして 1日分に したい。どの 代表値?

中央値 **平均値** **さいひん値**

8 5人の 1日の 練習時間(分)です。1人だけ とびぬけて 大きい 値を のぞいた 平均は いくつ?

25	10	140	21	24

□

小6 データの整理と活用 特訓ドリル③-5

柱状グラフと 代表値の 使い分け(8問)

なまえ ＿＿＿＿＿＿＿＿

学習日 ＿＿＿＿＿＿＿＿

・柱状グラフと 代表値を 考えます。数の答えは 単位も 書きましょう。
・選ぶ問は 正しいものに ○を つけましょう。

1 体重の 柱状グラフです。 55以上の 人は 何人ですか。

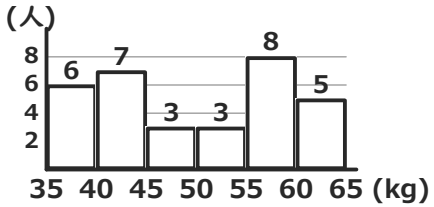

＿＿＿＿

2 体重。 45以上50未満 2人、50以上55未満 6人、55以上60未満 9人。 50以上の 人数(人)は どれ?

15　6　17

3 1日の 勉強時間の 柱状グラフです。 20未満の 人は 何人ですか。

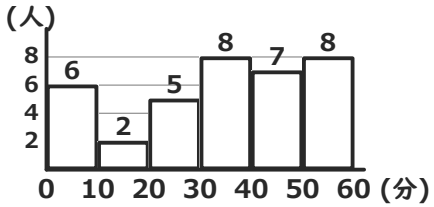

＿＿＿＿

4 柱状グラフに 55以上の 柱も ある。『50以上』の 人数は、50以上の 柱を ぜんぶ たした 人数 である。 正しければ ○、ちがえば ×。

○　×

5 5人の おやつの ねだん(円)です。1人だけ とびぬけて 大きい 値を のぞいた 平均は いくつ?

20	14	100	31	15

＿＿＿＿

6 4日間に 読んだ ページ数は、26, 21, 29, 20。 全体を ならして 1日分に したい。どの 代表値?

中央値　さいひん値　平均値

7 5人の おやつの ねだん(円)です。 平均値は 中央値より いくつ 大きい?

22	16	33	200	29

＿＿＿＿

8 5人の 読書の 時間(分)は、30, 205, 29, 20, 25。とびぬけた 値の えいきょうを 受けにくい 代表値は?

平均値　さいひん値　中央値

小6 データの整理と活用 総合プリント（その2）

なまえ ＿＿＿＿＿＿＿＿

つまずきを6つ、2問ずつ（100点）

学習日 ＿＿＿＿＿＿＿＿

・数の答えは 単位も 書きましょう。
・選ぶ問は 正しいものに ○を つけましょう。

1 14人の なわとびの 回数を 表に しました。中央値は いくつですか。

回数	15	17	19	21	23
人数	2	5	1	4	2

2 9人の クイズの 正解数は、4，3，8，6，6，5，5，5，7 でした。さいひん値は どれですか。

5　8　3

3 20人の 1週間に 図書室へ 行った 回数を 表に しました。さいひん値は いくつですか。

回数	2	3	4	5	6	7
人数	2	3	4	2	5	4

4 小さい順の データ 13，16，34，40，54，62 の 中央値は 34 である。正しければ ○、ちがえば ×。

○　×

5 9人の ゲームの 得点を 調べました。75未満の 人は 何人ですか。

70	72	65	75	73	75	74	77	68

6 7人の 1日の 練習時間（分）は、29，69，43，72，31，89，75 でした。中央値は いくつですか。

7 1日の 勉強時間の 柱状グラフです。40未満の 人は 何人ですか。

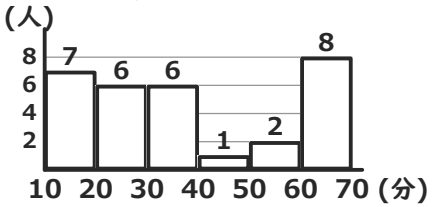

8 5人の おやつの ねだん（円）の 平均値は 50。このうち 1人の 150は とびぬけて 大きい。この 1人を のぞいた 4人の 平均値は？

9 5人の 1分間の 腹筋の 回数です。平均値は 中央値より いくつ 大きい？

13	35	16	36	125

10 柱状グラフに 60以上の 柱も ある。『55以上』の 人数は、55以上の 柱を ぜんぶ たした 人数 である。 正しければ ○、ちがえば ×。

○　×

11 7人の 1日の 練習時間（分）を 表に しました。 中央値は いくつですか。

名前	A	B	C	D	E	F	G
時間	79	66	78	68	11	60	53

12 8人の 漢字テストの 点数は、64，70，70，73，66，67，51，60。60以上70未満は 何人？

小6 データの整理と活用 総合プリント（その3）

なまえ ＿＿＿＿＿＿＿＿

つまずきを6つ、2問ずつ（100点）

学習日 ＿＿＿＿＿＿＿＿

・数の答えは 単位も 書きましょう。
・選ぶ問は 正しいものに ○を つけましょう。

1 17人の 1週間に 図書室へ 行った 回数を ドットプロットに した。さいひん値は いくつですか。

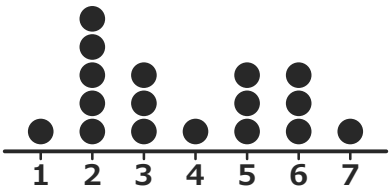

□

2 ゲームの 得点。60以上70未満 9人、70以上80未満 3人、80以上90未満 8人。70以上は 何人？

□

3 10人の なわとびの 回数を 調べました。20未満の 人は 何人ですか。

20	20	22	19	18	13	15	23	13	14

□

4 120は、110以上120未満の 階級に はいる。正しければ ○、ちがえば ×。

○ ×

5 1日の 勉強時間の 柱状グラフです。30以上60未満の 人は 何人ですか。

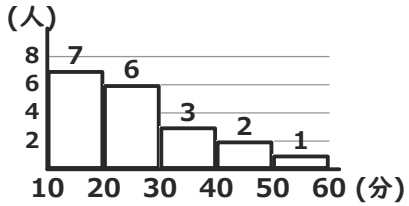

□

6 10人の ジャンプの 高さ（cm）は、13, 16, 17, 15, 13, 17, 11, 14, 16, 13 でした。さいひん値は いくつですか。

□

7 5人の おやつの ねだん（円）です。平均値は 中央値より いくつ 大きい？

31	32	21	225	16

□

8 6人の 集めた ごみの 重さ（kg）を 小さい順に ならべると、2, 9, 11, 13, 17, 20。中央値（kg）は どれですか。

13 12 24

9 7人の 漢字テストの 点数を 調べました。中央値は いくつですか。

66	89	95	65	92	51	99

□

10 データ 77, 102, 116, 67, 211 の 中央値は 116 である。正しければ ○、ちがえば ×。

○ ×

11 14人の なわとびの 回数を 表に しました。中央値は いくつですか。

回数	12	14	16	18	20
人数	2	5	1	4	2

□

12 売れた パンの ねだん（円）は、170, 160, 200, 170, 170, 140, 80, 130。いちばん 多く 売れた ねだんを 知りたい。どの 代表値？

さいひん値 平均値 中央値

小6 データの整理と活用 総合プリント（その4）

なまえ ＿＿＿＿＿＿＿＿

つまずきを6つ、2問ずつ（100点）

学習日 ＿＿＿＿＿＿＿＿

・数の答えは 単位も 書きましょう。
・選ぶ問は 正しいものに ○を つけましょう。

1 10人の リレーの タイム（秒）を 調べました。15以上20未満の 人は 何人ですか。

10	15	18	12	21	20	12	18	22	24

2 5人の ジャンプの 高さ（cm）は、29，34，66，21，26。あいさんは 中央値を 66と 答えた。正しい 中央値は いくつ？

3 なわとびの 回数の 柱状グラフです。あいさんは 40以上を 5人と した。正しい 人数は？

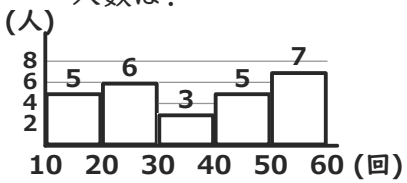

4 読書の 時間（分）は 28，18，15，23，125。中央値の ほうが ふつうを よく 表す。正しければ ○、ちがえば ×。

○ ×

5 6人の 読書の 時間（分）です。1人だけ とびぬけて 大きい 値を のぞいた 平均は いくつ？

32	23	30	21	190	14

6 漢字テストの 点数。60以上70未満 7人、70以上80未満 6人、80以上90未満 2人。高い 方から 7番目の 人は どの 階級？

80以上90未満　70以上80未満　60以上70未満

7 5人の リレーの タイム（秒）を 表に しました。中央値は いくつですか。

名前	A	B	C	D	E
タイム	15	18	31	29	9

8 8人の ゲームの 得点は、70，63，55，60，78，66，73，58。れんさんは 60以上70未満を 4人と した。正しい 人数は？

9 6人の 1分間の 腹筋の 回数を 小さい順に。中央値は いくつですか。

28	29	30	36	42	45

10 好きな 学年の 番号を 聞いた ところ、3，6，5，4，4，1，5，4。いちばん 多く 出た 番号は？

11 14人の 筆箱に 入れた えんぴつの 本数を 表に しました。さいひん値は いくつですか。

本数	4	5	6	7	8
人数	1	4	5	1	3

12 10個の データを 小さい順に ならべました。中央値は 何番目と 何番目の 平均ですか。

4番目と5番目　6番目と7番目　5番目と6番目

小6 データの整理と活用 総合プリント（その5）

なまえ ＿＿＿＿＿＿＿＿

つまずきを6つ、2問ずつ（100点）

学習日 ＿＿＿＿＿＿＿＿

・数の答えは 単位も 書きましょう。
・選ぶ問は 正しいものに ○を つけましょう。

1 1日の 勉強時間の 柱状グラフです。30以上の 人は 何人ですか。

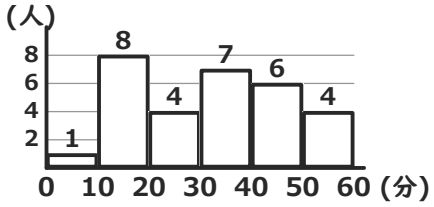

□

2 9人の クイズの 正解数は、9，4，6，6，8，6，6，6，2。ゆうさんは さいひん値を 9と 答えた。正しい さいひん値は？

□

3 7人の 1日の 練習時間（分）です。平均値は 中央値より いくつ 大きい？

20	27	19	16	35	9	105

□

4 6人の ボール投げの きょり（m）は、31，26，11，15，24，16。れんさんは 中央値を 16と 答えた。正しい 中央値は いくつ？

□

5 9人の なわとびの 回数を 調べました。中央値は いくつですか。

45	56	20	53	25	32	51	43	42

□

6 4，24，7，10，15 を 小さい順に ならべると、2番目は いくつ？

□

7 12人の ゲームの 得点を 表に しました。中央値は いくつですか。

得点	79	81	83	85	87
人数	1	5	1	4	1

□

8 4日間に 読んだ ページ数は、30，32，21，37。全体を ならして 1日分に したい。どの 代表値？

中央値　さいひん値　平均値

9 13人の 1週間に 図書室へ 行った 回数を ドットプロットに した。さいひん値は いくつですか。

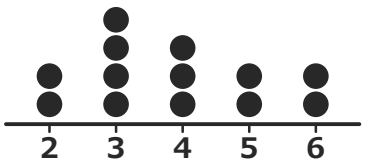

□

10 柱状グラフに 50以上の 柱も ある。『45以上』の 人数は、45以上の 柱を ぜんぶ たした 人数 である。正しければ ○、ちがえば ×。

○　×

11 10人の ジャンプの 高さ（cm）を 調べました。65未満の 人は 何人ですか。

69	57	65	64	65	64	60	55	61	58

□

12 階級を 5ずつに 分けます。85は どの 階級に はいりますか。

85以上90未満　80以上85未満　90以上95未満