小3 表とグラフ 練習プリント⑤

目もりが ちがう 2つの グラフ 全6問

なまえ ＿＿＿＿＿＿＿＿

学習日 ＿＿＿月＿＿＿日

ねらい 1目もりの 大きさを 先に 読んで、グラフと ひょうを つかおう。

ときかた **ずかんは、先月より 何さつ ふえましたか。**

先月の 1目もりは 1さつ。

今月の 1目もりは 2さつ。

ずかんは 先月 5さつ、

今月 12さつ。

12−5=7 こたえ 7さつ

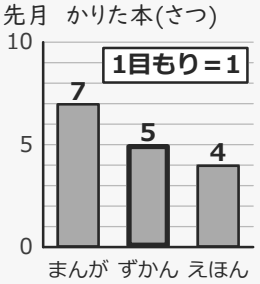



ずかんの ひょう

しゅるい	先月	今月
まんが	7	10
ずかん	**5**	**12**
えほん	4	8

れんしゅう

答えを 書きましょう。数の 答えは たんいも 書きます。

1 れきしの 本は、先月より 何さつ ふえましたか。 ＿＿＿＿

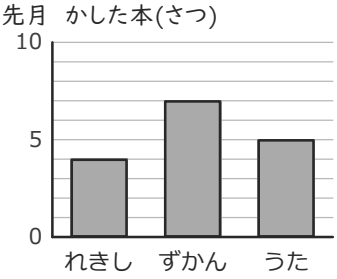

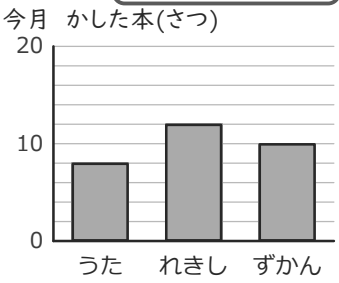

2 グラフを 見て、ひょうを うめよう。

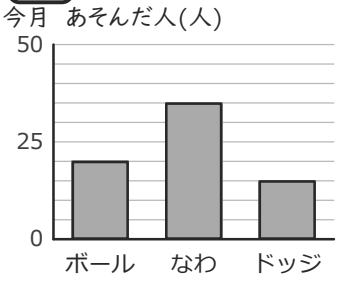

しゅるい	今月
なわ	
ドッジ	
ボール	

3 ケーキは、1組より 2組が 多い。○か ×か。 ○ ×

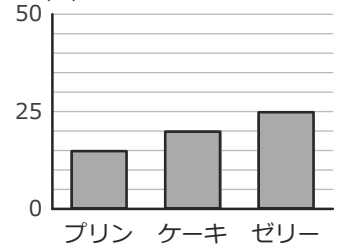

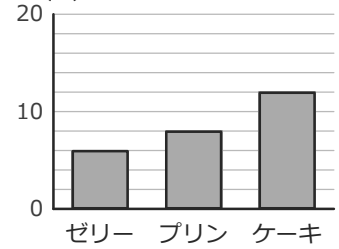

4 ばらは、ひょうと グラフで あわせて 何本ですか。 ＿＿＿＿

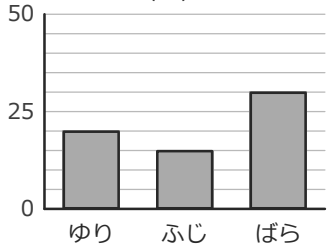

先月 さいた花(本)

しゅるい	先月
ふじ	8
ばら	14
ゆり	12

5 いちばん ふえた 人は だれですか。 ＿＿＿＿

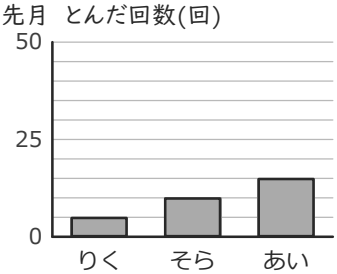

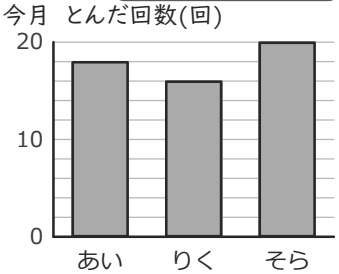

6 ノートは、先月と 今月で 同じ 数。○か ×か。 ○ ×

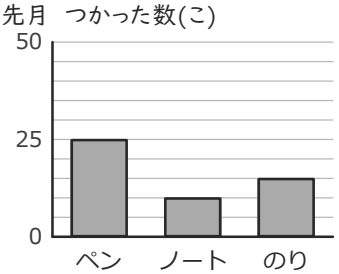

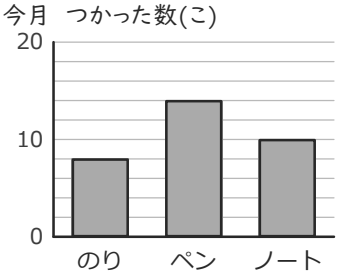

いちごドリル プリント

つづきの無料プリント
「小3の表とグラフ」のプリント一覧がひらきます