小3 表とグラフ 練習プリント③

ぼうグラフを かく 全6問

なまえ ＿＿＿＿＿＿＿＿

学習日 ＿＿月＿＿日

ねらい ひょうの 数を、1目もりに 合わせて ぼうに かこう。

ときかた **ひょうを ぼうグラフに かきます。**

1目もりは 2。

あか 6÷2=3 目もり。

あお 10÷2=5 目もり。

みどり 8÷2=4 目もり。

目もりの あいだは 線の まん中。

ひょう

しゅるい	数
あか	6
あお	10
みどり	8

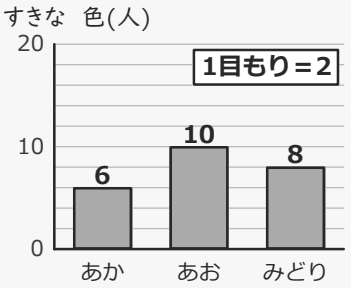

れんしゅう

ひょうの 数を、ぼうグラフに かきましょう。

1

しゅるい	数
りんご	8
みかん	14
バナナ	6



2

しゅるい	数
えほん	20
ずかん	35
まんが	25



3

しゅるい	数
あか	30
あお	60
きいろ	50

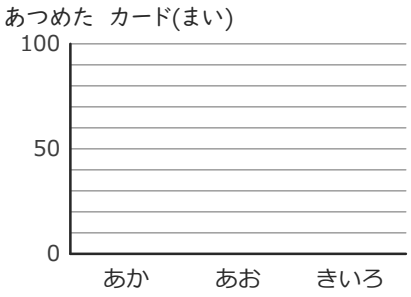

4

しゅるい	数
さくら	7
ばら	11
ゆり	5



5 1目もりは 5。たての 数も 書こう。

しゅるい	数
なわ	10
けん	25
ゴム	15
ボール	20



6 1目もりは 2。たての 数も 書こう。

しゅるい	数
まこ	6
はると	12
いつき	16

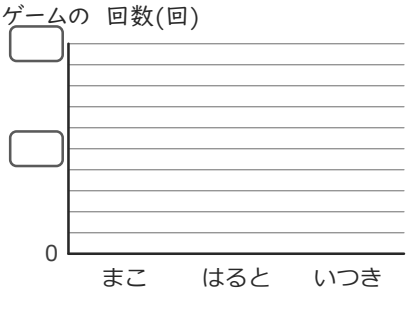

いちごドリル プリント

つづきの無料プリント
「小3の表とグラフ」のプリント一覧がひらきます

小3 表とグラフ 練習プリント③【こたえ】

ぼうグラフを かく 全6問

なまえ ＿＿＿＿＿＿＿＿

学習日 ＿＿＿月＿＿＿日

ねらい ひょうの 数を、1目もりに 合わせて ぼうに かこう。

ときかた **ひょうを ぼうグラフに かきます。**

1目もりは 2。

あか 6÷2=3 目もり。

あお 10÷2=5 目もり。

みどり 8÷2=4 目もり。

目もりの あいだは 線の まん中。

ひょう

しゅるい	数
あか	6
あお	10
みどり	8

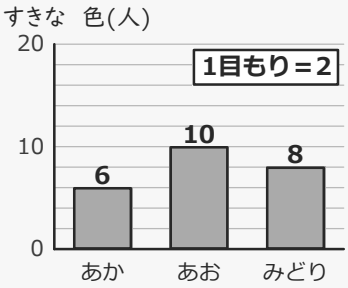

れんしゅう

ひょうの 数を、ぼうグラフに かきましょう。

1

しゅるい	数
りんご	8
みかん	14
バナナ	6

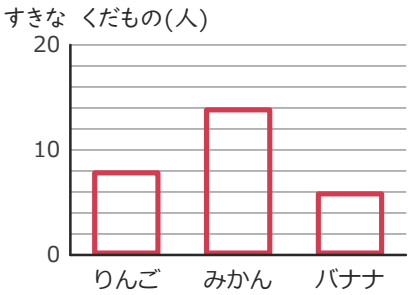

1目もり2 → りんごの 8は 4目もり

2

しゅるい	数
えほん	20
ずかん	35
まんが	25

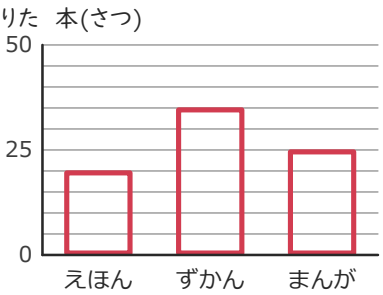

1目もり5 → えほんの 20は 4目もり

3

しゅるい	数
あか	30
あお	60
きいろ	50

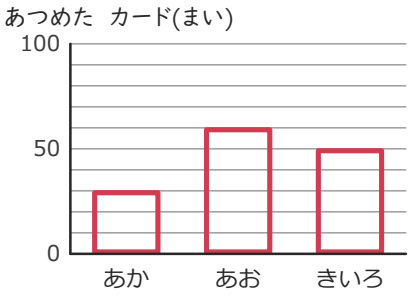

1目もり10 → あかの 30は 3目もり

4

しゅるい	数
さくら	7
ばら	11
ゆり	5

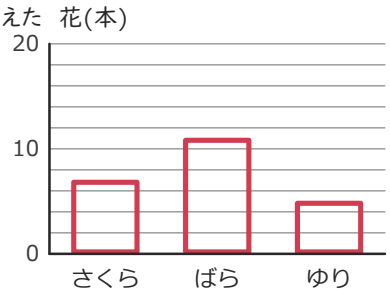

1目もり2 → さくらの 7は 3目もりと 半分

5

1目もりは 5。たての 数も 書こう。

しゅるい	数
なわ	10
けん	25
ゴム	15
ボール	20

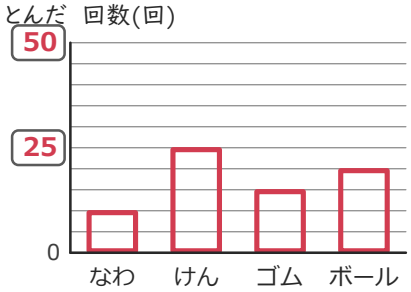

5本めの 線は 25・10本めは 50

6

1目もりは 2。たての 数も 書こう。

しゅるい	数
まこ	6
はると	12
いつき	16

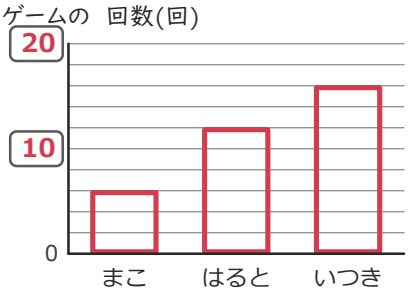

5本めの 線は 10・10本めは 20