小3 表とグラフ 練習プリント②

よこ向きの グラフと じゅん番 全6問

なまえ ＿＿＿＿＿＿＿＿

学習日 月 日

ねらい 名前の 行を たどって 読み、多い じゅんに ならべよう。

ときかた **でんしゃは 何人ですか。**

名前の 行を ゆびで たどる。
ぼうの 先から 下の 数を 読む。
でんしゃは 25人。1目もりは 5。
多い じゅんに ならべると、
ひょうの ように なる。

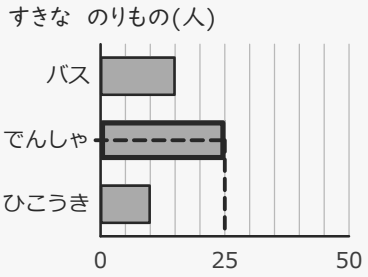

多い じゅん

じゅん	なまえ	数
1	でんしゃ	25
2	バス	15
3	ひこうき	10

れんしゅう

よこ向きの グラフを 読んで 書きましょう。数は たんいも 書きます。

1 いぬは 何ひきですか。 ＿＿＿＿

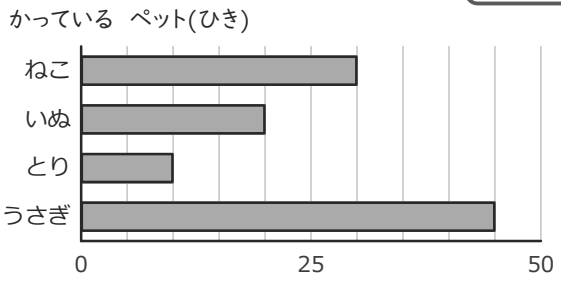

2 あおは 何人ですか。 ＿＿＿＿

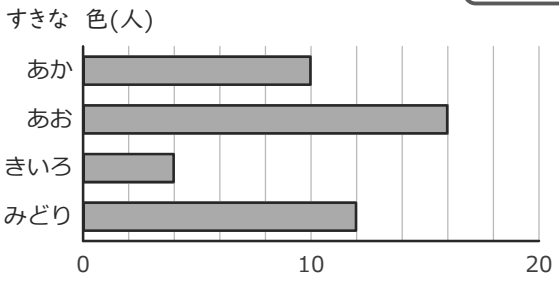

3 多い 方から 2ばんめは どれですか。 ＿＿＿＿

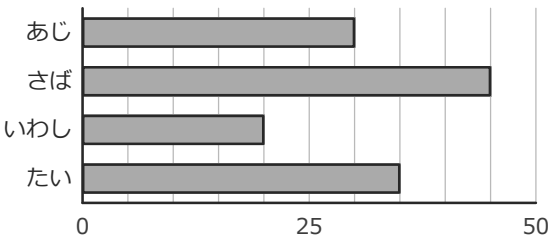

4 多い 方から 3ばんめは どれですか。 ＿＿＿＿

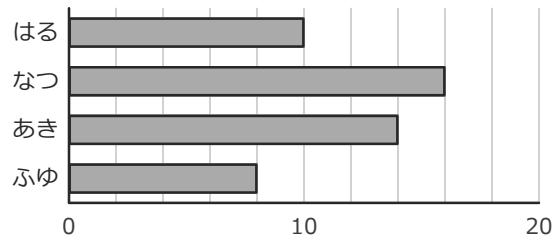

5 グラフを 見て、ひょうを うめよう。

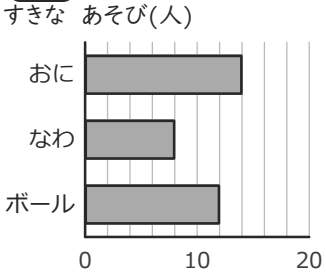

しゅるい	数
なわ	
ボール	
おに	

6 多い じゅんに、ひょうを うめよう。

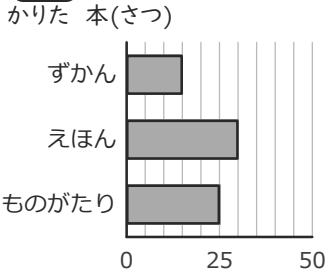

じゅん	なまえ
1ばん	
2ばん	
3ばん	

いちごドリル プリント

つづきの無料プリント
「小3の表とグラフ」のプリント一覧がひらきます

小3 表とグラフ 練習プリント②【こたえ】

よこ向きの グラフと じゅん番 全6問

なまえ ＿＿＿＿＿＿＿＿

学習日 月 日

ねらい 名前の 行を たどって 読み、多い じゅんに ならべよう。

ときかた **でんしゃは 何人ですか。**

名前の 行を ゆびで たどる。
ぼうの 先から 下の 数を 読む。
でんしゃは 25人。1目もりは 5。
多い じゅんに ならべると、
ひょうの ように なる。

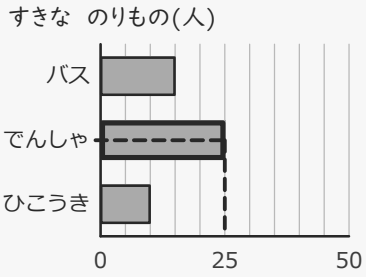

多い じゅん

じゅん	なまえ	数
1	でんしゃ	25
2	バス	15
3	ひこうき	10

れんしゅう

よこ向きの グラフを 読んで 書きましょう。数は たんいも 書きます。

1 いぬは 何ひきですか。 **20ひき**

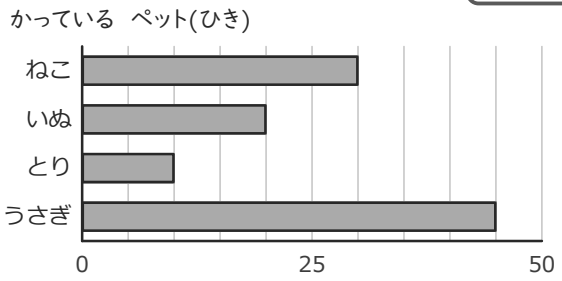

1目もり5・4目もり → 20

2 あおは 何人ですか。 **16人**

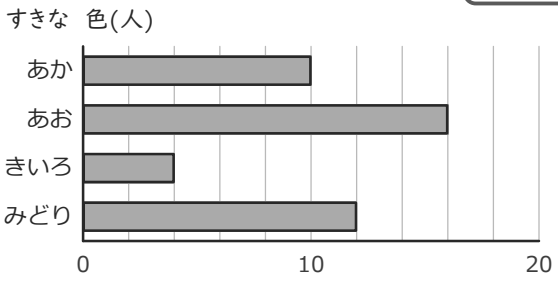

1目もり2・8目もり → 16

3 多い 方から 2ばんめは どれですか。 **たい**

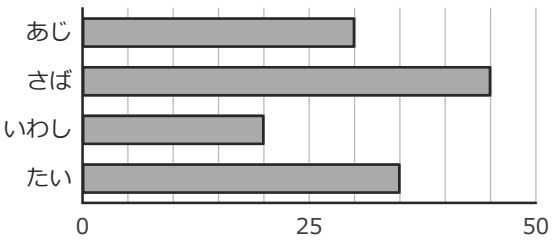

多い じゅん さば→たい→あじ→いわし

4 多い 方から 3ばんめは どれですか。 **はる**

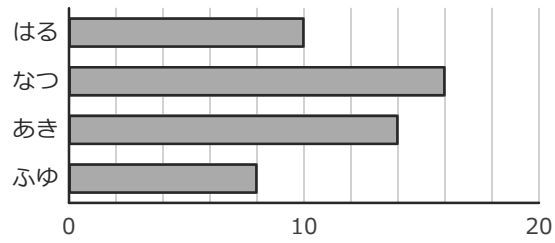

多い じゅん なつ→あき→はる→ふゆ

5 グラフを 見て、ひょうを うめよう。

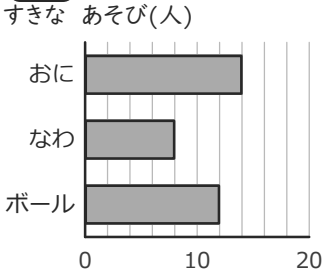

目もりの 数×2

しゅるい	数
なわ	8人
ボール	12人
おに	14人

6 多い じゅんに、ひょうを うめよう。

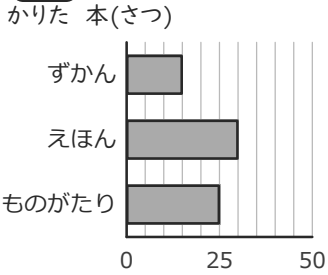

多い じゅん 30＞25＞15

じゅん	なまえ
1ばん	えほん
2ばん	ものがたり
3ばん	ずかん