小3 表とグラフ 練習プリント②

よこ向きの グラフと じゅん番 全6問

なまえ ＿＿＿＿＿＿＿＿

学習日 月 日

ねらい 名前の 行を たどって 読み、多い じゅんに ならべよう。

ときかた **でんしゃは 何人ですか。**

名前の 行を ゆびで たどる。
ぼうの 先から 下の 数を 読む。
でんしゃは 25人。1目もりは 5。
多い じゅんに ならべると、
ひょうの ように なる。

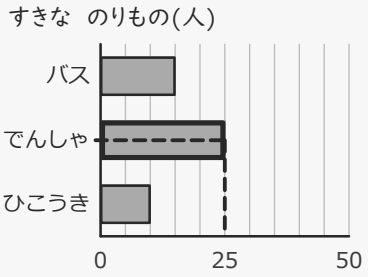

多い じゅん

じゅん	なまえ	数
1	でんしゃ	25
2	バス	15
3	ひこうき	10

れんしゅう

よこ向きの グラフを 読んで 書きましょう。数は たんいも 書きます。

1 いぬは 何ひきですか。 ＿＿＿＿

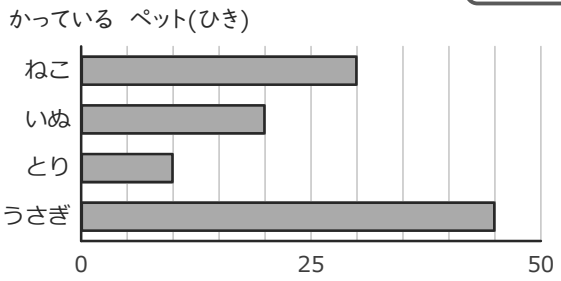

2 あおは 何人ですか。 ＿＿＿＿

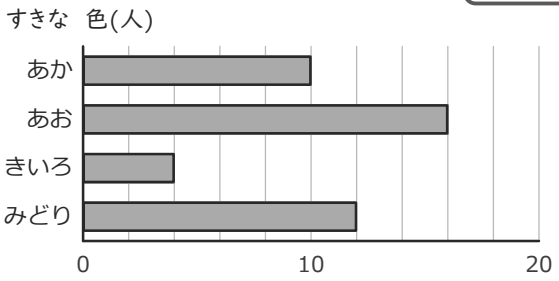

3 多い 方から 2ばんめは どれですか。 ＿＿＿＿

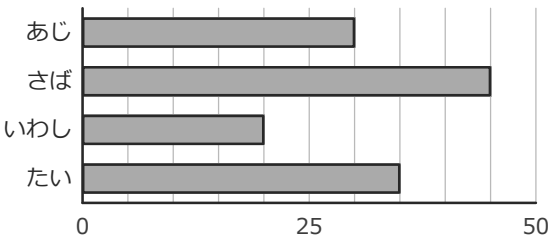

4 多い 方から 3ばんめは どれですか。 ＿＿＿＿

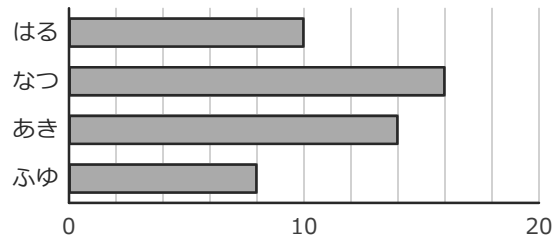

5 グラフを 見て、ひょうを うめよう。

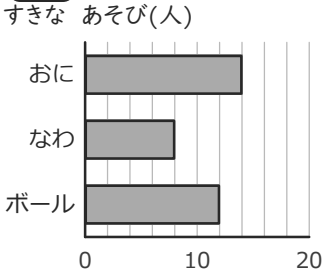

しゅるい	数
なわ	
ボール	
おに	

6 多い じゅんに、ひょうを うめよう。

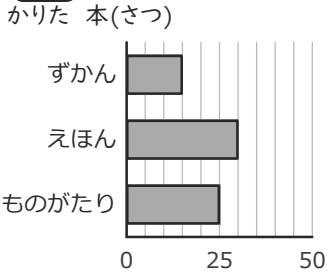

じゅん	なまえ
1ばん	
2ばん	
3ばん	

いちごドリル プリント

つづきの無料プリント
「小3の表とグラフ」のプリント一覧がひらきます