小3 表とグラフ 練習プリント①

目もりを 読む 全6問

なまえ ＿＿＿＿＿＿＿＿

学習日 月 日

ねらい グラフの 目もりを 読んで、1目もりの 大きさを 見つけよう。

ときかた **ぶどうは 何人ですか。**

数字と 数字の あいだは

5目もり。0と 10で 5目もり。

10÷5=2 → 1目もりは 2人。

ぶどうの ぼうは 6目もり。

2×6=12 こたえ 12人

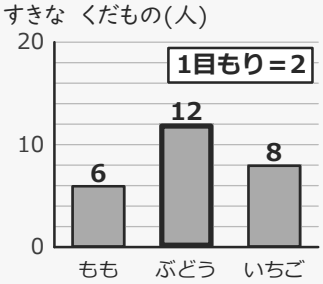

ひょう

しゅるい	人数
もも	6
ぶどう	12
いちご	8

れんしゅう グラフを 読んで 書きましょう。数は たんいも 書きます。

1 やきゅうは 何人ですか。 ＿＿＿＿

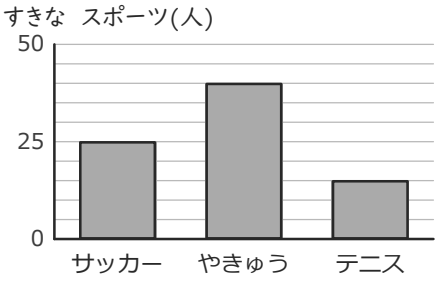

2 ゆりは 何本ですか。 ＿＿＿＿

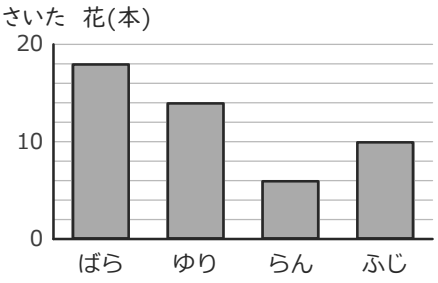

3 1目もりは いくつ ですか。 ＿＿＿＿

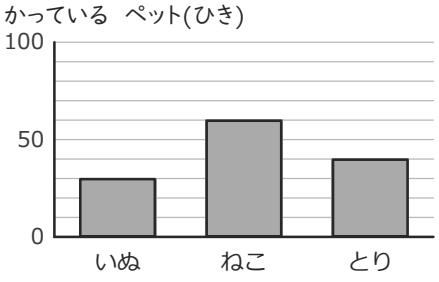

4 1目もりは いくつ ですか。 ＿＿＿＿

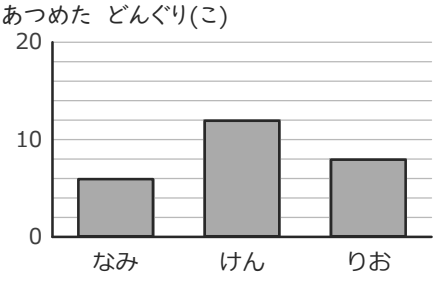

5 グラフを 見て、ひょうを うめよう。

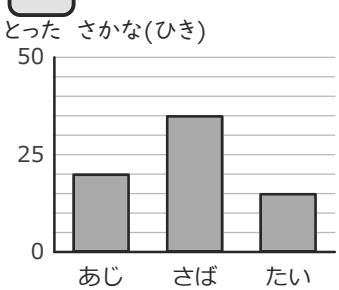

しゅるい	数
さば	
たい	
あじ	

6 グラフを 見て、ひょうを うめよう。

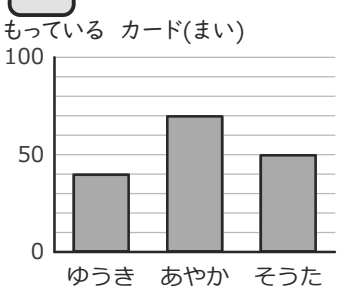

しゅるい	数
そうた	
ゆうき	
あやか	

いちごドリル プリント

つづきの無料プリント
「小3の表とグラフ」のプリント一覧がひらきます

小3 表とグラフ 練習プリント①【こたえ】

目もりを 読む 全6問

なまえ ＿＿＿＿＿＿＿＿

学習日 月 日

ねらい グラフの 目もりを 読んで、1目もりの 大きさを 見つけよう。

ときかた **ぶどうは 何人ですか。**

数字と 数字の あいだは

5目もり。0と 10で 5目もり。

10÷5=2 → 1目もりは 2人。

ぶどうの ぼうは 6目もり。

2×6=12 こたえ 12人

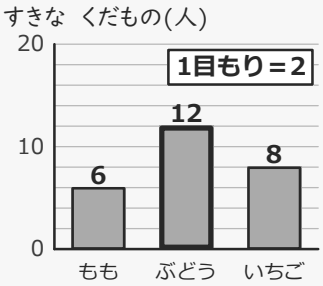

ひょう

しゅるい	人数
もも	6
ぶどう	12
いちご	8

れんしゅう

グラフを 読んで 書きましょう。数は たんいも 書きます。

1 やきゅうは 何人ですか。 **40人**

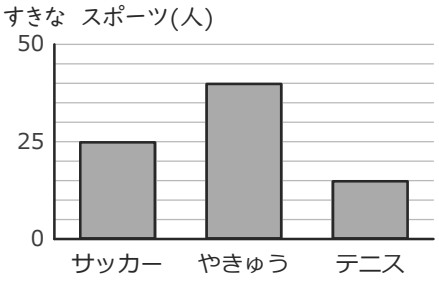

1目もり5・8目もり → 8×5=40

2 ゆりは 何本ですか。 **14本**

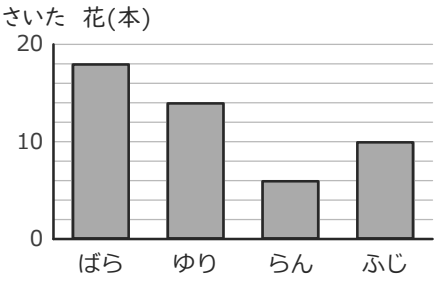

1目もり2・7目もり → 7×2=14

3 1目もりは いくつ ですか。 **10ひき**

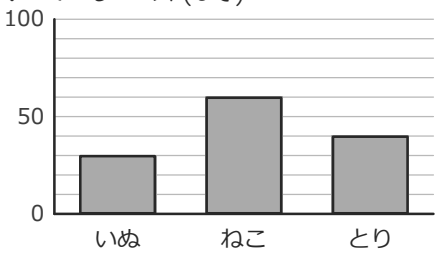

0から50までは 5目もり → 50÷5=10

4 1目もりは いくつ ですか。 **2こ**

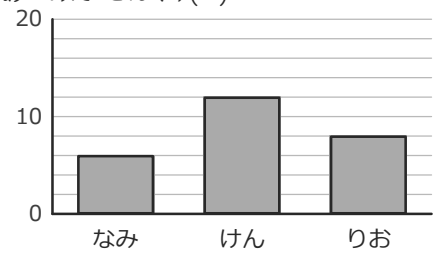

0から10までは 5目もり → 10÷5=2

5 グラフを 見て、ひょうを うめよう。

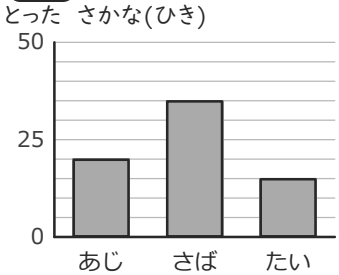

目もりの 数×5

しゅるい	数
さば	35ひき
たい	15ひき
あじ	20ひき

6 グラフを 見て、ひょうを うめよう。

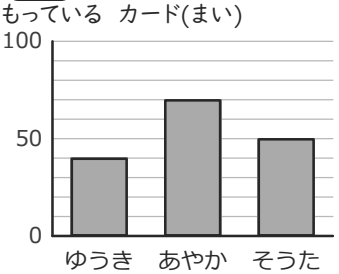

目もりの 数×10

しゅるい	数
そうた	50まい
ゆうき	40まい
あやか	70まい

いちごドリル プリント