小3 ぼうグラフ そうごうテスト（その1）

つまずきを6つ、2問ずつ（100点）

なまえ ＿＿＿＿＿＿＿＿

学習日 ＿＿＿＿＿＿＿＿

答えは 下線に 書く（ぼうグラフの 問題は グラフの 線に 合わせて ぼうを かく）

① 8点

すきな くだもの（人）

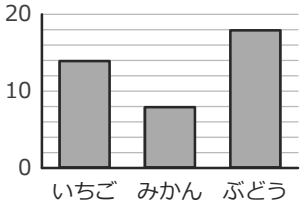

ぶどうは
何人ですか。

＿＿＿＿＿＿ 人

② 8点

正 正 下

とんだ 回数を
正の字で 数えました。
何回ですか。

＿＿＿＿＿＿ 回

③ 8点

ひょうを ぼうグラフに かこう。

ひょう

すきな 色	数
赤	8
青	4
黄	10

すきな 色（人）

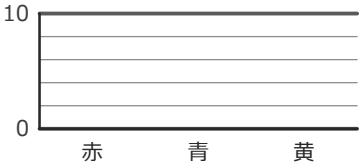

④ 8点

すきな あそび（人）

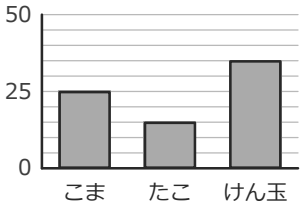

多い 方から
2ばんめは
どれですか。

＿＿＿＿＿＿

⑤ 8点

犬が すきな 人は、1組は
2組より 何人 多いですか。

1組（人）

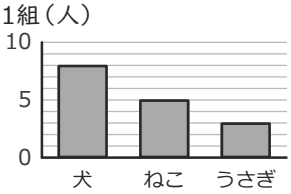

2組（人）

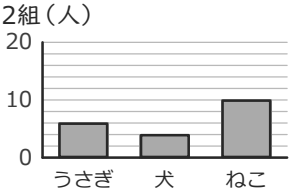

＿＿＿＿＿＿ 人

⑥ 8点

1組

なまえ	人数
りんご	5
みかん	8
ぶどう	3

2組

なまえ	人数
みかん	7
ぶどう	4
りんご	6

2つの 組を
あわせると、
みかんは 何人ですか。

＿＿＿＿＿＿ 人

⑦ 8点

なわとびの 回数（回）

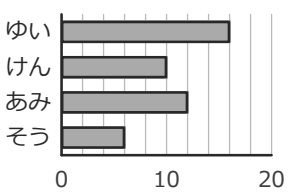

けんは
何回ですか。

＿＿＿＿＿＿ 回

⑧ 8点

	男	女	合計
1組	12	9	21
2組	8	11	19
合計	20	20	**あ**

ひょうの あに
入る 数は
いくつですか。

＿＿＿＿＿＿

⑨ 9点

ひょうを ぼうグラフに かこう。

ひょう

とった 魚	数
あじ	20
さば	10
いわし	25

とった 魚（ひき）

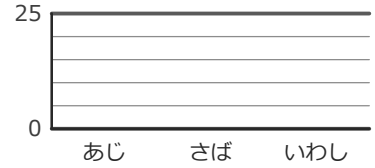

⑩ 9点

読んだ 本（ページ）

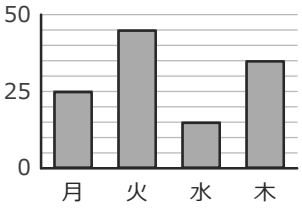

木よう日に 読んだ
数は いくつ？

＿＿＿＿＿＿

（たんいも 書こう）

⑪ 9点

なしが すきな 人が
多いのは、どちらの 組ですか。

3組（人）

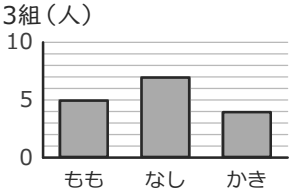

4組（人）

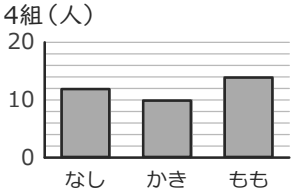

＿＿＿＿＿＿

⑫ 9点

しゅるい	数(人)
犬	11
ねこ	9
うさぎ	4
小鳥	2
金魚	5

多い 2つ いがいを
まとめた「その他」は
何人ですか。

＿＿＿＿＿＿ 人

小3 ぼうグラフ とっくんドリル①-1

1目もり・たんい・よこ向き・じゅんい（12問）

なまえ ＿＿＿＿＿＿＿＿

学習日 ＿＿＿＿＿＿＿＿

・グラフの 題と 1目もりの 大きさを 先に 見る
・答えは 下線に 書く

①

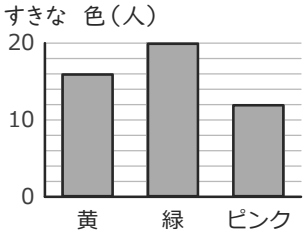

ピンクは
何人ですか。

＿＿＿＿＿＿ 人

②

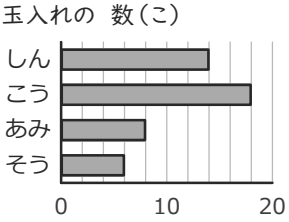

こうは
何こですか。

＿＿＿＿＿＿ こ

③

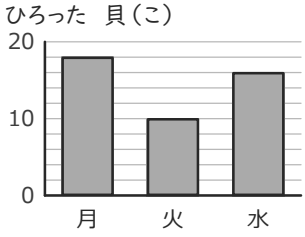

水よう日は
何こですか。

＿＿＿＿＿＿ こ

④

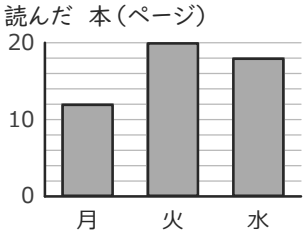

多い 方から
2ばんめは
どれですか。

＿＿＿＿＿＿

⑤

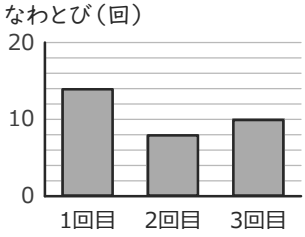

1回目は
何回ですか。

＿＿＿＿＿＿ 回

⑥

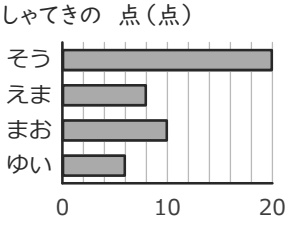

そうは
何点ですか。

＿＿＿＿＿＿ 点

⑦

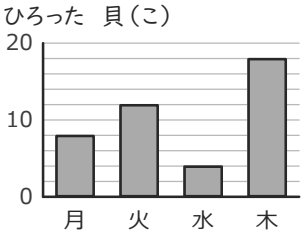

木よう日の 数は
いくつ？

＿＿＿＿＿＿

（たんいも 書こう）

⑧

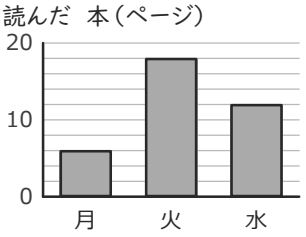

多い 方から
2ばんめは
どれですか。

＿＿＿＿＿＿

⑨

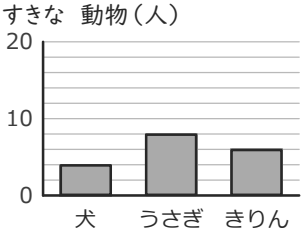

きりんは
何人ですか。

＿＿＿＿＿＿ 人

⑩

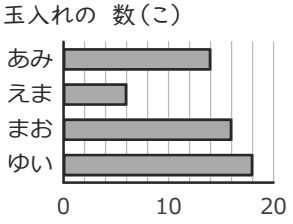

まおは
何こですか。

＿＿＿＿＿＿ こ

⑪

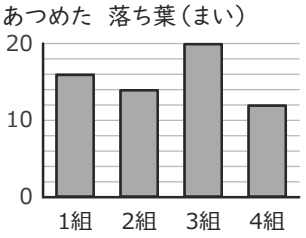

2組の 数は
いくつ？

＿＿＿＿＿＿

（たんいも 書こう）

⑫

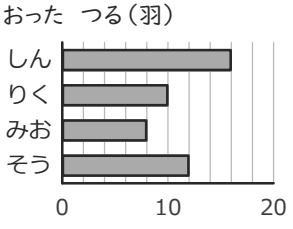

みおは
何羽ですか。

＿＿＿＿＿＿ 羽

小3 ぼうグラフ とっくんドリル①-2

1目もり・たんい・よこ向き・じゅんい（12問）

なまえ ＿＿＿＿＿＿＿＿

学習日 ＿＿＿＿＿＿＿＿

・グラフの 題と 1目もりの 大きさを 先に 見る
・答えは 下線に 書く

①

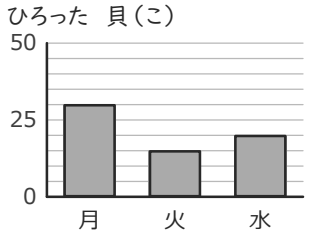

月よう日は
何こですか。

＿＿＿＿＿＿ こ

②

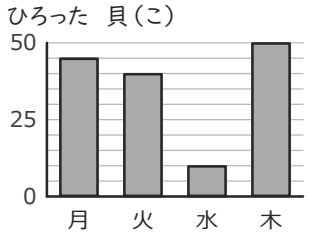

多い 方から
3ばんめは
どれですか。

＿＿＿＿＿＿

③

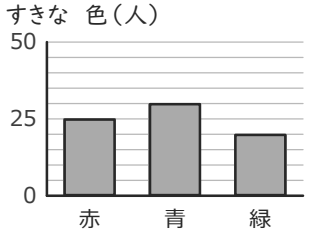

赤は
何人ですか。

＿＿＿＿＿＿ 人

④

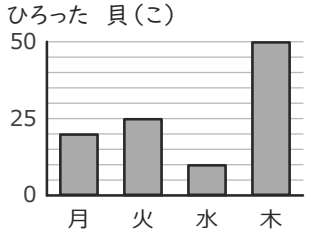

多い 方から
3ばんめは
どれですか。

＿＿＿＿＿＿

⑤

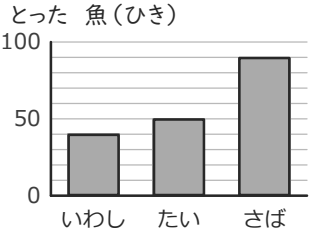

このグラフの
1目もりは
いくつですか。

＿＿＿＿＿＿

⑥

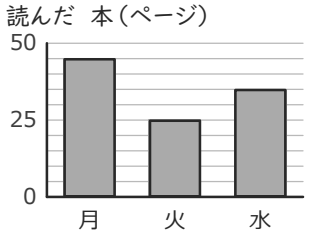

多い 方から
2ばんめは
どれですか。

＿＿＿＿＿＿

⑦

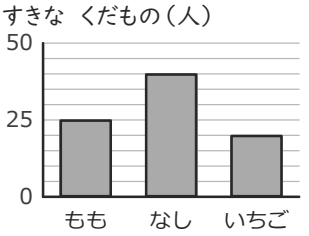

なしは
何人ですか。

＿＿＿＿＿＿ 人

⑧

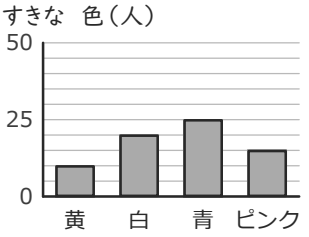

多い 方から
3ばんめは
どれですか。

＿＿＿＿＿＿

⑨

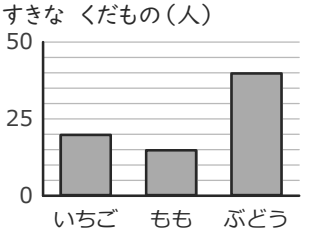

ももは
何人ですか。

＿＿＿＿＿＿ 人

⑩

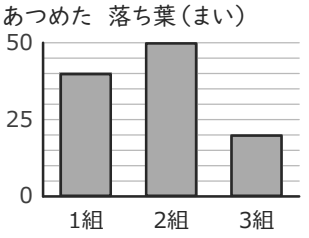

多い 方から
2ばんめは
どれですか。

＿＿＿＿＿＿

⑪

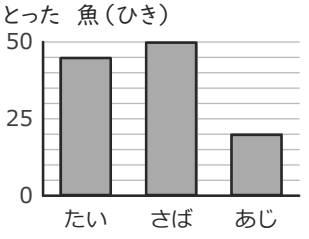

このグラフの
1目もりは
いくつですか。

＿＿＿＿＿＿

⑫

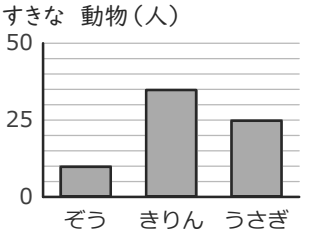

多い 方から
2ばんめは
どれですか。

＿＿＿＿＿＿

いちごドリル プリント

解きおわったら よんでね
答えと次の1枚がひらきます

小3 ぼうグラフ とっくんドリル①-3

1目もり・たんい・よこ向き・じゅんい（12問）

なまえ ＿＿＿＿＿＿＿＿

学習日 ＿＿＿＿＿＿＿＿

・グラフの 題と 1目もりの 大きさを 先に 見る
・答えは 下線に 書く

①

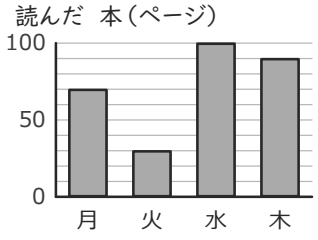

水よう日の 数は いくつ？

＿＿＿＿＿＿

（たんいも 書こう）

②

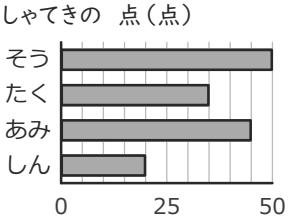

たくは 何点ですか。

＿＿＿＿＿＿ 点

③

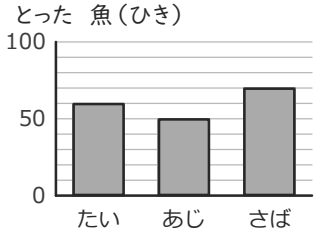

たいの 数は いくつ？

＿＿＿＿＿＿

（たんいも 書こう）

④

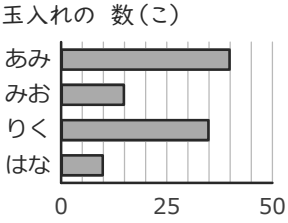

みおは 何こですか。

＿＿＿＿＿＿ こ

⑤

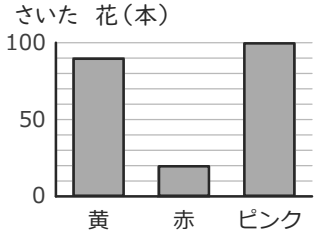

黄は 何本ですか。

＿＿＿＿＿＿ 本

⑥

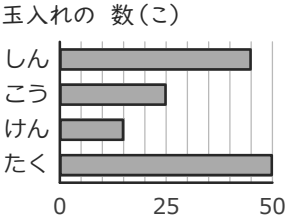

しんは 何こですか。

＿＿＿＿＿＿ こ

⑦

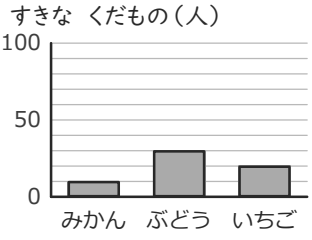

みかんは 何人ですか。

＿＿＿＿＿＿ 人

⑧

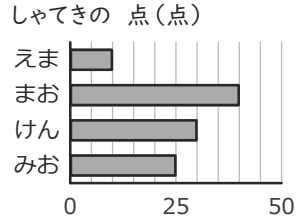

えまは 何点ですか。

＿＿＿＿＿＿ 点

⑨

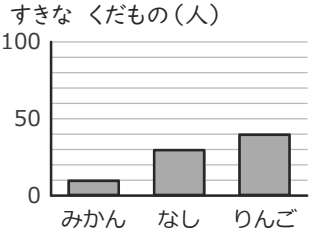

りんごは 何人ですか。

＿＿＿＿＿＿ 人

⑩

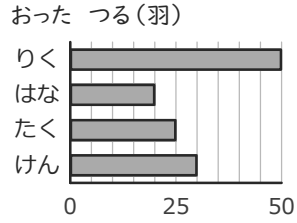

はなは 何羽ですか。

＿＿＿＿＿＿ 羽

⑪

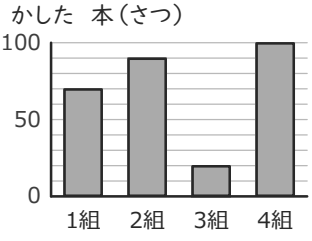

4組の 数は いくつ？

＿＿＿＿＿＿

（たんいも 書こう）

⑫

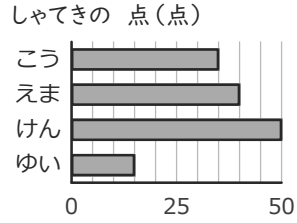

えまは 何点ですか。

＿＿＿＿＿＿ 点

小3 ぼうグラフ とっくんドリル①-4

1目もり・たんい・よこ向き・じゅんい（12問）

なまえ ＿＿＿＿＿＿＿＿

学習日 ＿＿＿＿＿＿＿＿

・グラフの 題と 1目もりの 大きさを 先に 見る
・答えは 下線に 書く

①

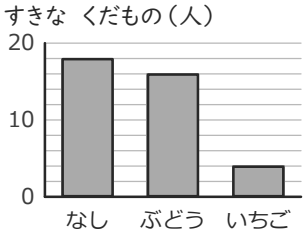

ぶどうは
何人ですか。

＿＿＿＿＿＿ 人

②

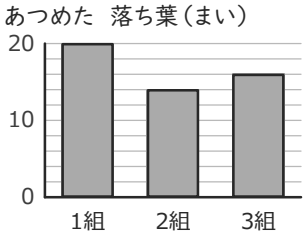

少ない 方から
2ばんめは
どれですか。

＿＿＿＿＿＿

③

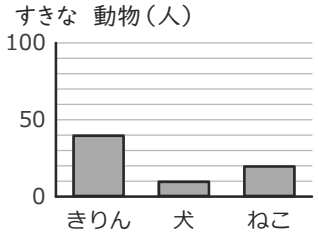

きりんは
何人ですか。

＿＿＿＿＿＿ 人

④

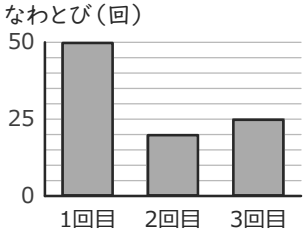

いちばん
少ないのは
どれですか。

＿＿＿＿＿＿

⑤

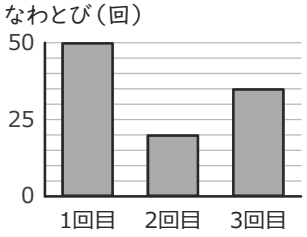

2回目は
何回ですか。

＿＿＿＿＿＿ 回

⑥

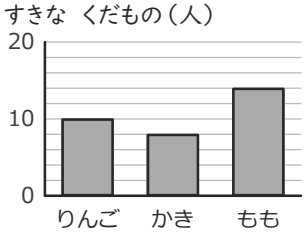

少ない 方から
2ばんめは
どれですか。

＿＿＿＿＿＿

⑦

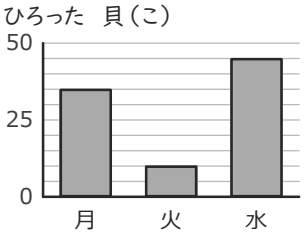

このグラフの
1目もりは
いくつですか。

＿＿＿＿＿＿

⑧

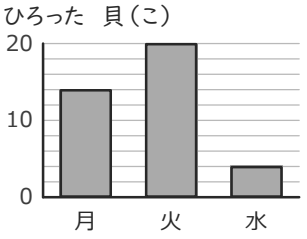

少ない 方から
2ばんめは
どれですか。

＿＿＿＿＿＿

⑨

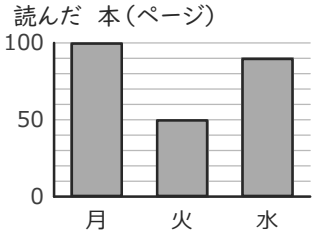

このグラフの
1目もりは
いくつですか。

＿＿＿＿＿＿

⑩

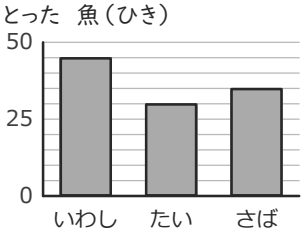

いちばん
少ないのは
どれですか。

＿＿＿＿＿＿

⑪

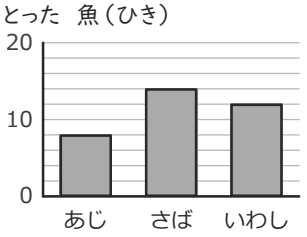

このグラフの
1目もりは
いくつですか。

＿＿＿＿＿＿

⑫

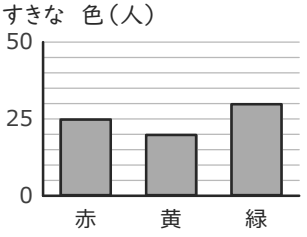

いちばん
少ないのは
どれですか。

＿＿＿＿＿＿

いちごドリル プリント

解きおわったら よんでね
答えと次の1枚がひらきます

小3 ぼうグラフ とっくんドリル①-5

1目もり・たんい・よこ向き・じゅんい（12問）

なまえ ＿＿＿＿＿＿＿＿

学習日 ＿＿＿＿＿＿＿＿

・グラフの 題と 1目もりの 大きさを 先に 見る
・答えは 下線に 書く

①

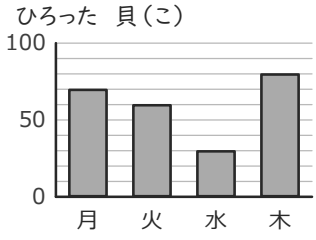

木よう日の 数は
いくつ？

＿＿＿＿＿＿
（たんいも 書こう）

②

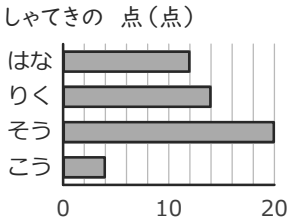

りくは
何点ですか。

＿＿＿＿＿＿ 点

③

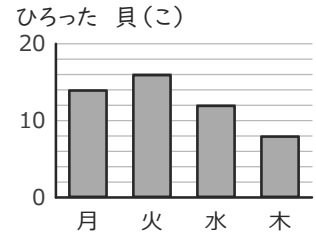

水よう日の 数は
いくつ？

＿＿＿＿＿＿
（たんいも 書こう）

④

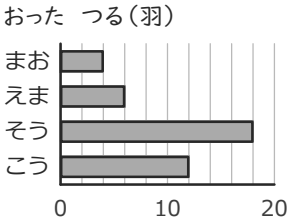

まおは
何羽ですか。

＿＿＿＿＿＿ 羽

⑤

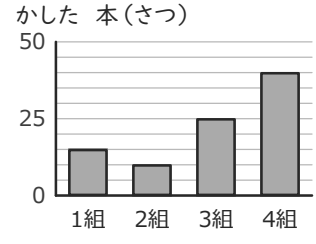

4組の 数は
いくつ？

＿＿＿＿＿＿
（たんいも 書こう）

⑥

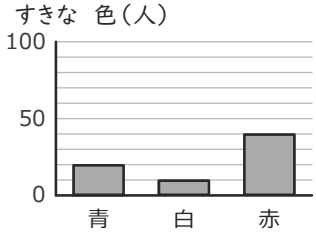

多い 方から
2ばんめは
どれですか。

＿＿＿＿＿＿

⑦

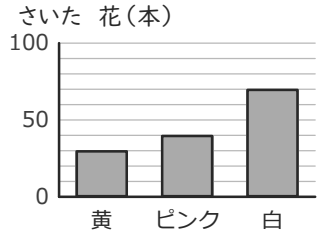

ピンクの 数は
いくつ？

＿＿＿＿＿＿
（たんいも 書こう）

⑧

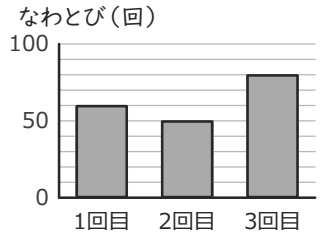

多い 方から
2ばんめは
どれですか。

＿＿＿＿＿＿

⑨

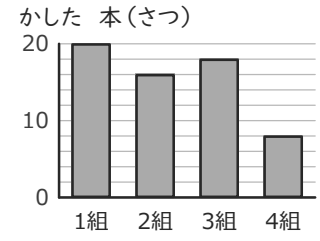

2組の 数は
いくつ？

＿＿＿＿＿＿
（たんいも 書こう）

⑩

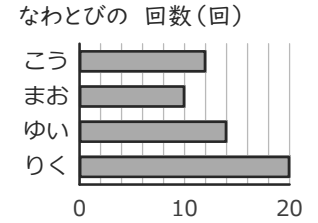

まおは
何回ですか。

＿＿＿＿＿＿ 回

⑪

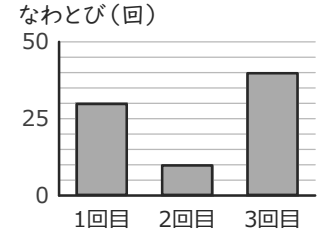

3回目の 数は
いくつ？

＿＿＿＿＿＿
（たんいも 書こう）

⑫

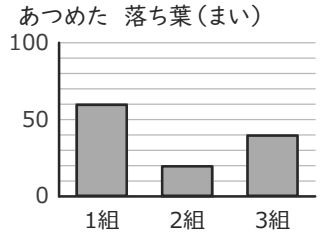

多い 方から
2ばんめは
どれですか。

＿＿＿＿＿＿

小3 ぼうグラフ とっくんドリル②-1

ぼうを かく・正の字・その他（12問）

なまえ ＿＿＿＿＿＿＿＿

学習日 ＿＿＿＿＿＿＿＿

・ぼうは 1目もりの 大きさに 合わせて かく
・正の字は 1つで 5

① ひょうを ぼうグラフに かこう。

ひょう

曜日	数
月	10
火	6
水	8

ひろった 貝（こ）

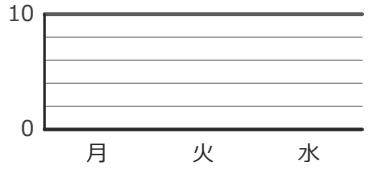

② 正正下 ひろった どんぐりを 正の字で 数えました。何こですか。

＿＿＿＿＿＿ こ

③ ひょうを ぼうグラフに かこう。

ひょう

花	数
ピンク	4
黄	6
白	10

さいた 花（本）

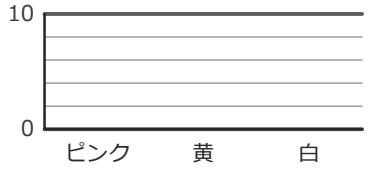

④ 正下 とんだ 回数を 正の字で 数えました。何回ですか。

＿＿＿＿＿＿ 回

⑤ ひょうを ぼうグラフに かこう。

ひょう

花	数
赤	10
ピンク	8
黄	4

さいた 花（本）

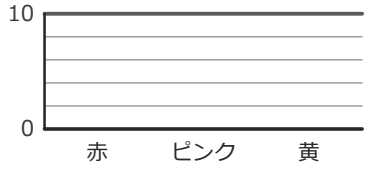

⑥ 正正丅 入った ボールを 正の字で 数えました。何こですか。

＿＿＿＿＿＿ こ

⑦ ひょうを ぼうグラフに かこう。

ひょう

魚	数
あじ	8
さば	10
いわし	4

とった 魚（ひき）

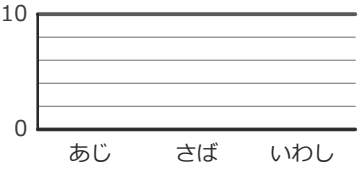

⑧ 正一 入った ボールを 正の字で 数えました。何こですか。

＿＿＿＿＿＿ こ

⑨ ひょうを ぼうグラフに かこう。

ひょう

曜日	数
月	4
火	8
水	6

読んだ 本（ページ）

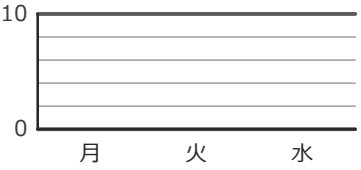

⑩ 正丅 とんだ 回数を 正の字で 数えました。何回ですか。

＿＿＿＿＿＿ 回

⑪ ひょうを ぼうグラフに かこう。

ひょう

動物	数
ねこ	8
パンダ	4
ぞう	6

すきな 動物（人）

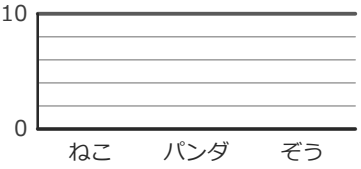

⑫ 正正丅 えらんだ 人を 正の字で 数えました。何人ですか。

＿＿＿＿＿＿ 人

いちごドリル プリント

解きおわったら よんでね
答えと次の1枚がひらきます

小3 ぼうグラフ とっくんドリル②-2

ぼうを かく・正の字・その他（12問）

なまえ ＿＿＿＿＿＿＿＿

学習日 ＿＿＿＿＿＿＿＿

・ぼうは 1目もりの 大きさに 合わせて かく
・正の字は 1つで 5

①

ひょうを ぼうグラフに かこう。

ひょう

曜日	数
月	10
火	20
水	15

ひろった 貝（こ）

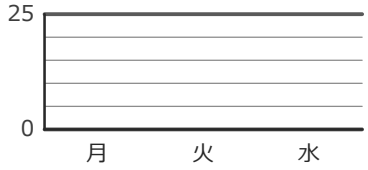

②

しゅるい	数(人)
ダンス	2
やきゅう	13
サッカー	4
水えい	1
たっきゅう	6

多い 2つ いがいを まとめた「その他」は 何人ですか。

＿＿＿＿＿＿ 人

③

ひょうを ぼうグラフに かこう。

ひょう

色	数
青	10
赤	25
黄	15

すきな 色（人）



④

しゅるい	数(人)
サッカー	6
水えい	1
ダンス	3
たっきゅう	14
テニス	5

多い 2つ いがいを まとめた「その他」は 何人ですか。

＿＿＿＿＿＿ 人

⑤

ひょうを ぼうグラフに かこう。

ひょう

花	数
黄	25
ピンク	20
赤	15

さいた 花（本）

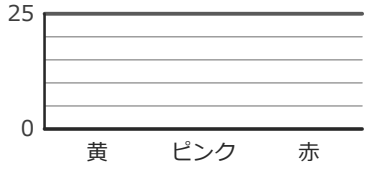

⑥

しゅるい	数(人)
金魚	13
小鳥	12
かめ	7
うさぎ	4
犬	10

多い 2つ いがいを まとめた「その他」は 何人ですか。

＿＿＿＿＿＿ 人

⑦

ひょうを ぼうグラフに かこう。

ひょう

曜日	数
月	15
火	10
水	20

ひろった 貝（こ）

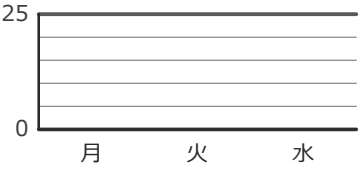

⑧

しゅるい	数(人)
犬	3
うさぎ	14
小鳥	9
金魚	3
ねこ	12

多い 2つ いがいを まとめた「その他」は 何人ですか。

＿＿＿＿＿＿ 人

⑨

ひょうを ぼうグラフに かこう。

ひょう

曜日	数
月	15
火	25
水	20

ひろった 貝（こ）

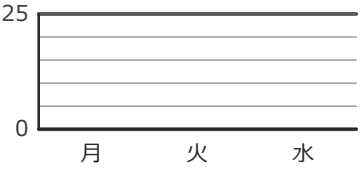

⑩

しゅるい	数(人)
ダンス	6
やきゅう	4
サッカー	14
テニス	6
たっきゅう	13

多い 2つ いがいを まとめた「その他」は 何人ですか。

＿＿＿＿＿＿ 人

⑪

ひょうを ぼうグラフに かこう。

ひょう

曜日	数
月	25
火	10
水	20

読んだ 本（ページ）

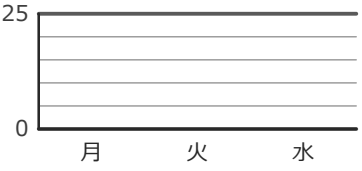

⑫

しゅるい	数(人)
水えい	3
サッカー	5
テニス	8
ダンス	4
やきゅう	12

多い 2つ いがいを まとめた「その他」は 何人ですか。

＿＿＿＿＿＿ 人

いちごドリル プリント

解きおわったら よんでね
答えと次の1枚がひらきます

小3 ぼうグラフ とっくんドリル②-3

ぼうを かく・正の字・その他（12問）

なまえ ＿＿＿＿＿＿＿＿

学習日 ＿＿＿＿＿＿＿＿

・ぼうは 1目もりの 大きさに 合わせて かく
・正の字は 1つで 5

① ひょうを ぼうグラフに かこう。

ひょう

曜日	数
月	20
火	10
水	40

ひろった 貝（こ）

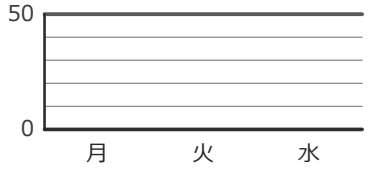

② 正正正丅 ひろった どんぐりを 正の字で 数えました。何こですか。

＿＿＿＿＿＿ こ

③ ひょうを ぼうグラフに かこう。

ひょう

曜日	数
月	40
火	20
水	30

読んだ 本（ページ）

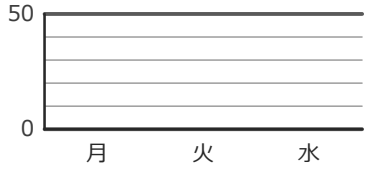

④ 正正正正一 とんだ 回数を 正の字で 数えました。何回ですか。

＿＿＿＿＿＿ 回

⑤ ひょうを ぼうグラフに かこう。

ひょう

回	数
1回目	10
2回目	30
3回目	20

なわとび（回）

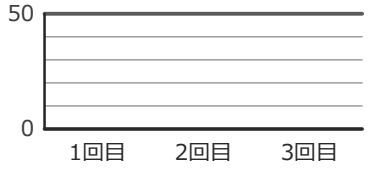

⑥ 正正正正下 とんだ 回数を 正の字で 数えました。何回ですか。

＿＿＿＿＿＿ 回

⑦ ひょうを ぼうグラフに かこう。

ひょう

曜日	数
月	40
火	20
水	10

読んだ 本（ページ）

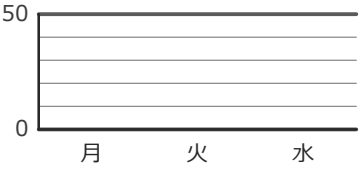

⑧ 正正正正丅 入った ボールを 正の字で 数えました。何こですか。

＿＿＿＿＿＿ こ

⑨ ひょうを ぼうグラフに かこう。

ひょう

花	数
ピンク	20
黄	30
赤	10

さいた 花（本）

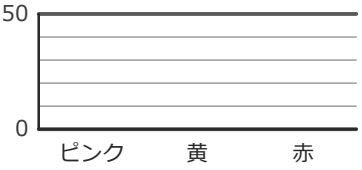

⑩ 正正正正丅 入った ボールを 正の字で 数えました。何こですか。

＿＿＿＿＿＿ こ

⑪ ひょうを ぼうグラフに かこう。

ひょう

動物	数
きりん	20
犬	30
ねこ	40

すきな 動物（人）

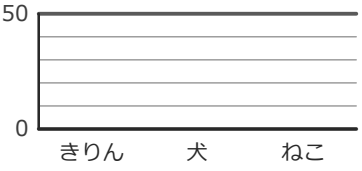

⑫ 正正正丅 入った ボールを 正の字で 数えました。何こですか。

＿＿＿＿＿＿ こ

小3 ぼうグラフ とっくんドリル②-4

ぼうを かく・正の字・その他（12問）

なまえ ＿＿＿＿＿＿＿＿

学習日 ＿＿＿＿＿＿＿＿

・ぼうは 1目もりの 大きさに 合わせて かく
・正の字は 1つで 5

① ひょうを ぼうグラフに かこう。

ひょう

組	数
1組	10
2組	40
3組	20



②

しゅるい	数(人)
うどん	8
すし	2
パン	7
ピザ	1
カレー	6
ラーメン	4

多い 3つ いがいを まとめた「その他」は 何人ですか。

＿＿＿＿＿＿ 人

③ 1目もり2で ぼうを かこう。
□には たての 数を 書こう。

ひょう

曜日	数
月	8
火	6
水	4

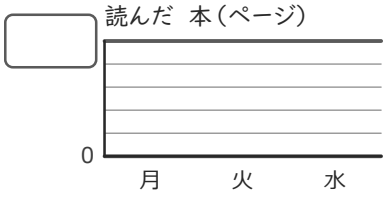

④

しゅるい	数(人)
すし	10
カレー	13
うどん	13
ラーメン	11
ピザ	9
パン	7

多い 3つ いがいを まとめた「その他」は 何人ですか。

＿＿＿＿＿＿ 人

⑤ 1目もり2で ぼうを かこう。
□には たての 数を 書こう。

ひょう

くだもの	数
メロン	8
かき	10
ぶどう	6

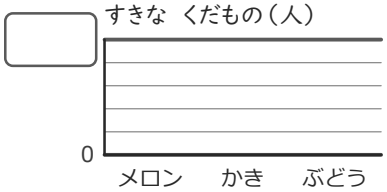

⑥

しゅるい	数(人)
カレー	14
パン	6
すし	9
ラーメン	8
ピザ	7
うどん	2

多い 3つ いがいを まとめた「その他」は 何人ですか。

＿＿＿＿＿＿ 人

⑦ ひょうを ぼうグラフに かこう。

ひょう

魚	数
たい	20
いわし	25
さば	10

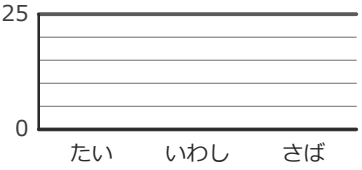

⑧

しゅるい	数(人)
ダンス	14
サッカー	4
たっきゅう	13
やきゅう	3
テニス	5
水えい	9

多い 3つ いがいを まとめた「その他」は 何人ですか。

＿＿＿＿＿＿ 人

⑨ 1目もり10で ぼうを かこう。
□には たての 数を 書こう。

ひょう

くだもの	数
かき	20
ぶどう	40
もも	10

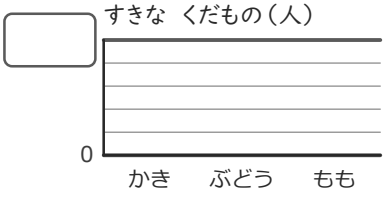

⑩

しゅるい	数(人)
たっきゅう	10
やきゅう	10
テニス	2
サッカー	6
ダンス	13
水えい	2

多い 3つ いがいを まとめた「その他」は 何人ですか。

＿＿＿＿＿＿ 人

⑪ 1目もり5で ぼうを かこう。
□には たての 数を 書こう。

ひょう

曜日	数
月	20
火	10
水	15

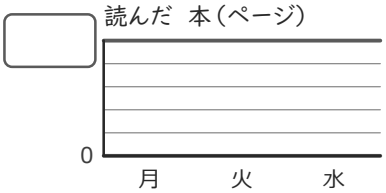

⑫

しゅるい	数(人)
やきゅう	7
水えい	4
ダンス	4
たっきゅう	3
テニス	11
サッカー	9

多い 3つ いがいを まとめた「その他」は 何人ですか。

＿＿＿＿＿＿ 人

小3 ぼうグラフ とっくんドリル②-5

ぼうを かく・正の字・その他（12問）

なまえ ＿＿＿＿＿＿＿＿

学習日 ＿＿＿＿＿＿＿＿

・ぼうは 1目もりの 大きさに 合わせて かく
・正の字は 1つで 5

① ひょうを ぼうグラフに かこう。

ひょう

曜日	数
月	20
火	15
水	25

読んだ 本（ページ）

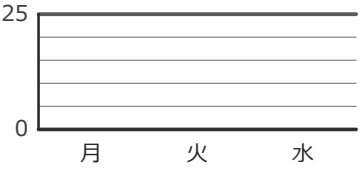

② 正正正下 入った ボールを 正の字で 数えました。何こですか。

＿＿＿＿＿＿ こ

③ ひょうを ぼうグラフに かこう。

ひょう

回	数
1回目	10
2回目	4
3回目	6

なわとび（回）

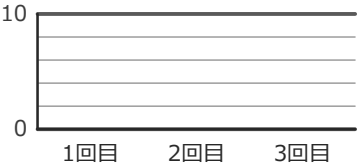

④

しゅるい	数(人)
うさぎ	11
小鳥	2
ねこ	5
かめ	12
金魚	1

多い 2つ いがいを まとめた「その他」は 何人ですか。

＿＿＿＿＿＿ 人

⑤ ひょうを ぼうグラフに かこう。

ひょう

魚	数
いわし	4
さば	10
たい	6

とった 魚（ひき）

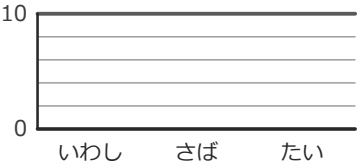

⑥ 正正正一 ひろった どんぐりを 正の字で 数えました。何こですか。

＿＿＿＿＿＿ こ

⑦ ひょうを ぼうグラフに かこう。

ひょう

魚	数
たい	20
さば	25
いわし	15

とった 魚（ひき）

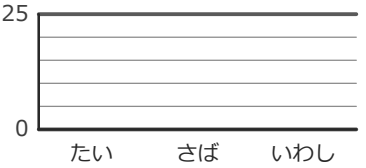

⑧

しゅるい	数(人)
金魚	11
犬	1
ねこ	5
小鳥	5
かめ	6

多い 2つ いがいを まとめた「その他」は 何人ですか。

＿＿＿＿＿＿ 人

⑨ ひょうを ぼうグラフに かこう。

ひょう

動物	数
うさぎ	25
きりん	20
ねこ	10

すきな 動物（人）

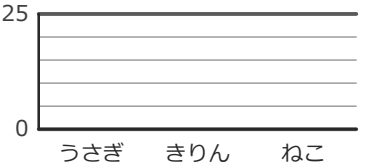

⑩ 正正正正丅 とんだ 回数を 正の字で 数えました。何回ですか。

＿＿＿＿＿＿ 回

⑪ ひょうを ぼうグラフに かこう。

ひょう

動物	数
ねこ	6
きりん	4
パンダ	8

すきな 動物（人）

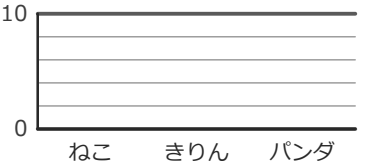

⑫

しゅるい	数(人)
ラーメン	7
すし	2
パン	9
ピザ	8
カレー	6

多い 2つ いがいを まとめた「その他」は 何人ですか。

＿＿＿＿＿＿ 人

小3 ぼうグラフ とっくんドリル③-1

2つの グラフ・ひょうの 合計（12問）

なまえ ＿＿＿＿＿＿＿＿

学習日 ＿＿＿＿＿＿＿＿

答えは 下線に 書く（2つの グラフは 1目もりを べつべつに 見る）

① 鳥が すきな 人は、1組は 2組より 何人 多いですか。

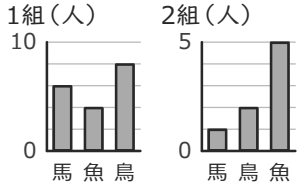

＿＿＿＿＿＿ 人

②

	晴れ	雨	合計
1組	12	6	18
2組	9	9	18
合計	21	15	**あ**

ひょうの あに 入る 数は いくつですか。

＿＿＿＿＿＿

③ 黄が すきな 人は、4組は 3組より 何人 多いですか。

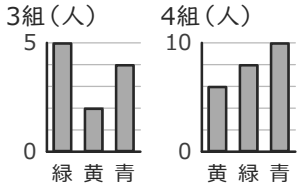

＿＿＿＿＿＿ 人

④

	晴れ	雨	合計
1組	9	10	19
2組	12	13	25
合計	21	23	**あ**

ひょうの あに 入る 数は いくつですか。

＿＿＿＿＿＿

⑤ 馬が すきな 人は、1組は 2組より 何人 多いですか。

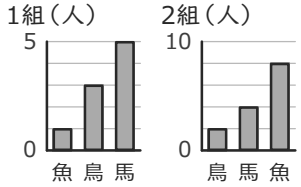

＿＿＿＿＿＿ 人

⑥

	晴れ	雨	合計
1組	6	13	19
2組	9	6	15
合計	15	19	**あ**

ひょうの あに 入る 数は いくつですか。

＿＿＿＿＿＿

⑦ 青が すきな 人は、2組は 1組より 何人 多いですか。

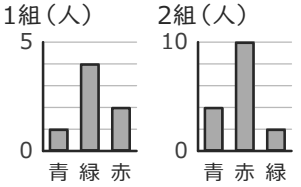

＿＿＿＿＿＿ 人

⑧

	晴れ	雨	合計
1組	8	7	15
2組	6	8	14
合計	14	15	**あ**

ひょうの あに 入る 数は いくつですか。

＿＿＿＿＿＿

⑨ 牛が すきな 人は、3組は 4組より 何人 多いですか。

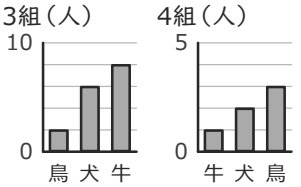

＿＿＿＿＿＿ 人

⑩

	男	女	合計
1組	9	13	22
2組	15	12	27
合計	24	25	**あ**

ひょうの あに 入る 数は いくつですか。

＿＿＿＿＿＿

⑪ 牛が すきな 人は、1組は 2組より 何人 多いですか。

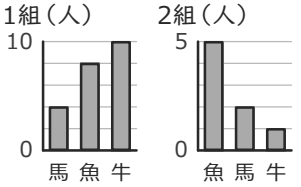

＿＿＿＿＿＿ 人

⑫

	男	女	合計
1組	14	10	24
2組	9	15	24
合計	23	25	**あ**

ひょうの あに 入る 数は いくつですか。

＿＿＿＿＿＿

小3 ぼうグラフ とっくんドリル③-2

2つの グラフ・ひょうの 合計（12問）

なまえ ＿＿＿＿＿＿

学習日 ＿＿＿＿＿＿

答えは 下線に 書く（2つの グラフは 1目もりを べつべつに 見る）

① 馬が すきな 人は、1組は 2組より 何人 多いですか。

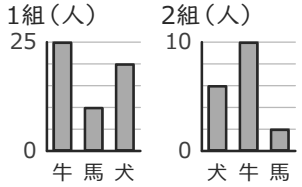

＿＿＿＿＿＿ 人

②

3組

なまえ	人数
ぶどう	7
りんご	4
いちご	8

4組

なまえ	人数
りんご	9
ぶどう	10
いちご	12

2つの 組を あわせると、ぶどうは 何人ですか。

＿＿＿＿＿＿ 人

③ 緑が すきな 人が 多いのは、どちらの 組ですか。

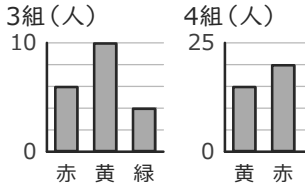

＿＿＿＿＿＿

④

3組

なまえ	人数
いちご	4
りんご	8
ぶどう	4

4組

なまえ	人数
ぶどう	5
いちご	3
りんご	6

2つの 組を あわせると、りんごは 何人ですか。

＿＿＿＿＿＿ 人

⑤ 赤が すきな 人は、3組は 4組より 何人 多いですか。

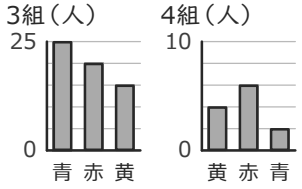

＿＿＿＿＿＿ 人

⑥

3組

なまえ	人数
なし	5
りんご	3
いちご	8

4組

なまえ	人数
りんご	7
いちご	11
なし	11

2つの 組を あわせると、りんごは 何人ですか。

＿＿＿＿＿＿ 人

⑦ 鳥が すきな 人が 多いのは、どちらの 組ですか。

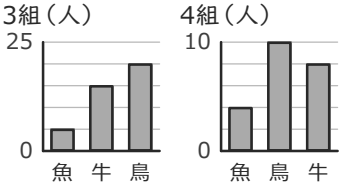

＿＿＿＿＿＿

⑧

3組

なまえ	人数
いちご	9
もも	4
りんご	10

4組

なまえ	人数
いちご	4
りんご	6
もも	9

2つの 組を あわせると、ももは 何人ですか。

＿＿＿＿＿＿ 人

⑨ 牛が すきな 人が 多いのは、どちらの 月ですか。

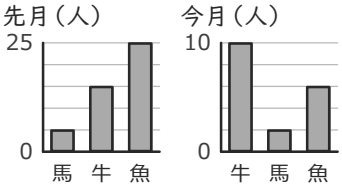

＿＿＿＿＿＿

⑩

1組

なまえ	人数
なし	10
みかん	8
ぶどう	5

2組

なまえ	人数
ぶどう	6
なし	9
みかん	5

2つの 組を あわせると、ぶどうは 何人ですか。

＿＿＿＿＿＿ 人

⑪ 青が すきな 人が 多いのは、どちらの 組ですか。

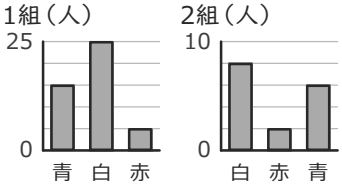

＿＿＿＿＿＿

⑫

1組

なまえ	人数
いちご	12
りんご	12
みかん	12

2組

なまえ	人数
りんご	8
みかん	3
いちご	9

2つの 組を あわせると、りんごは 何人ですか。

＿＿＿＿＿＿ 人

いちごドリル プリント

解きおわったら よんでね
答えと次の1枚がひらきます

小3 ぼうグラフ とっくんドリル③-3

2つの グラフ・ひょうの 合計（12問）

なまえ ＿＿＿＿＿＿＿＿

学習日 ＿＿＿＿＿＿＿＿

答えは 下線に 書く（2つの グラフは 1目もりを べつべつに 見る）

① 犬が すきな 人は、今月は 先月より 何人 ふえましたか。

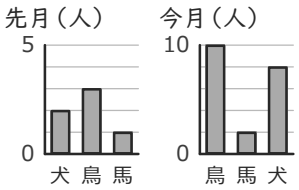

＿＿＿＿＿＿ 人

②

	犬	ねこ	鳥	合計
1組	9	6	9	あ
2組	10	12	12	34

ひょうの あに 入る 数は いくつですか。

＿＿＿＿＿＿

③ 白が すきな 人は、今月は 先月より 何人 ふえましたか。

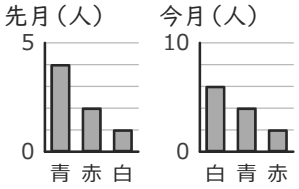

＿＿＿＿＿＿ 人

④

	月	火	水	合計
1組	3	9	6	あ
2組	6	11	10	27

ひょうの あに 入る 数は いくつですか。

＿＿＿＿＿＿

⑤ 白が すきな 人は、今月は 先月より 何人 ふえましたか。

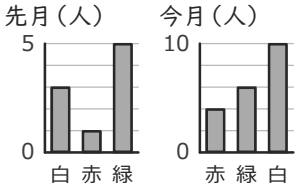

＿＿＿＿＿＿ 人

⑥

	月	火	水	合計
1組	5	5	7	17
2組	3	8	9	あ

ひょうの あに 入る 数は いくつですか。

＿＿＿＿＿＿

⑦ 青が すきな 人は、今月は 先月より 何人 ふえましたか。

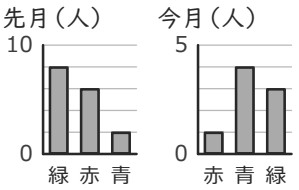

＿＿＿＿＿＿ 人

⑧

	赤	青	黄	合計
1組	6	11	4	21
2組	3	4	3	あ

ひょうの あに 入る 数は いくつですか。

＿＿＿＿＿＿

⑨ 赤が すきな 人は、今月は 先月より 何人 ふえましたか。

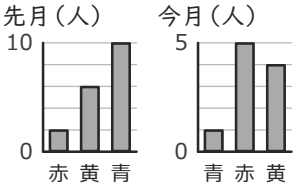

＿＿＿＿＿＿ 人

⑩

	犬	ねこ	鳥	合計
1組	7	11	11	あ
2組	8	11	5	24

ひょうの あに 入る 数は いくつですか。

＿＿＿＿＿＿

⑪ 犬が すきな 人は、今月は 先月より 何人 ふえましたか。

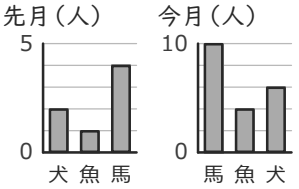

＿＿＿＿＿＿ 人

⑫

	月	火	水	合計
1組	12	6	12	あ
2組	7	7	7	21

ひょうの あに 入る 数は いくつですか。

＿＿＿＿＿＿

小3 ぼうグラフ とっくんドリル③-4

2つの グラフ・ひょうの 合計（12問）

なまえ ＿＿＿＿＿＿＿＿

学習日 ＿＿＿＿＿＿＿＿

答えは 下線に 書く（2つの グラフは 1目もりを べつべつに 見る）

① 緑が すきな 人は、1組は 2組より 何人 多いですか。

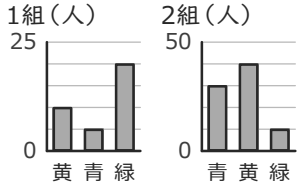

＿＿＿＿＿＿ 人

②

	午前	午後	合計
1組	7	8	15
2組	15	14	29
合計	22	22	**あ**

ひょうの あに 入る 数は いくつですか。

＿＿＿＿＿＿

③ 馬が すきな 人は、2組は 1組より 何人 多いですか。

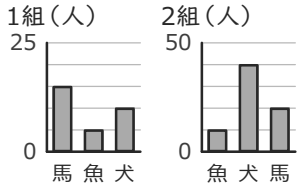

＿＿＿＿＿＿ 人

④

	赤	青	黄	合計
1組	6	4	8	**あ**
2組	4	9	6	19

ひょうの あに 入る 数は いくつですか。

＿＿＿＿＿＿

⑤ 犬が すきな 人は、1組は 2組より 何人 多いですか。

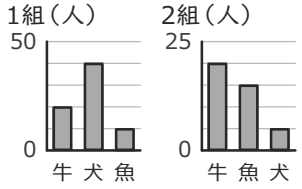

＿＿＿＿＿＿ 人

⑥

	晴れ	雨	合計
1組	8	6	14
2組	9	12	21
合計	17	18	**あ**

ひょうの あに 入る 数は いくつですか。

＿＿＿＿＿＿

⑦ 犬が すきな 人は、4組は 3組より 何人 多いですか。

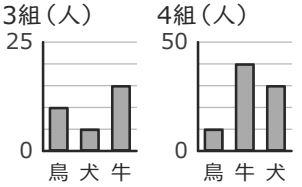

＿＿＿＿＿＿ 人

⑧

	午前	午後	合計
1組	5	9	14
2組	12	8	20
合計	17	17	**あ**

ひょうの あに 入る 数は いくつですか。

＿＿＿＿＿＿

⑨ 魚が すきな 人は、1組は 2組より 何人 多いですか。

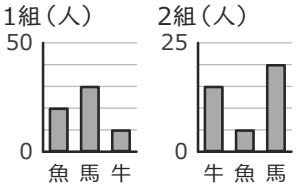

＿＿＿＿＿＿ 人

⑩

	犬	ねこ	鳥	合計
1組	6	9	5	20
2組	7	5	7	**あ**

ひょうの あに 入る 数は いくつですか。

＿＿＿＿＿＿

⑪ 青が すきな 人は、2組は 1組より 何人 多いですか。

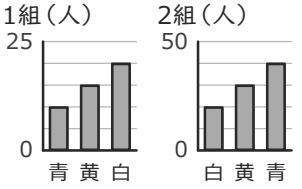

＿＿＿＿＿＿ 人

⑫

	赤	青	黄	合計
1組	3	11	3	**あ**
2組	7	10	5	22

ひょうの あに 入る 数は いくつですか。

＿＿＿＿＿＿

いちごドリル プリント

解きおわったら よんでね
答えと次の1枚がひらきます

小3 ぼうグラフ とっくんドリル③-5

2つの グラフ・ひょうの 合計（12問）

なまえ ＿＿＿＿＿＿＿＿

学習日 ＿＿＿＿＿＿＿＿

答えは 下線に 書く（2つの グラフは 1目もりを べつべつに 見る）

① 犬が すきな 人は、今月は 先月より 何人 ふえましたか。

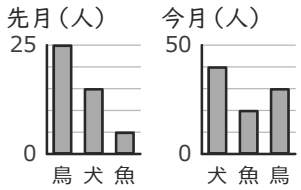

＿＿＿＿＿＿ 人

②

1組

なまえ	人数
もも	10
みかん	12
ぶどう	12

2組

なまえ	人数
ぶどう	12
もも	9
みかん	10

2つの 組を あわせると、ぶどうは 何人ですか。

＿＿＿＿＿＿ 人

③ 鳥が すきな 人が 多いのは、どちらの 組ですか。

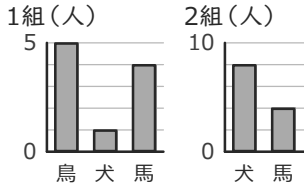

＿＿＿＿＿＿

④

1組

なまえ	人数
ぶどう	5
りんご	3
なし	3

2組

なまえ	人数
りんご	2
ぶどう	9
なし	2

2つの 組を あわせると、ぶどうは 何人ですか。

＿＿＿＿＿＿ 人

⑤ 馬が すきな 人が 多いのは、どちらの 月ですか。

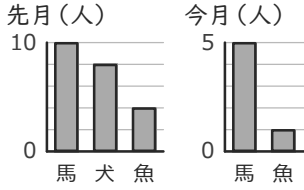

＿＿＿＿＿＿

⑥

	晴れ	雨	合計
1組	6	7	13
2組	9	10	19
合計	15	17	**あ**

ひょうの あに 入る 数は いくつですか。

＿＿＿＿＿＿

⑦ 魚が すきな 人は、3組は 4組より 何人 多いですか。

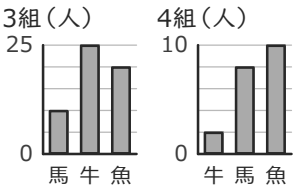

＿＿＿＿＿＿ 人

⑧

	赤	青	黄	合計
1組	5	5	10	**あ**
2組	6	8	3	17

ひょうの あに 入る 数は いくつですか。

＿＿＿＿＿＿

⑨ 魚が すきな 人は、今月は 先月より 何人 ふえましたか。

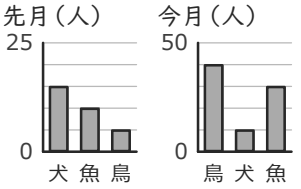

＿＿＿＿＿＿ 人

⑩

	赤	青	黄	合計
1組	9	8	9	26
2組	8	11	4	**あ**

ひょうの あに 入る 数は いくつですか。

＿＿＿＿＿＿

⑪ 犬が すきな 人は、4組は 3組より 何人 多いですか。

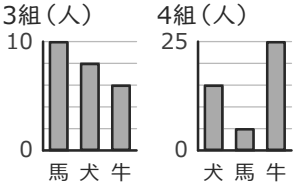

＿＿＿＿＿＿ 人

⑫

	午前	午後	合計
1組	13	13	26
2組	6	14	20
合計	19	27	**あ**

ひょうの あに 入る 数は いくつですか。

＿＿＿＿＿＿

いちごドリル プリント

解きおわったら よんでね
答えと次の1枚がひらきます

小3 ぼうグラフ そうごうテスト（その2）

つまずきを6つ、2問ずつ（100点）

なまえ ＿＿＿＿＿＿＿＿

学習日 ＿＿＿＿＿＿＿＿

答えは 下線に 書く（ぼうグラフの 問題は グラフの 線に 合わせて ぼうを かく）

① 8点

ももが すきな 人は、今月は
先月より 何人 ふえましたか。

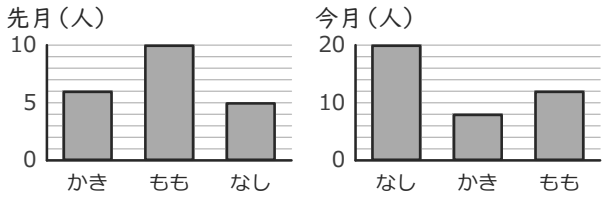

＿＿＿＿＿＿ 人

② 8点

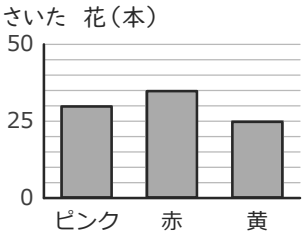

黄は
何本ですか。

＿＿＿＿＿＿ 本

③ 8点

ひょうを ぼうグラフに かこう。

ひょう

魚	数
たい	40
あじ	30
さば	10

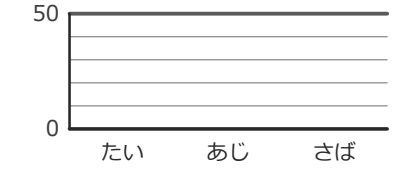

④ 8点

正正正正一

ひろった どんぐりを
正の字で 数えました。
何こですか。

＿＿＿＿＿＿ こ

⑤ 8点

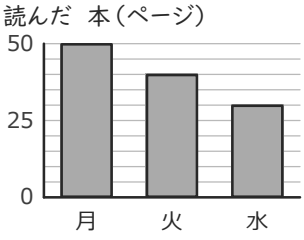

いちばん
少ないのは
どれですか。

＿＿＿＿＿＿

⑥ 8点

しゅるい	数(人)
小鳥	12
ねこ	1
犬	11
かめ	12
金魚	1

多い 2つ いがいを
まとめた「その他」は
何人ですか。

＿＿＿＿＿＿ 人

⑦ 8点

うしが すきな 人が
多いのは、どちらの 組ですか。

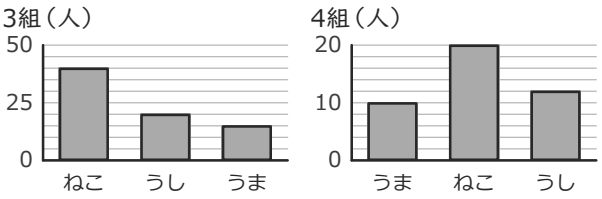

＿＿＿＿＿＿

⑧ 8点

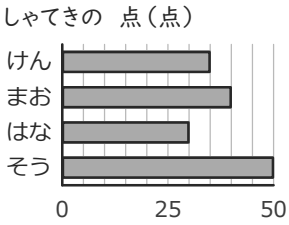

まおは
何点ですか。

＿＿＿＿＿＿ 点

⑨ 9点

ひょうを ぼうグラフに かこう。

ひょう

動物	数
ねこ	4
ぞう	10
うさぎ	8



⑩ 9点

	赤	青	黄	合計
1組	7	3	5	あ
2組	10	8	5	23

ひょうの あに
入る 数は
いくつですか。

＿＿＿＿＿＿

⑪ 9点

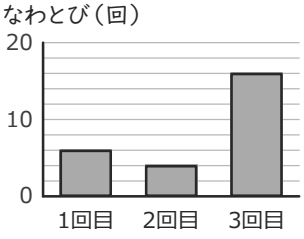

3回目の 数は
いくつ？

＿＿＿＿＿＿

（たんいも 書こう）

⑫ 9点

3組

なまえ	人数
もも	11
みかん	5
ぶどう	12

4組

なまえ	人数
みかん	2
もも	7
ぶどう	7

2つの 組を
あわせると、
みかんは 何人ですか。

＿＿＿＿＿＿ 人

小3 ぼうグラフ そうごうテスト（その3）

つまずきを6つ、2問ずつ（100点）

なまえ ＿＿＿＿＿＿＿＿

学習日 ＿＿＿＿＿＿＿＿

答えは 下線に 書く（ぼうグラフの 問題は グラフの 線に 合わせて ぼうを かく）

① 8点

うまが すきな 人は、3組は
4組より 何人 多いですか。

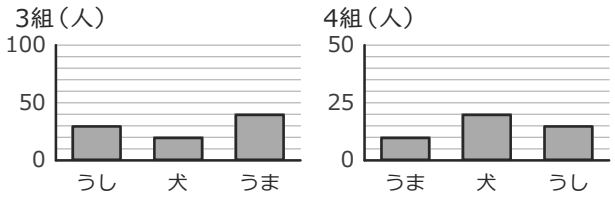

＿＿＿＿＿＿ 人

② 8点

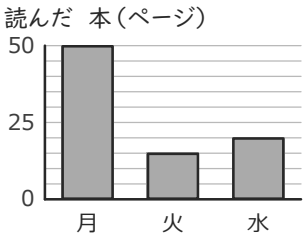

このグラフの
1目もりは
いくつですか。

＿＿＿＿＿＿

③ 8点

しゅるい	数(人)
小鳥	5
犬	10
うさぎ	14
かめ	12
金魚	7
ねこ	5

多い 3つ いがいを
まとめた「その他」は
何人ですか。

＿＿＿＿＿＿ 人

④ 8点

1目もり5で ぼうを かこう。
□には たての 数を 書こう。

ひょう

花	数
赤	20
ピンク	10
白	25

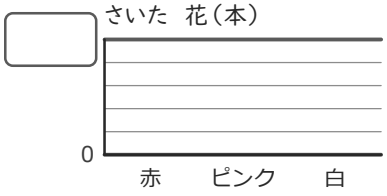

⑤ 8点

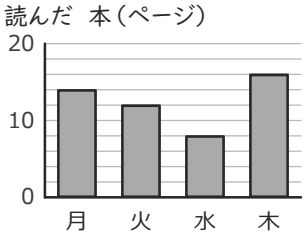

多い 方から
3ばんめは
どれですか。

＿＿＿＿＿＿

⑥ 8点

正正正下

えらんだ 人を
正の字で 数えました。
何人ですか。

＿＿＿＿＿＿ 人

⑦ 8点

犬が すきな 人が
多いのは、どちらの 組ですか。

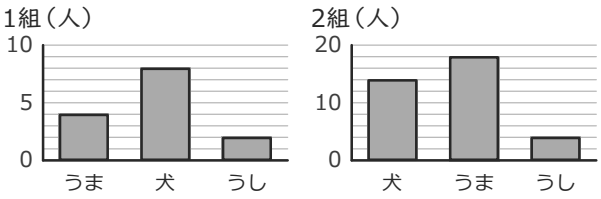

＿＿＿＿＿＿

⑧ 8点

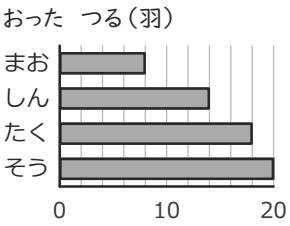

しんは
何羽ですか。

＿＿＿＿＿＿ 羽

⑨ 9点

	晴れ	雨	合計
1組	9	15	24
2組	9	15	24
合計	18	30	あ

ひょうの あに
入る 数は
いくつですか。

＿＿＿＿＿＿

⑩ 9点

ひょうを ぼうグラフに かこう。

ひょう

回	数
1回目	8
2回目	6
3回目	10

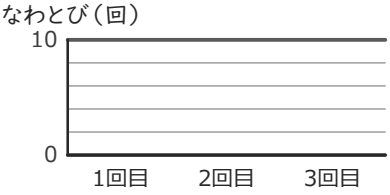

⑪ 9点

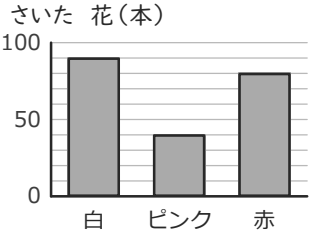

ピンクは
何本ですか。

＿＿＿＿＿＿ 本

⑫ 9点

1組

なまえ	人数
りんご	6
いちご	2
みかん	9

2組

なまえ	人数
みかん	7
りんご	5
いちご	2

2つの 組を
あわせると、
みかんは 何人ですか。

＿＿＿＿＿＿ 人

小3 ぼうグラフ そうごうテスト（その4）

つまずきを6つ、2問ずつ（100点）

なまえ ＿＿＿＿＿＿＿＿

学習日 ＿＿＿＿＿＿＿＿

答えは 下線に 書く（ぼうグラフの 問題は グラフの 線に 合わせて ぼうを かく）

① 8点

うしが すきな 人は、3組は
4組より 何人 多いですか。

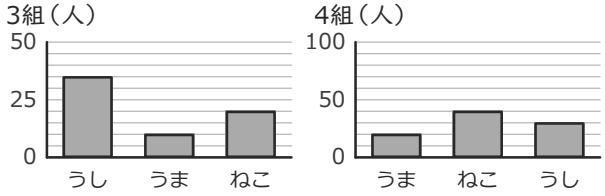

＿＿＿＿＿＿ 人

② 8点

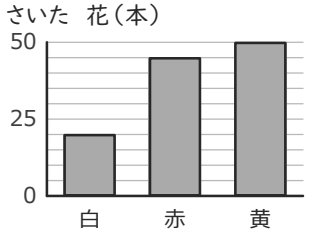

赤の 数は
いくつ？

＿＿＿＿＿＿
（たんいも 書こう）

③ 8点

3組

なまえ	人数
りんご	2
なし	9
みかん	3

4組

なまえ	人数
みかん	8
なし	3
りんご	6

2つの 組を
あわせると、
みかんは 何人ですか。

＿＿＿＿＿＿ 人

④ 8点

ひょうを ぼうグラフに かこう。

ひょう

花	数
赤	30
黄	20
白	40

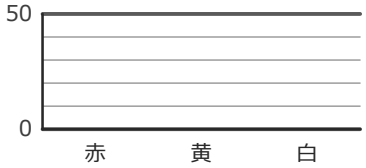

⑤ 8点

しゅるい	数(人)
サッカー	4
テニス	12
やきゅう	10
水えい	3
たっきゅう	14

多い 2つ いがいを
まとめた「その他」は
何人ですか。

＿＿＿＿＿＿ 人

⑥ 8点

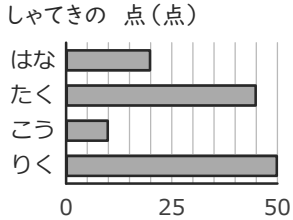

たくは
何点ですか。

＿＿＿＿＿＿ 点

⑦ 8点

なしが すきな 人が
多いのは、どちらの 月ですか。

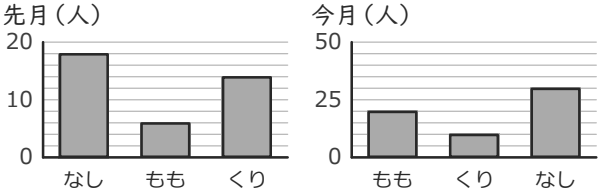

＿＿＿＿＿＿

⑧ 8点

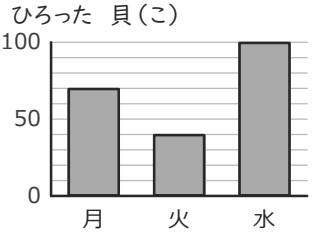

多い 方から
2ばんめは
どれですか。

＿＿＿＿＿＿

⑨ 9点

正正丁

ひろった どんぐりを
正の字で 数えました。
何こですか。

＿＿＿＿＿＿ こ

⑩ 9点

ひょうを ぼうグラフに かこう。

ひょう

組	数
1組	10
2組	20
3組	25

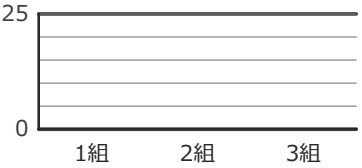

⑪ 9点

	月	火	水	合計
1組	10	3	10	あ
2組	7	9	4	20

ひょうの あに
入る 数は
いくつですか。

＿＿＿＿＿＿

⑫ 9点

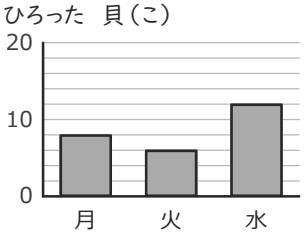

このグラフの
1目もりは
いくつですか。

＿＿＿＿＿＿

小3 ぼうグラフ そうごうテスト（その5）

つまずきを6つ、2問ずつ（100点）

なまえ ＿＿＿＿＿＿＿＿

学習日 ＿＿＿＿＿＿＿＿

答えは 下線に 書く（ぼうグラフの 問題は グラフの 線に 合わせて ぼうを かく）

① 8点

正正正正下

えらんだ 人を
正の字で 数えました。
何人ですか。

＿＿＿＿＿＿ 人

② 8点

ももが すきな 人は、1組は
2組より 何人 多いですか。

1組（人）

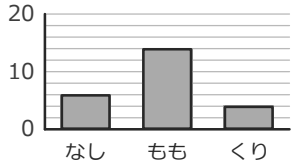

2組（人）

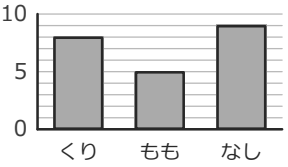

＿＿＿＿＿＿ 人

③ 8点

かした 本（さつ）

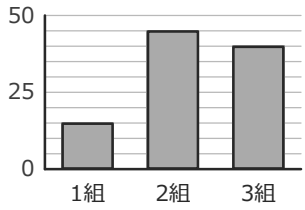

少ない 方から
2ばんめは
どれですか。

＿＿＿＿＿＿

④ 8点

すきな 色（人）

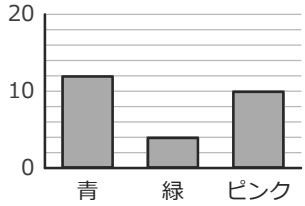

ピンクは
何人ですか。

＿＿＿＿＿＿ 人

⑤ 8点

	午前	午後	合計
1組	10	13	23
2組	13	8	21
合計	23	21	**あ**

ひょうの あに
入る 数は
いくつですか。

＿＿＿＿＿＿

⑥ 8点

ひょうを ぼうグラフに かこう。

ひょう

くだもの	数
メロン	10
りんご	15
かき	25

すきな くだもの（人）

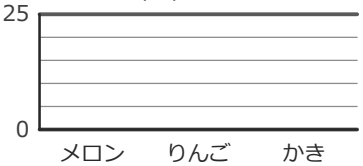

⑦ 8点

3組

なまえ	人数
いちご	3
もも	4
りんご	4

4組

なまえ	人数
りんご	3
もも	10
いちご	9

2つの 組を
あわせると、
りんごは 何人ですか。

＿＿＿＿＿＿ 人

⑧ 8点

なしが すきな 人は、今月は
先月より 何人 ふえましたか。

先月（人）

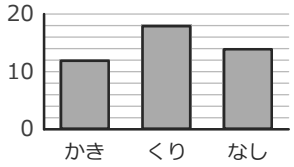

今月（人）

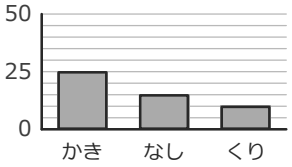

＿＿＿＿＿＿ 人

⑨ 9点

なわとび（回）

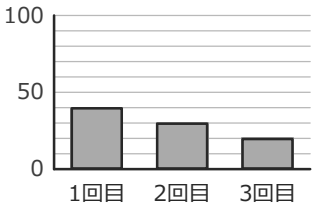

2回目の 数は
いくつ？

＿＿＿＿＿＿

（たんいも 書こう）

⑩ 9点

おった つる（羽）

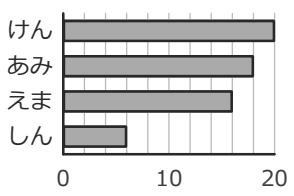

けんは
何羽ですか。

＿＿＿＿＿＿ 羽

⑪ 9点

しゅるい	数(人)
小鳥	2
かめ	10
うさぎ	12
犬	5
ねこ	10
金魚	9

多い 3つ いがいを
まとめた「その他」は
何人ですか。

＿＿＿＿＿＿ 人

⑫ 9点

1目もり2で ぼうを かこう。
□には たての 数を 書こう。

ひょう

動物	数
パンダ	10
うさぎ	4
ぞう	8

□

すきな 動物（人）



いちごドリル プリント

解きおわったら よんでね
答えと次の1枚がひらきます

小3 ぼうグラフ そうごうテスト（その1）【こたえ】

なまえ ＿＿＿＿＿＿＿＿

つまずきごとに2問（2問とも〇なら OK）。ぜんぶ〇なら「そうごうテスト（その2）」へ　学習日 ＿＿＿＿＿＿＿＿

1 1目もりの 大きさ・たんいを まちがえる

→「練習プリント①（目もりを読む）」→「とっくんドリル①」

問1 ぶどうの数（1目もり2）

答え 18人

よくある×：9人
（1目もりを 1と して 目もりの 数（9）を 答える）

問10 木よう日の数（たんい）

答え 35ページ

よくある×：7
（目もりの 数を 答え、題の（ ）の たんいを 見ない）

2 よこ向き・じゅんいを 読みまちがえる

→「練習プリント②（よこ向きと順位）」→「とっくんドリル①」

問4 多い方から2ばんめ

答え こま

よくある×：たこ
（左から 2ばんめを 答える）

問7 よこ向きのけん

答え 10回

よくある×：12回
（となりの 行（あみ）の ぼうを 読む）

3 ぼうの 高さを 目もりに 合わせられない

→「練習プリント③（ぼうをかく）」→「とっくんドリル②」

問3 ひょう→ぼうグラフ（1目もり2）

答え 赤い ぼう
（赤4目もり・青2目もり・黄5目もり）

よくある×：青を 4目もりの 高さに かく
（数を そのまま 目もりの 数に する（1目もりは 2））

問9 ひょう→ぼうグラフ（1目もり5）

答え 赤い ぼう
（あじ4目もり・さば2目もり・いわし5目もり）

よくある×：数の 目もりまで かこうと する
（数を そのまま 目もりの 数に する（1目もりは 5））

4 正の字・「その他」を まちがえる

→「練習プリント④（正の字とひょう）」→「とっくんドリル②」

問2 正の字13

答え 13回

よくある×：3回
（正の字の 字の 数（3）を 答える）

問12 その他の数

答え 11人

よくある×：9人
（その他に 入れる ものを 1つ 入れわすれる）

5 目もりが ちがう 2つの グラフで まちがえる

→「練習プリント⑤（2つのグラフ）」→「とっくんドリル③」

問5 1組と2組の犬のちがい

答え 4人

よくある×：6人
（目もりの 数どうしを ひく（1目もりの 大きさが ちがう））

問11 なしはどちらの組が多い

答え 4組

よくある×：3組
（ぼうの 高さだけで くらべる（1目もりが ちがう））

6 ひょうの 合計・2つの ひょうで まちがえる

→「練習プリント⑥（ひょうの合計）」→「とっくんドリル③」

問6 1組と2組のみかんをあわせる

答え 15人

よくある×：12人
（ならびの ちがう ひょうで、同じ 行どうしを たす）

問8 表の右下の合計

答え 40

よくある×：80
（たての 合計と よこの 合計を 両方 たす）

丸つけ：ぼうは、先が 正しい 目もりの 線の 上なら〇（となりの 線なら×）。たんいを 書く 問題は、数と たんいの 両方で〇。
まちがえたら、まず 練習プリント（ときかたつき）、つぎに とっくんドリルへ。

小3 ぼうグラフ とっくんドリル①-1【こたえ】

なまえ ＿＿＿＿＿＿＿＿

×があったら「①-2」へ。ぜんぶ〇なら つぎの そうごうテストへ

学習日 ＿＿＿＿＿＿＿＿

① ピンクの数（1目もり2）

答え 12人

よくある×：6人

（1目もりを 1と して 目もりの 数（6）を 答える）

② よこ向きのこう

答え 18こ

よくある×：8こ

（となりの 行（あみ）の ぼうを 読む）

③ 水よう日の数（1目もり2）

答え 16こ

よくある×：8こ

（1目もりを 1と して 目もりの 数（8）を 答える）

④ 多い方から2ばんめ

答え 水

よくある×：火

（左から 2ばんめを 答える）

⑤ 1回目の数（1目もり2）

答え 14回

よくある×：7回

（1目もりを 1と して 目もりの 数（7）を 答える）

⑥ よこ向きのそう

答え 20点

よくある×：8点

（となりの 行（えま）の ぼうを 読む）

⑦ 木よう日の数（たんい）

答え 18こ

よくある×：9

（目もりの 数を 答え、題の（ ）の たんいを 見ない）

⑧ 多い方から2ばんめ

答え 水

よくある×：火

（左から 2ばんめを 答える）

⑨ きりんの数（1目もり2）

答え 6人

よくある×：3人

（1目もりを 1と して 目もりの 数（3）を 答える）

⑩ よこ向きのまお

答え 16こ

よくある×：18こ

（となりの 行（ゆい）の ぼうを 読む）

⑪ 2組の数（たんい）

答え 14まい

よくある×：7

（目もりの 数を 答え、題の（ ）の たんいを 見ない）

⑫ よこ向きのみお

答え 8羽

よくある×：12羽

（となりの 行（そう）の ぼうを 読む）

丸つけ：たんいを 書く 問題は、数と たんいの 両方で〇。
×が多い型は、練習プリント①②（ときかたつき）で ときかたを 見直す。

小3 ぼうグラフ とっくんドリル①-2【こたえ】

なまえ ＿＿＿＿＿＿＿＿

×があったら「①-3」へ。ぜんぶ〇なら つぎの そうごうテストへ

学習日 ＿＿＿＿＿＿＿＿

① 月よう日の数（1目もり5）

答え　30こ

よくある×：6こ

（1目もりを 1と して 目もりの 数（6）を 答える）

② 多い方から3ばんめ

答え　火

よくある×：水

（左から 3ばんめを 答える）

③ 赤の数（1目もり5）

答え　25人

よくある×：5人

（1目もりを 1と して 目もりの 数（5）を 答える）

④ 多い方から3ばんめ

答え　月

よくある×：水

（左から 3ばんめを 答える）

⑤ 1目もりの大きさ（10）

答え　10

よくある×：1

（数字の あいだ（5目もり）を 見ずに 1目もりを 1と する）

⑥ 多い方から2ばんめ

答え　水

よくある×：火

（左から 2ばんめを 答える）

⑦ なしの数（1目もり5）

答え　40人

よくある×：8人

（1目もりを 1と して 目もりの 数（8）を 答える）

⑧ 多い方から3ばんめ

答え　ピンク

よくある×：青

（左から 3ばんめを 答える）

⑨ ももの数（1目もり5）

答え　15人

よくある×：3人

（1目もりを 1と して 目もりの 数（3）を 答える）

⑩ 多い方から2ばんめ

答え　1組

よくある×：2組

（左から 2ばんめを 答える）

⑪ 1目もりの大きさ（5）

答え　5

よくある×：1

（数字の あいだ（5目もり）を 見ずに 1目もりを 1と する）

⑫ 多い方から2ばんめ

答え　うさぎ

よくある×：きりん

（左から 2ばんめを 答える）

×が多い型は、練習プリント①②（ときかたつき）で ときかたを 見直す。

小3 ぼうグラフ とっくんドリル①-3【こたえ】

なまえ ＿＿＿＿＿＿＿＿

×があったら「①-4」へ。ぜんぶ〇なら つぎの そうごうテストへ

学習日 ＿＿＿＿＿＿＿＿

① 水よう日の数（たんい）

答え 100ページ

よくある×：10
（目もりの 数を 答え、題の（ ）の たんいを 見ない）

② よこ向きのたく

答え 35点

よくある×：45点
（となりの 行（あみ）の ぼうを 読む）

③ たいの数（たんい）

答え 60ひき

よくある×：6
（目もりの 数を 答え、題の（ ）の たんいを 見ない）

④ よこ向きのみお

答え 15こ

よくある×：35こ
（となりの 行（りく）の ぼうを 読む）

⑤ 黄の数（1目もり10）

答え 90本

よくある×：9本
（1目もりを 1と して 目もりの 数（9）を 答える）

⑥ よこ向きのしん

答え 45こ

よくある×：25こ
（となりの 行（こう）の ぼうを 読む）

⑦ みかんの数（1目もり10）

答え 10人

よくある×：1人
（1目もりを 1と して 目もりの 数（1）を 答える）

⑧ よこ向きのえま

答え 10点

よくある×：40点
（となりの 行（まお）の ぼうを 読む）

⑨ りんごの数（1目もり10）

答え 40人

よくある×：4人
（1目もりを 1と して 目もりの 数（4）を 答える）

⑩ よこ向きのはな

答え 20羽

よくある×：25羽
（となりの 行（たく）の ぼうを 読む）

⑪ 4組の数（たんい）

答え 100さつ

よくある×：10
（目もりの 数を 答え、題の（ ）の たんいを 見ない）

⑫ よこ向きのえま

答え 40点

よくある×：50点
（となりの 行（けん）の ぼうを 読む）

丸つけ：たんいを 書く 問題は、数と たんいの 両方で〇。
×が多い型は、練習プリント①②（ときかたつき）で ときかたを 見直す。

小3 ぼうグラフ とっくんドリル①-4【こたえ】

なまえ ＿＿＿＿＿＿＿＿

×があったら「①-5」へ。ぜんぶ〇なら つぎの そうごうテストへ

学習日 ＿＿＿＿＿＿＿＿

① ぶどうの数（1目もり2）

答え 16人

よくある×：8人

（1目もりを 1と して 目もりの 数（8）を 答える）

② 少ない方から2ばんめ

答え 3組

よくある×：2組

（左から 2ばんめを 答える）

③ きりんの数（1目もり10）

答え 40人

よくある×：4人

（1目もりを 1と して 目もりの 数（4）を 答える）

④ いちばん少ない

答え 2回目

よくある×：1回目

（左はしの ぼうを 答える）

⑤ 2回目の数（1目もり5）

答え 20回

よくある×：4回

（1目もりを 1と して 目もりの 数（4）を 答える）

⑥ 少ない方から2ばんめ

答え りんご

よくある×：かき

（左から 2ばんめを 答える）

⑦ 1目もりの大きさ（5）

答え 5

よくある×：1

（数字の あいだ（5目もり）を 見ずに 1目もりを 1と する）

⑧ 少ない方から2ばんめ

答え 月

よくある×：火

（左から 2ばんめを 答える）

⑨ 1目もりの大きさ（10）

答え 10

よくある×：1

（数字の あいだ（5目もり）を 見ずに 1目もりを 1と する）

⑩ いちばん少ない

答え たい

よくある×：いわし

（左はしの ぼうを 答える）

⑪ 1目もりの大きさ（2）

答え 2

よくある×：1

（数字の あいだ（5目もり）を 見ずに 1目もりを 1と する）

⑫ いちばん少ない

答え 黄

よくある×：赤

（左はしの ぼうを 答える）

×が多い型は、練習プリント①②（ときかたつき）で ときかたを 見直す。

小3 ぼうグラフ とっくんドリル①-5【こたえ】

なまえ ＿＿＿＿＿＿＿＿

×は 練習プリント→「①-1」へ。ぜんぶ〇なら つぎの そうごうテストへ

学習日 ＿＿＿＿＿＿＿＿

1 **木よう日の数（たんい）**

答え　80こ

よくある×：8

（目もりの 数を 答え、題の（ ）の たんいを 見ない）

2 **よこ向きのりく**

答え　14点

よくある×：20点

（となりの 行（そう）の ぼうを 読む）

3 **水よう日の数（たんい）**

答え　12こ

よくある×：6

（目もりの 数を 答え、題の（ ）の たんいを 見ない）

4 **よこ向きのまお**

答え　4羽

よくある×：6羽

（となりの 行（えま）の ぼうを 読む）

5 **4組の数（たんい）**

答え　40さつ

よくある×：8

（目もりの 数を 答え、題の（ ）の たんいを 見ない）

6 **多い方から2ばんめ**

答え　青

よくある×：白

（左から 2ばんめを 答える）

7 **ピンクの数（たんい）**

答え　40本

よくある×：4

（目もりの 数を 答え、題の（ ）の たんいを 見ない）

8 **多い方から2ばんめ**

答え　1回目

よくある×：2回目

（左から 2ばんめを 答える）

9 **2組の数（たんい）**

答え　16さつ

よくある×：8

（目もりの 数を 答え、題の（ ）の たんいを 見ない）

10 **よこ向きのまお**

答え　10回

よくある×：14回

（となりの 行（ゆい）の ぼうを 読む）

11 **3回目の数（たんい）**

答え　40回

よくある×：8

（目もりの 数を 答え、題の（ ）の たんいを 見ない）

12 **多い方から2ばんめ**

答え　3組

よくある×：2組

（左から 2ばんめを 答える）

丸つけ：たんいを 書く 問題は、数と たんいの 両方で〇。
×が多い型は、練習プリント①②（ときかたつき）で ときかたを 見直す。

小3 ぼうグラフ とっくんドリル②-1【こたえ】

なまえ ＿＿＿＿＿＿＿＿

×があったら「②-2」へ。ぜんぶ〇なら つぎの そうごうテストへ

学習日 ＿＿＿＿＿＿＿＿

① ひょう→ぼうグラフ（1目もり2）

ひろった 貝（こ）

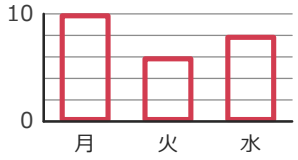

月5目もり
火3目もり
水4目もり

よくある×：数の 目もりまで かこうと する

② 正の字13

答え 13こ

よくある×：3こ

（正の字の 字の 数（3）を 答える）

③ ひょう→ぼうグラフ（1目もり2）

さいた 花（本）

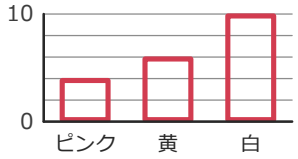

ピンク2目もり
黄3目もり
白5目もり

よくある×：ピンクを 4目もりの 高さに かく

④ 正の字8

答え 8回

よくある×：2回

（正の字の 字の 数（2）を 答える）

⑤ ひょう→ぼうグラフ（1目もり2）

さいた 花（本）



赤5目もり
ピンク4目もり
黄2目もり

よくある×：黄を 4目もりの 高さに かく

⑥ 正の字14

答え 14こ

よくある×：3こ

（正の字の 字の 数（3）を 答える）

⑦ ひょう→ぼうグラフ（1目もり2）

とった 魚（ひき）

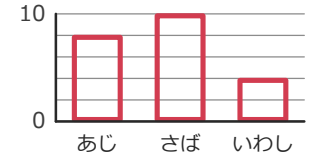

あじ4目もり
さば5目もり
いわし2目もり

よくある×：いわしを 4目もりの 高さに かく

⑧ 正の字6

答え 6こ

よくある×：2こ

（正の字の 字の 数（2）を 答える）

⑨ ひょう→ぼうグラフ（1目もり2）

読んだ 本（ページ）

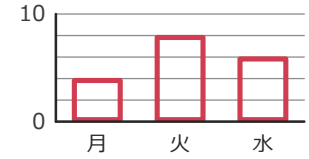

月2目もり
火4目もり
水3目もり

よくある×：月を 4目もりの 高さに かく

⑩ 正の字7

答え 7回

よくある×：2回

（正の字の 字の 数（2）を 答える）

⑪ ひょう→ぼうグラフ（1目もり2）

すきな 動物（人）



ねこ4目もり
パンダ2目もり
ぞう3目もり

よくある×：パンダを 4目もりの 高さに かく

⑫ 正の字12

答え 12人

よくある×：3人

（正の字の 字の 数（3）を 答える）

丸つけ：ぼうは、先が 正しい 目もりの 線の 上なら〇（となりの 線なら×）。
×が多い型は、練習プリント③④（ときかたつき）で ときかたを 見直す。

いちごドリル プリント

小3 ぼうグラフ とっくんドリル②-2【こたえ】

なまえ ＿＿＿＿＿＿＿＿

×があったら「②-3」へ。ぜんぶ〇なら つぎの そうごうテストへ

学習日 ＿＿＿＿＿＿＿＿

1 **ひょう→ぼうグラフ（1目もり5）**

ひろった 貝(こ)

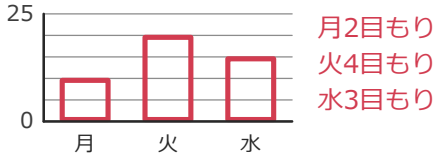

よくある×：数の 目もりまで かこうと する

2 **その他の数**

答え 7人

よくある×：6人

（その他に 入れる ものを 1つ 入れわすれる）

3 **ひょう→ぼうグラフ（1目もり5）**

すきな 色(人)



よくある×：数の 目もりまで かこうと する

4 **その他の数**

答え 9人

よくある×：8人

（その他に 入れる ものを 1つ 入れわすれる）

5 **ひょう→ぼうグラフ（1目もり5）**

さいた 花(本)



よくある×：数の 目もりまで かこうと する

6 **その他の数**

答え 21人

よくある×：17人

（その他に 入れる ものを 1つ 入れわすれる）

7 **ひょう→ぼうグラフ（1目もり5）**

ひろった 貝(こ)

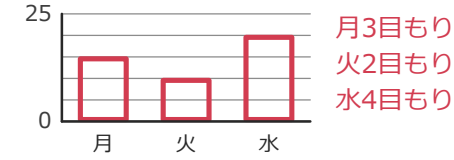

よくある×：数の 目もりまで かこうと する

8 **その他の数**

答え 15人

よくある×：12人

（その他に 入れる ものを 1つ 入れわすれる）

9 **ひょう→ぼうグラフ（1目もり5）**

ひろった 貝(こ)

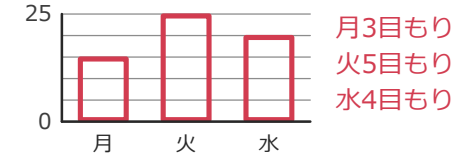

よくある×：数の 目もりまで かこうと する

10 **その他の数**

答え 16人

よくある×：12人

（その他に 入れる ものを 1つ 入れわすれる）

11 **ひょう→ぼうグラフ（1目もり5）**

読んだ 本(ページ)

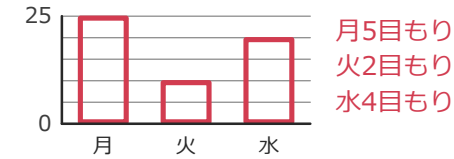

よくある×：数の 目もりまで かこうと する

12 **その他の数**

答え 12人

よくある×：9人

（その他に 入れる ものを 1つ 入れわすれる）

丸つけ：ぼうは、先が 正しい 目もりの 線の 上なら〇（となりの 線なら×）。
×が多い型は、練習プリント③④（ときかたつき）で ときかたを 見直す。

いちごドリル プリント

小3 ぼうグラフ とっくんドリル②-3【こたえ】

なまえ ＿＿＿＿＿＿＿＿

×があったら「②-4」へ。ぜんぶ〇なら つぎの そうごうテストへ

学習日 ＿＿＿＿＿＿＿＿

① ひょう→ぼうグラフ（1目もり10）

ひろった 貝（こ）

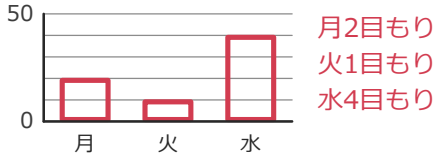

よくある×：数の 目もりまで かこうと する

② 正の字17

答え 17こ

よくある×：4こ

（正の字の 字の 数（4）を 答える）

③ ひょう→ぼうグラフ（1目もり10）

読んだ 本（ページ）

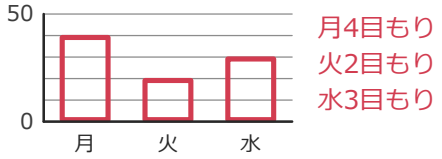

よくある×：数の 目もりまで かこうと する

④ 正の字21

答え 21回

よくある×：5回

（正の字の 字の 数（5）を 答える）

⑤ ひょう→ぼうグラフ（1目もり10）

なわとび（回）

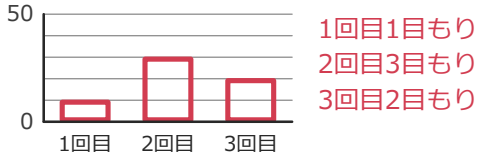

よくある×：数の 目もりまで かこうと する

⑥ 正の字23

答え 23回

よくある×：5回

（正の字の 字の 数（5）を 答える）

⑦ ひょう→ぼうグラフ（1目もり10）

読んだ 本（ページ）

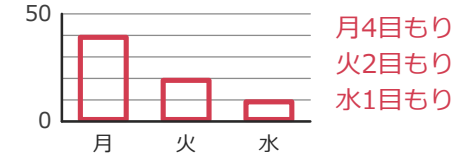

よくある×：数の 目もりまで かこうと する

⑧ 正の字24

答え 24こ

よくある×：5こ

（正の字の 字の 数（5）を 答える）

⑨ ひょう→ぼうグラフ（1目もり10）

さいた 花（本）



よくある×：数の 目もりまで かこうと する

⑩ 正の字22

答え 22こ

よくある×：5こ

（正の字の 字の 数（5）を 答える）

⑪ ひょう→ぼうグラフ（1目もり10）

すきな 動物（人）

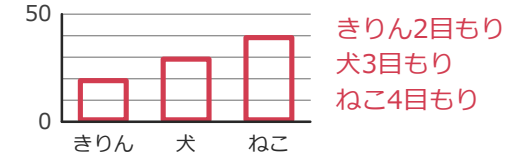

よくある×：数の 目もりまで かこうと する

⑫ 正の字19

答え 19こ

よくある×：4こ

（正の字の 字の 数（4）を 答える）

丸つけ：ぼうは、先が 正しい 目もりの 線の 上なら〇（となりの 線なら×）。
×が多い型は、練習プリント③④（ときかたつき）で ときかたを 見直す。

いちごドリル プリント

小3 ぼうグラフ とっくんドリル②-4【こたえ】

なまえ ＿＿＿＿＿＿＿＿

×があったら「②-5」へ。ぜんぶ〇なら つぎの そうごうテストへ

学習日 ＿＿＿＿＿＿＿＿

① ひょう→ぼうグラフ（1目もり10）

かした 本（さつ）

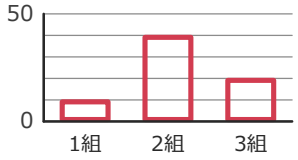

1組1目もり
2組4目もり
3組2目もり

よくある×：数の 目もりまで かこうと する

② その他の数

答え 7人

よくある×：6人

（その他に 入れる ものを 1つ 入れわすれる）

③ ひょう→ぼうグラフ（1目もり2）

読んだ 本（ページ）

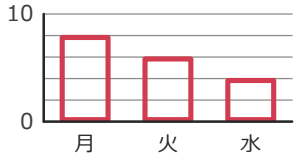

月4目もり
火3目もり
水2目もり
（たての数 10）

よくある×：水を 4目もりの 高さに かく

④ その他の数

答え 26人

よくある×：19人

（その他に 入れる ものを 1つ 入れわすれる）

⑤ ひょう→ぼうグラフ（1目もり2）

すきな くだもの（人）



メロン4目もり
かき5目もり
ぶどう3目もり
（たての数 10）

よくある×：数の 目もりまで かこうと する

⑥ その他の数

答え 15人

よくある×：13人

（その他に 入れる ものを 1つ 入れわすれる）

⑦ ひょう→ぼうグラフ（1目もり5）

とった 魚（ひき）

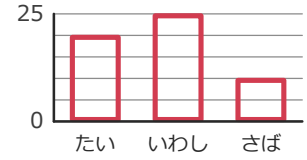

たい4目もり
いわし5目もり
さば2目もり

よくある×：数の 目もりまで かこうと する

⑧ その他の数

答え 12人

よくある×：9人

（その他に 入れる ものを 1つ 入れわすれる）

⑨ ひょう→ぼうグラフ（1目もり10）

すきな くだもの（人）

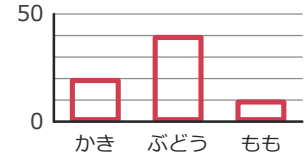

かき2目もり
ぶどう4目もり
もも1目もり
（たての数 50）

よくある×：数の 目もりまで かこうと する

⑩ その他の数

答え 10人

よくある×：8人

（その他に 入れる ものを 1つ 入れわすれる）

⑪ ひょう→ぼうグラフ（1目もり5）

読んだ 本（ページ）

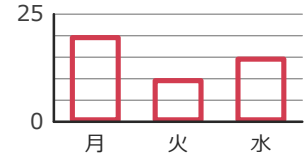

月4目もり
火2目もり
水3目もり
（たての数 25）

よくある×：数の 目もりまで かこうと する

⑫ その他の数

答え 11人

よくある×：8人

（その他に 入れる ものを 1つ 入れわすれる）

丸つけ：ぼうは、先が 正しい 目もりの 線の 上なら〇（となりの 線なら×）。
×が多い型は、練習プリント③④（ときかたつき）で ときかたを 見直す。

小3 ぼうグラフ とっくんドリル②-5【こたえ】

なまえ ＿＿＿＿＿＿＿＿

×は 練習プリント→「②-1」へ。ぜんぶ〇なら つぎの そうごうテストへ

学習日 ＿＿＿＿＿＿＿＿

① ひょう→ぼうグラフ（1目もり5）

読んだ 本（ページ）

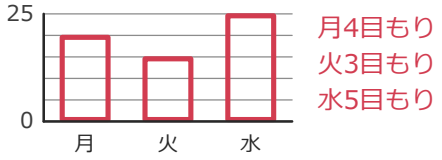

月4目もり
火3目もり
水5目もり

よくある×：数の 目もりまで かこうと する

② 正の字18

答え 18こ

よくある×：4こ

（正の字の 字の 数（4）を 答える）

③ ひょう→ぼうグラフ（1目もり2）

なわとび（回）

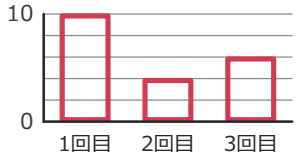

1回目5目もり
2回目2目もり
3回目3目もり

よくある×：2回目を 4目もりの 高さに かく

④ その他の数

答え 8人

よくある×：7人

（その他に 入れる ものを 1つ 入れわすれる）

⑤ ひょう→ぼうグラフ（1目もり2）

とった 魚（ひき）

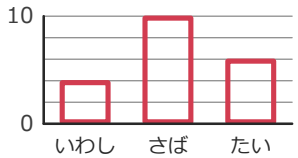

いわし2目もり
さば5目もり
たい3目もり

よくある×：いわしを 4目もりの 高さに かく

⑥ 正の字16

答え 16こ

よくある×：4こ

（正の字の 字の 数（4）を 答える）

⑦ ひょう→ぼうグラフ（1目もり5）

とった 魚（ひき）

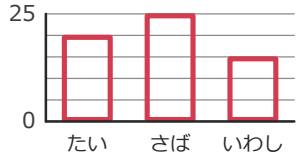

たい4目もり
さば5目もり
いわし3目もり

よくある×：数の 目もりまで かこうと する

⑧ その他の数

答え 11人

よくある×：10人

（その他に 入れる ものを 1つ 入れわすれる）

⑨ ひょう→ぼうグラフ（1目もり5）

すきな 動物（人）

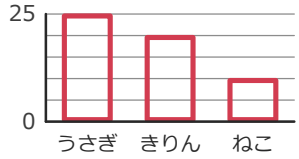

うさぎ5目もり
きりん4目もり
ねこ2目もり

よくある×：数の 目もりまで かこうと する

⑩ 正の字22

答え 22回

よくある×：5回

（正の字の 字の 数（5）を 答える）

⑪ ひょう→ぼうグラフ（1目もり2）

すきな 動物（人）

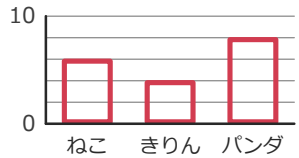

ねこ3目もり
きりん2目もり
パンダ4目もり

よくある×：きりんを 4目もりの 高さに かく

⑫ その他の数

答え 15人

よくある×：13人

（その他に 入れる ものを 1つ 入れわすれる）

丸つけ：ぼうは、先が 正しい 目もりの 線の 上なら〇（となりの 線なら×）。
×が多い型は、練習プリント③④（ときかたつき）で ときかたを 見直す。

小3 ぼうグラフ とっくんドリル③-1【こたえ】

なまえ ＿＿＿＿＿＿＿＿

×があったら「③-2」へ。ぜんぶ〇なら つぎの そうごうテストへ

学習日 ＿＿＿＿＿＿＿＿

① 1組と2組の鳥のちがい

答え 6人

よくある×：2人

（目もりの 数どうしを ひく（1目もりの 大きさが ちがう））

② 表の右下の合計

答え 36

よくある×：72

（たての 合計と よこの 合計を 両方 たす）

③ 4組と3組の黄のちがい

答え 4人

よくある×：1人

（目もりの 数どうしを ひく（1目もりの 大きさが ちがう））

④ 表の右下の合計

答え 44

よくある×：88

（たての 合計と よこの 合計を 両方 たす）

⑤ 1組と2組の馬のちがい

答え 1人

よくある×：3人

（目もりの 数どうしを ひく（1目もりの 大きさが ちがう））

⑥ 表の右下の合計

答え 34

よくある×：68

（たての 合計と よこの 合計を 両方 たす）

⑦ 2組と1組の青のちがい

答え 3人

よくある×：1人

（目もりの 数どうしを ひく（1目もりの 大きさが ちがう））

⑧ 表の右下の合計

答え 29

よくある×：58

（たての 合計と よこの 合計を 両方 たす）

⑨ 3組と4組の牛のちがい

答え 7人

よくある×：3人

（目もりの 数どうしを ひく（1目もりの 大きさが ちがう））

⑩ 表の右下の合計

答え 49

よくある×：98

（たての 合計と よこの 合計を 両方 たす）

⑪ 1組と2組の牛のちがい

答え 9人

よくある×：4人

（目もりの 数どうしを ひく（1目もりの 大きさが ちがう））

⑫ 表の右下の合計

答え 48

よくある×：96

（たての 合計と よこの 合計を 両方 たす）

×が多い型は、練習プリント⑤⑥（ときかたつき）で ときかたを 見直す。

小3 ぼうグラフ とっくんドリル③-2【こたえ】

なまえ ＿＿＿＿＿＿＿＿

×があったら「③-3」へ。ぜんぶ〇なら つぎの そうごうテストへ

学習日 ＿＿＿＿＿＿＿＿

① 1組と2組の馬のちがい

答え 8人

よくある×：1人

（目もりの 数どうしを ひく（1目もりの 大きさが ちがう））

② 3組と4組のぶどうをあわせる

答え 17人

よくある×：16人

（ならびの ちがう ひょうで、同じ 行どうしを たす）

③ 緑はどちらの組が多い

答え 4組

よくある×：3組

（ぼうの 高さだけで くらべる（1目もりが ちがう））

④ 3組と4組のりんごをあわせる

答え 14人

よくある×：11人

（ならびの ちがう ひょうで、同じ 行どうしを たす）

⑤ 3組と4組の赤のちがい

答え 14人

よくある×：1人

（目もりの 数どうしを ひく（1目もりの 大きさが ちがう））

⑥ 3組と4組のりんごをあわせる

答え 10人

よくある×：14人

（ならびの ちがう ひょうで、同じ 行どうしを たす）

⑦ 鳥はどちらの組が多い

答え 3組

よくある×：4組

（ぼうの 高さだけで くらべる（1目もりが ちがう））

⑧ 3組と4組のももをあわせる

答え 13人

よくある×：10人

（ならびの ちがう ひょうで、同じ 行どうしを たす）

⑨ 牛はどちらの月が多い

答え 先月

よくある×：今月

（ぼうの 高さだけで くらべる（1目もりが ちがう））

⑩ 1組と2組のぶどうをあわせる

答え 11人

よくある×：10人

（ならびの ちがう ひょうで、同じ 行どうしを たす）

⑪ 青はどちらの組が多い

答え 1組

よくある×：2組

（ぼうの 高さだけで くらべる（1目もりが ちがう））

⑫ 1組と2組のりんごをあわせる

答え 20人

よくある×：15人

（ならびの ちがう ひょうで、同じ 行どうしを たす）

×が多い型は、練習プリント⑤⑥（ときかたつき）で ときかたを 見直す。

小3 ぼうグラフ とっくんドリル③-3【こたえ】

なまえ ＿＿＿＿＿＿＿＿

×があったら「③-4」へ。ぜんぶ〇なら つぎの そうごうテストへ

学習日 ＿＿＿＿＿＿＿＿

① 犬の先月から今月へのふえた数

答え 6人

よくある×：2人

（目もりの 数どうしを ひく（1目もりの 大きさが ちがう））

② 1組の合計

答え 24

よくある×：15

（3つの うち 1つを たしわすれる）

③ 白の先月から今月へのふえた数

答え 5人

よくある×：2人

（目もりの 数どうしを ひく（1目もりの 大きさが ちがう））

④ 1組の合計

答え 18

よくある×：12

（3つの うち 1つを たしわすれる）

⑤ 白の先月から今月へのふえた数

答え 7人

よくある×：2人

（目もりの 数どうしを ひく（1目もりの 大きさが ちがう））

⑥ 2組の合計

答え 20

よくある×：11

（3つの うち 1つを たしわすれる）

⑦ 青の先月から今月へのふえた数

答え 2人

よくある×：3人

（目もりの 数どうしを ひく（1目もりの 大きさが ちがう））

⑧ 2組の合計

答え 10

よくある×：7

（3つの うち 1つを たしわすれる）

⑨ 赤の先月から今月へのふえた数

答え 3人

よくある×：4人

（目もりの 数どうしを ひく（1目もりの 大きさが ちがう））

⑩ 1組の合計

答え 29

よくある×：18

（3つの うち 1つを たしわすれる）

⑪ 犬の先月から今月へのふえた数

答え 4人

よくある×：1人

（目もりの 数どうしを ひく（1目もりの 大きさが ちがう））

⑫ 1組の合計

答え 30

よくある×：18

（3つの うち 1つを たしわすれる）

×が多い型は、練習プリント⑤⑥（ときかたつき）で ときかたを 見直す。

小3 ぼうグラフ とっくんドリル③-4【こたえ】

なまえ ＿＿＿＿＿＿＿＿

×があったら「③-5」へ。ぜんぶ〇なら つぎの そうごうテストへ

学習日 ＿＿＿＿＿＿＿＿

① 1組と2組の緑のちがい

答え 10人

よくある×：3人

（目もりの 数どうしを ひく（1目もりの 大きさが ちがう））

② 表の右下の合計

答え 44

よくある×：88

（たての 合計と よこの 合計を 両方 たす）

③ 2組と1組の馬のちがい

答え 5人

よくある×：1人

（目もりの 数どうしを ひく（1目もりの 大きさが ちがう））

④ 1組の合計

答え 18

よくある×：10

（3つの うち 1つを たしわすれる）

⑤ 1組と2組の犬のちがい

答え 35人

よくある×：3人

（目もりの 数どうしを ひく（1目もりの 大きさが ちがう））

⑥ 表の右下の合計

答え 35

よくある×：70

（たての 合計と よこの 合計を 両方 たす）

⑦ 4組と3組の犬のちがい

答え 25人

よくある×：2人

（目もりの 数どうしを ひく（1目もりの 大きさが ちがう））

⑧ 表の右下の合計

答え 34

よくある×：68

（たての 合計と よこの 合計を 両方 たす）

⑨ 1組と2組の魚のちがい

答え 15人

よくある×：1人

（目もりの 数どうしを ひく（1目もりの 大きさが ちがう））

⑩ 2組の合計

答え 19

よくある×：12

（3つの うち 1つを たしわすれる）

⑪ 2組と1組の青のちがい

答え 30人

よくある×：2人

（目もりの 数どうしを ひく（1目もりの 大きさが ちがう））

⑫ 1組の合計

答え 17

よくある×：14

（3つの うち 1つを たしわすれる）

×が多い型は、練習プリント⑤⑥（ときかたつき）で ときかたを 見直す。

小3 ぼうグラフ とっくんドリル③-5【こたえ】

なまえ ＿＿＿＿＿＿＿＿

×は 練習プリント→「③-1」へ。ぜんぶ〇なら つぎの そうごうテストへ

学習日 ＿＿＿＿＿＿＿＿

① 犬の先月から今月へのふえた数

答え 25人

よくある×：1人

（目もりの 数どうしを ひく（1目もりの 大きさが ちがう））

② 1組と2組のぶどうをあわせる

答え 24人

よくある×：22人

（ならびの ちがう ひょうで、同じ 行どうしを たす）

③ 鳥はどちらの組が多い

答え 2組

よくある×：1組

（ぼうの 高さだけで くらべる（1目もりが ちがう））

④ 1組と2組のぶどうをあわせる

答え 14人

よくある×：7人

（ならびの ちがう ひょうで、同じ 行どうしを たす）

⑤ 馬はどちらの月が多い

答え 先月

よくある×：今月

（ぼうの 高さだけで くらべる（1目もりが ちがう））

⑥ 表の右下の合計

答え 32

よくある×：64

（たての 合計と よこの 合計を 両方 たす）

⑦ 3組と4組の魚のちがい

答え 10人

よくある×：1人

（目もりの 数どうしを ひく（1目もりの 大きさが ちがう））

⑧ 1組の合計

答え 20

よくある×：10

（3つの うち 1つを たしわすれる）

⑨ 魚の先月から今月へのふえた数

答え 20人

よくある×：1人

（目もりの 数どうしを ひく（1目もりの 大きさが ちがう））

⑩ 2組の合計

答え 23

よくある×：19

（3つの うち 1つを たしわすれる）

⑪ 4組と3組の犬のちがい

答え 7人

よくある×：1人

（目もりの 数どうしを ひく（1目もりの 大きさが ちがう））

⑫ 表の右下の合計

答え 46

よくある×：92

（たての 合計と よこの 合計を 両方 たす）

×が多い型は、練習プリント⑤⑥（ときかたつき）で ときかたを 見直す。

小3 ぼうグラフ そうごうテスト（その2）【こたえ】

なまえ ＿＿＿＿＿＿＿＿

つまずきごとに2問（2問とも〇なら OK）。ぜんぶ〇なら「そうごうテスト（その3）」へ　学習日 ＿＿＿＿＿＿＿＿

1 1目もりの 大きさ・たんいを まちがえる

→「練習プリント①（目もりを読む）」→「とっくんドリル①」

問2 黄の数（1目もり5）

答え 25本

よくある×：5本
（1目もりを 1と して 目もりの 数（5）を 答える）

問11 3回目の数（たんい）

答え 16回

よくある×：8
（目もりの 数を 答え、題の（ ）の たんいを 見ない）

2 よこ向き・じゅんいを 読みまちがえる

→「練習プリント②（よこ向きと順位）」→「とっくんドリル①」

問5 いちばん少ない

答え 水

よくある×：月
（左はしの ぼうを 答える）

問8 よこ向きのまお

答え 40点

よくある×：30点
（となりの 行（はな）の ぼうを 読む）

3 ぼうの 高さを 目もりに 合わせられない

→「練習プリント③（ぼうをかく）」→「とっくんドリル②」

問3 ひょう→ぼうグラフ（1目もり10）

答え 赤い ぼう
（たい4目もり・あじ3目もり・さば1目もり）

よくある×：数の 目もりまで かこうと する
（数を そのまま 目もりの 数に する（1目もりは 10））

問9 ひょう→ぼうグラフ（1目もり2）

答え 赤い ぼう
（ねこ2目もり・ぞう5目もり・うさぎ4目もり）

よくある×：ねこを 4目もりの 高さに かく
（数を そのまま 目もりの 数に する（1目もりは 2））

4 正の字・「その他」を まちがえる

→「練習プリント④（正の字とひょう）」→「とっくんドリル②」

問4 正の字21

答え 21こ

よくある×：5こ
（正の字の 字の 数（5）を 答える）

問6 その他の数

答え 13人

よくある×：12人
（その他に 入れる ものを 1つ 入れわすれる）

5 目もりが ちがう 2つの グラフで まちがえる

→「練習プリント⑤（2つのグラフ）」→「とっくんドリル③」

問1 ももの先月から今月へのふえた数

答え 2人

よくある×：4人
（目もりの 数どうしを ひく（1目もりの 大きさが ちがう））

問7 うしはどちらの組が多い

答え 3組

よくある×：4組
（ぼうの 高さだけで くらべる（1目もりが ちがう））

6 ひょうの 合計・2つの ひょうで まちがえる

→「練習プリント⑥（ひょうの合計）」→「とっくんドリル③」

問10 1組の合計

答え 15

よくある×：10
（3つの うち 1つを たしわすれる）

問12 3組と4組のみかんをあわせる

答え 7人

よくある×：12人
（ならびの ちがう ひょうで、同じ 行どうしを たす）

丸つけ：ぼうは、先が 正しい 目もりの 線の 上なら〇（となりの 線なら×）。たんいを 書く 問題は、数と たんいの 両方で〇。
まちがえたら、まず 練習プリント（ときかたつき）、つぎに とっくんドリルへ。

小3 ぼうグラフ そうごうテスト（その3）【こたえ】

なまえ ＿＿＿＿＿＿＿＿

つまずきごとに2問（2問とも○なら OK）。ぜんぶ○なら「そうごうテスト（その4）」へ　学習日 ＿＿＿＿＿＿＿＿

1 1目もりの 大きさ・たんいを まちがえる

→「練習プリント①（目もりを読む）」→「とっくんドリル①」

問2 1目もりの大きさ（5）

答え 5

よくある×：1
（数字の あいだ（5目もり）を 見ずに 1目もりを 1と する）

問11 ピンクの数（1目もり10）

答え 40本

よくある×：4本
（1目もりを 1と して 目もりの 数（4）を 答える）

2 よこ向き・じゅんいを 読みまちがえる

→「練習プリント②（よこ向きと順位）」→「とっくんドリル①」

問5 多い方から3ばんめ

答え 火

よくある×：水
（左から 3ばんめを 答える）

問8 よこ向きのしん

答え 14羽

よくある×：18羽
（となりの 行（たく）の ぼうを 読む）

3 ぼうの 高さを 目もりに 合わせられない

→「練習プリント③（ぼうをかく）」→「とっくんドリル②」

問4 ひょう→ぼうグラフ（1目もり5）

答え 赤い ぼう（たての数 25）
（赤4目もり・ピンク2目もり・白5目もり）

よくある×：数の 目もりまで かこうと する
（数を そのまま 目もりの 数に する（1目もりは 5））

問10 ひょう→ぼうグラフ（1目もり2）

答え 赤い ぼう
（1回目4目もり・2回目3目もり・3回目5目もり）

よくある×：数の 目もりまで かこうと する
（数を そのまま 目もりの 数に する（1目もりは 2））

4 正の字・「その他」を まちがえる

→「練習プリント④（正の字とひょう）」→「とっくんドリル②」

問3 その他の数

答え 17人

よくある×：12人
（その他に 入れる ものを 1つ 入れわすれる）

問6 正の字19

答え 19人

よくある×：4人
（正の字の 字の 数（4）を 答える）

5 目もりが ちがう 2つの グラフで まちがえる

→「練習プリント⑤（2つのグラフ）」→「とっくんドリル③」

問1 3組と4組のうまのちがい

答え 30人

よくある×：2人
（目もりの 数どうしを ひく（1目もりの 大きさが ちがう））

問7 犬はどちらの組が多い

答え 2組

よくある×：1組
（ぼうの 高さだけで くらべる（1目もりが ちがう））

6 ひょうの 合計・2つの ひょうで まちがえる

→「練習プリント⑥（ひょうの合計）」→「とっくんドリル③」

問9 表の右下の合計

答え 48

よくある×：96
（たての 合計と よこの 合計を 両方 たす）

問12 1組と2組のみかんをあわせる

答え 16人

よくある×：11人
（ならびの ちがう ひょうで、同じ 行どうしを たす）

丸つけ：ぼうは、先が 正しい 目もりの 線の 上なら○（となりの 線なら×）。たんいを 書く 問題は、数と たんいの 両方で○。
まちがえたら、まず 練習プリント（ときかたつき）、つぎに とっくんドリルへ。

小3 ぼうグラフ そうごうテスト（その4）【こたえ】

なまえ ＿＿＿＿＿＿＿＿

つまずきごとに2問（2問とも○なら OK）。ぜんぶ○なら「そうごうテスト（その5）」へ　学習日 ＿＿＿＿＿＿＿＿

1 1目もりの 大きさ・たんいを まちがえる

→「練習プリント①（目もりを読む）」→「とっくんドリル①」

問2 赤の数（たんい）

答え 45本

よくある×：9
（目もりの 数を 答え、題の（ ）の たんいを 見ない）

問12 1目もりの大きさ（2）

答え 2

よくある×：1
（数字の あいだ（5目もり）を 見ずに 1目もりを 1と する）

2 よこ向き・じゅんいを 読みまちがえる

→「練習プリント②（よこ向きと順位）」→「とっくんドリル①」

問6 よこ向きのたく

答え 45点

よくある×：10点
（となりの 行（こう）の ぼうを 読む）

問8 多い方から2ばんめ

答え 月

よくある×：火
（左から 2ばんめを 答える）

3 ぼうの 高さを 目もりに 合わせられない

→「練習プリント③（ぼうをかく）」→「とっくんドリル②」

問4 ひょう→ぼうグラフ（1目もり10）

答え 赤い ぼう
（赤3目もり・黄2目もり・白4目もり）

よくある×：数の 目もりまで かこうと する
（数を そのまま 目もりの 数に する（1目もりは 10））

問10 ひょう→ぼうグラフ（1目もり5）

答え 赤い ぼう
（1組2目もり・2組4目もり・3組5目もり）

よくある×：数の 目もりまで かこうと する
（数を そのまま 目もりの 数に する（1目もりは 5））

4 正の字・「その他」を まちがえる

→「練習プリント④（正の字とひょう）」→「とっくんドリル②」

問5 その他の数

答え 17人

よくある×：14人
（その他に 入れる ものを 1つ 入れわすれる）

問9 正の字12

答え 12こ

よくある×：3こ
（正の字の 字の 数（3）を 答える）

5 目もりが ちがう 2つの グラフで まちがえる

→「練習プリント⑤（2つのグラフ）」→「とっくんドリル③」

問1 3組と4組のうしのちがい

答え 5人

よくある×：4人
（目もりの 数どうしを ひく（1目もりの 大きさが ちがう））

問7 なしはどちらの月が多い

答え 今月

よくある×：先月
（ぼうの 高さだけで くらべる（1目もりが ちがう））

6 ひょうの 合計・2つの ひょうで まちがえる

→「練習プリント⑥（ひょうの合計）」→「とっくんドリル③」

問3 3組と4組のみかんをあわせる

答え 11人

よくある×：9人
（ならびの ちがう ひょうで、同じ 行どうしを たす）

問11 1組の合計

答え 23

よくある×：13
（3つの うち 1つを たしわすれる）

丸つけ：ぼうは、先が 正しい 目もりの 線の 上なら○（となりの 線なら×）。たんいを 書く 問題は、数と たんいの 両方で○。
まちがえたら、まず 練習プリント（ときかたつき）、つぎに とっくんドリルへ。

小3 ぼうグラフ そうごうテスト（その5）【こたえ】

なまえ ＿＿＿＿＿＿＿＿

つまずきごとに2問（2問とも○なら OK）。ぜんぶ○なら クリア

学習日 ＿＿＿＿＿＿＿＿

1 1目もりの 大きさ・たんいを まちがえる

→「練習プリント①（目もりを読む）」→「とっくんドリル①」

問4 ピンクの数（1目もり2）

答え 10人

よくある×：5人
（1目もりを 1と して 目もりの 数（5）を 答える）

問9 2回目の数（たんい）

答え 30回

よくある×：3
（目もりの 数を 答え、題の（ ）の たんいを 見ない）

2 よこ向き・じゅんいを 読みまちがえる

→「練習プリント②（よこ向きと順位）」→「とっくんドリル①」

問3 少ない方から2ばんめ

答え 3組

よくある×：2組
（左から 2ばんめを 答える）

問10 よこ向きのけん

答え 20羽

よくある×：18羽
（となりの 行（あみ）の ぼうを 読む）

3 ぼうの 高さを 目もりに 合わせられない

→「練習プリント③（ぼうをかく）」→「とっくんドリル②」

問6 ひょう→ぼうグラフ（1目もり5）

答え 赤い ぼう
（メロン2目もり・りんご3目もり・かき5目もり）

よくある×：数の 目もりまで かこうと する
（数を そのまま 目もりの 数に する（1目もりは 5））

問12 ひょう→ぼうグラフ（1目もり2）

答え 赤い ぼう（たての数 10）
（パンダ5目もり・うさぎ2目もり・ぞう4目もり）

よくある×：うさぎを 4目もりの 高さに かく
（数を そのまま 目もりの 数に する（1目もりは 2））

4 正の字・「その他」を まちがえる

→「練習プリント④（正の字とひょう）」→「とっくんドリル②」

問1 正の字23

答え 23人

よくある×：5人
（正の字の 字の 数（5）を 答える）

問11 その他の数

答え 16人

よくある×：14人
（その他に 入れる ものを 1つ 入れわすれる）

5 目もりが ちがう 2つの グラフで まちがえる

→「練習プリント⑤（2つのグラフ）」→「とっくんドリル③」

問2 1組と2組のもものちがい

答え 9人

よくある×：2人
（目もりの 数どうしを ひく（1目もりの 大きさが ちがう））

問8 なしの先月から今月へのふえた数

答え 1人

よくある×：4人
（目もりの 数どうしを ひく（1目もりの 大きさが ちがう））

6 ひょうの 合計・2つの ひょうで まちがえる

→「練習プリント⑥（ひょうの合計）」→「とっくんドリル③」

問5 表の右下の合計

答え 44

よくある×：88
（たての 合計と よこの 合計を 両方 たす）

問7 3組と4組のりんごをあわせる

答え 7人

よくある×：13人
（ならびの ちがう ひょうで、同じ 行どうしを たす）

丸つけ：ぼうは、先が 正しい 目もりの 線の 上なら○（となりの 線なら×）。たんいを 書く 問題は、数と たんいの 両方で○。
まちがえたら、まず 練習プリント（ときかたつき）、つぎに とっくんドリルへ。