# 小3 ぼうグラフ そうごうテスト（その1）

つまずきを6つ、2問ずつ（100点）

なまえ ＿＿＿＿＿＿＿＿

学習日 ＿＿＿＿＿＿＿＿

**答えは 下線に 書く（ぼうグラフの 問題は グラフの 線に 合わせて ぼうを かく）**

**①** 8点

すきな くだもの（人）

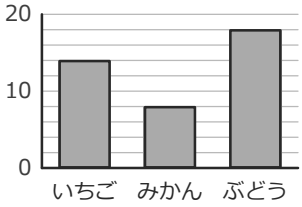


ぶどうは
何人ですか。

＿＿＿＿＿＿ 人

**②** 8点

正 正 下

とんだ 回数を
正の字で 数えました。
何回ですか。

＿＿＿＿＿＿ 回

**③** 8点

ひょうを ぼうグラフに かこう。

ひょう

| すきな 色 | 数 |
|---|---|
| 赤 | 8 |
| 青 | 4 |
| 黄 | 10 |

すきな 色（人）

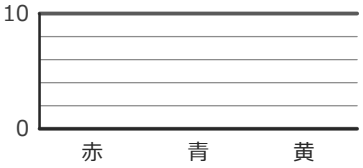


**④** 8点

すきな あそび（人）

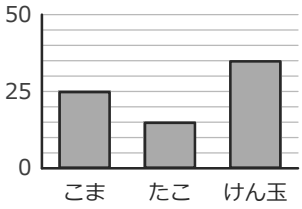


多い 方から
2ばんめは
どれですか。

＿＿＿＿＿＿

**⑤** 8点

犬が すきな 人は、1組は
2組より 何人 多いですか。

1組（人）

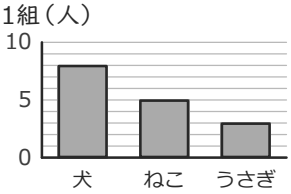


2組（人）

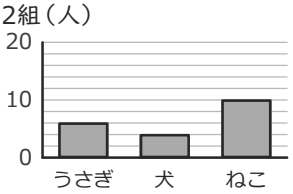


＿＿＿＿＿＿ 人

**⑥** 8点

**1組**

| なまえ | 人数 |
|---|---|
| りんご | 5 |
| みかん | 8 |
| ぶどう | 3 |

**2組**

| なまえ | 人数 |
|---|---|
| みかん | 7 |
| ぶどう | 4 |
| りんご | 6 |

2つの 組を
あわせると、
みかんは 何人ですか。

＿＿＿＿＿＿ 人

**⑦** 8点

なわとびの 回数（回）

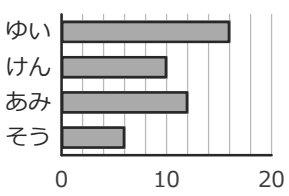


けんは
何回ですか。

＿＿＿＿＿＿ 回

**⑧** 8点

| | 男 | 女 | 合計 |
|---|---|---|---|
| 1組 | 12 | 9 | 21 |
| 2組 | 8 | 11 | 19 |
| 合計 | 20 | 20 | **あ** |

ひょうの あに
入る 数は
いくつですか。

＿＿＿＿＿＿

**⑨** 9点

ひょうを ぼうグラフに かこう。

ひょう

| とった 魚 | 数 |
|---|---|
| あじ | 20 |
| さば | 10 |
| いわし | 25 |

とった 魚（ひき）

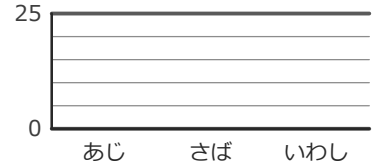


**⑩** 9点

読んだ 本（ページ）

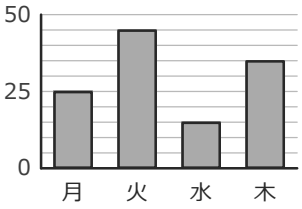


木よう日に 読んだ
数は いくつ？

＿＿＿＿＿＿

（たんいも 書こう）

**⑪** 9点

なしが すきな 人が
多いのは、どちらの 組ですか。

3組（人）

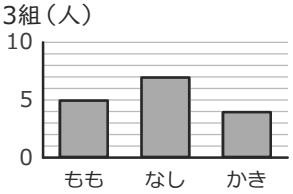


4組（人）

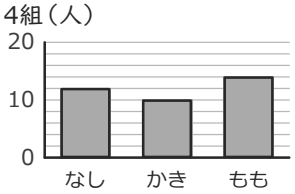


＿＿＿＿＿＿

**⑫** 9点

| しゅるい | 数(人) |
|---|---|
| 犬 | 11 |
| ねこ | 9 |
| うさぎ | 4 |
| 小鳥 | 2 |
| 金魚 | 5 |

多い 2つ いがいを
まとめた「その他」は
何人ですか。

＿＿＿＿＿＿ 人

# 小3 ぼうグラフ とっくんドリル①-1

1目もり・たんい・よこ向き・じゅんい（12問）

なまえ ＿＿＿＿＿＿＿＿

学習日 ＿＿＿＿＿＿＿＿

**・グラフの 題と 1目もりの 大きさを 先に 見る**
**・答えは 下線に 書く**

**①**

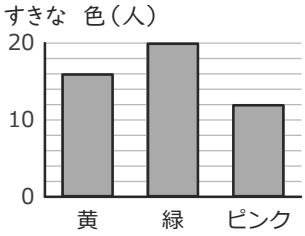


ピンクは
何人ですか。

＿＿＿＿＿＿ 人

**②**

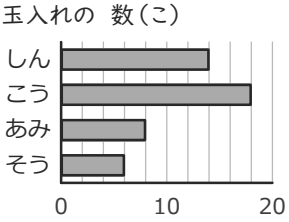


こうは
何こですか。

＿＿＿＿＿＿ こ

**③**

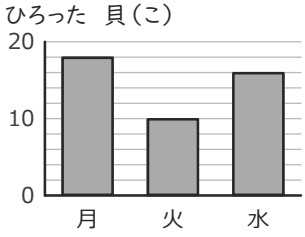


水よう日は
何こですか。

＿＿＿＿＿＿ こ

**④**

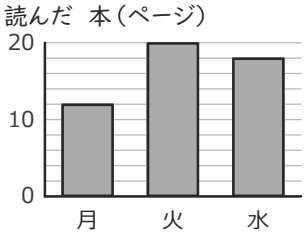


多い 方から
2ばんめは
どれですか。

＿＿＿＿＿＿

**⑤**

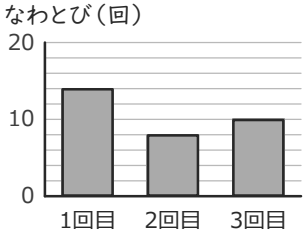


1回目は
何回ですか。

＿＿＿＿＿＿ 回

**⑥**

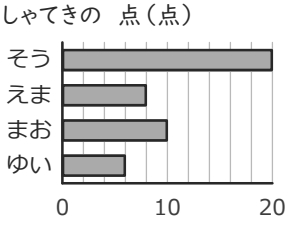


そうは
何点ですか。

＿＿＿＿＿＿ 点

**⑦**

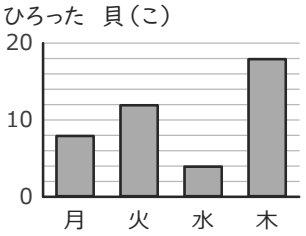


木よう日の 数は
いくつ？

＿＿＿＿＿＿

（たんいも 書こう）

**⑧**

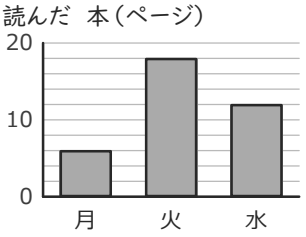


多い 方から
2ばんめは
どれですか。

＿＿＿＿＿＿

**⑨**

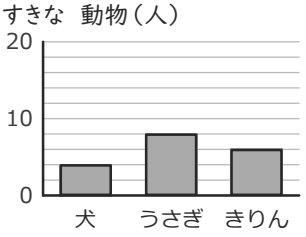


きりんは
何人ですか。

＿＿＿＿＿＿ 人

**⑩**

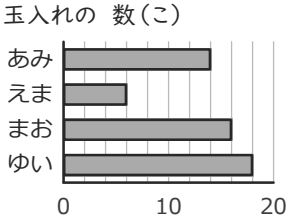


まおは
何こですか。

＿＿＿＿＿＿ こ

**⑪**

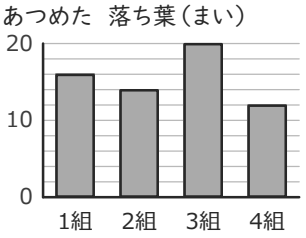


2組の 数は
いくつ？

＿＿＿＿＿＿

（たんいも 書こう）

**⑫**

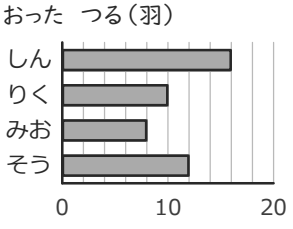


みおは
何羽ですか。

＿＿＿＿＿＿ 羽

# 小3 ぼうグラフ とっくんドリル①-2

1目もり・たんい・よこ向き・じゅんい（12問）

なまえ ＿＿＿＿＿＿＿＿

学習日 ＿＿＿＿＿＿＿＿

・グラフの 題と 1目もりの 大きさを 先に 見る
・答えは 下線に 書く

**①**

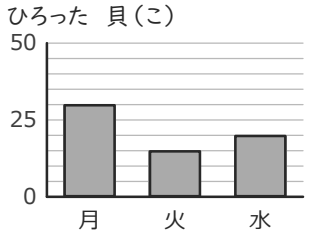


月よう日は
何こですか。

＿＿＿＿＿＿ こ

**②**

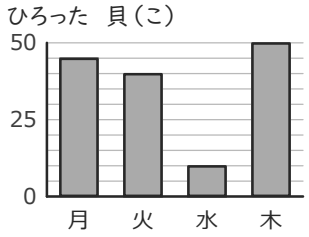


多い 方から
3ばんめは
どれですか。

＿＿＿＿＿＿

**③**

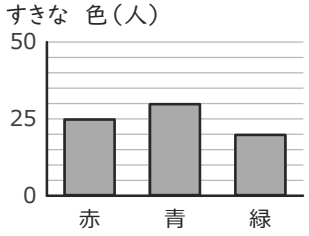


赤は
何人ですか。

＿＿＿＿＿＿ 人

**④**

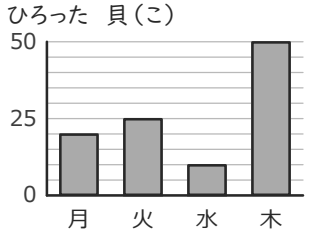


多い 方から
3ばんめは
どれですか。

＿＿＿＿＿＿

**⑤**

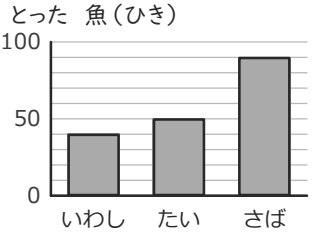


このグラフの
1目もりは
いくつですか。

＿＿＿＿＿＿

**⑥**

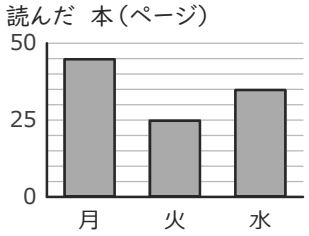


多い 方から
2ばんめは
どれですか。

＿＿＿＿＿＿

**⑦**

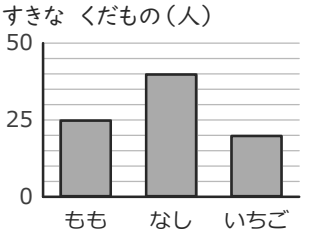


なしは
何人ですか。

＿＿＿＿＿＿ 人

**⑧**

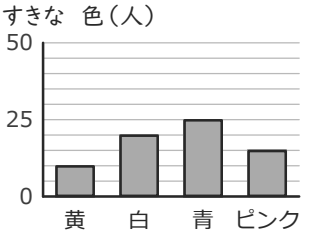


多い 方から
3ばんめは
どれですか。

＿＿＿＿＿＿

**⑨**

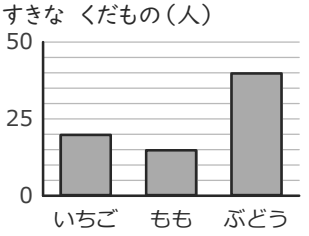


ももは
何人ですか。

＿＿＿＿＿＿ 人

**⑩**

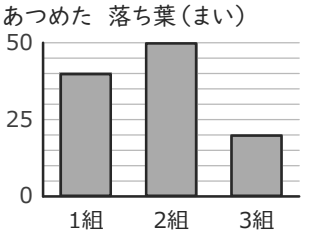


多い 方から
2ばんめは
どれですか。

＿＿＿＿＿＿

**⑪**

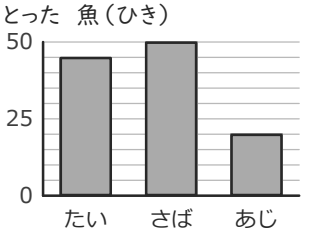


このグラフの
1目もりは
いくつですか。

＿＿＿＿＿＿

**⑫**

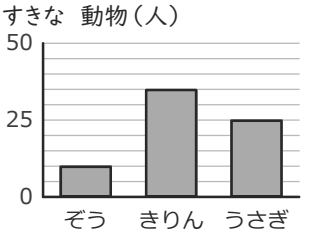


多い 方から
2ばんめは
どれですか。

＿＿＿＿＿＿


いちごドリル プリント

解きおわったら よんでね
答えと次の1枚がひらきます

# 小3 ぼうグラフ とっくんドリル①-3

1目もり・たんい・よこ向き・じゅんい（12問）

なまえ ＿＿＿＿＿＿＿＿

学習日 ＿＿＿＿＿＿＿＿

・グラフの 題と 1目もりの 大きさを 先に 見る
・答えは 下線に 書く

**①**

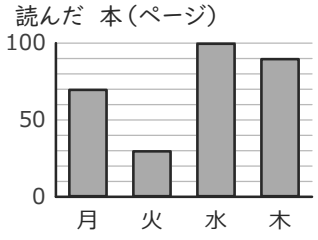


水よう日の 数は いくつ？

＿＿＿＿＿＿

（たんいも 書こう）

**②**

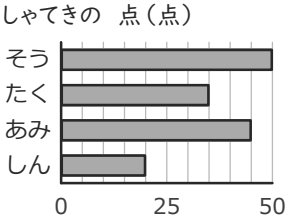


たくは 何点ですか。

＿＿＿＿＿＿ 点

**③**

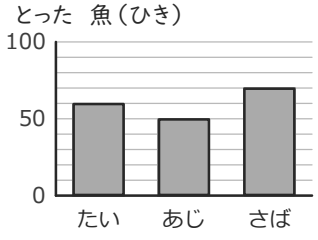


たいの 数は いくつ？

＿＿＿＿＿＿

（たんいも 書こう）

**④**

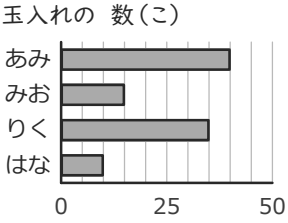


みおは 何こですか。

＿＿＿＿＿＿ こ

**⑤**

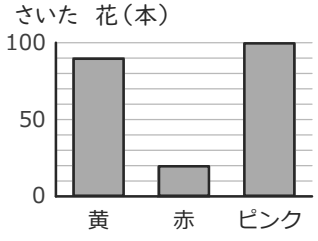


黄は 何本ですか。

＿＿＿＿＿＿ 本

**⑥**

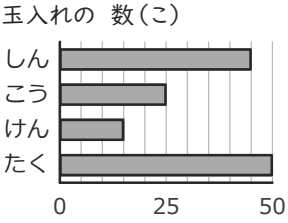


しんは 何こですか。

＿＿＿＿＿＿ こ

**⑦**

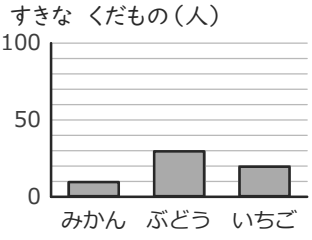


みかんは 何人ですか。

＿＿＿＿＿＿ 人

**⑧**

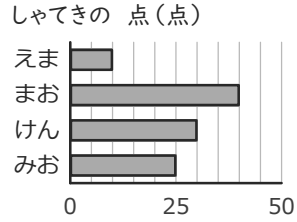


えまは 何点ですか。

＿＿＿＿＿＿ 点

**⑨**

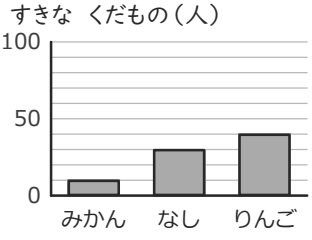


りんごは 何人ですか。

＿＿＿＿＿＿ 人

**⑩**

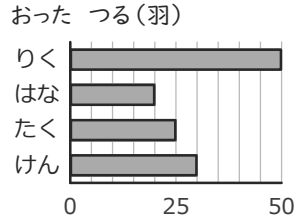


はなは 何羽ですか。

＿＿＿＿＿＿ 羽

**⑪**

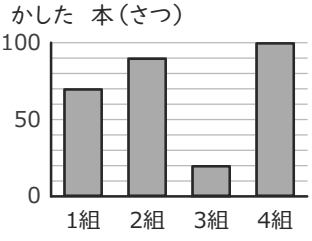


4組の 数は いくつ？

＿＿＿＿＿＿

（たんいも 書こう）

**⑫**

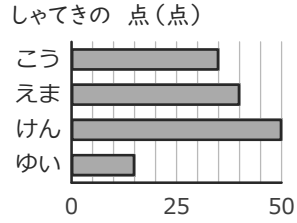


えまは 何点ですか。

＿＿＿＿＿＿ 点

# 小3 ぼうグラフ とっくんドリル①-4

1目もり・たんい・よこ向き・じゅんい（12問）

なまえ ＿＿＿＿＿＿＿＿

学習日 ＿＿＿＿＿＿＿＿

**・グラフの 題と 1目もりの 大きさを 先に 見る**
**・答えは 下線に 書く**

**①**

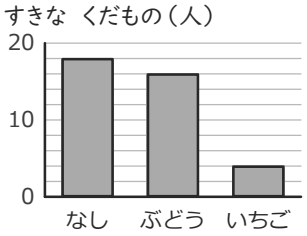


ぶどうは
何人ですか。

＿＿＿＿＿＿ 人

**②**

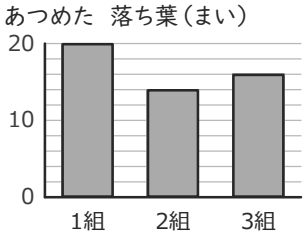


少ない 方から
2ばんめは
どれですか。

＿＿＿＿＿＿

**③**

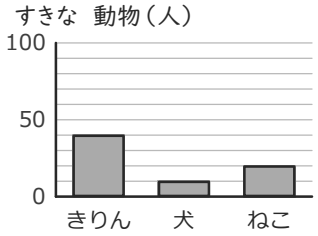


きりんは
何人ですか。

＿＿＿＿＿＿ 人

**④**

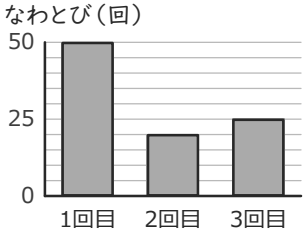


いちばん
少ないのは
どれですか。

＿＿＿＿＿＿

**⑤**

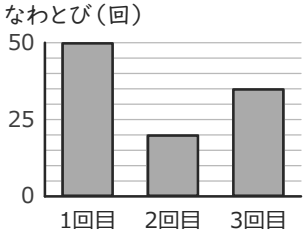


2回目は
何回ですか。

＿＿＿＿＿＿ 回

**⑥**

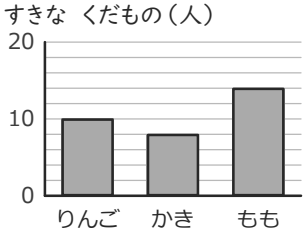


少ない 方から
2ばんめは
どれですか。

＿＿＿＿＿＿

**⑦**

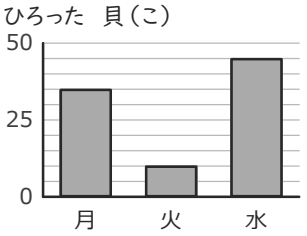


このグラフの
1目もりは
いくつですか。

＿＿＿＿＿＿

**⑧**

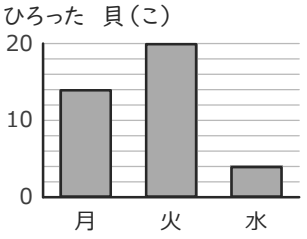


少ない 方から
2ばんめは
どれですか。

＿＿＿＿＿＿

**⑨**

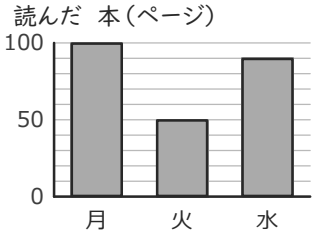


このグラフの
1目もりは
いくつですか。

＿＿＿＿＿＿

**⑩**

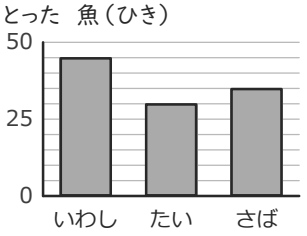


いちばん
少ないのは
どれですか。

＿＿＿＿＿＿

**⑪**

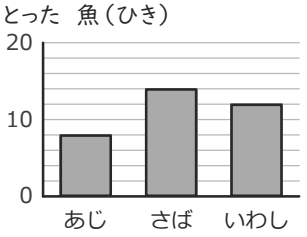


このグラフの
1目もりは
いくつですか。

＿＿＿＿＿＿

**⑫**

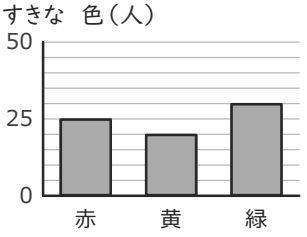


いちばん
少ないのは
どれですか。

＿＿＿＿＿＿


いちごドリル プリント

解きおわったら よんでね
答えと次の1枚がひらきます

# 小3 ぼうグラフ とっくんドリル①-5

1目もり・たんい・よこ向き・じゅんい（12問）

なまえ ＿＿＿＿＿＿＿＿

学習日 ＿＿＿＿＿＿＿＿

**・グラフの 題と 1目もりの 大きさを 先に 見る**
**・答えは 下線に 書く**

**①**

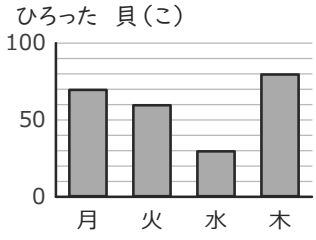


木よう日の 数は
いくつ？

＿＿＿＿＿＿
（たんいも 書こう）

**②**

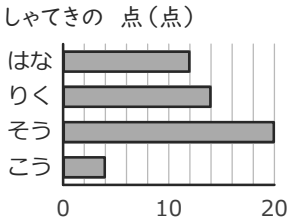


りくは
何点ですか。

＿＿＿＿＿＿ 点

**③**

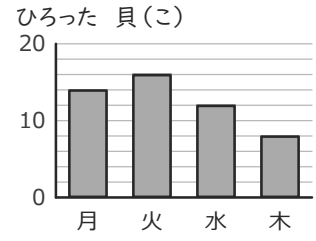


水よう日の 数は
いくつ？

＿＿＿＿＿＿
（たんいも 書こう）

**④**

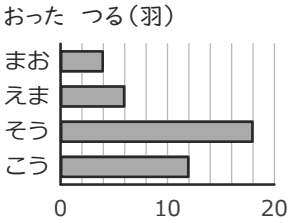


まおは
何羽ですか。

＿＿＿＿＿＿ 羽

**⑤**

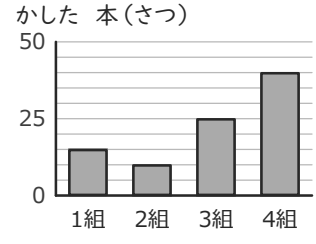


4組の 数は
いくつ？

＿＿＿＿＿＿
（たんいも 書こう）

**⑥**

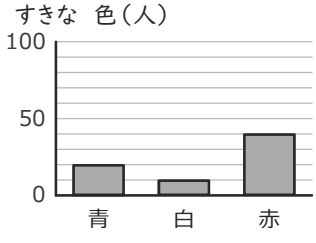


多い 方から
2ばんめは
どれですか。

＿＿＿＿＿＿

**⑦**

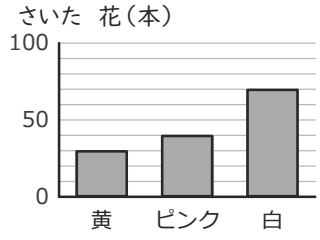


ピンクの 数は
いくつ？

＿＿＿＿＿＿
（たんいも 書こう）

**⑧**

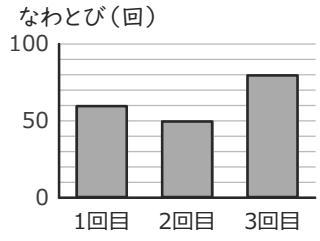


多い 方から
2ばんめは
どれですか。

＿＿＿＿＿＿

**⑨**

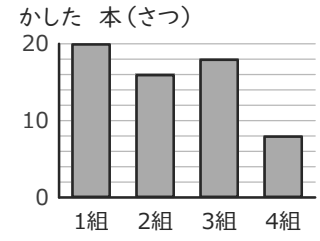


2組の 数は
いくつ？

＿＿＿＿＿＿
（たんいも 書こう）

**⑩**

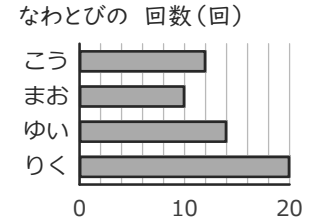


まおは
何回ですか。

＿＿＿＿＿＿ 回

**⑪**

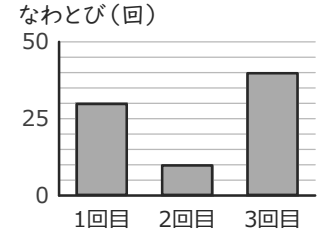


3回目の 数は
いくつ？

＿＿＿＿＿＿
（たんいも 書こう）

**⑫**

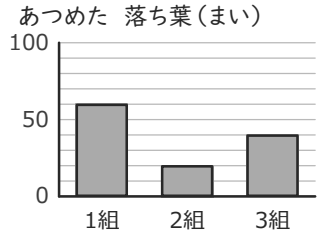


多い 方から
2ばんめは
どれですか。

＿＿＿＿＿＿

# 小3 ぼうグラフ とっくんドリル②-1

ぼうを かく・正の字・その他（12問）

なまえ ＿＿＿＿＿＿＿＿

学習日 ＿＿＿＿＿＿＿＿

**・ぼうは 1目もりの 大きさに 合わせて かく**
**・正の字は 1つで 5**

**①** ひょうを ぼうグラフに かこう。

ひょう

| 曜日 | 数 |
|---|---|
| 月 | 10 |
| 火 | 6 |
| 水 | 8 |

ひろった 貝（こ）

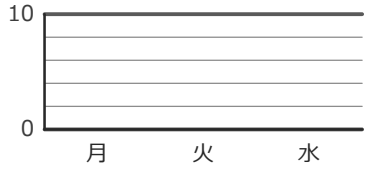


**②** 正正下 ひろった どんぐりを 正の字で 数えました。何こですか。

＿＿＿＿＿＿ こ

**③** ひょうを ぼうグラフに かこう。

ひょう

| 花 | 数 |
|---|---|
| ピンク | 4 |
| 黄 | 6 |
| 白 | 10 |

さいた 花（本）

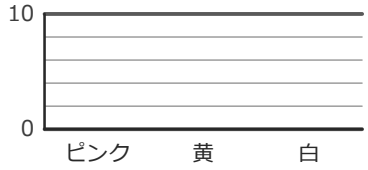


**④** 正下 とんだ 回数を 正の字で 数えました。何回ですか。

＿＿＿＿＿＿ 回

**⑤** ひょうを ぼうグラフに かこう。

ひょう

| 花 | 数 |
|---|---|
| 赤 | 10 |
| ピンク | 8 |
| 黄 | 4 |

さいた 花（本）

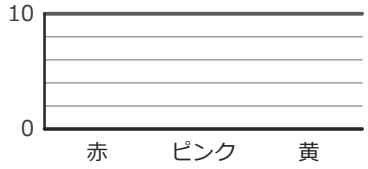


**⑥** 正正丅 入った ボールを 正の字で 数えました。何こですか。

＿＿＿＿＿＿ こ

**⑦** ひょうを ぼうグラフに かこう。

ひょう

| 魚 | 数 |
|---|---|
| あじ | 8 |
| さば | 10 |
| いわし | 4 |

とった 魚（ひき）

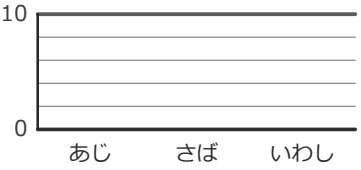


**⑧** 正一 入った ボールを 正の字で 数えました。何こですか。

＿＿＿＿＿＿ こ

**⑨** ひょうを ぼうグラフに かこう。

ひょう

| 曜日 | 数 |
|---|---|
| 月 | 4 |
| 火 | 8 |
| 水 | 6 |

読んだ 本（ページ）

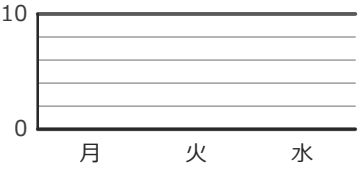


**⑩** 正丅 とんだ 回数を 正の字で 数えました。何回ですか。

＿＿＿＿＿＿ 回

**⑪** ひょうを ぼうグラフに かこう。

ひょう

| 動物 | 数 |
|---|---|
| ねこ | 8 |
| パンダ | 4 |
| ぞう | 6 |

すきな 動物（人）

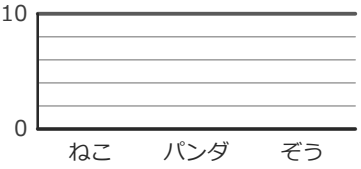


**⑫** 正正丅 えらんだ 人を 正の字で 数えました。何人ですか。

＿＿＿＿＿＿ 人


いちごドリル プリント

解きおわったら よんでね
答えと次の1枚がひらきます

# 小3 ぼうグラフ とっくんドリル②-2

ぼうを かく・正の字・その他（12問）

なまえ ＿＿＿＿＿＿＿＿

学習日 ＿＿＿＿＿＿＿＿

**・ぼうは 1目もりの 大きさに 合わせて かく**
**・正の字は 1つで 5**

## ①

ひょうを ぼうグラフに かこう。

ひょう

| 曜日 | 数 |
|---|---|
| 月 | 10 |
| 火 | 20 |
| 水 | 15 |

ひろった 貝（こ）

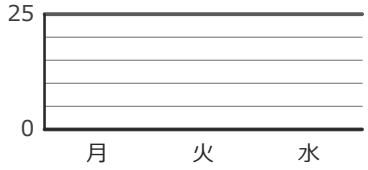


## ②

| しゅるい | 数(人) |
|---|---|
| ダンス | 2 |
| やきゅう | 13 |
| サッカー | 4 |
| 水えい | 1 |
| たっきゅう | 6 |

多い 2つ いがいを まとめた「その他」は 何人ですか。

＿＿＿＿＿＿ 人

## ③

ひょうを ぼうグラフに かこう。

ひょう

| 色 | 数 |
|---|---|
| 青 | 10 |
| 赤 | 25 |
| 黄 | 15 |

すきな 色（人）




## ④

| しゅるい | 数(人) |
|---|---|
| サッカー | 6 |
| 水えい | 1 |
| ダンス | 3 |
| たっきゅう | 14 |
| テニス | 5 |

多い 2つ いがいを まとめた「その他」は 何人ですか。

＿＿＿＿＿＿ 人

## ⑤

ひょうを ぼうグラフに かこう。

ひょう

| 花 | 数 |
|---|---|
| 黄 | 25 |
| ピンク | 20 |
| 赤 | 15 |

さいた 花（本）

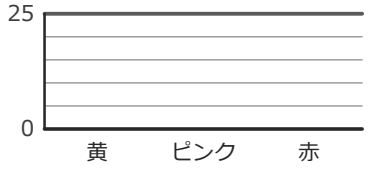


## ⑥

| しゅるい | 数(人) |
|---|---|
| 金魚 | 13 |
| 小鳥 | 12 |
| かめ | 7 |
| うさぎ | 4 |
| 犬 | 10 |

多い 2つ いがいを まとめた「その他」は 何人ですか。

＿＿＿＿＿＿ 人

## ⑦

ひょうを ぼうグラフに かこう。

ひょう

| 曜日 | 数 |
|---|---|
| 月 | 15 |
| 火 | 10 |
| 水 | 20 |

ひろった 貝（こ）

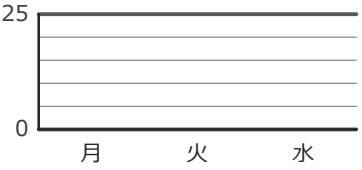


## ⑧

| しゅるい | 数(人) |
|---|---|
| 犬 | 3 |
| うさぎ | 14 |
| 小鳥 | 9 |
| 金魚 | 3 |
| ねこ | 12 |

多い 2つ いがいを まとめた「その他」は 何人ですか。

＿＿＿＿＿＿ 人

## ⑨

ひょうを ぼうグラフに かこう。

ひょう

| 曜日 | 数 |
|---|---|
| 月 | 15 |
| 火 | 25 |
| 水 | 20 |

ひろった 貝（こ）

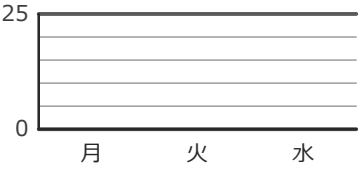


## ⑩

| しゅるい | 数(人) |
|---|---|
| ダンス | 6 |
| やきゅう | 4 |
| サッカー | 14 |
| テニス | 6 |
| たっきゅう | 13 |

多い 2つ いがいを まとめた「その他」は 何人ですか。

＿＿＿＿＿＿ 人

## ⑪

ひょうを ぼうグラフに かこう。

ひょう

| 曜日 | 数 |
|---|---|
| 月 | 25 |
| 火 | 10 |
| 水 | 20 |

読んだ 本（ページ）

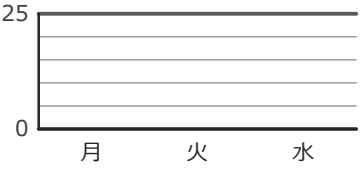


## ⑫

| しゅるい | 数(人) |
|---|---|
| 水えい | 3 |
| サッカー | 5 |
| テニス | 8 |
| ダンス | 4 |
| やきゅう | 12 |

多い 2つ いがいを まとめた「その他」は 何人ですか。

＿＿＿＿＿＿ 人


いちごドリル プリント

解きおわったら よんでね
答えと次の1枚がひらきます

# 小3 ぼうグラフ とっくんドリル②-3

ぼうを かく・正の字・その他（12問）

なまえ ＿＿＿＿＿＿＿＿

学習日 ＿＿＿＿＿＿＿＿

**・ぼうは 1目もりの 大きさに 合わせて かく**
**・正の字は 1つで 5**

**①** ひょうを ぼうグラフに かこう。

ひょう

| 曜日 | 数 |
|---|---|
| 月 | 20 |
| 火 | 10 |
| 水 | 40 |

ひろった 貝（こ）

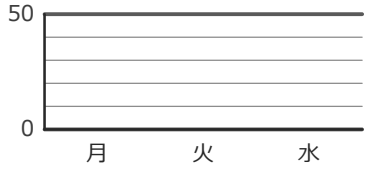


**②** 正正正丅 ひろった どんぐりを 正の字で 数えました。何こですか。

＿＿＿＿＿＿ こ

**③** ひょうを ぼうグラフに かこう。

ひょう

| 曜日 | 数 |
|---|---|
| 月 | 40 |
| 火 | 20 |
| 水 | 30 |

読んだ 本（ページ）

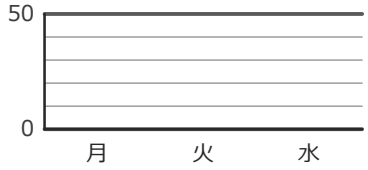


**④** 正正正正一 とんだ 回数を 正の字で 数えました。何回ですか。

＿＿＿＿＿＿ 回

**⑤** ひょうを ぼうグラフに かこう。

ひょう

| 回 | 数 |
|---|---|
| 1回目 | 10 |
| 2回目 | 30 |
| 3回目 | 20 |

なわとび（回）

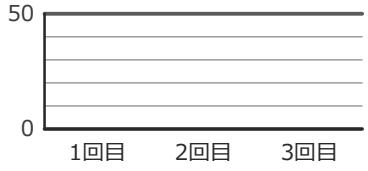


**⑥** 正正正正下 とんだ 回数を 正の字で 数えました。何回ですか。

＿＿＿＿＿＿ 回

**⑦** ひょうを ぼうグラフに かこう。

ひょう

| 曜日 | 数 |
|---|---|
| 月 | 40 |
| 火 | 20 |
| 水 | 10 |

読んだ 本（ページ）

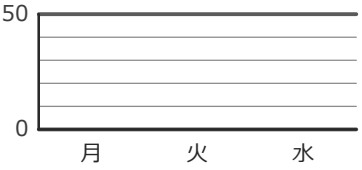


**⑧** 正正正正丅 入った ボールを 正の字で 数えました。何こですか。

＿＿＿＿＿＿ こ

**⑨** ひょうを ぼうグラフに かこう。

ひょう

| 花 | 数 |
|---|---|
| ピンク | 20 |
| 黄 | 30 |
| 赤 | 10 |

さいた 花（本）

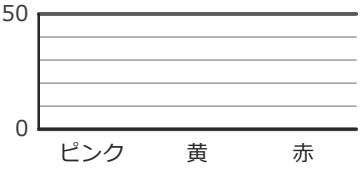


**⑩** 正正正正丅 入った ボールを 正の字で 数えました。何こですか。

＿＿＿＿＿＿ こ

**⑪** ひょうを ぼうグラフに かこう。

ひょう

| 動物 | 数 |
|---|---|
| きりん | 20 |
| 犬 | 30 |
| ねこ | 40 |

すきな 動物（人）

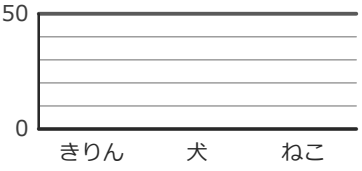


**⑫** 正正正丅 入った ボールを 正の字で 数えました。何こですか。

＿＿＿＿＿＿ こ

# 小3 ぼうグラフ とっくんドリル②-4

ぼうを かく・正の字・その他（12問）

なまえ ＿＿＿＿＿＿＿＿

学習日 ＿＿＿＿＿＿＿＿

**・ぼうは 1目もりの 大きさに 合わせて かく**
**・正の字は 1つで 5**

**①** ひょうを ぼうグラフに かこう。

ひょう

| 組 | 数 |
|---|---|
| 1組 | 10 |
| 2組 | 40 |
| 3組 | 20 |




**②**

| しゅるい | 数(人) |
|---|---|
| うどん | 8 |
| すし | 2 |
| パン | 7 |
| ピザ | 1 |
| カレー | 6 |
| ラーメン | 4 |

多い 3つ いがいを まとめた「その他」は 何人ですか。

＿＿＿＿＿＿ 人

**③** 1目もり2で ぼうを かこう。
□には たての 数を 書こう。

ひょう

| 曜日 | 数 |
|---|---|
| 月 | 8 |
| 火 | 6 |
| 水 | 4 |

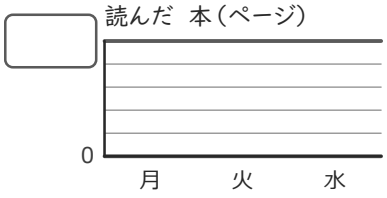


**④**

| しゅるい | 数(人) |
|---|---|
| すし | 10 |
| カレー | 13 |
| うどん | 13 |
| ラーメン | 11 |
| ピザ | 9 |
| パン | 7 |

多い 3つ いがいを まとめた「その他」は 何人ですか。

＿＿＿＿＿＿ 人

**⑤** 1目もり2で ぼうを かこう。
□には たての 数を 書こう。

ひょう

| くだもの | 数 |
|---|---|
| メロン | 8 |
| かき | 10 |
| ぶどう | 6 |

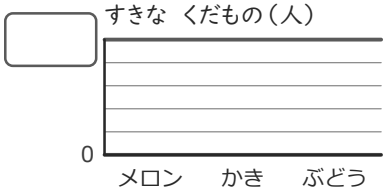


**⑥**

| しゅるい | 数(人) |
|---|---|
| カレー | 14 |
| パン | 6 |
| すし | 9 |
| ラーメン | 8 |
| ピザ | 7 |
| うどん | 2 |

多い 3つ いがいを まとめた「その他」は 何人ですか。

＿＿＿＿＿＿ 人

**⑦** ひょうを ぼうグラフに かこう。

ひょう

| 魚 | 数 |
|---|---|
| たい | 20 |
| いわし | 25 |
| さば | 10 |

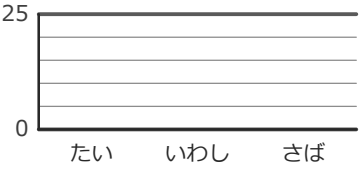


**⑧**

| しゅるい | 数(人) |
|---|---|
| ダンス | 14 |
| サッカー | 4 |
| たっきゅう | 13 |
| やきゅう | 3 |
| テニス | 5 |
| 水えい | 9 |

多い 3つ いがいを まとめた「その他」は 何人ですか。

＿＿＿＿＿＿ 人

**⑨** 1目もり10で ぼうを かこう。
□には たての 数を 書こう。

ひょう

| くだもの | 数 |
|---|---|
| かき | 20 |
| ぶどう | 40 |
| もも | 10 |

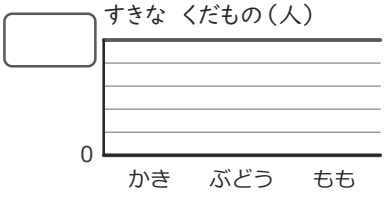


**⑩**

| しゅるい | 数(人) |
|---|---|
| たっきゅう | 10 |
| やきゅう | 10 |
| テニス | 2 |
| サッカー | 6 |
| ダンス | 13 |
| 水えい | 2 |

多い 3つ いがいを まとめた「その他」は 何人ですか。

＿＿＿＿＿＿ 人

**⑪** 1目もり5で ぼうを かこう。
□には たての 数を 書こう。

ひょう

| 曜日 | 数 |
|---|---|
| 月 | 20 |
| 火 | 10 |
| 水 | 15 |

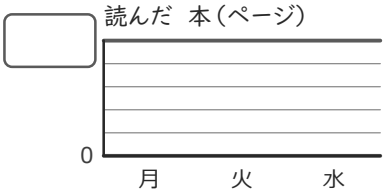


**⑫**

| しゅるい | 数(人) |
|---|---|
| やきゅう | 7 |
| 水えい | 4 |
| ダンス | 4 |
| たっきゅう | 3 |
| テニス | 11 |
| サッカー | 9 |

多い 3つ いがいを まとめた「その他」は 何人ですか。

＿＿＿＿＿＿ 人

# 小3 ぼうグラフ とっくんドリル②-5

ぼうを かく・正の字・その他（12問）

なまえ ＿＿＿＿＿＿＿＿

学習日 ＿＿＿＿＿＿＿＿

**・ぼうは 1目もりの 大きさに 合わせて かく**
**・正の字は 1つで 5**

**①** ひょうを ぼうグラフに かこう。

ひょう

| 曜日 | 数 |
|---|---|
| 月 | 20 |
| 火 | 15 |
| 水 | 25 |

読んだ 本（ページ）

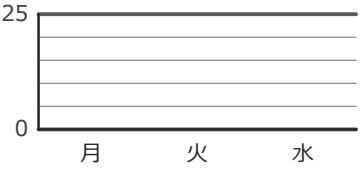


**②** 正正正下 入った ボールを 正の字で 数えました。何こですか。

＿＿＿＿＿＿ こ

**③** ひょうを ぼうグラフに かこう。

ひょう

| 回 | 数 |
|---|---|
| 1回目 | 10 |
| 2回目 | 4 |
| 3回目 | 6 |

なわとび（回）

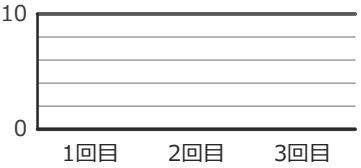


**④**

| しゅるい | 数(人) |
|---|---|
| うさぎ | 11 |
| 小鳥 | 2 |
| ねこ | 5 |
| かめ | 12 |
| 金魚 | 1 |

多い 2つ いがいを まとめた「その他」は 何人ですか。

＿＿＿＿＿＿ 人

**⑤** ひょうを ぼうグラフに かこう。

ひょう

| 魚 | 数 |
|---|---|
| いわし | 4 |
| さば | 10 |
| たい | 6 |

とった 魚（ひき）

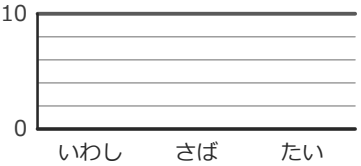


**⑥** 正正正一 ひろった どんぐりを 正の字で 数えました。何こですか。

＿＿＿＿＿＿ こ

**⑦** ひょうを ぼうグラフに かこう。

ひょう

| 魚 | 数 |
|---|---|
| たい | 20 |
| さば | 25 |
| いわし | 15 |

とった 魚（ひき）

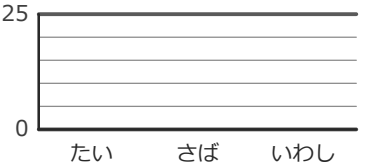


**⑧**

| しゅるい | 数(人) |
|---|---|
| 金魚 | 11 |
| 犬 | 1 |
| ねこ | 5 |
| 小鳥 | 5 |
| かめ | 6 |

多い 2つ いがいを まとめた「その他」は 何人ですか。

＿＿＿＿＿＿ 人

**⑨** ひょうを ぼうグラフに かこう。

ひょう

| 動物 | 数 |
|---|---|
| うさぎ | 25 |
| きりん | 20 |
| ねこ | 10 |

すきな 動物（人）

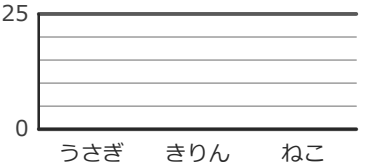


**⑩** 正正正正丅 とんだ 回数を 正の字で 数えました。何回ですか。

＿＿＿＿＿＿ 回

**⑪** ひょうを ぼうグラフに かこう。

ひょう

| 動物 | 数 |
|---|---|
| ねこ | 6 |
| きりん | 4 |
| パンダ | 8 |

すきな 動物（人）

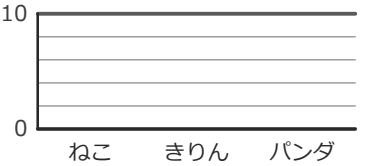


**⑫**

| しゅるい | 数(人) |
|---|---|
| ラーメン | 7 |
| すし | 2 |
| パン | 9 |
| ピザ | 8 |
| カレー | 6 |

多い 2つ いがいを まとめた「その他」は 何人ですか。

＿＿＿＿＿＿ 人

# 小3 ぼうグラフ とっくんドリル③-1

2つの グラフ・ひょうの 合計（12問）

なまえ ＿＿＿＿＿＿＿＿

学習日 ＿＿＿＿＿＿＿＿

**答えは 下線に 書く（2つの グラフは 1目もりを べつべつに 見る）**

**①** 鳥が すきな 人は、1組は 2組より 何人 多いですか。

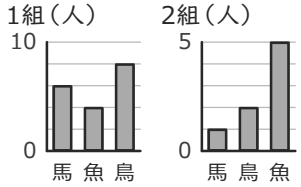


＿＿＿＿＿＿ 人

**②**

| | 晴れ | 雨 | 合計 |
|---|---|---|---|
| 1組 | 12 | 6 | 18 |
| 2組 | 9 | 9 | 18 |
| 合計 | 21 | 15 | **あ** |

ひょうの あに 入る 数は いくつですか。

＿＿＿＿＿＿

**③** 黄が すきな 人は、4組は 3組より 何人 多いですか。

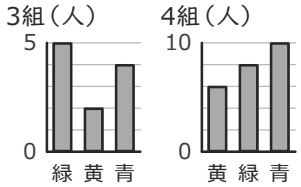


＿＿＿＿＿＿ 人

**④**

| | 晴れ | 雨 | 合計 |
|---|---|---|---|
| 1組 | 9 | 10 | 19 |
| 2組 | 12 | 13 | 25 |
| 合計 | 21 | 23 | **あ** |

ひょうの あに 入る 数は いくつですか。

＿＿＿＿＿＿

**⑤** 馬が すきな 人は、1組は 2組より 何人 多いですか。

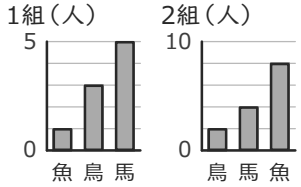


＿＿＿＿＿＿ 人

**⑥**

| | 晴れ | 雨 | 合計 |
|---|---|---|---|
| 1組 | 6 | 13 | 19 |
| 2組 | 9 | 6 | 15 |
| 合計 | 15 | 19 | **あ** |

ひょうの あに 入る 数は いくつですか。

＿＿＿＿＿＿

**⑦** 青が すきな 人は、2組は 1組より 何人 多いですか。

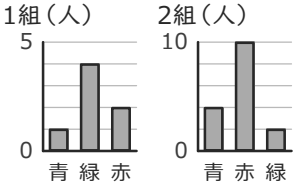


＿＿＿＿＿＿ 人

**⑧**

| | 晴れ | 雨 | 合計 |
|---|---|---|---|
| 1組 | 8 | 7 | 15 |
| 2組 | 6 | 8 | 14 |
| 合計 | 14 | 15 | **あ** |

ひょうの あに 入る 数は いくつですか。

＿＿＿＿＿＿

**⑨** 牛が すきな 人は、3組は 4組より 何人 多いですか。

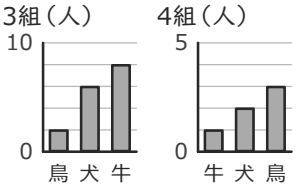


＿＿＿＿＿＿ 人

**⑩**

| | 男 | 女 | 合計 |
|---|---|---|---|
| 1組 | 9 | 13 | 22 |
| 2組 | 15 | 12 | 27 |
| 合計 | 24 | 25 | **あ** |

ひょうの あに 入る 数は いくつですか。

＿＿＿＿＿＿

**⑪** 牛が すきな 人は、1組は 2組より 何人 多いですか。

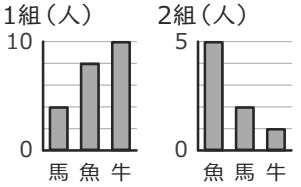


＿＿＿＿＿＿ 人

**⑫**

| | 男 | 女 | 合計 |
|---|---|---|---|
| 1組 | 14 | 10 | 24 |
| 2組 | 9 | 15 | 24 |
| 合計 | 23 | 25 | **あ** |

ひょうの あに 入る 数は いくつですか。

＿＿＿＿＿＿

# 小3 ぼうグラフ とっくんドリル③-2

2つの グラフ・ひょうの 合計（12問）

なまえ ＿＿＿＿＿＿

学習日 ＿＿＿＿＿＿

**答えは 下線に 書く（2つの グラフは 1目もりを べつべつに 見る）**

**①** 馬が すきな 人は、1組は 2組より 何人 多いですか。

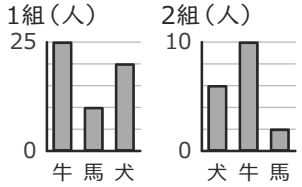


＿＿＿＿＿＿ 人

**②**

**3組**

| なまえ | 人数 |
|---|---|
| ぶどう | 7 |
| りんご | 4 |
| いちご | 8 |

**4組**

| なまえ | 人数 |
|---|---|
| りんご | 9 |
| ぶどう | 10 |
| いちご | 12 |

2つの 組を あわせると、ぶどうは 何人ですか。

＿＿＿＿＿＿ 人

**③** 緑が すきな 人が 多いのは、どちらの 組ですか。

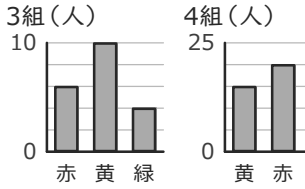


＿＿＿＿＿＿

**④**

**3組**

| なまえ | 人数 |
|---|---|
| いちご | 4 |
| りんご | 8 |
| ぶどう | 4 |

**4組**

| なまえ | 人数 |
|---|---|
| ぶどう | 5 |
| いちご | 3 |
| りんご | 6 |

2つの 組を あわせると、りんごは 何人ですか。

＿＿＿＿＿＿ 人

**⑤** 赤が すきな 人は、3組は 4組より 何人 多いですか。

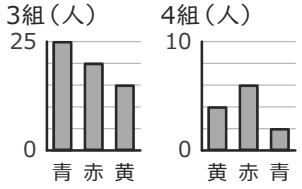


＿＿＿＿＿＿ 人

**⑥**

**3組**

| なまえ | 人数 |
|---|---|
| なし | 5 |
| りんご | 3 |
| いちご | 8 |

**4組**

| なまえ | 人数 |
|---|---|
| りんご | 7 |
| いちご | 11 |
| なし | 11 |

2つの 組を あわせると、りんごは 何人ですか。

＿＿＿＿＿＿ 人

**⑦** 鳥が すきな 人が 多いのは、どちらの 組ですか。

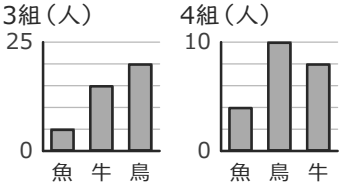


＿＿＿＿＿＿

**⑧**

**3組**

| なまえ | 人数 |
|---|---|
| いちご | 9 |
| もも | 4 |
| りんご | 10 |

**4組**

| なまえ | 人数 |
|---|---|
| いちご | 4 |
| りんご | 6 |
| もも | 9 |

2つの 組を あわせると、ももは 何人ですか。

＿＿＿＿＿＿ 人

**⑨** 牛が すきな 人が 多いのは、どちらの 月ですか。

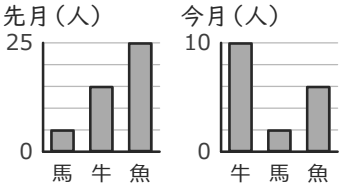


＿＿＿＿＿＿

**⑩**

**1組**

| なまえ | 人数 |
|---|---|
| なし | 10 |
| みかん | 8 |
| ぶどう | 5 |

**2組**

| なまえ | 人数 |
|---|---|
| ぶどう | 6 |
| なし | 9 |
| みかん | 5 |

2つの 組を あわせると、ぶどうは 何人ですか。

＿＿＿＿＿＿ 人

**⑪** 青が すきな 人が 多いのは、どちらの 組ですか。

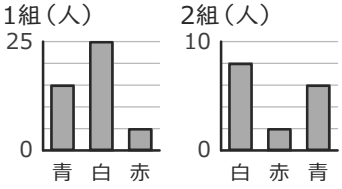


＿＿＿＿＿＿

**⑫**

**1組**

| なまえ | 人数 |
|---|---|
| いちご | 12 |
| りんご | 12 |
| みかん | 12 |

**2組**

| なまえ | 人数 |
|---|---|
| りんご | 8 |
| みかん | 3 |
| いちご | 9 |

2つの 組を あわせると、りんごは 何人ですか。

＿＿＿＿＿＿ 人


いちごドリル プリント

解きおわったら よんでね
答えと次の1枚がひらきます

# 小3 ぼうグラフ とっくんドリル③-3

2つの グラフ・ひょうの 合計（12問）

なまえ ＿＿＿＿＿＿＿＿

学習日 ＿＿＿＿＿＿＿＿

**答えは 下線に 書く（2つの グラフは 1目もりを べつべつに 見る）**

**①** 犬が すきな 人は、今月は 先月より 何人 ふえましたか。

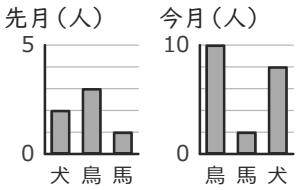


＿＿＿＿＿＿ 人

**②**

| | 犬 | ねこ | 鳥 | 合計 |
|---|---|---|---|---|
| 1組 | 9 | 6 | 9 | あ |
| 2組 | 10 | 12 | 12 | 34 |

ひょうの あに 入る 数は いくつですか。

＿＿＿＿＿＿

**③** 白が すきな 人は、今月は 先月より 何人 ふえましたか。

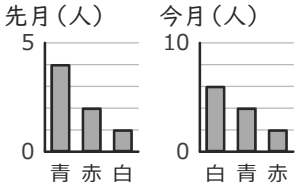


＿＿＿＿＿＿ 人

**④**

| | 月 | 火 | 水 | 合計 |
|---|---|---|---|---|
| 1組 | 3 | 9 | 6 | あ |
| 2組 | 6 | 11 | 10 | 27 |

ひょうの あに 入る 数は いくつですか。

＿＿＿＿＿＿

**⑤** 白が すきな 人は、今月は 先月より 何人 ふえましたか。

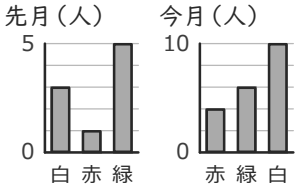


＿＿＿＿＿＿ 人

**⑥**

| | 月 | 火 | 水 | 合計 |
|---|---|---|---|---|
| 1組 | 5 | 5 | 7 | 17 |
| 2組 | 3 | 8 | 9 | あ |

ひょうの あに 入る 数は いくつですか。

＿＿＿＿＿＿

**⑦** 青が すきな 人は、今月は 先月より 何人 ふえましたか。

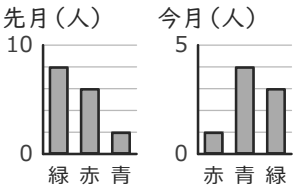


＿＿＿＿＿＿ 人

**⑧**

| | 赤 | 青 | 黄 | 合計 |
|---|---|---|---|---|
| 1組 | 6 | 11 | 4 | 21 |
| 2組 | 3 | 4 | 3 | あ |

ひょうの あに 入る 数は いくつですか。

＿＿＿＿＿＿

**⑨** 赤が すきな 人は、今月は 先月より 何人 ふえましたか。

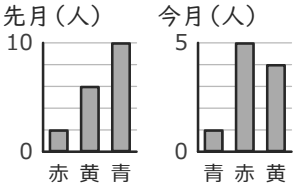


＿＿＿＿＿＿ 人

**⑩**

| | 犬 | ねこ | 鳥 | 合計 |
|---|---|---|---|---|
| 1組 | 7 | 11 | 11 | あ |
| 2組 | 8 | 11 | 5 | 24 |

ひょうの あに 入る 数は いくつですか。

＿＿＿＿＿＿

**⑪** 犬が すきな 人は、今月は 先月より 何人 ふえましたか。

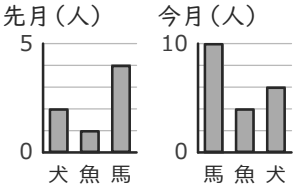


＿＿＿＿＿＿ 人

**⑫**

| | 月 | 火 | 水 | 合計 |
|---|---|---|---|---|
| 1組 | 12 | 6 | 12 | あ |
| 2組 | 7 | 7 | 7 | 21 |

ひょうの あに 入る 数は いくつですか。

＿＿＿＿＿＿

# 小3 ぼうグラフ とっくんドリル③-4

2つの グラフ・ひょうの 合計（12問）

なまえ ＿＿＿＿＿＿＿＿

学習日 ＿＿＿＿＿＿＿＿

**答えは 下線に 書く（2つの グラフは 1目もりを べつべつに 見る）**

**①** 緑が すきな 人は、1組は 2組より 何人 多いですか。

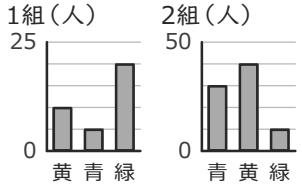


＿＿＿＿＿＿ 人

**②**

| | 午前 | 午後 | 合計 |
|---|---|---|---|
| 1組 | 7 | 8 | 15 |
| 2組 | 15 | 14 | 29 |
| 合計 | 22 | 22 | **あ** |

ひょうの あに 入る 数は いくつですか。

＿＿＿＿＿＿

**③** 馬が すきな 人は、2組は 1組より 何人 多いですか。

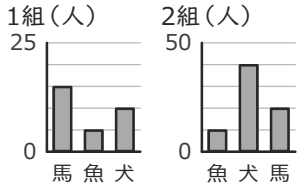


＿＿＿＿＿＿ 人

**④**

| | 赤 | 青 | 黄 | 合計 |
|---|---|---|---|---|
| 1組 | 6 | 4 | 8 | **あ** |
| 2組 | 4 | 9 | 6 | 19 |

ひょうの あに 入る 数は いくつですか。

＿＿＿＿＿＿

**⑤** 犬が すきな 人は、1組は 2組より 何人 多いですか。

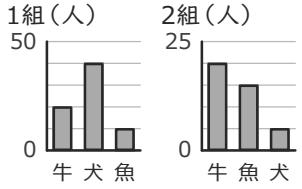


＿＿＿＿＿＿ 人

**⑥**

| | 晴れ | 雨 | 合計 |
|---|---|---|---|
| 1組 | 8 | 6 | 14 |
| 2組 | 9 | 12 | 21 |
| 合計 | 17 | 18 | **あ** |

ひょうの あに 入る 数は いくつですか。

＿＿＿＿＿＿

**⑦** 犬が すきな 人は、4組は 3組より 何人 多いですか。

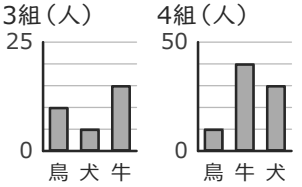


＿＿＿＿＿＿ 人

**⑧**

| | 午前 | 午後 | 合計 |
|---|---|---|---|
| 1組 | 5 | 9 | 14 |
| 2組 | 12 | 8 | 20 |
| 合計 | 17 | 17 | **あ** |

ひょうの あに 入る 数は いくつですか。

＿＿＿＿＿＿

**⑨** 魚が すきな 人は、1組は 2組より 何人 多いですか。

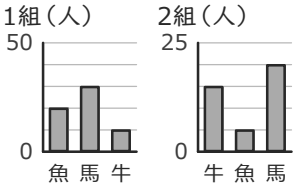


＿＿＿＿＿＿ 人

**⑩**

| | 犬 | ねこ | 鳥 | 合計 |
|---|---|---|---|---|
| 1組 | 6 | 9 | 5 | 20 |
| 2組 | 7 | 5 | 7 | **あ** |

ひょうの あに 入る 数は いくつですか。

＿＿＿＿＿＿

**⑪** 青が すきな 人は、2組は 1組より 何人 多いですか。

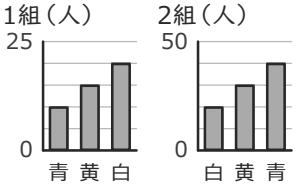


＿＿＿＿＿＿ 人

**⑫**

| | 赤 | 青 | 黄 | 合計 |
|---|---|---|---|---|
| 1組 | 3 | 11 | 3 | **あ** |
| 2組 | 7 | 10 | 5 | 22 |

ひょうの あに 入る 数は いくつですか。

＿＿＿＿＿＿


いちごドリル プリント

解きおわったら よんでね
答えと次の1枚がひらきます

# 小3 ぼうグラフ とっくんドリル③-5

2つの グラフ・ひょうの 合計（12問）

なまえ ＿＿＿＿＿＿＿＿

学習日 ＿＿＿＿＿＿＿＿

**答えは 下線に 書く（2つの グラフは 1目もりを べつべつに 見る）**

**①** 犬が すきな 人は、今月は 先月より 何人 ふえましたか。

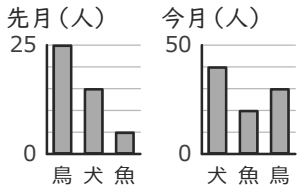


＿＿＿＿＿＿ 人

**②**

**1組**

| なまえ | 人数 |
|---|---|
| もも | 10 |
| みかん | 12 |
| ぶどう | 12 |

**2組**

| なまえ | 人数 |
|---|---|
| ぶどう | 12 |
| もも | 9 |
| みかん | 10 |

2つの 組を あわせると、ぶどうは 何人ですか。

＿＿＿＿＿＿ 人

**③** 鳥が すきな 人が 多いのは、どちらの 組ですか。

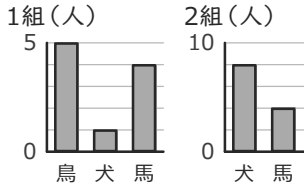


＿＿＿＿＿＿

**④**

**1組**

| なまえ | 人数 |
|---|---|
| ぶどう | 5 |
| りんご | 3 |
| なし | 3 |

**2組**

| なまえ | 人数 |
|---|---|
| りんご | 2 |
| ぶどう | 9 |
| なし | 2 |

2つの 組を あわせると、ぶどうは 何人ですか。

＿＿＿＿＿＿ 人

**⑤** 馬が すきな 人が 多いのは、どちらの 月ですか。

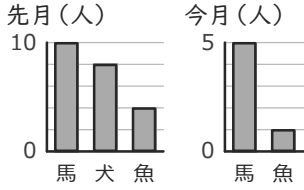


＿＿＿＿＿＿

**⑥**

| | 晴れ | 雨 | 合計 |
|---|---|---|---|
| 1組 | 6 | 7 | 13 |
| 2組 | 9 | 10 | 19 |
| 合計 | 15 | 17 | **あ** |

ひょうの あに 入る 数は いくつですか。

＿＿＿＿＿＿

**⑦** 魚が すきな 人は、3組は 4組より 何人 多いですか。

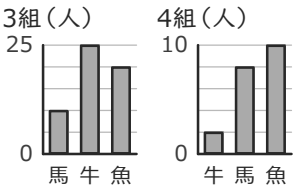


＿＿＿＿＿＿ 人

**⑧**

| | 赤 | 青 | 黄 | 合計 |
|---|---|---|---|---|
| 1組 | 5 | 5 | 10 | **あ** |
| 2組 | 6 | 8 | 3 | 17 |

ひょうの あに 入る 数は いくつですか。

＿＿＿＿＿＿

**⑨** 魚が すきな 人は、今月は 先月より 何人 ふえましたか。

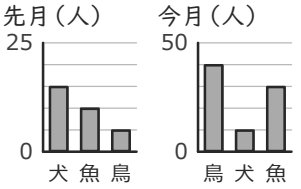


＿＿＿＿＿＿ 人

**⑩**

| | 赤 | 青 | 黄 | 合計 |
|---|---|---|---|---|
| 1組 | 9 | 8 | 9 | 26 |
| 2組 | 8 | 11 | 4 | **あ** |

ひょうの あに 入る 数は いくつですか。

＿＿＿＿＿＿

**⑪** 犬が すきな 人は、4組は 3組より 何人 多いですか。

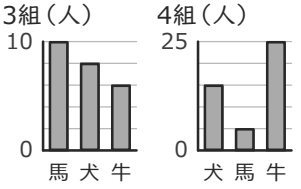


＿＿＿＿＿＿ 人

**⑫**

| | 午前 | 午後 | 合計 |
|---|---|---|---|
| 1組 | 13 | 13 | 26 |
| 2組 | 6 | 14 | 20 |
| 合計 | 19 | 27 | **あ** |

ひょうの あに 入る 数は いくつですか。

＿＿＿＿＿＿


いちごドリル プリント

解きおわったら よんでね
答えと次の1枚がひらきます

# 小3 ぼうグラフ そうごうテスト（その2）

つまずきを6つ、2問ずつ（100点）

なまえ ＿＿＿＿＿＿＿＿

学習日 ＿＿＿＿＿＿＿＿

**答えは 下線に 書く（ぼうグラフの 問題は グラフの 線に 合わせて ぼうを かく）**

**①** 8点

ももが すきな 人は、今月は
先月より 何人 ふえましたか。

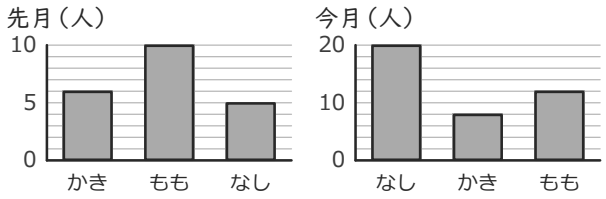


＿＿＿＿＿＿ 人

**②** 8点

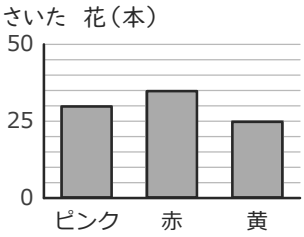


黄は
何本ですか。

＿＿＿＿＿＿ 本

**③** 8点

ひょうを ぼうグラフに かこう。

ひょう

| 魚 | 数 |
|---|---|
| たい | 40 |
| あじ | 30 |
| さば | 10 |

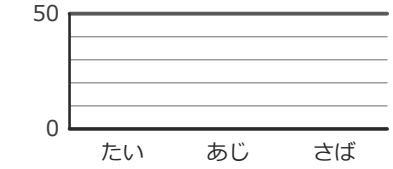


**④** 8点

正正正正一

ひろった どんぐりを
正の字で 数えました。
何こですか。

＿＿＿＿＿＿ こ

**⑤** 8点

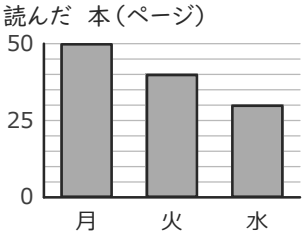


いちばん
少ないのは
どれですか。

＿＿＿＿＿＿

**⑥** 8点

| しゅるい | 数(人) |
|---|---|
| 小鳥 | 12 |
| ねこ | 1 |
| 犬 | 11 |
| かめ | 12 |
| 金魚 | 1 |

多い 2つ いがいを
まとめた「その他」は
何人ですか。

＿＿＿＿＿＿ 人

**⑦** 8点

うしが すきな 人が
多いのは、どちらの 組ですか。

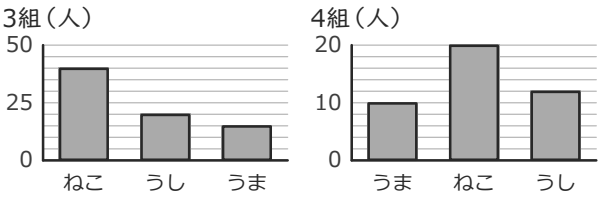


＿＿＿＿＿＿

**⑧** 8点

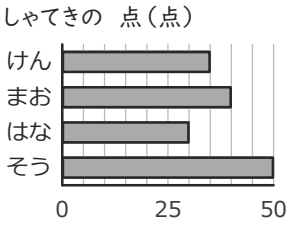


まおは
何点ですか。

＿＿＿＿＿＿ 点

**⑨** 9点

ひょうを ぼうグラフに かこう。

ひょう

| 動物 | 数 |
|---|---|
| ねこ | 4 |
| ぞう | 10 |
| うさぎ | 8 |




**⑩** 9点

| | 赤 | 青 | 黄 | 合計 |
|---|---|---|---|---|
| 1組 | 7 | 3 | 5 | あ |
| 2組 | 10 | 8 | 5 | 23 |

ひょうの あに
入る 数は
いくつですか。

＿＿＿＿＿＿

**⑪** 9点

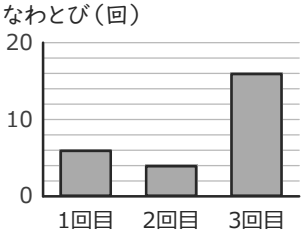


3回目の 数は
いくつ？

＿＿＿＿＿＿

（たんいも 書こう）

**⑫** 9点

3組

| なまえ | 人数 |
|---|---|
| もも | 11 |
| みかん | 5 |
| ぶどう | 12 |

4組

| なまえ | 人数 |
|---|---|
| みかん | 2 |
| もも | 7 |
| ぶどう | 7 |

2つの 組を
あわせると、
みかんは 何人ですか。

＿＿＿＿＿＿ 人

# 小3 ぼうグラフ そうごうテスト（その3）

つまずきを6つ、2問ずつ（100点）

なまえ ＿＿＿＿＿＿＿＿

学習日 ＿＿＿＿＿＿＿＿

**答えは 下線に 書く（ぼうグラフの 問題は グラフの 線に 合わせて ぼうを かく）**

**①** 8点

うまが すきな 人は、3組は
4組より 何人 多いですか。

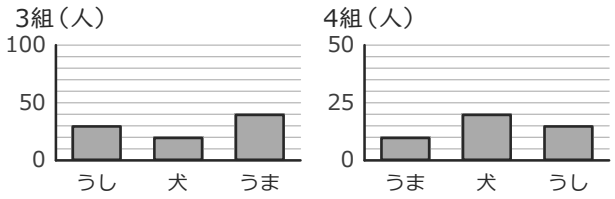


＿＿＿＿＿＿ 人

**②** 8点

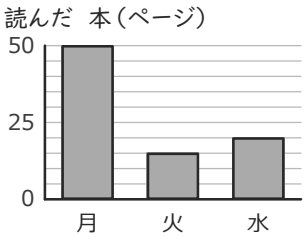


このグラフの
1目もりは
いくつですか。

＿＿＿＿＿＿

**③** 8点

| しゅるい | 数(人) |
|---|---|
| 小鳥 | 5 |
| 犬 | 10 |
| うさぎ | 14 |
| かめ | 12 |
| 金魚 | 7 |
| ねこ | 5 |

多い 3つ いがいを
まとめた「その他」は
何人ですか。

＿＿＿＿＿＿ 人

**④** 8点

1目もり5で ぼうを かこう。
□には たての 数を 書こう。

ひょう

| 花 | 数 |
|---|---|
| 赤 | 20 |
| ピンク | 10 |
| 白 | 25 |

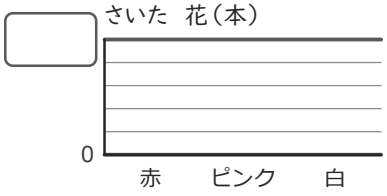


**⑤** 8点

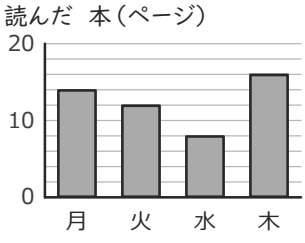


多い 方から
3ばんめは
どれですか。

＿＿＿＿＿＿

**⑥** 8点

正正正下

えらんだ 人を
正の字で 数えました。
何人ですか。

＿＿＿＿＿＿ 人

**⑦** 8点

犬が すきな 人が
多いのは、どちらの 組ですか。

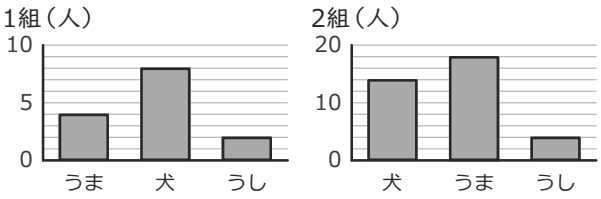


＿＿＿＿＿＿

**⑧** 8点

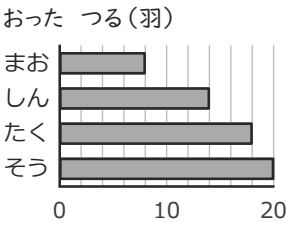


しんは
何羽ですか。

＿＿＿＿＿＿ 羽

**⑨** 9点

| | 晴れ | 雨 | 合計 |
|---|---|---|---|
| 1組 | 9 | 15 | 24 |
| 2組 | 9 | 15 | 24 |
| 合計 | 18 | 30 | あ |

ひょうの あに
入る 数は
いくつですか。

＿＿＿＿＿＿

**⑩** 9点

ひょうを ぼうグラフに かこう。

ひょう

| 回 | 数 |
|---|---|
| 1回目 | 8 |
| 2回目 | 6 |
| 3回目 | 10 |

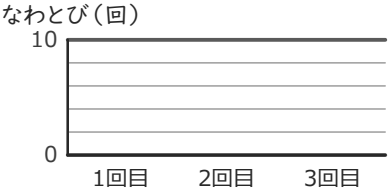


**⑪** 9点

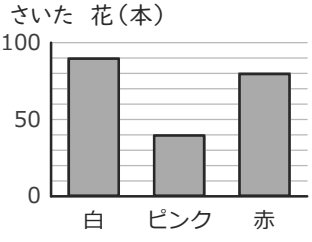


ピンクは
何本ですか。

＿＿＿＿＿＿ 本

**⑫** 9点

**1組**

| なまえ | 人数 |
|---|---|
| りんご | 6 |
| いちご | 2 |
| みかん | 9 |

**2組**

| なまえ | 人数 |
|---|---|
| みかん | 7 |
| りんご | 5 |
| いちご | 2 |

2つの 組を
あわせると、
みかんは 何人ですか。

＿＿＿＿＿＿ 人

# 小3 ぼうグラフ そうごうテスト（その4）

つまずきを6つ、2問ずつ（100点）

なまえ ＿＿＿＿＿＿＿＿

学習日 ＿＿＿＿＿＿＿＿

**答えは 下線に 書く（ぼうグラフの 問題は グラフの 線に 合わせて ぼうを かく）**

**①** 8点

うしが すきな 人は、3組は
4組より 何人 多いですか。

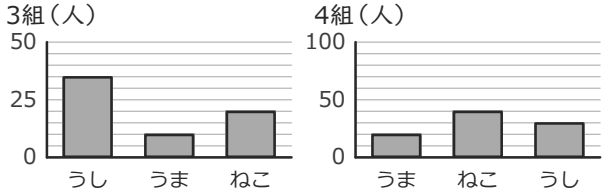


＿＿＿＿＿＿ 人

**②** 8点

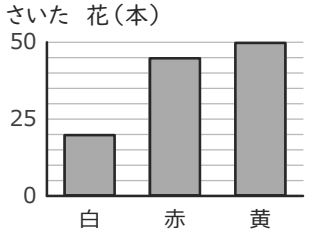


赤の 数は
いくつ？

＿＿＿＿＿＿
（たんいも 書こう）

**③** 8点

**3組**

| なまえ | 人数 |
|---|---|
| りんご | 2 |
| なし | 9 |
| みかん | 3 |

**4組**

| なまえ | 人数 |
|---|---|
| みかん | 8 |
| なし | 3 |
| りんご | 6 |

2つの 組を
あわせると、
みかんは 何人ですか。

＿＿＿＿＿＿ 人

**④** 8点

ひょうを ぼうグラフに かこう。

ひょう

| 花 | 数 |
|---|---|
| 赤 | 30 |
| 黄 | 20 |
| 白 | 40 |

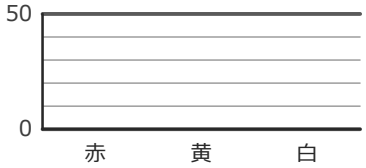


**⑤** 8点

| しゅるい | 数(人) |
|---|---|
| サッカー | 4 |
| テニス | 12 |
| やきゅう | 10 |
| 水えい | 3 |
| たっきゅう | 14 |

多い 2つ いがいを
まとめた「その他」は
何人ですか。

＿＿＿＿＿＿ 人

**⑥** 8点

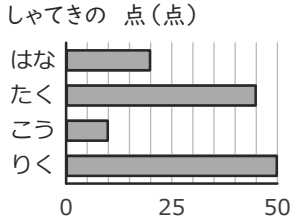


たくは
何点ですか。

＿＿＿＿＿＿ 点

**⑦** 8点

なしが すきな 人が
多いのは、どちらの 月ですか。

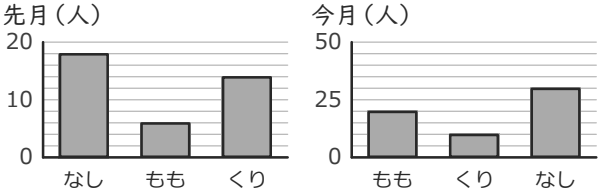


＿＿＿＿＿＿

**⑧** 8点

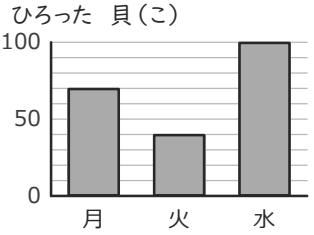


多い 方から
2ばんめは
どれですか。

＿＿＿＿＿＿

**⑨** 9点

正正丁

ひろった どんぐりを
正の字で 数えました。
何こですか。

＿＿＿＿＿＿ こ

**⑩** 9点

ひょうを ぼうグラフに かこう。

ひょう

| 組 | 数 |
|---|---|
| 1組 | 10 |
| 2組 | 20 |
| 3組 | 25 |

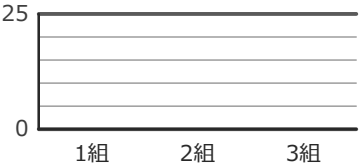


**⑪** 9点

| | 月 | 火 | 水 | 合計 |
|---|---|---|---|---|
| 1組 | 10 | 3 | 10 | あ |
| 2組 | 7 | 9 | 4 | 20 |

ひょうの あに
入る 数は
いくつですか。

＿＿＿＿＿＿

**⑫** 9点

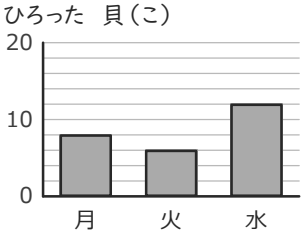


このグラフの
1目もりは
いくつですか。

＿＿＿＿＿＿

# 小3 ぼうグラフ そうごうテスト（その5）

つまずきを6つ、2問ずつ（100点）

なまえ ＿＿＿＿＿＿＿＿

学習日 ＿＿＿＿＿＿＿＿

**答えは 下線に 書く（ぼうグラフの 問題は グラフの 線に 合わせて ぼうを かく）**

**①** 8点

正正正正下

えらんだ 人を
正の字で 数えました。
何人ですか。

＿＿＿＿＿＿ 人

**②** 8点

ももが すきな 人は、1組は
2組より 何人 多いですか。

1組（人）

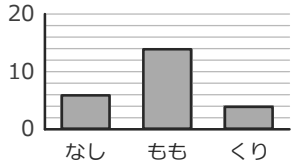


2組（人）

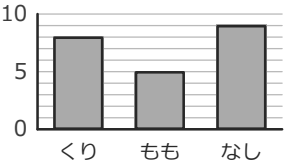


＿＿＿＿＿＿ 人

**③** 8点

かした 本（さつ）

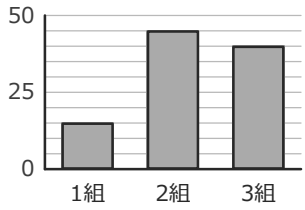


少ない 方から
2ばんめは
どれですか。

＿＿＿＿＿＿

**④** 8点

すきな 色（人）

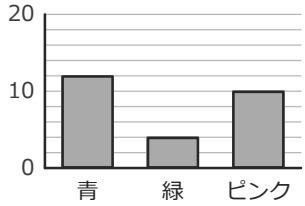


ピンクは
何人ですか。

＿＿＿＿＿＿ 人

**⑤** 8点

| | 午前 | 午後 | 合計 |
|---|---|---|---|
| 1組 | 10 | 13 | 23 |
| 2組 | 13 | 8 | 21 |
| 合計 | 23 | 21 | **あ** |

ひょうの あに
入る 数は
いくつですか。

＿＿＿＿＿＿

**⑥** 8点

ひょうを ぼうグラフに かこう。

ひょう

| くだもの | 数 |
|---|---|
| メロン | 10 |
| りんご | 15 |
| かき | 25 |

すきな くだもの（人）

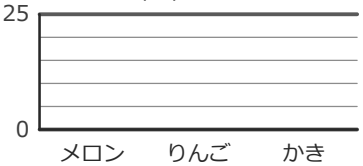


**⑦** 8点

**3組**

| なまえ | 人数 |
|---|---|
| いちご | 3 |
| もも | 4 |
| りんご | 4 |

**4組**

| なまえ | 人数 |
|---|---|
| りんご | 3 |
| もも | 10 |
| いちご | 9 |

2つの 組を
あわせると、
りんごは 何人ですか。

＿＿＿＿＿＿ 人

**⑧** 8点

なしが すきな 人は、今月は
先月より 何人 ふえましたか。

先月（人）

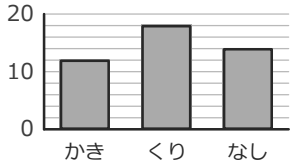


今月（人）

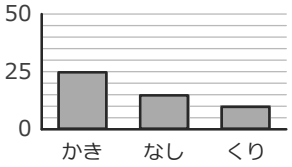


＿＿＿＿＿＿ 人

**⑨** 9点

なわとび（回）

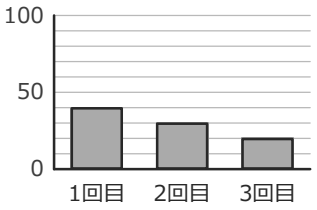


2回目の 数は
いくつ？

＿＿＿＿＿＿

（たんいも 書こう）

**⑩** 9点

おった つる（羽）

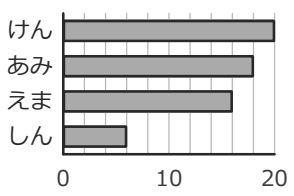


けんは
何羽ですか。

＿＿＿＿＿＿ 羽

**⑪** 9点

| しゅるい | 数(人) |
|---|---|
| 小鳥 | 2 |
| かめ | 10 |
| うさぎ | 12 |
| 犬 | 5 |
| ねこ | 10 |
| 金魚 | 9 |

多い 3つ いがいを
まとめた「その他」は
何人ですか。

＿＿＿＿＿＿ 人

**⑫** 9点

1目もり2で ぼうを かこう。
□には たての 数を 書こう。

ひょう

| 動物 | 数 |
|---|---|
| パンダ | 10 |
| うさぎ | 4 |
| ぞう | 8 |

□

すきな 動物（人）




いちごドリル プリント

解きおわったら よんでね
答えと次の1枚がひらきます