小3 ぼうグラフ そうごうテスト（その5）

つまずきを6つ、2問ずつ（100点）

なまえ ＿＿＿＿＿＿＿＿

学習日 ＿＿＿＿＿＿＿＿

答えは 下線に 書く（ぼうグラフの 問題は グラフの 線に 合わせて ぼうを かく）

① 8点

正正正正下

えらんだ 人を
正の字で 数えました。
何人ですか。

＿＿＿＿＿＿ 人

② 8点

ももが すきな 人は、1組は
2組より 何人 多いですか。

1組（人）

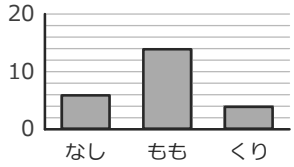

2組（人）

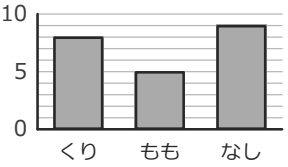

＿＿＿＿＿＿ 人

③ 8点

かした 本（さつ）

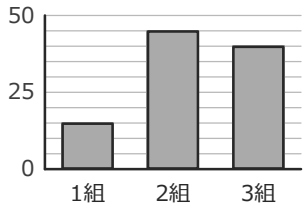

少ない 方から
2ばんめは
どれですか。

＿＿＿＿＿＿

④ 8点

すきな 色（人）

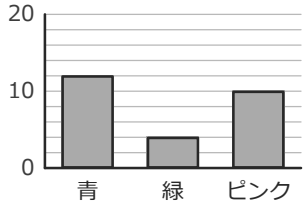

ピンクは
何人ですか。

＿＿＿＿＿＿ 人

⑤ 8点

	午前	午後	合計
1組	10	13	23
2組	13	8	21
合計	23	21	**あ**

ひょうの あに
入る 数は
いくつですか。

＿＿＿＿＿＿

⑥ 8点

ひょうを ぼうグラフに かこう。

ひょう

くだもの	数
メロン	10
りんご	15
かき	25

すきな くだもの（人）

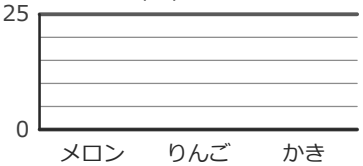

⑦ 8点

3組

なまえ	人数
いちご	3
もも	4
りんご	4

4組

なまえ	人数
りんご	3
もも	10
いちご	9

2つの 組を
あわせると、
りんごは 何人ですか。

＿＿＿＿＿＿ 人

⑧ 8点

なしが すきな 人は、今月は
先月より 何人 ふえましたか。

先月（人）

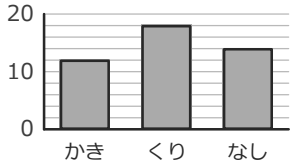

今月（人）

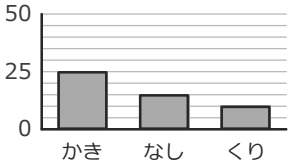

＿＿＿＿＿＿ 人

⑨ 9点

なわとび（回）

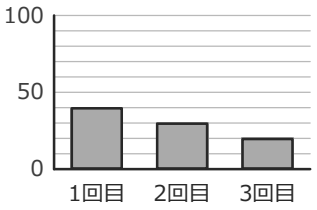

2回目の 数は
いくつ？

＿＿＿＿＿＿

（たんいも 書こう）

⑩ 9点

おった つる（羽）

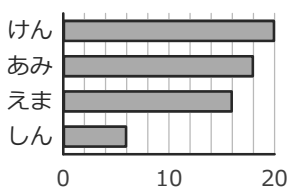

けんは
何羽ですか。

＿＿＿＿＿＿ 羽

⑪ 9点

しゅるい	数(人)
小鳥	2
かめ	10
うさぎ	12
犬	5
ねこ	10
金魚	9

多い 3つ いがいを
まとめた「その他」は
何人ですか。

＿＿＿＿＿＿ 人

⑫ 9点

1目もり2で ぼうを かこう。
□には たての 数を 書こう。

ひょう

動物	数
パンダ	10
うさぎ	4
ぞう	8

□

すきな 動物（人）



いちごドリル プリント

解きおわったら よんでね
答えと次の1枚がひらきます

小3 ぼうグラフ そうごうテスト（その5）【こたえ】

なまえ ＿＿＿＿＿＿＿＿

つまずきごとに2問（2問とも○なら OK）。ぜんぶ○なら クリア

学習日 ＿＿＿＿＿＿＿＿

1 1目もりの 大きさ・たんいを まちがえる

→「練習プリント①（目もりを読む）」→「とっくんドリル①」

問4 ピンクの数（1目もり2）

答え 10人

よくある×：5人
（1目もりを 1と して 目もりの 数（5）を 答える）

問9 2回目の数（たんい）

答え 30回

よくある×：3
（目もりの 数を 答え、題の（ ）の たんいを 見ない）

2 よこ向き・じゅんいを 読みまちがえる

→「練習プリント②（よこ向きと順位）」→「とっくんドリル①」

問3 少ない方から2ばんめ

答え 3組

よくある×：2組
（左から 2ばんめを 答える）

問10 よこ向きのけん

答え 20羽

よくある×：18羽
（となりの 行（あみ）の ぼうを 読む）

3 ぼうの 高さを 目もりに 合わせられない

→「練習プリント③（ぼうをかく）」→「とっくんドリル②」

問6 ひょう→ぼうグラフ（1目もり5）

答え 赤い ぼう
（メロン2目もり・りんご3目もり・かき5目もり）

よくある×：数の 目もりまで かこうと する
（数を そのまま 目もりの 数に する（1目もりは 5））

問12 ひょう→ぼうグラフ（1目もり2）

答え 赤い ぼう（たての数 10）
（パンダ5目もり・うさぎ2目もり・ぞう4目もり）

よくある×：うさぎを 4目もりの 高さに かく
（数を そのまま 目もりの 数に する（1目もりは 2））

4 正の字・「その他」を まちがえる

→「練習プリント④（正の字とひょう）」→「とっくんドリル②」

問1 正の字23

答え 23人

よくある×：5人
（正の字の 字の 数（5）を 答える）

問11 その他の数

答え 16人

よくある×：14人
（その他に 入れる ものを 1つ 入れわすれる）

5 目もりが ちがう 2つの グラフで まちがえる

→「練習プリント⑤（2つのグラフ）」→「とっくんドリル③」

問2 1組と2組のもものちがい

答え 9人

よくある×：2人
（目もりの 数どうしを ひく（1目もりの 大きさが ちがう））

問8 なしの先月から今月へのふえた数

答え 1人

よくある×：4人
（目もりの 数どうしを ひく（1目もりの 大きさが ちがう））

6 ひょうの 合計・2つの ひょうで まちがえる

→「練習プリント⑥（ひょうの合計）」→「とっくんドリル③」

問5 表の右下の合計

答え 44

よくある×：88
（たての 合計と よこの 合計を 両方 たす）

問7 3組と4組のりんごをあわせる

答え 7人

よくある×：13人
（ならびの ちがう ひょうで、同じ 行どうしを たす）

丸つけ：ぼうは、先が 正しい 目もりの 線の 上なら○（となりの 線なら×）。たんいを 書く 問題は、数と たんいの 両方で○。
まちがえたら、まず 練習プリント（ときかたつき）、つぎに とっくんドリルへ。