小3 ぼうグラフ そうごうテスト（その5）

つまずきを6つ、2問ずつ（100点）

なまえ ＿＿＿＿＿＿＿＿

学習日 ＿＿＿＿＿＿＿＿

答えは 下線に 書く（ぼうグラフの 問題は グラフの 線に 合わせて ぼうを かく）

① 8点

正正正正下

えらんだ 人を
正の字で 数えました。
何人ですか。

＿＿＿＿＿＿ 人

② 8点

ももが すきな 人は、1組は
2組より 何人 多いですか。

1組（人）

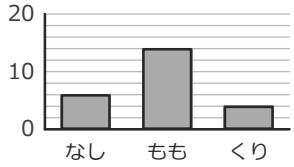

2組（人）

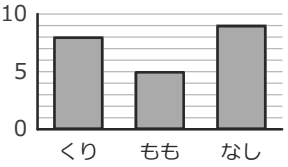

＿＿＿＿＿＿ 人

③ 8点

かした 本（さつ）

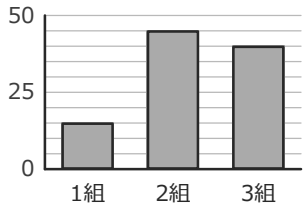

少ない 方から
2ばんめは
どれですか。

＿＿＿＿＿＿

④ 8点

すきな 色（人）

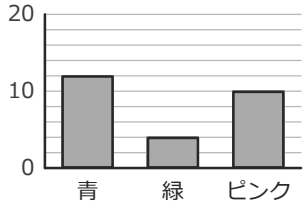

ピンクは
何人ですか。

＿＿＿＿＿＿ 人

⑤ 8点

	午前	午後	合計
1組	10	13	23
2組	13	8	21
合計	23	21	**あ**

ひょうの あに
入る 数は
いくつですか。

＿＿＿＿＿＿

⑥ 8点

ひょうを ぼうグラフに かこう。

ひょう

くだもの	数
メロン	10
りんご	15
かき	25

すきな くだもの（人）

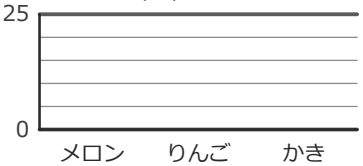

⑦ 8点

3組

なまえ	人数
いちご	3
もも	4
りんご	4

4組

なまえ	人数
りんご	3
もも	10
いちご	9

2つの 組を
あわせると、
りんごは 何人ですか。

＿＿＿＿＿＿ 人

⑧ 8点

なしが すきな 人は、今月は
先月より 何人 ふえましたか。

先月（人）

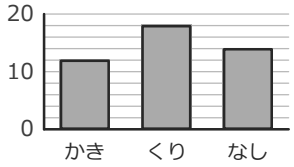

今月（人）

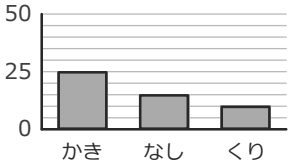

＿＿＿＿＿＿ 人

⑨ 9点

なわとび（回）

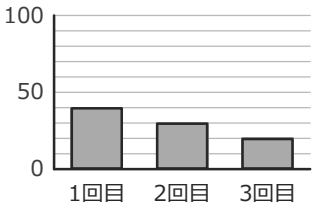

2回目の 数は
いくつ？

＿＿＿＿＿＿

（たんいも 書こう）

⑩ 9点

おった つる（羽）

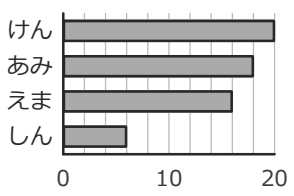

けんは
何羽ですか。

＿＿＿＿＿＿ 羽

⑪ 9点

しゅるい	数(人)
小鳥	2
かめ	10
うさぎ	12
犬	5
ねこ	10
金魚	9

多い 3つ いがいを
まとめた「その他」は
何人ですか。

＿＿＿＿＿＿ 人

⑫ 9点

1目もり2で ぼうを かこう。
□には たての 数を 書こう。

ひょう

動物	数
パンダ	10
うさぎ	4
ぞう	8

□

すきな 動物（人）



いちごドリル プリント

解きおわったら よんでね
答えと次の1枚がひらきます