# 小3 ぼうグラフ そうごうテスト（その4）

つまずきを6つ、2問ずつ（100点）

なまえ ＿＿＿＿＿＿＿＿

学習日 ＿＿＿＿＿＿＿＿

**答えは 下線に 書く（ぼうグラフの 問題は グラフの 線に 合わせて ぼうを かく）**

**①** 8点

うしが すきな 人は、3組は
4組より 何人 多いですか。

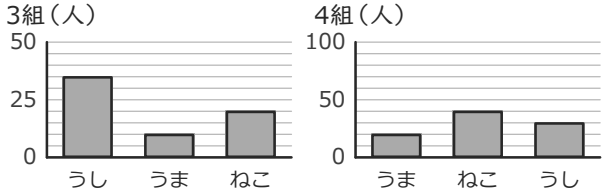


＿＿＿＿＿＿ 人

**②** 8点

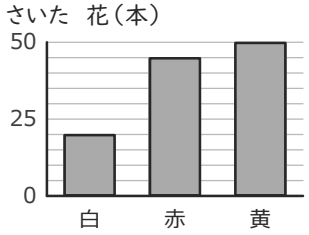


赤の 数は
いくつ？

＿＿＿＿＿＿
（たんいも 書こう）

**③** 8点

**3組**

| なまえ | 人数 |
|---|---|
| りんご | 2 |
| なし | 9 |
| みかん | 3 |

**4組**

| なまえ | 人数 |
|---|---|
| みかん | 8 |
| なし | 3 |
| りんご | 6 |

2つの 組を
あわせると、
みかんは 何人ですか。

＿＿＿＿＿＿ 人

**④** 8点

ひょうを ぼうグラフに かこう。

ひょう

| 花 | 数 |
|---|---|
| 赤 | 30 |
| 黄 | 20 |
| 白 | 40 |

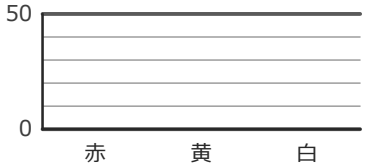


**⑤** 8点

| しゅるい | 数(人) |
|---|---|
| サッカー | 4 |
| テニス | 12 |
| やきゅう | 10 |
| 水えい | 3 |
| たっきゅう | 14 |

多い 2つ いがいを
まとめた「その他」は
何人ですか。

＿＿＿＿＿＿ 人

**⑥** 8点

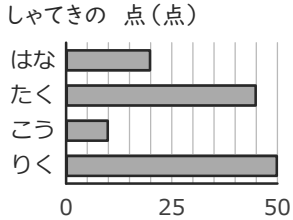


たくは
何点ですか。

＿＿＿＿＿＿ 点

**⑦** 8点

なしが すきな 人が
多いのは、どちらの 月ですか。

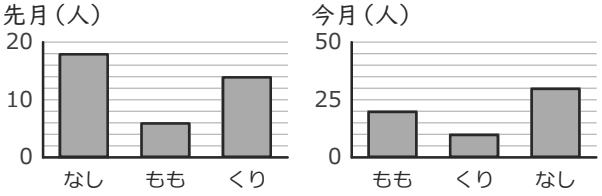


＿＿＿＿＿＿

**⑧** 8点

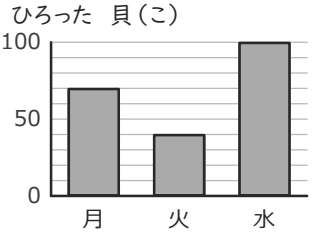


多い 方から
2ばんめは
どれですか。

＿＿＿＿＿＿

**⑨** 9点

正正丁

ひろった どんぐりを
正の字で 数えました。
何こですか。

＿＿＿＿＿＿ こ

**⑩** 9点

ひょうを ぼうグラフに かこう。

ひょう

| 組 | 数 |
|---|---|
| 1組 | 10 |
| 2組 | 20 |
| 3組 | 25 |

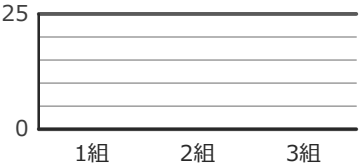


**⑪** 9点

| | 月 | 火 | 水 | 合計 |
|---|---|---|---|---|
| 1組 | 10 | 3 | 10 | あ |
| 2組 | 7 | 9 | 4 | 20 |

ひょうの あに
入る 数は
いくつですか。

＿＿＿＿＿＿

**⑫** 9点

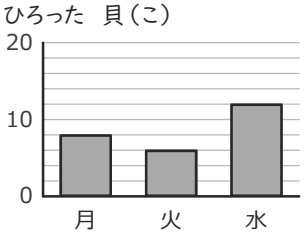


このグラフの
1目もりは
いくつですか。

＿＿＿＿＿＿

# 小3 ぼうグラフ そうごうテスト（その4）【こたえ】

なまえ ＿＿＿＿＿＿＿＿

つまずきごとに2問（2問とも○なら OK）。ぜんぶ○なら「そうごうテスト（その5）」へ　学習日 ＿＿＿＿＿＿＿＿

## 1 1目もりの 大きさ・たんいを まちがえる

→「練習プリント①（目もりを読む）」→「とっくんドリル①」

問2 赤の数（たんい）

答え 45本

よくある×：9
（目もりの 数を 答え、題の（ ）の たんいを 見ない）

問12 1目もりの大きさ（2）

答え 2

よくある×：1
（数字の あいだ（5目もり）を 見ずに 1目もりを 1と する）

## 2 よこ向き・じゅんいを 読みまちがえる

→「練習プリント②（よこ向きと順位）」→「とっくんドリル①」

問6 よこ向きのたく

答え 45点

よくある×：10点
（となりの 行（こう）の ぼうを 読む）

問8 多い方から2ばんめ

答え 月

よくある×：火
（左から 2ばんめを 答える）

## 3 ぼうの 高さを 目もりに 合わせられない

→「練習プリント③（ぼうをかく）」→「とっくんドリル②」

問4 ひょう→ぼうグラフ（1目もり10）

答え 赤い ぼう
（赤3目もり・黄2目もり・白4目もり）

よくある×：数の 目もりまで かこうと する
（数を そのまま 目もりの 数に する（1目もりは 10））

問10 ひょう→ぼうグラフ（1目もり5）

答え 赤い ぼう
（1組2目もり・2組4目もり・3組5目もり）

よくある×：数の 目もりまで かこうと する
（数を そのまま 目もりの 数に する（1目もりは 5））

## 4 正の字・「その他」を まちがえる

→「練習プリント④（正の字とひょう）」→「とっくんドリル②」

問5 その他の数

答え 17人

よくある×：14人
（その他に 入れる ものを 1つ 入れわすれる）

問9 正の字12

答え 12こ

よくある×：3こ
（正の字の 字の 数（3）を 答える）

## 5 目もりが ちがう 2つの グラフで まちがえる

→「練習プリント⑤（2つのグラフ）」→「とっくんドリル③」

問1 3組と4組のうしのちがい

答え 5人

よくある×：4人
（目もりの 数どうしを ひく（1目もりの 大きさが ちがう））

問7 なしはどちらの月が多い

答え 今月

よくある×：先月
（ぼうの 高さだけで くらべる（1目もりが ちがう））

## 6 ひょうの 合計・2つの ひょうで まちがえる

→「練習プリント⑥（ひょうの合計）」→「とっくんドリル③」

問3 3組と4組のみかんをあわせる

答え 11人

よくある×：9人
（ならびの ちがう ひょうで、同じ 行どうしを たす）

問11 1組の合計

答え 23

よくある×：13
（3つの うち 1つを たしわすれる）

丸つけ：ぼうは、先が 正しい 目もりの 線の 上なら○（となりの 線なら×）。たんいを 書く 問題は、数と たんいの 両方で○。
まちがえたら、まず 練習プリント（ときかたつき）、つぎに とっくんドリルへ。