小3 ぼうグラフ そうごうテスト（その4）

つまずきを6つ、2問ずつ（100点）

なまえ ＿＿＿＿＿＿＿＿

学習日 ＿＿＿＿＿＿＿＿

答えは 下線に 書く（ぼうグラフの 問題は グラフの 線に 合わせて ぼうを かく）

① 8点

うしが すきな 人は、3組は
4組より 何人 多いですか。

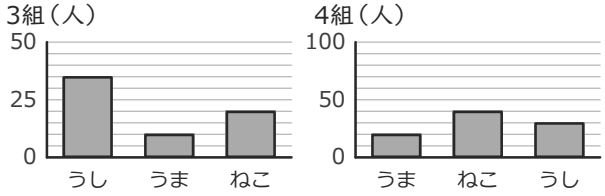

＿＿＿＿＿＿ 人

② 8点

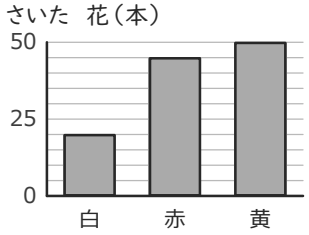

赤の 数は
いくつ？

＿＿＿＿＿＿
（たんいも 書こう）

③ 8点

3組

なまえ	人数
りんご	2
なし	9
みかん	3

4組

なまえ	人数
みかん	8
なし	3
りんご	6

2つの 組を
あわせると、
みかんは 何人ですか。

＿＿＿＿＿＿ 人

④ 8点

ひょうを ぼうグラフに かこう。

ひょう

花	数
赤	30
黄	20
白	40

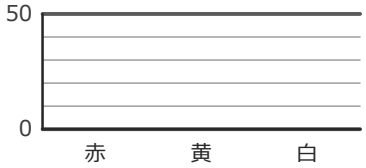

⑤ 8点

しゅるい	数(人)
サッカー	4
テニス	12
やきゅう	10
水えい	3
たっきゅう	14

多い 2つ いがいを
まとめた「その他」は
何人ですか。

＿＿＿＿＿＿ 人

⑥ 8点

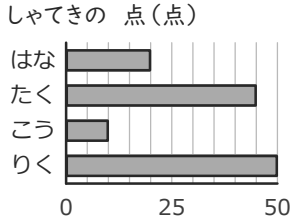

たくは
何点ですか。

＿＿＿＿＿＿ 点

⑦ 8点

なしが すきな 人が
多いのは、どちらの 月ですか。

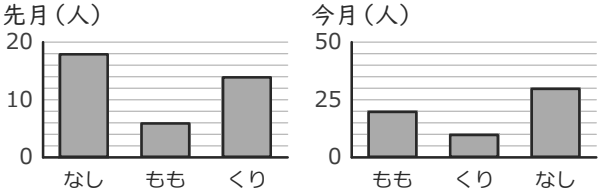

＿＿＿＿＿＿

⑧ 8点

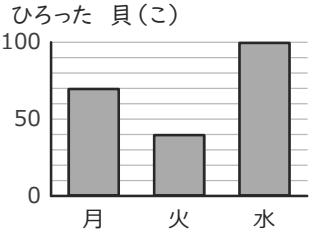

多い 方から
2ばんめは
どれですか。

＿＿＿＿＿＿

⑨ 9点

正正丁

ひろった どんぐりを
正の字で 数えました。
何こですか。

＿＿＿＿＿＿ こ

⑩ 9点

ひょうを ぼうグラフに かこう。

ひょう

組	数
1組	10
2組	20
3組	25

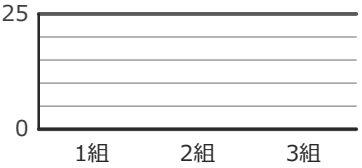

⑪ 9点

	月	火	水	合計
1組	10	3	10	あ
2組	7	9	4	20

ひょうの あに
入る 数は
いくつですか。

＿＿＿＿＿＿

⑫ 9点

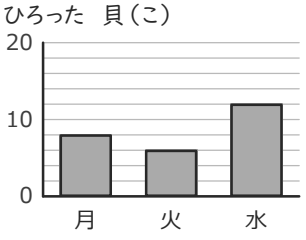

このグラフの
1目もりは
いくつですか。

＿＿＿＿＿＿