小3 ぼうグラフ そうごうテスト（その3）

つまずきを6つ、2問ずつ（100点）

なまえ ＿＿＿＿＿＿＿＿

学習日 ＿＿＿＿＿＿＿＿

答えは 下線に 書く（ぼうグラフの 問題は グラフの 線に 合わせて ぼうを かく）

① 8点

うまが すきな 人は、3組は
4組より 何人 多いですか。

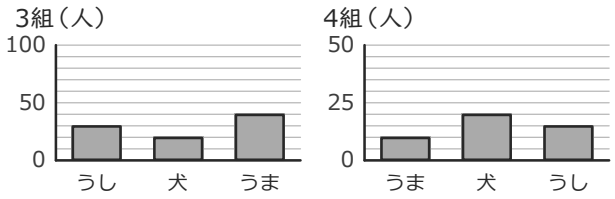

＿＿＿＿＿＿ 人

② 8点

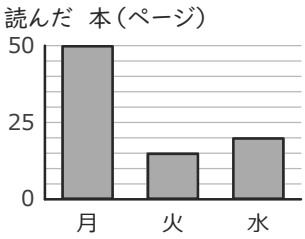

このグラフの
1目もりは
いくつですか。

＿＿＿＿＿＿

③ 8点

しゅるい	数(人)
小鳥	5
犬	10
うさぎ	14
かめ	12
金魚	7
ねこ	5

多い 3つ いがいを
まとめた「その他」は
何人ですか。

＿＿＿＿＿＿ 人

④ 8点

1目もり5で ぼうを かこう。
□には たての 数を 書こう。

ひょう

花	数
赤	20
ピンク	10
白	25

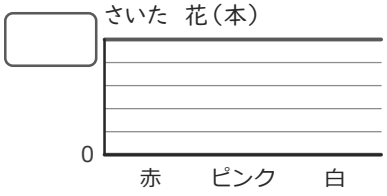

⑤ 8点

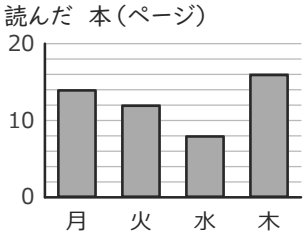

多い 方から
3ばんめは
どれですか。

＿＿＿＿＿＿

⑥ 8点

正正正下

えらんだ 人を
正の字で 数えました。
何人ですか。

＿＿＿＿＿＿ 人

⑦ 8点

犬が すきな 人が
多いのは、どちらの 組ですか。

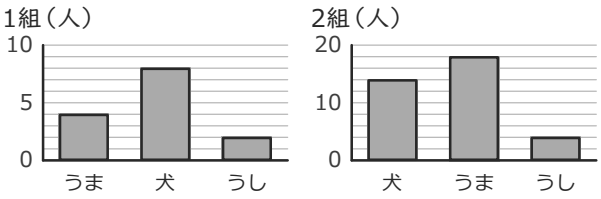

＿＿＿＿＿＿

⑧ 8点

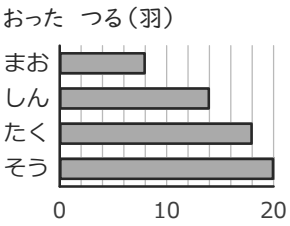

しんは
何羽ですか。

＿＿＿＿＿＿ 羽

⑨ 9点

	晴れ	雨	合計
1組	9	15	24
2組	9	15	24
合計	18	30	あ

ひょうの あに
入る 数は
いくつですか。

＿＿＿＿＿＿

⑩ 9点

ひょうを ぼうグラフに かこう。

ひょう

回	数
1回目	8
2回目	6
3回目	10

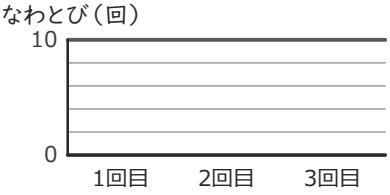

⑪ 9点

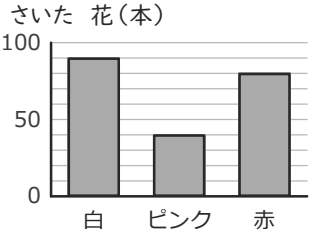

ピンクは
何本ですか。

＿＿＿＿＿＿ 本

⑫ 9点

1組

なまえ	人数
りんご	6
いちご	2
みかん	9

2組

なまえ	人数
みかん	7
りんご	5
いちご	2

2つの 組を
あわせると、
みかんは 何人ですか。

＿＿＿＿＿＿ 人

小3 ぼうグラフ そうごうテスト（その3）【こたえ】

なまえ ＿＿＿＿＿＿＿＿

つまずきごとに2問（2問とも○なら OK）。ぜんぶ○なら「そうごうテスト（その4）」へ　学習日 ＿＿＿＿＿＿＿＿

1 1目もりの 大きさ・たんいを まちがえる

→「練習プリント①（目もりを読む）」→「とっくんドリル①」

問2 1目もりの大きさ（5）

答え 5

よくある×：1
（数字の あいだ（5目もり）を 見ずに 1目もりを 1と する）

問11 ピンクの数（1目もり10）

答え 40本

よくある×：4本
（1目もりを 1と して 目もりの 数（4）を 答える）

2 よこ向き・じゅんいを 読みまちがえる

→「練習プリント②（よこ向きと順位）」→「とっくんドリル①」

問5 多い方から3ばんめ

答え 火

よくある×：水
（左から 3ばんめを 答える）

問8 よこ向きのしん

答え 14羽

よくある×：18羽
（となりの 行（たく）の ぼうを 読む）

3 ぼうの 高さを 目もりに 合わせられない

→「練習プリント③（ぼうをかく）」→「とっくんドリル②」

問4 ひょう→ぼうグラフ（1目もり5）

答え 赤い ぼう（たての数 25）
（赤4目もり・ピンク2目もり・白5目もり）

よくある×：数の 目もりまで かこうと する
（数を そのまま 目もりの 数に する（1目もりは 5））

問10 ひょう→ぼうグラフ（1目もり2）

答え 赤い ぼう
（1回目4目もり・2回目3目もり・3回目5目もり）

よくある×：数の 目もりまで かこうと する
（数を そのまま 目もりの 数に する（1目もりは 2））

4 正の字・「その他」を まちがえる

→「練習プリント④（正の字とひょう）」→「とっくんドリル②」

問3 その他の数

答え 17人

よくある×：12人
（その他に 入れる ものを 1つ 入れわすれる）

問6 正の字19

答え 19人

よくある×：4人
（正の字の 字の 数（4）を 答える）

5 目もりが ちがう 2つの グラフで まちがえる

→「練習プリント⑤（2つのグラフ）」→「とっくんドリル③」

問1 3組と4組のうまのちがい

答え 30人

よくある×：2人
（目もりの 数どうしを ひく（1目もりの 大きさが ちがう））

問7 犬はどちらの組が多い

答え 2組

よくある×：1組
（ぼうの 高さだけで くらべる（1目もりが ちがう））

6 ひょうの 合計・2つの ひょうで まちがえる

→「練習プリント⑥（ひょうの合計）」→「とっくんドリル③」

問9 表の右下の合計

答え 48

よくある×：96
（たての 合計と よこの 合計を 両方 たす）

問12 1組と2組のみかんをあわせる

答え 16人

よくある×：11人
（ならびの ちがう ひょうで、同じ 行どうしを たす）

丸つけ：ぼうは、先が 正しい 目もりの 線の 上なら○（となりの 線なら×）。たんいを 書く 問題は、数と たんいの 両方で○。
まちがえたら、まず 練習プリント（ときかたつき）、つぎに とっくんドリルへ。