小3 ぼうグラフ そうごうテスト（その3）

つまずきを6つ、2問ずつ（100点）

なまえ ＿＿＿＿＿＿＿＿

学習日 ＿＿＿＿＿＿＿＿

答えは 下線に 書く（ぼうグラフの 問題は グラフの 線に 合わせて ぼうを かく）

① 8点

うまが すきな 人は、3組は
4組より 何人 多いですか。

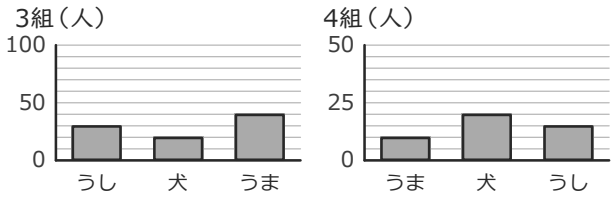

＿＿＿＿＿＿ 人

② 8点

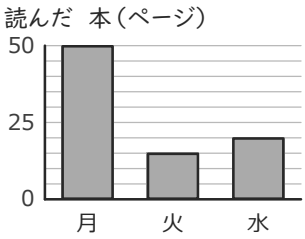

このグラフの
1目もりは
いくつですか。

＿＿＿＿＿＿

③ 8点

しゅるい	数(人)
小鳥	5
犬	10
うさぎ	14
かめ	12
金魚	7
ねこ	5

多い 3つ いがいを
まとめた「その他」は
何人ですか。

＿＿＿＿＿＿ 人

④ 8点

1目もり5で ぼうを かこう。
□には たての 数を 書こう。

ひょう

花	数
赤	20
ピンク	10
白	25

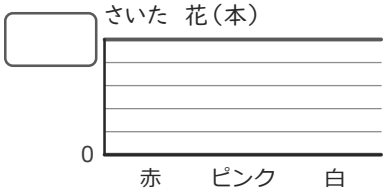

⑤ 8点

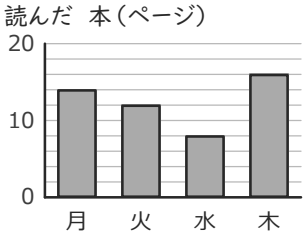

多い 方から
3ばんめは
どれですか。

＿＿＿＿＿＿

⑥ 8点

正正正下

えらんだ 人を
正の字で 数えました。
何人ですか。

＿＿＿＿＿＿ 人

⑦ 8点

犬が すきな 人が
多いのは、どちらの 組ですか。

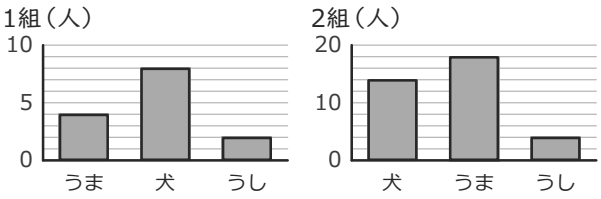

＿＿＿＿＿＿

⑧ 8点

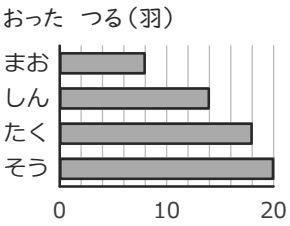

しんは
何羽ですか。

＿＿＿＿＿＿ 羽

⑨ 9点

	晴れ	雨	合計
1組	9	15	24
2組	9	15	24
合計	18	30	あ

ひょうの あに
入る 数は
いくつですか。

＿＿＿＿＿＿

⑩ 9点

ひょうを ぼうグラフに かこう。

ひょう

回	数
1回目	8
2回目	6
3回目	10

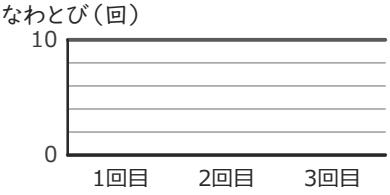

⑪ 9点

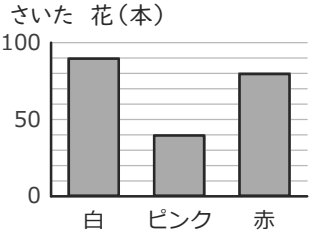

ピンクは
何本ですか。

＿＿＿＿＿＿ 本

⑫ 9点

1組

なまえ	人数
りんご	6
いちご	2
みかん	9

2組

なまえ	人数
みかん	7
りんご	5
いちご	2

2つの 組を
あわせると、
みかんは 何人ですか。

＿＿＿＿＿＿ 人