小3 ぼうグラフ そうごうテスト（その2）

つまずきを6つ、2問ずつ（100点）

なまえ ＿＿＿＿＿＿＿＿

学習日 ＿＿＿＿＿＿＿＿

答えは 下線に 書く（ぼうグラフの 問題は グラフの 線に 合わせて ぼうを かく）

① 8点

ももが すきな 人は、今月は
先月より 何人 ふえましたか。

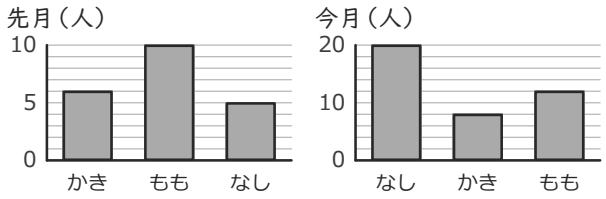

＿＿＿＿＿＿ 人

② 8点

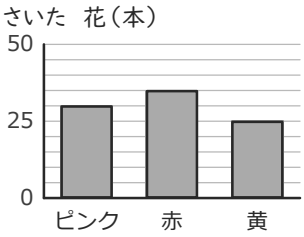

黄は
何本ですか。

＿＿＿＿＿＿ 本

③ 8点

ひょうを ぼうグラフに かこう。

ひょう

魚	数
たい	40
あじ	30
さば	10

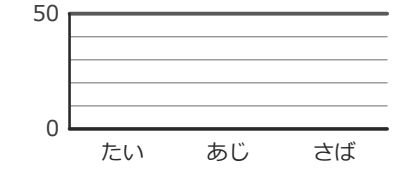

④ 8点

正正正正一

ひろった どんぐりを
正の字で 数えました。
何こですか。

＿＿＿＿＿＿ こ

⑤ 8点

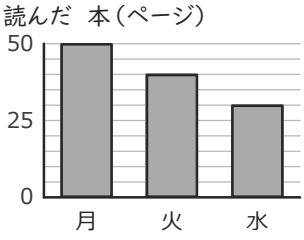

いちばん
少ないのは
どれですか。

＿＿＿＿＿＿

⑥ 8点

しゅるい	数(人)
小鳥	12
ねこ	1
犬	11
かめ	12
金魚	1

多い 2つ いがいを
まとめた「その他」は
何人ですか。

＿＿＿＿＿＿ 人

⑦ 8点

うしが すきな 人が
多いのは、どちらの 組ですか。

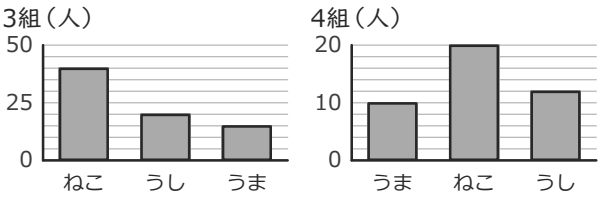

＿＿＿＿＿＿

⑧ 8点

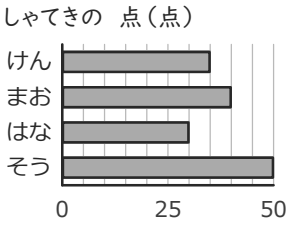

まおは
何点ですか。

＿＿＿＿＿＿ 点

⑨ 9点

ひょうを ぼうグラフに かこう。

ひょう

動物	数
ねこ	4
ぞう	10
うさぎ	8



⑩ 9点

	赤	青	黄	合計
1組	7	3	5	あ
2組	10	8	5	23

ひょうの あに
入る 数は
いくつですか。

＿＿＿＿＿＿

⑪ 9点

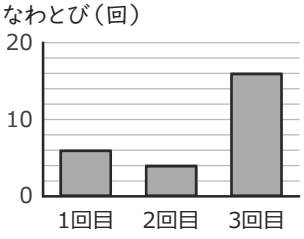

3回目の 数は
いくつ？

＿＿＿＿＿＿

（たんいも 書こう）

⑫ 9点

3組

なまえ	人数
もも	11
みかん	5
ぶどう	12

4組

なまえ	人数
みかん	2
もも	7
ぶどう	7

2つの 組を
あわせると、
みかんは 何人ですか。

＿＿＿＿＿＿ 人