小3 ぼうグラフ とっくんドリル③-5

2つの グラフ・ひょうの 合計（12問）

なまえ ＿＿＿＿＿＿＿＿

学習日 ＿＿＿＿＿＿＿＿

答えは 下線に 書く（2つの グラフは 1目もりを べつべつに 見る）

① 犬が すきな 人は、今月は 先月より 何人 ふえましたか。

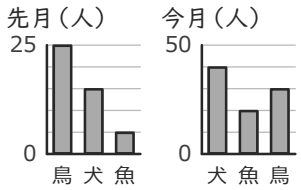

＿＿＿＿＿＿ 人

②

1組

なまえ	人数
もも	10
みかん	12
ぶどう	12

2組

なまえ	人数
ぶどう	12
もも	9
みかん	10

2つの 組を あわせると、ぶどうは 何人ですか。

＿＿＿＿＿＿ 人

③ 鳥が すきな 人が 多いのは、どちらの 組ですか。

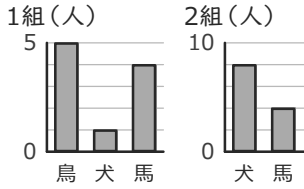

＿＿＿＿＿＿

④

1組

なまえ	人数
ぶどう	5
りんご	3
なし	3

2組

なまえ	人数
りんご	2
ぶどう	9
なし	2

2つの 組を あわせると、ぶどうは 何人ですか。

＿＿＿＿＿＿ 人

⑤ 馬が すきな 人が 多いのは、どちらの 月ですか。

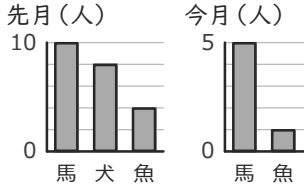

＿＿＿＿＿＿

⑥

	晴れ	雨	合計
1組	6	7	13
2組	9	10	19
合計	15	17	**あ**

ひょうの あに 入る 数は いくつですか。

＿＿＿＿＿＿

⑦ 魚が すきな 人は、3組は 4組より 何人 多いですか。

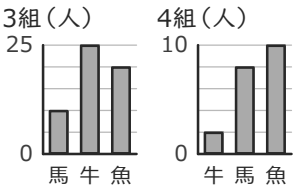

＿＿＿＿＿＿ 人

⑧

	赤	青	黄	合計
1組	5	5	10	**あ**
2組	6	8	3	17

ひょうの あに 入る 数は いくつですか。

＿＿＿＿＿＿

⑨ 魚が すきな 人は、今月は 先月より 何人 ふえましたか。

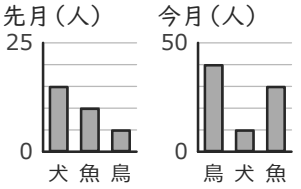

＿＿＿＿＿＿ 人

⑩

	赤	青	黄	合計
1組	9	8	9	26
2組	8	11	4	**あ**

ひょうの あに 入る 数は いくつですか。

＿＿＿＿＿＿

⑪ 犬が すきな 人は、4組は 3組より 何人 多いですか。

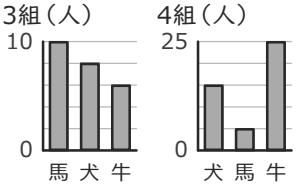

＿＿＿＿＿＿ 人

⑫

	午前	午後	合計
1組	13	13	26
2組	6	14	20
合計	19	27	**あ**

ひょうの あに 入る 数は いくつですか。

＿＿＿＿＿＿

いちごドリル プリント

解きおわったら よんでね
答えと次の1枚がひらきます

小3 ぼうグラフ とっくんドリル③-5【こたえ】

なまえ ＿＿＿＿＿＿＿＿

×は 練習プリント→「③-1」へ。ぜんぶ〇なら つぎの そうごうテストへ

学習日 ＿＿＿＿＿＿＿＿

① 犬の先月から今月へのふえた数

答え 25人

よくある×：1人

（目もりの 数どうしを ひく（1目もりの 大きさが ちがう））

② 1組と2組のぶどうをあわせる

答え 24人

よくある×：22人

（ならびの ちがう ひょうで、同じ 行どうしを たす）

③ 鳥はどちらの組が多い

答え 2組

よくある×：1組

（ぼうの 高さだけで くらべる（1目もりが ちがう））

④ 1組と2組のぶどうをあわせる

答え 14人

よくある×：7人

（ならびの ちがう ひょうで、同じ 行どうしを たす）

⑤ 馬はどちらの月が多い

答え 先月

よくある×：今月

（ぼうの 高さだけで くらべる（1目もりが ちがう））

⑥ 表の右下の合計

答え 32

よくある×：64

（たての 合計と よこの 合計を 両方 たす）

⑦ 3組と4組の魚のちがい

答え 10人

よくある×：1人

（目もりの 数どうしを ひく（1目もりの 大きさが ちがう））

⑧ 1組の合計

答え 20

よくある×：10

（3つの うち 1つを たしわすれる）

⑨ 魚の先月から今月へのふえた数

答え 20人

よくある×：1人

（目もりの 数どうしを ひく（1目もりの 大きさが ちがう））

⑩ 2組の合計

答え 23

よくある×：19

（3つの うち 1つを たしわすれる）

⑪ 4組と3組の犬のちがい

答え 7人

よくある×：1人

（目もりの 数どうしを ひく（1目もりの 大きさが ちがう））

⑫ 表の右下の合計

答え 46

よくある×：92

（たての 合計と よこの 合計を 両方 たす）

×が多い型は、練習プリント⑤⑥（ときかたつき）で ときかたを 見直す。