小3 ぼうグラフ とっくんドリル③-4

2つの グラフ・ひょうの 合計（12問）

なまえ ＿＿＿＿＿＿＿＿

学習日 ＿＿＿＿＿＿＿＿

答えは 下線に 書く（2つの グラフは 1目もりを べつべつに 見る）

① 緑が すきな 人は、1組は 2組より 何人 多いですか。

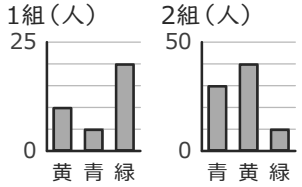

＿＿＿＿＿＿ 人

②

	午前	午後	合計
1組	7	8	15
2組	15	14	29
合計	22	22	**あ**

ひょうの あに 入る 数は いくつですか。

＿＿＿＿＿＿

③ 馬が すきな 人は、2組は 1組より 何人 多いですか。

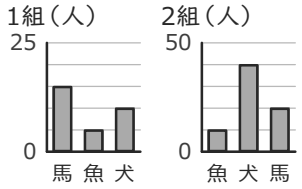

＿＿＿＿＿＿ 人

④

	赤	青	黄	合計
1組	6	4	8	**あ**
2組	4	9	6	19

ひょうの あに 入る 数は いくつですか。

＿＿＿＿＿＿

⑤ 犬が すきな 人は、1組は 2組より 何人 多いですか。

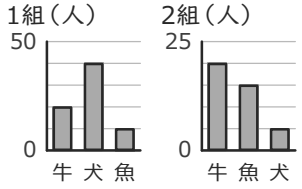

＿＿＿＿＿＿ 人

⑥

	晴れ	雨	合計
1組	8	6	14
2組	9	12	21
合計	17	18	**あ**

ひょうの あに 入る 数は いくつですか。

＿＿＿＿＿＿

⑦ 犬が すきな 人は、4組は 3組より 何人 多いですか。

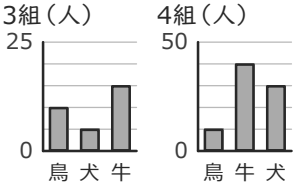

＿＿＿＿＿＿ 人

⑧

	午前	午後	合計
1組	5	9	14
2組	12	8	20
合計	17	17	**あ**

ひょうの あに 入る 数は いくつですか。

＿＿＿＿＿＿

⑨ 魚が すきな 人は、1組は 2組より 何人 多いですか。

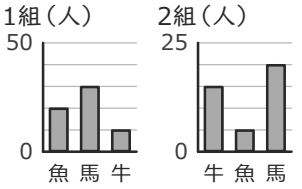

＿＿＿＿＿＿ 人

⑩

	犬	ねこ	鳥	合計
1組	6	9	5	20
2組	7	5	7	**あ**

ひょうの あに 入る 数は いくつですか。

＿＿＿＿＿＿

⑪ 青が すきな 人は、2組は 1組より 何人 多いですか。

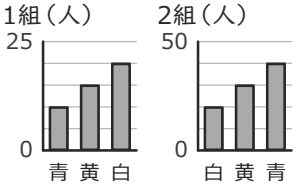

＿＿＿＿＿＿ 人

⑫

	赤	青	黄	合計
1組	3	11	3	**あ**
2組	7	10	5	22

ひょうの あに 入る 数は いくつですか。

＿＿＿＿＿＿

いちごドリル プリント

解きおわったら よんでね
答えと次の1枚がひらきます

小3 ぼうグラフ とっくんドリル③-4【こたえ】

なまえ ＿＿＿＿＿＿＿＿

×があったら「③-5」へ。ぜんぶ〇なら つぎの そうごうテストへ

学習日 ＿＿＿＿＿＿＿＿

① 1組と2組の緑のちがい

答え 10人

よくある×：3人

（目もりの 数どうしを ひく（1目もりの 大きさが ちがう））

② 表の右下の合計

答え 44

よくある×：88

（たての 合計と よこの 合計を 両方 たす）

③ 2組と1組の馬のちがい

答え 5人

よくある×：1人

（目もりの 数どうしを ひく（1目もりの 大きさが ちがう））

④ 1組の合計

答え 18

よくある×：10

（3つの うち 1つを たしわすれる）

⑤ 1組と2組の犬のちがい

答え 35人

よくある×：3人

（目もりの 数どうしを ひく（1目もりの 大きさが ちがう））

⑥ 表の右下の合計

答え 35

よくある×：70

（たての 合計と よこの 合計を 両方 たす）

⑦ 4組と3組の犬のちがい

答え 25人

よくある×：2人

（目もりの 数どうしを ひく（1目もりの 大きさが ちがう））

⑧ 表の右下の合計

答え 34

よくある×：68

（たての 合計と よこの 合計を 両方 たす）

⑨ 1組と2組の魚のちがい

答え 15人

よくある×：1人

（目もりの 数どうしを ひく（1目もりの 大きさが ちがう））

⑩ 2組の合計

答え 19

よくある×：12

（3つの うち 1つを たしわすれる）

⑪ 2組と1組の青のちがい

答え 30人

よくある×：2人

（目もりの 数どうしを ひく（1目もりの 大きさが ちがう））

⑫ 1組の合計

答え 17

よくある×：14

（3つの うち 1つを たしわすれる）

×が多い型は、練習プリント⑤⑥（ときかたつき）で ときかたを 見直す。