小3 ぼうグラフ とっくんドリル③-3

2つの グラフ・ひょうの 合計（12問）

なまえ ＿＿＿＿＿＿＿＿

学習日 ＿＿＿＿＿＿＿＿

答えは 下線に 書く（2つの グラフは 1目もりを べつべつに 見る）

① 犬が すきな 人は、今月は 先月より 何人 ふえましたか。

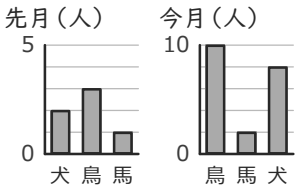

＿＿＿＿＿＿ 人

②

	犬	ねこ	鳥	合計
1組	9	6	9	あ
2組	10	12	12	34

ひょうの あに 入る 数は いくつですか。

＿＿＿＿＿＿

③ 白が すきな 人は、今月は 先月より 何人 ふえましたか。

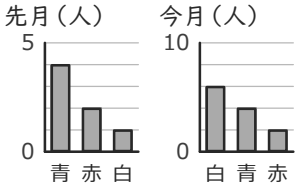

＿＿＿＿＿＿ 人

④

	月	火	水	合計
1組	3	9	6	あ
2組	6	11	10	27

ひょうの あに 入る 数は いくつですか。

＿＿＿＿＿＿

⑤ 白が すきな 人は、今月は 先月より 何人 ふえましたか。

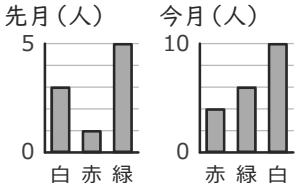

＿＿＿＿＿＿ 人

⑥

	月	火	水	合計
1組	5	5	7	17
2組	3	8	9	あ

ひょうの あに 入る 数は いくつですか。

＿＿＿＿＿＿

⑦ 青が すきな 人は、今月は 先月より 何人 ふえましたか。

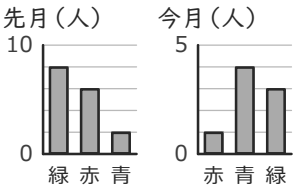

＿＿＿＿＿＿ 人

⑧

	赤	青	黄	合計
1組	6	11	4	21
2組	3	4	3	あ

ひょうの あに 入る 数は いくつですか。

＿＿＿＿＿＿

⑨ 赤が すきな 人は、今月は 先月より 何人 ふえましたか。

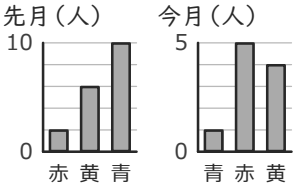

＿＿＿＿＿＿ 人

⑩

	犬	ねこ	鳥	合計
1組	7	11	11	あ
2組	8	11	5	24

ひょうの あに 入る 数は いくつですか。

＿＿＿＿＿＿

⑪ 犬が すきな 人は、今月は 先月より 何人 ふえましたか。

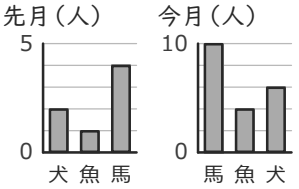

＿＿＿＿＿＿ 人

⑫

	月	火	水	合計
1組	12	6	12	あ
2組	7	7	7	21

ひょうの あに 入る 数は いくつですか。

＿＿＿＿＿＿

小3 ぼうグラフ とっくんドリル③-3【こたえ】

なまえ ＿＿＿＿＿＿＿＿

×があったら「③-4」へ。ぜんぶ〇なら つぎの そうごうテストへ

学習日 ＿＿＿＿＿＿＿＿

① 犬の先月から今月へのふえた数

答え 6人

よくある×：2人

（目もりの 数どうしを ひく（1目もりの 大きさが ちがう））

② 1組の合計

答え 24

よくある×：15

（3つの うち 1つを たしわすれる）

③ 白の先月から今月へのふえた数

答え 5人

よくある×：2人

（目もりの 数どうしを ひく（1目もりの 大きさが ちがう））

④ 1組の合計

答え 18

よくある×：12

（3つの うち 1つを たしわすれる）

⑤ 白の先月から今月へのふえた数

答え 7人

よくある×：2人

（目もりの 数どうしを ひく（1目もりの 大きさが ちがう））

⑥ 2組の合計

答え 20

よくある×：11

（3つの うち 1つを たしわすれる）

⑦ 青の先月から今月へのふえた数

答え 2人

よくある×：3人

（目もりの 数どうしを ひく（1目もりの 大きさが ちがう））

⑧ 2組の合計

答え 10

よくある×：7

（3つの うち 1つを たしわすれる）

⑨ 赤の先月から今月へのふえた数

答え 3人

よくある×：4人

（目もりの 数どうしを ひく（1目もりの 大きさが ちがう））

⑩ 1組の合計

答え 29

よくある×：18

（3つの うち 1つを たしわすれる）

⑪ 犬の先月から今月へのふえた数

答え 4人

よくある×：1人

（目もりの 数どうしを ひく（1目もりの 大きさが ちがう））

⑫ 1組の合計

答え 30

よくある×：18

（3つの うち 1つを たしわすれる）

×が多い型は、練習プリント⑤⑥（ときかたつき）で ときかたを 見直す。