# 小3 ぼうグラフ とっくんドリル③-3

2つの グラフ・ひょうの 合計（12問）

なまえ ＿＿＿＿＿＿＿＿

学習日 ＿＿＿＿＿＿＿＿

**答えは 下線に 書く（2つの グラフは 1目もりを べつべつに 見る）**

**①** 犬が すきな 人は、今月は 先月より 何人 ふえましたか。

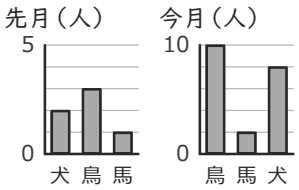


＿＿＿＿＿＿ 人

**②**

| | 犬 | ねこ | 鳥 | 合計 |
|---|---|---|---|---|
| 1組 | 9 | 6 | 9 | あ |
| 2組 | 10 | 12 | 12 | 34 |

ひょうの あに 入る 数は いくつですか。

＿＿＿＿＿＿

**③** 白が すきな 人は、今月は 先月より 何人 ふえましたか。

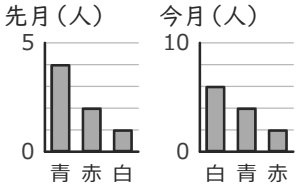


＿＿＿＿＿＿ 人

**④**

| | 月 | 火 | 水 | 合計 |
|---|---|---|---|---|
| 1組 | 3 | 9 | 6 | あ |
| 2組 | 6 | 11 | 10 | 27 |

ひょうの あに 入る 数は いくつですか。

＿＿＿＿＿＿

**⑤** 白が すきな 人は、今月は 先月より 何人 ふえましたか。

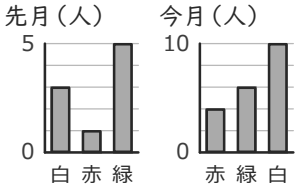


＿＿＿＿＿＿ 人

**⑥**

| | 月 | 火 | 水 | 合計 |
|---|---|---|---|---|
| 1組 | 5 | 5 | 7 | 17 |
| 2組 | 3 | 8 | 9 | あ |

ひょうの あに 入る 数は いくつですか。

＿＿＿＿＿＿

**⑦** 青が すきな 人は、今月は 先月より 何人 ふえましたか。

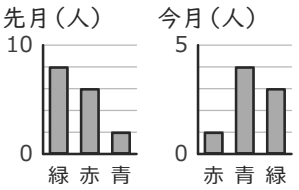


＿＿＿＿＿＿ 人

**⑧**

| | 赤 | 青 | 黄 | 合計 |
|---|---|---|---|---|
| 1組 | 6 | 11 | 4 | 21 |
| 2組 | 3 | 4 | 3 | あ |

ひょうの あに 入る 数は いくつですか。

＿＿＿＿＿＿

**⑨** 赤が すきな 人は、今月は 先月より 何人 ふえましたか。

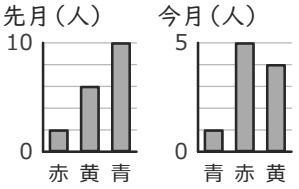


＿＿＿＿＿＿ 人

**⑩**

| | 犬 | ねこ | 鳥 | 合計 |
|---|---|---|---|---|
| 1組 | 7 | 11 | 11 | あ |
| 2組 | 8 | 11 | 5 | 24 |

ひょうの あに 入る 数は いくつですか。

＿＿＿＿＿＿

**⑪** 犬が すきな 人は、今月は 先月より 何人 ふえましたか。

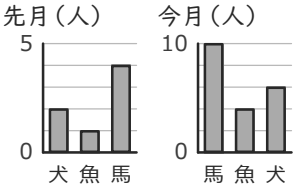


＿＿＿＿＿＿ 人

**⑫**

| | 月 | 火 | 水 | 合計 |
|---|---|---|---|---|
| 1組 | 12 | 6 | 12 | あ |
| 2組 | 7 | 7 | 7 | 21 |

ひょうの あに 入る 数は いくつですか。

＿＿＿＿＿＿