小3 ぼうグラフ とっくんドリル③-2

2つの グラフ・ひょうの 合計（12問）

なまえ ＿＿＿＿＿＿

学習日 ＿＿＿＿＿＿

答えは 下線に 書く（2つの グラフは 1目もりを べつべつに 見る）

① 馬が すきな 人は、1組は 2組より 何人 多いですか。

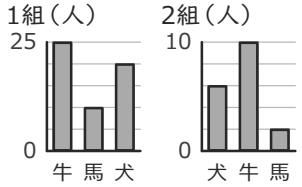

＿＿＿＿＿＿ 人

②

3組

なまえ	人数
ぶどう	7
りんご	4
いちご	8

4組

なまえ	人数
りんご	9
ぶどう	10
いちご	12

2つの 組を あわせると、ぶどうは 何人ですか。

＿＿＿＿＿＿ 人

③ 緑が すきな 人が 多いのは、どちらの 組ですか。

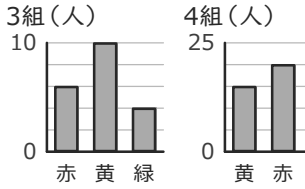

＿＿＿＿＿＿

④

3組

なまえ	人数
いちご	4
りんご	8
ぶどう	4

4組

なまえ	人数
ぶどう	5
いちご	3
りんご	6

2つの 組を あわせると、りんごは 何人ですか。

＿＿＿＿＿＿ 人

⑤ 赤が すきな 人は、3組は 4組より 何人 多いですか。

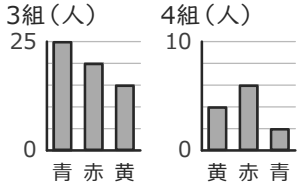

＿＿＿＿＿＿ 人

⑥

3組

なまえ	人数
なし	5
りんご	3
いちご	8

4組

なまえ	人数
りんご	7
いちご	11
なし	11

2つの 組を あわせると、りんごは 何人ですか。

＿＿＿＿＿＿ 人

⑦ 鳥が すきな 人が 多いのは、どちらの 組ですか。

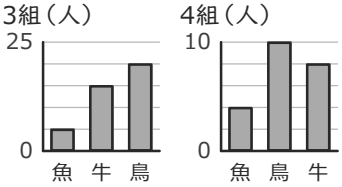

＿＿＿＿＿＿

⑧

3組

なまえ	人数
いちご	9
もも	4
りんご	10

4組

なまえ	人数
いちご	4
りんご	6
もも	9

2つの 組を あわせると、ももは 何人ですか。

＿＿＿＿＿＿ 人

⑨ 牛が すきな 人が 多いのは、どちらの 月ですか。

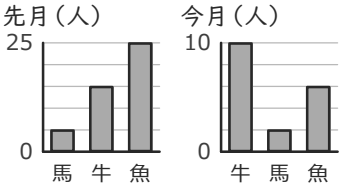

＿＿＿＿＿＿

⑩

1組

なまえ	人数
なし	10
みかん	8
ぶどう	5

2組

なまえ	人数
ぶどう	6
なし	9
みかん	5

2つの 組を あわせると、ぶどうは 何人ですか。

＿＿＿＿＿＿ 人

⑪ 青が すきな 人が 多いのは、どちらの 組ですか。

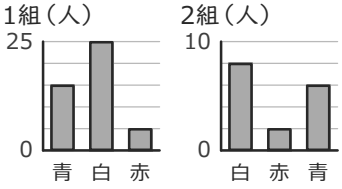

＿＿＿＿＿＿

⑫

1組

なまえ	人数
いちご	12
りんご	12
みかん	12

2組

なまえ	人数
りんご	8
みかん	3
いちご	9

2つの 組を あわせると、りんごは 何人ですか。

＿＿＿＿＿＿ 人

いちごドリル プリント

解きおわったら よんでね
答えと次の1枚がひらきます

小3 ぼうグラフ とっくんドリル③-2【こたえ】

なまえ ＿＿＿＿＿＿＿＿

×があったら「③-3」へ。ぜんぶ〇なら つぎの そうごうテストへ

学習日 ＿＿＿＿＿＿＿＿

① 1組と2組の馬のちがい

答え 8人

よくある×：1人

（目もりの 数どうしを ひく（1目もりの 大きさが ちがう））

② 3組と4組のぶどうをあわせる

答え 17人

よくある×：16人

（ならびの ちがう ひょうで、同じ 行どうしを たす）

③ 緑はどちらの組が多い

答え 4組

よくある×：3組

（ぼうの 高さだけで くらべる（1目もりが ちがう））

④ 3組と4組のりんごをあわせる

答え 14人

よくある×：11人

（ならびの ちがう ひょうで、同じ 行どうしを たす）

⑤ 3組と4組の赤のちがい

答え 14人

よくある×：1人

（目もりの 数どうしを ひく（1目もりの 大きさが ちがう））

⑥ 3組と4組のりんごをあわせる

答え 10人

よくある×：14人

（ならびの ちがう ひょうで、同じ 行どうしを たす）

⑦ 鳥はどちらの組が多い

答え 3組

よくある×：4組

（ぼうの 高さだけで くらべる（1目もりが ちがう））

⑧ 3組と4組のももをあわせる

答え 13人

よくある×：10人

（ならびの ちがう ひょうで、同じ 行どうしを たす）

⑨ 牛はどちらの月が多い

答え 先月

よくある×：今月

（ぼうの 高さだけで くらべる（1目もりが ちがう））

⑩ 1組と2組のぶどうをあわせる

答え 11人

よくある×：10人

（ならびの ちがう ひょうで、同じ 行どうしを たす）

⑪ 青はどちらの組が多い

答え 1組

よくある×：2組

（ぼうの 高さだけで くらべる（1目もりが ちがう））

⑫ 1組と2組のりんごをあわせる

答え 20人

よくある×：15人

（ならびの ちがう ひょうで、同じ 行どうしを たす）

×が多い型は、練習プリント⑤⑥（ときかたつき）で ときかたを 見直す。