小3 ぼうグラフ とっくんドリル③-2

2つの グラフ・ひょうの 合計（12問）

なまえ ＿＿＿＿＿＿

学習日 ＿＿＿＿＿＿

答えは 下線に 書く（2つの グラフは 1目もりを べつべつに 見る）

① 馬が すきな 人は、1組は 2組より 何人 多いですか。

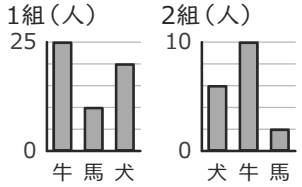

＿＿＿＿＿＿ 人

②

3組

なまえ	人数
ぶどう	7
りんご	4
いちご	8

4組

なまえ	人数
りんご	9
ぶどう	10
いちご	12

2つの 組を あわせると、ぶどうは 何人ですか。

＿＿＿＿＿＿ 人

③ 緑が すきな 人が 多いのは、どちらの 組ですか。

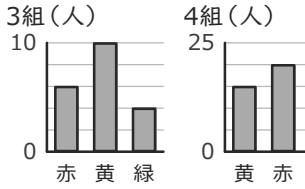

＿＿＿＿＿＿

④

3組

なまえ	人数
いちご	4
りんご	8
ぶどう	4

4組

なまえ	人数
ぶどう	5
いちご	3
りんご	6

2つの 組を あわせると、りんごは 何人ですか。

＿＿＿＿＿＿ 人

⑤ 赤が すきな 人は、3組は 4組より 何人 多いですか。

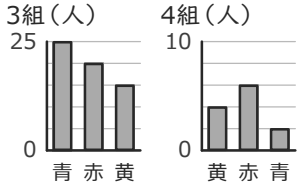

＿＿＿＿＿＿ 人

⑥

3組

なまえ	人数
なし	5
りんご	3
いちご	8

4組

なまえ	人数
りんご	7
いちご	11
なし	11

2つの 組を あわせると、りんごは 何人ですか。

＿＿＿＿＿＿ 人

⑦ 鳥が すきな 人が 多いのは、どちらの 組ですか。

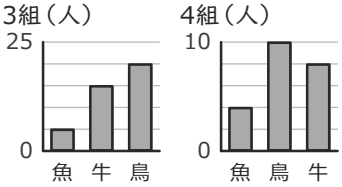

＿＿＿＿＿＿

⑧

3組

なまえ	人数
いちご	9
もも	4
りんご	10

4組

なまえ	人数
いちご	4
りんご	6
もも	9

2つの 組を あわせると、ももは 何人ですか。

＿＿＿＿＿＿ 人

⑨ 牛が すきな 人が 多いのは、どちらの 月ですか。

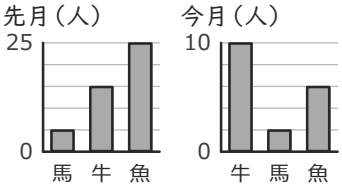

＿＿＿＿＿＿

⑩

1組

なまえ	人数
なし	10
みかん	8
ぶどう	5

2組

なまえ	人数
ぶどう	6
なし	9
みかん	5

2つの 組を あわせると、ぶどうは 何人ですか。

＿＿＿＿＿＿ 人

⑪ 青が すきな 人が 多いのは、どちらの 組ですか。

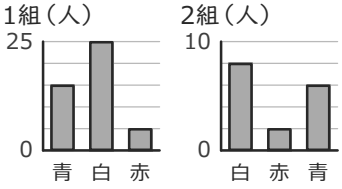

＿＿＿＿＿＿

⑫

1組

なまえ	人数
いちご	12
りんご	12
みかん	12

2組

なまえ	人数
りんご	8
みかん	3
いちご	9

2つの 組を あわせると、りんごは 何人ですか。

＿＿＿＿＿＿ 人

いちごドリル プリント

解きおわったら よんでね
答えと次の1枚がひらきます