小3 ぼうグラフ とっくんドリル③-1

2つの グラフ・ひょうの 合計（12問）

なまえ ＿＿＿＿＿＿＿＿

学習日 ＿＿＿＿＿＿＿＿

答えは 下線に 書く（2つの グラフは 1目もりを べつべつに 見る）

① 鳥が すきな 人は、1組は 2組より 何人 多いですか。

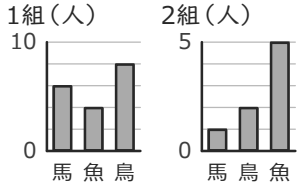

＿＿＿＿＿＿ 人

②

	晴れ	雨	合計
1組	12	6	18
2組	9	9	18
合計	21	15	**あ**

ひょうの あに 入る 数は いくつですか。

＿＿＿＿＿＿

③ 黄が すきな 人は、4組は 3組より 何人 多いですか。

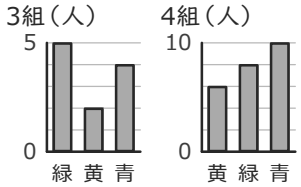

＿＿＿＿＿＿ 人

④

	晴れ	雨	合計
1組	9	10	19
2組	12	13	25
合計	21	23	**あ**

ひょうの あに 入る 数は いくつですか。

＿＿＿＿＿＿

⑤ 馬が すきな 人は、1組は 2組より 何人 多いですか。

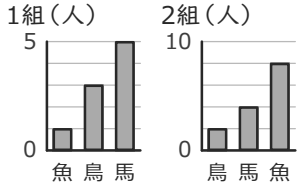

＿＿＿＿＿＿ 人

⑥

	晴れ	雨	合計
1組	6	13	19
2組	9	6	15
合計	15	19	**あ**

ひょうの あに 入る 数は いくつですか。

＿＿＿＿＿＿

⑦ 青が すきな 人は、2組は 1組より 何人 多いですか。

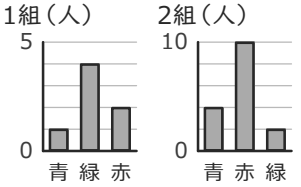

＿＿＿＿＿＿ 人

⑧

	晴れ	雨	合計
1組	8	7	15
2組	6	8	14
合計	14	15	**あ**

ひょうの あに 入る 数は いくつですか。

＿＿＿＿＿＿

⑨ 牛が すきな 人は、3組は 4組より 何人 多いですか。

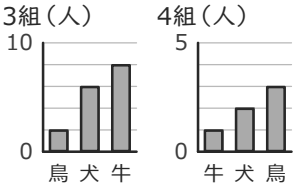

＿＿＿＿＿＿ 人

⑩

	男	女	合計
1組	9	13	22
2組	15	12	27
合計	24	25	**あ**

ひょうの あに 入る 数は いくつですか。

＿＿＿＿＿＿

⑪ 牛が すきな 人は、1組は 2組より 何人 多いですか。

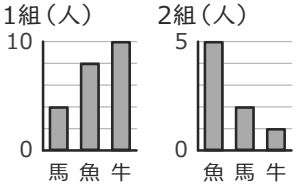

＿＿＿＿＿＿ 人

⑫

	男	女	合計
1組	14	10	24
2組	9	15	24
合計	23	25	**あ**

ひょうの あに 入る 数は いくつですか。

＿＿＿＿＿＿

小3 ぼうグラフ とっくんドリル③-1【こたえ】

なまえ ＿＿＿＿＿＿＿＿

×があったら「③-2」へ。ぜんぶ〇なら つぎの そうごうテストへ

学習日 ＿＿＿＿＿＿＿＿

① 1組と2組の鳥のちがい

答え 6人

よくある×：2人

（目もりの 数どうしを ひく（1目もりの 大きさが ちがう））

② 表の右下の合計

答え 36

よくある×：72

（たての 合計と よこの 合計を 両方 たす）

③ 4組と3組の黄のちがい

答え 4人

よくある×：1人

（目もりの 数どうしを ひく（1目もりの 大きさが ちがう））

④ 表の右下の合計

答え 44

よくある×：88

（たての 合計と よこの 合計を 両方 たす）

⑤ 1組と2組の馬のちがい

答え 1人

よくある×：3人

（目もりの 数どうしを ひく（1目もりの 大きさが ちがう））

⑥ 表の右下の合計

答え 34

よくある×：68

（たての 合計と よこの 合計を 両方 たす）

⑦ 2組と1組の青のちがい

答え 3人

よくある×：1人

（目もりの 数どうしを ひく（1目もりの 大きさが ちがう））

⑧ 表の右下の合計

答え 29

よくある×：58

（たての 合計と よこの 合計を 両方 たす）

⑨ 3組と4組の牛のちがい

答え 7人

よくある×：3人

（目もりの 数どうしを ひく（1目もりの 大きさが ちがう））

⑩ 表の右下の合計

答え 49

よくある×：98

（たての 合計と よこの 合計を 両方 たす）

⑪ 1組と2組の牛のちがい

答え 9人

よくある×：4人

（目もりの 数どうしを ひく（1目もりの 大きさが ちがう））

⑫ 表の右下の合計

答え 48

よくある×：96

（たての 合計と よこの 合計を 両方 たす）

×が多い型は、練習プリント⑤⑥（ときかたつき）で ときかたを 見直す。