小3 ぼうグラフ とっくんドリル③-1

2つの グラフ・ひょうの 合計（12問）

なまえ ＿＿＿＿＿＿＿＿

学習日 ＿＿＿＿＿＿＿＿

答えは 下線に 書く（2つの グラフは 1目もりを べつべつに 見る）

① 鳥が すきな 人は、1組は 2組より 何人 多いですか。

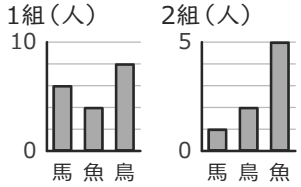

＿＿＿＿＿＿ 人

②

	晴れ	雨	合計
1組	12	6	18
2組	9	9	18
合計	21	15	**あ**

ひょうの あに 入る 数は いくつですか。

＿＿＿＿＿＿

③ 黄が すきな 人は、4組は 3組より 何人 多いですか。

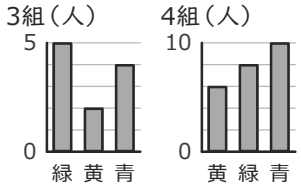

＿＿＿＿＿＿ 人

④

	晴れ	雨	合計
1組	9	10	19
2組	12	13	25
合計	21	23	**あ**

ひょうの あに 入る 数は いくつですか。

＿＿＿＿＿＿

⑤ 馬が すきな 人は、1組は 2組より 何人 多いですか。

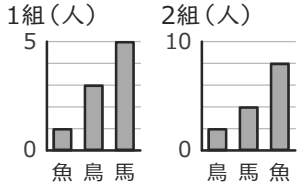

＿＿＿＿＿＿ 人

⑥

	晴れ	雨	合計
1組	6	13	19
2組	9	6	15
合計	15	19	**あ**

ひょうの あに 入る 数は いくつですか。

＿＿＿＿＿＿

⑦ 青が すきな 人は、2組は 1組より 何人 多いですか。

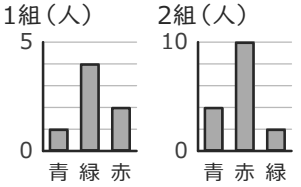

＿＿＿＿＿＿ 人

⑧

	晴れ	雨	合計
1組	8	7	15
2組	6	8	14
合計	14	15	**あ**

ひょうの あに 入る 数は いくつですか。

＿＿＿＿＿＿

⑨ 牛が すきな 人は、3組は 4組より 何人 多いですか。

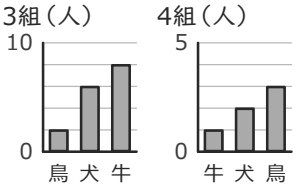

＿＿＿＿＿＿ 人

⑩

	男	女	合計
1組	9	13	22
2組	15	12	27
合計	24	25	**あ**

ひょうの あに 入る 数は いくつですか。

＿＿＿＿＿＿

⑪ 牛が すきな 人は、1組は 2組より 何人 多いですか。

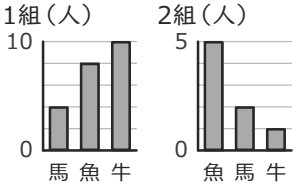

＿＿＿＿＿＿ 人

⑫

	男	女	合計
1組	14	10	24
2組	9	15	24
合計	23	25	**あ**

ひょうの あに 入る 数は いくつですか。

＿＿＿＿＿＿