小3 ぼうグラフ とっくんドリル②-5

ぼうを かく・正の字・その他（12問）

なまえ ＿＿＿＿＿＿＿＿

学習日 ＿＿＿＿＿＿＿＿

・ぼうは 1目もりの 大きさに 合わせて かく
・正の字は 1つで 5

① ひょうを ぼうグラフに かこう。

ひょう

曜日	数
月	20
火	15
水	25

読んだ 本（ページ）

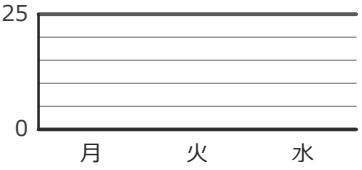

② 正正正下 入った ボールを 正の字で 数えました。何こですか。

＿＿＿＿＿＿ こ

③ ひょうを ぼうグラフに かこう。

ひょう

回	数
1回目	10
2回目	4
3回目	6

なわとび（回）

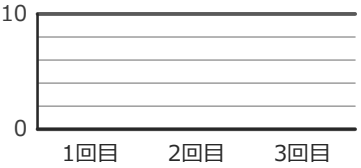

④

しゅるい	数(人)
うさぎ	11
小鳥	2
ねこ	5
かめ	12
金魚	1

多い 2つ いがいを まとめた「その他」は 何人ですか。

＿＿＿＿＿＿ 人

⑤ ひょうを ぼうグラフに かこう。

ひょう

魚	数
いわし	4
さば	10
たい	6

とった 魚（ひき）

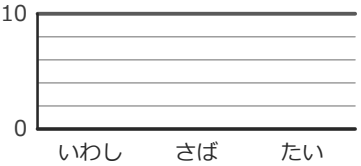

⑥ 正正正一 ひろった どんぐりを 正の字で 数えました。何こですか。

＿＿＿＿＿＿ こ

⑦ ひょうを ぼうグラフに かこう。

ひょう

魚	数
たい	20
さば	25
いわし	15

とった 魚（ひき）

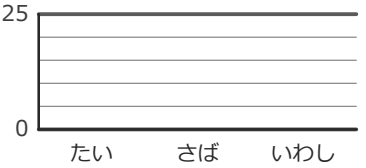

⑧

しゅるい	数(人)
金魚	11
犬	1
ねこ	5
小鳥	5
かめ	6

多い 2つ いがいを まとめた「その他」は 何人ですか。

＿＿＿＿＿＿ 人

⑨ ひょうを ぼうグラフに かこう。

ひょう

動物	数
うさぎ	25
きりん	20
ねこ	10

すきな 動物（人）

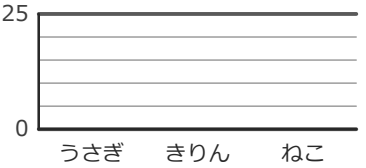

⑩ 正正正正丅 とんだ 回数を 正の字で 数えました。何回ですか。

＿＿＿＿＿＿ 回

⑪ ひょうを ぼうグラフに かこう。

ひょう

動物	数
ねこ	6
きりん	4
パンダ	8

すきな 動物（人）

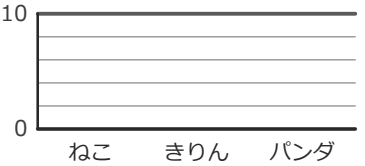

⑫

しゅるい	数(人)
ラーメン	7
すし	2
パン	9
ピザ	8
カレー	6

多い 2つ いがいを まとめた「その他」は 何人ですか。

＿＿＿＿＿＿ 人

小3 ぼうグラフ とっくんドリル②-5【こたえ】

なまえ ＿＿＿＿＿＿＿＿

×は 練習プリント→「②-1」へ。ぜんぶ〇なら つぎの そうごうテストへ

学習日 ＿＿＿＿＿＿＿＿

① ひょう→ぼうグラフ（1目もり5）

読んだ 本（ページ）

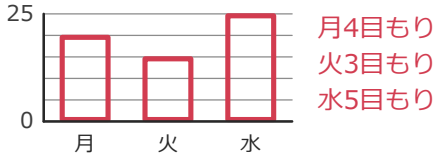

月4目もり
火3目もり
水5目もり

よくある×：数の 目もりまで かこうと する

② 正の字18

答え 18こ

よくある×：4こ

（正の字の 字の 数（4）を 答える）

③ ひょう→ぼうグラフ（1目もり2）

なわとび（回）

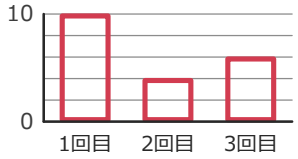

1回目5目もり
2回目2目もり
3回目3目もり

よくある×：2回目を 4目もりの 高さに かく

④ その他の数

答え 8人

よくある×：7人

（その他に 入れる ものを 1つ 入れわすれる）

⑤ ひょう→ぼうグラフ（1目もり2）

とった 魚（ひき）

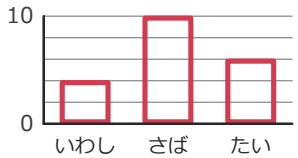

いわし2目もり
さば5目もり
たい3目もり

よくある×：いわしを 4目もりの 高さに かく

⑥ 正の字16

答え 16こ

よくある×：4こ

（正の字の 字の 数（4）を 答える）

⑦ ひょう→ぼうグラフ（1目もり5）

とった 魚（ひき）

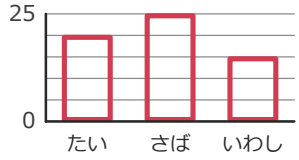

たい4目もり
さば5目もり
いわし3目もり

よくある×：数の 目もりまで かこうと する

⑧ その他の数

答え 11人

よくある×：10人

（その他に 入れる ものを 1つ 入れわすれる）

⑨ ひょう→ぼうグラフ（1目もり5）

すきな 動物（人）

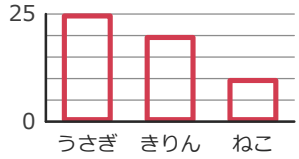

うさぎ5目もり
きりん4目もり
ねこ2目もり

よくある×：数の 目もりまで かこうと する

⑩ 正の字22

答え 22回

よくある×：5回

（正の字の 字の 数（5）を 答える）

⑪ ひょう→ぼうグラフ（1目もり2）

すきな 動物（人）

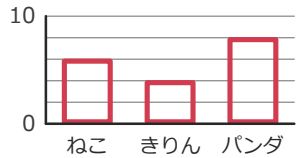

ねこ3目もり
きりん2目もり
パンダ4目もり

よくある×：きりんを 4目もりの 高さに かく

⑫ その他の数

答え 15人

よくある×：13人

（その他に 入れる ものを 1つ 入れわすれる）

丸つけ：ぼうは、先が 正しい 目もりの 線の 上なら〇（となりの 線なら×）。
×が多い型は、練習プリント③④（ときかたつき）で ときかたを 見直す。