# 小3 ぼうグラフ とっくんドリル②-5

ぼうを かく・正の字・その他（12問）

なまえ ＿＿＿＿＿＿＿＿

学習日 ＿＿＿＿＿＿＿＿

**・ぼうは 1目もりの 大きさに 合わせて かく**
**・正の字は 1つで 5**

**①** ひょうを ぼうグラフに かこう。

ひょう

| 曜日 | 数 |
|---|---|
| 月 | 20 |
| 火 | 15 |
| 水 | 25 |

読んだ 本（ページ）

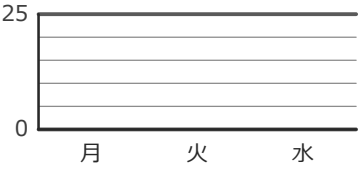


**②** 正正正下 入った ボールを 正の字で 数えました。何こですか。

＿＿＿＿＿＿ こ

**③** ひょうを ぼうグラフに かこう。

ひょう

| 回 | 数 |
|---|---|
| 1回目 | 10 |
| 2回目 | 4 |
| 3回目 | 6 |

なわとび（回）

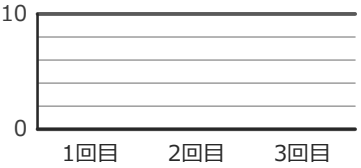


**④**

| しゅるい | 数(人) |
|---|---|
| うさぎ | 11 |
| 小鳥 | 2 |
| ねこ | 5 |
| かめ | 12 |
| 金魚 | 1 |

多い 2つ いがいを まとめた「その他」は 何人ですか。

＿＿＿＿＿＿ 人

**⑤** ひょうを ぼうグラフに かこう。

ひょう

| 魚 | 数 |
|---|---|
| いわし | 4 |
| さば | 10 |
| たい | 6 |

とった 魚（ひき）

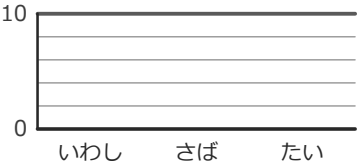


**⑥** 正正正一 ひろった どんぐりを 正の字で 数えました。何こですか。

＿＿＿＿＿＿ こ

**⑦** ひょうを ぼうグラフに かこう。

ひょう

| 魚 | 数 |
|---|---|
| たい | 20 |
| さば | 25 |
| いわし | 15 |

とった 魚（ひき）

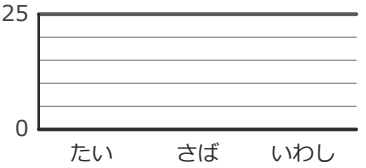


**⑧**

| しゅるい | 数(人) |
|---|---|
| 金魚 | 11 |
| 犬 | 1 |
| ねこ | 5 |
| 小鳥 | 5 |
| かめ | 6 |

多い 2つ いがいを まとめた「その他」は 何人ですか。

＿＿＿＿＿＿ 人

**⑨** ひょうを ぼうグラフに かこう。

ひょう

| 動物 | 数 |
|---|---|
| うさぎ | 25 |
| きりん | 20 |
| ねこ | 10 |

すきな 動物（人）

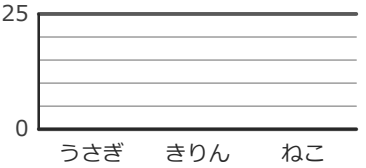


**⑩** 正正正正丅 とんだ 回数を 正の字で 数えました。何回ですか。

＿＿＿＿＿＿ 回

**⑪** ひょうを ぼうグラフに かこう。

ひょう

| 動物 | 数 |
|---|---|
| ねこ | 6 |
| きりん | 4 |
| パンダ | 8 |

すきな 動物（人）

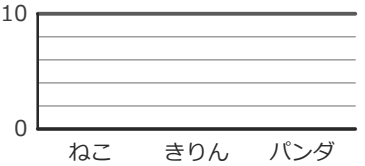


**⑫**

| しゅるい | 数(人) |
|---|---|
| ラーメン | 7 |
| すし | 2 |
| パン | 9 |
| ピザ | 8 |
| カレー | 6 |

多い 2つ いがいを まとめた「その他」は 何人ですか。

＿＿＿＿＿＿ 人