小3 ぼうグラフ とっくんドリル②-4

ぼうを かく・正の字・その他（12問）

なまえ ＿＿＿＿＿＿＿＿

学習日 ＿＿＿＿＿＿＿＿

・ぼうは 1目もりの 大きさに 合わせて かく
・正の字は 1つで 5

① ひょうを ぼうグラフに かこう。

ひょう

組	数
1組	10
2組	40
3組	20



②

しゅるい	数(人)
うどん	8
すし	2
パン	7
ピザ	1
カレー	6
ラーメン	4

多い 3つ いがいを まとめた「その他」は 何人ですか。

＿＿＿＿＿＿ 人

③ 1目もり2で ぼうを かこう。
□には たての 数を 書こう。

ひょう

曜日	数
月	8
火	6
水	4

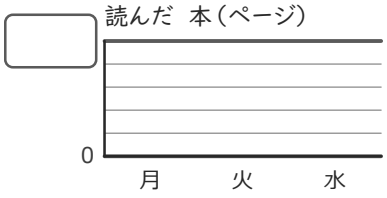

④

しゅるい	数(人)
すし	10
カレー	13
うどん	13
ラーメン	11
ピザ	9
パン	7

多い 3つ いがいを まとめた「その他」は 何人ですか。

＿＿＿＿＿＿ 人

⑤ 1目もり2で ぼうを かこう。
□には たての 数を 書こう。

ひょう

くだもの	数
メロン	8
かき	10
ぶどう	6

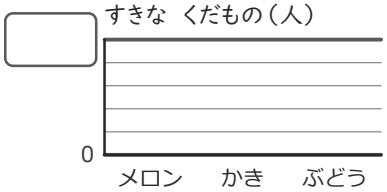

⑥

しゅるい	数(人)
カレー	14
パン	6
すし	9
ラーメン	8
ピザ	7
うどん	2

多い 3つ いがいを まとめた「その他」は 何人ですか。

＿＿＿＿＿＿ 人

⑦ ひょうを ぼうグラフに かこう。

ひょう

魚	数
たい	20
いわし	25
さば	10

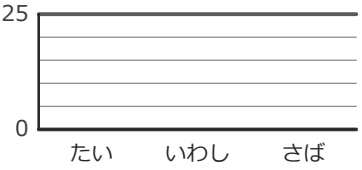

⑧

しゅるい	数(人)
ダンス	14
サッカー	4
たっきゅう	13
やきゅう	3
テニス	5
水えい	9

多い 3つ いがいを まとめた「その他」は 何人ですか。

＿＿＿＿＿＿ 人

⑨ 1目もり10で ぼうを かこう。
□には たての 数を 書こう。

ひょう

くだもの	数
かき	20
ぶどう	40
もも	10

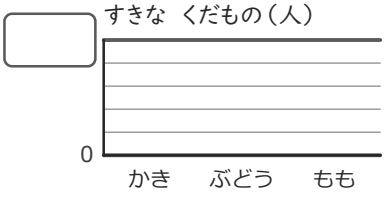

⑩

しゅるい	数(人)
たっきゅう	10
やきゅう	10
テニス	2
サッカー	6
ダンス	13
水えい	2

多い 3つ いがいを まとめた「その他」は 何人ですか。

＿＿＿＿＿＿ 人

⑪ 1目もり5で ぼうを かこう。
□には たての 数を 書こう。

ひょう

曜日	数
月	20
火	10
水	15

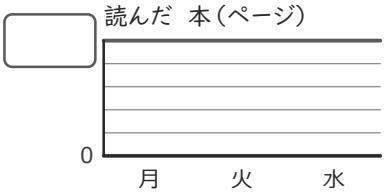

⑫

しゅるい	数(人)
やきゅう	7
水えい	4
ダンス	4
たっきゅう	3
テニス	11
サッカー	9

多い 3つ いがいを まとめた「その他」は 何人ですか。

＿＿＿＿＿＿ 人

小3 ぼうグラフ とっくんドリル②-4【こたえ】

なまえ ＿＿＿＿＿＿＿＿

×があったら「②-5」へ。ぜんぶ〇なら つぎの そうごうテストへ

学習日 ＿＿＿＿＿＿＿＿

① ひょう→ぼうグラフ（1目もり10）

かした 本（さつ）

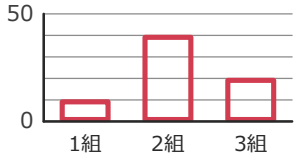

1組1目もり
2組4目もり
3組2目もり

よくある×：数の 目もりまで かこうと する

② その他の数

答え 7人

よくある×：6人

（その他に 入れる ものを 1つ 入れわすれる）

③ ひょう→ぼうグラフ（1目もり2）

読んだ 本（ページ）

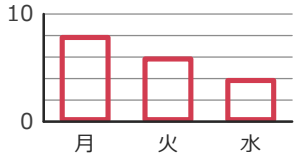

月4目もり
火3目もり
水2目もり
（たての数 10）

よくある×：水を 4目もりの 高さに かく

④ その他の数

答え 26人

よくある×：19人

（その他に 入れる ものを 1つ 入れわすれる）

⑤ ひょう→ぼうグラフ（1目もり2）

すきな くだもの（人）



メロン4目もり
かき5目もり
ぶどう3目もり
（たての数 10）

よくある×：数の 目もりまで かこうと する

⑥ その他の数

答え 15人

よくある×：13人

（その他に 入れる ものを 1つ 入れわすれる）

⑦ ひょう→ぼうグラフ（1目もり5）

とった 魚（ひき）

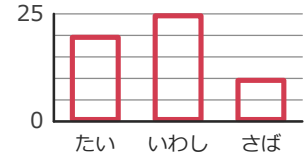

たい4目もり
いわし5目もり
さば2目もり

よくある×：数の 目もりまで かこうと する

⑧ その他の数

答え 12人

よくある×：9人

（その他に 入れる ものを 1つ 入れわすれる）

⑨ ひょう→ぼうグラフ（1目もり10）

すきな くだもの（人）

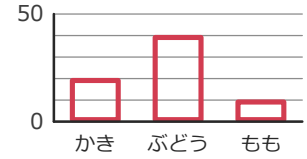

かき2目もり
ぶどう4目もり
もも1目もり
（たての数 50）

よくある×：数の 目もりまで かこうと する

⑩ その他の数

答え 10人

よくある×：8人

（その他に 入れる ものを 1つ 入れわすれる）

⑪ ひょう→ぼうグラフ（1目もり5）

読んだ 本（ページ）

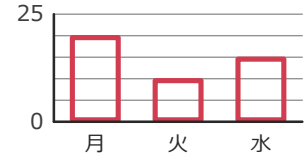

月4目もり
火2目もり
水3目もり
（たての数 25）

よくある×：数の 目もりまで かこうと する

⑫ その他の数

答え 11人

よくある×：8人

（その他に 入れる ものを 1つ 入れわすれる）

丸つけ：ぼうは、先が 正しい 目もりの 線の 上なら〇（となりの 線なら×）。
×が多い型は、練習プリント③④（ときかたつき）で ときかたを 見直す。