小3 ぼうグラフ とっくんドリル②-4

ぼうを かく・正の字・その他（12問）

なまえ ＿＿＿＿＿＿＿＿

学習日 ＿＿＿＿＿＿＿＿

・ぼうは 1目もりの 大きさに 合わせて かく
・正の字は 1つで 5

① ひょうを ぼうグラフに かこう。

ひょう

組	数
1組	10
2組	40
3組	20



②

しゅるい	数(人)
うどん	8
すし	2
パン	7
ピザ	1
カレー	6
ラーメン	4

多い 3つ いがいを まとめた「その他」は 何人ですか。

＿＿＿＿＿＿ 人

③ 1目もり2で ぼうを かこう。
□には たての 数を 書こう。

ひょう

曜日	数
月	8
火	6
水	4

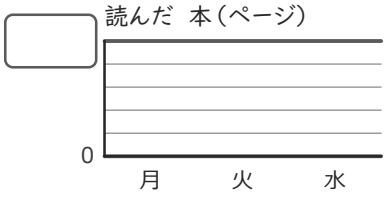

④

しゅるい	数(人)
すし	10
カレー	13
うどん	13
ラーメン	11
ピザ	9
パン	7

多い 3つ いがいを まとめた「その他」は 何人ですか。

＿＿＿＿＿＿ 人

⑤ 1目もり2で ぼうを かこう。
□には たての 数を 書こう。

ひょう

くだもの	数
メロン	8
かき	10
ぶどう	6

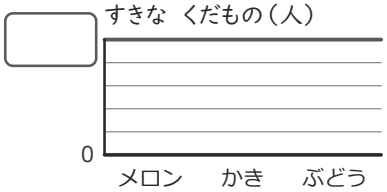

⑥

しゅるい	数(人)
カレー	14
パン	6
すし	9
ラーメン	8
ピザ	7
うどん	2

多い 3つ いがいを まとめた「その他」は 何人ですか。

＿＿＿＿＿＿ 人

⑦ ひょうを ぼうグラフに かこう。

ひょう

魚	数
たい	20
いわし	25
さば	10

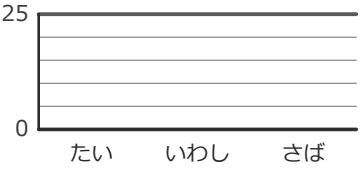

⑧

しゅるい	数(人)
ダンス	14
サッカー	4
たっきゅう	13
やきゅう	3
テニス	5
水えい	9

多い 3つ いがいを まとめた「その他」は 何人ですか。

＿＿＿＿＿＿ 人

⑨ 1目もり10で ぼうを かこう。
□には たての 数を 書こう。

ひょう

くだもの	数
かき	20
ぶどう	40
もも	10

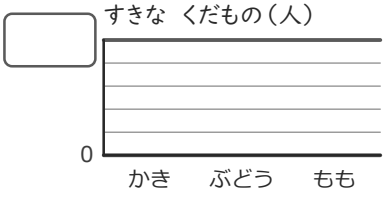

⑩

しゅるい	数(人)
たっきゅう	10
やきゅう	10
テニス	2
サッカー	6
ダンス	13
水えい	2

多い 3つ いがいを まとめた「その他」は 何人ですか。

＿＿＿＿＿＿ 人

⑪ 1目もり5で ぼうを かこう。
□には たての 数を 書こう。

ひょう

曜日	数
月	20
火	10
水	15

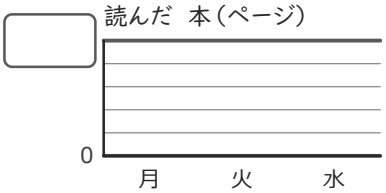

⑫

しゅるい	数(人)
やきゅう	7
水えい	4
ダンス	4
たっきゅう	3
テニス	11
サッカー	9

多い 3つ いがいを まとめた「その他」は 何人ですか。

＿＿＿＿＿＿ 人