小3 ぼうグラフ とっくんドリル②-3

ぼうを かく・正の字・その他（12問）

なまえ ＿＿＿＿＿＿＿＿

学習日 ＿＿＿＿＿＿＿＿

・ぼうは 1目もりの 大きさに 合わせて かく
・正の字は 1つで 5

① ひょうを ぼうグラフに かこう。

ひょう

曜日	数
月	20
火	10
水	40

ひろった 貝（こ）

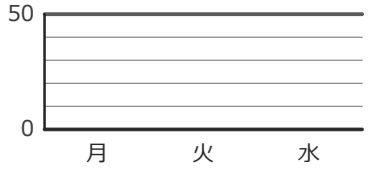

② 正正正丅 ひろった どんぐりを 正の字で 数えました。何こですか。

＿＿＿＿＿＿ こ

③ ひょうを ぼうグラフに かこう。

ひょう

曜日	数
月	40
火	20
水	30

読んだ 本（ページ）

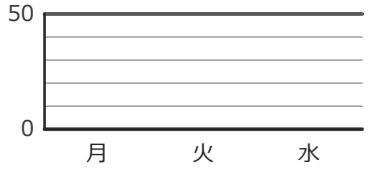

④ 正正正正一 とんだ 回数を 正の字で 数えました。何回ですか。

＿＿＿＿＿＿ 回

⑤ ひょうを ぼうグラフに かこう。

ひょう

回	数
1回目	10
2回目	30
3回目	20

なわとび（回）

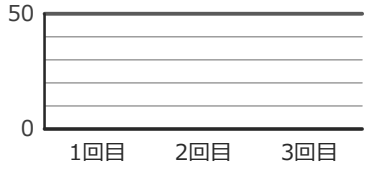

⑥ 正正正正下 とんだ 回数を 正の字で 数えました。何回ですか。

＿＿＿＿＿＿ 回

⑦ ひょうを ぼうグラフに かこう。

ひょう

曜日	数
月	40
火	20
水	10

読んだ 本（ページ）

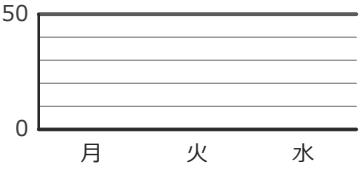

⑧ 正正正正丅 入った ボールを 正の字で 数えました。何こですか。

＿＿＿＿＿＿ こ

⑨ ひょうを ぼうグラフに かこう。

ひょう

花	数
ピンク	20
黄	30
赤	10

さいた 花（本）

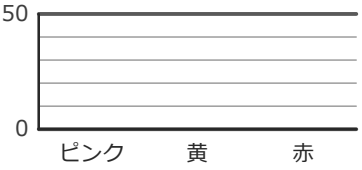

⑩ 正正正正丅 入った ボールを 正の字で 数えました。何こですか。

＿＿＿＿＿＿ こ

⑪ ひょうを ぼうグラフに かこう。

ひょう

動物	数
きりん	20
犬	30
ねこ	40

すきな 動物（人）

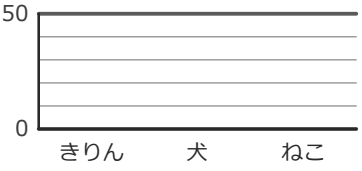

⑫ 正正正丅 入った ボールを 正の字で 数えました。何こですか。

＿＿＿＿＿＿ こ