小3 ぼうグラフ とっくんドリル②-2

ぼうを かく・正の字・その他（12問）

なまえ ＿＿＿＿＿＿＿＿

学習日 ＿＿＿＿＿＿＿＿

・ぼうは 1目もりの 大きさに 合わせて かく
・正の字は 1つで 5

①

ひょうを ぼうグラフに かこう。

ひょう

曜日	数
月	10
火	20
水	15

ひろった 貝（こ）

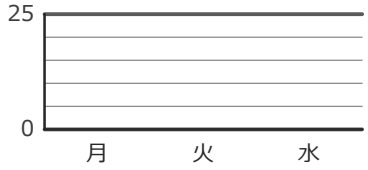

②

しゅるい	数(人)
ダンス	2
やきゅう	13
サッカー	4
水えい	1
たっきゅう	6

多い 2つ いがいを まとめた「その他」は 何人ですか。

＿＿＿＿＿＿ 人

③

ひょうを ぼうグラフに かこう。

ひょう

色	数
青	10
赤	25
黄	15

すきな 色（人）



④

しゅるい	数(人)
サッカー	6
水えい	1
ダンス	3
たっきゅう	14
テニス	5

多い 2つ いがいを まとめた「その他」は 何人ですか。

＿＿＿＿＿＿ 人

⑤

ひょうを ぼうグラフに かこう。

ひょう

花	数
黄	25
ピンク	20
赤	15

さいた 花（本）

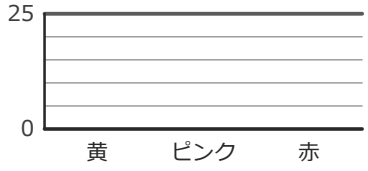

⑥

しゅるい	数(人)
金魚	13
小鳥	12
かめ	7
うさぎ	4
犬	10

多い 2つ いがいを まとめた「その他」は 何人ですか。

＿＿＿＿＿＿ 人

⑦

ひょうを ぼうグラフに かこう。

ひょう

曜日	数
月	15
火	10
水	20

ひろった 貝（こ）

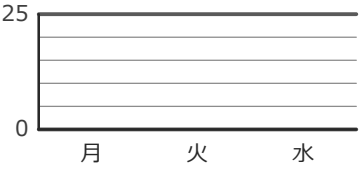

⑧

しゅるい	数(人)
犬	3
うさぎ	14
小鳥	9
金魚	3
ねこ	12

多い 2つ いがいを まとめた「その他」は 何人ですか。

＿＿＿＿＿＿ 人

⑨

ひょうを ぼうグラフに かこう。

ひょう

曜日	数
月	15
火	25
水	20

ひろった 貝（こ）

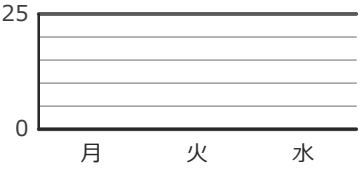

⑩

しゅるい	数(人)
ダンス	6
やきゅう	4
サッカー	14
テニス	6
たっきゅう	13

多い 2つ いがいを まとめた「その他」は 何人ですか。

＿＿＿＿＿＿ 人

⑪

ひょうを ぼうグラフに かこう。

ひょう

曜日	数
月	25
火	10
水	20

読んだ 本（ページ）

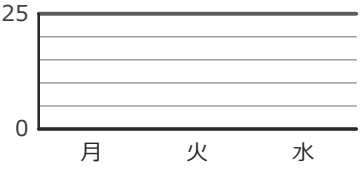

⑫

しゅるい	数(人)
水えい	3
サッカー	5
テニス	8
ダンス	4
やきゅう	12

多い 2つ いがいを まとめた「その他」は 何人ですか。

＿＿＿＿＿＿ 人

いちごドリル プリント

解きおわったら よんでね
答えと次の1枚がひらきます