小3 ぼうグラフ とっくんドリル②-1

ぼうを かく・正の字・その他（12問）

なまえ ＿＿＿＿＿＿＿＿

学習日 ＿＿＿＿＿＿＿＿

・ぼうは 1目もりの 大きさに 合わせて かく
・正の字は 1つで 5

① ひょうを ぼうグラフに かこう。

ひょう

曜日	数
月	10
火	6
水	8

ひろった 貝（こ）

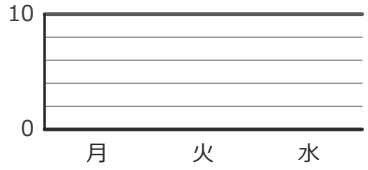

② 正正下 ひろった どんぐりを 正の字で 数えました。何こですか。

＿＿＿＿＿＿ こ

③ ひょうを ぼうグラフに かこう。

ひょう

花	数
ピンク	4
黄	6
白	10

さいた 花（本）

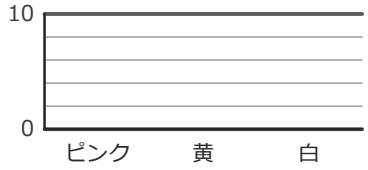

④ 正下 とんだ 回数を 正の字で 数えました。何回ですか。

＿＿＿＿＿＿ 回

⑤ ひょうを ぼうグラフに かこう。

ひょう

花	数
赤	10
ピンク	8
黄	4

さいた 花（本）

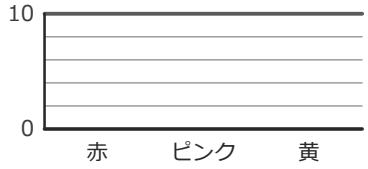

⑥ 正正丅 入った ボールを 正の字で 数えました。何こですか。

＿＿＿＿＿＿ こ

⑦ ひょうを ぼうグラフに かこう。

ひょう

魚	数
あじ	8
さば	10
いわし	4

とった 魚（ひき）

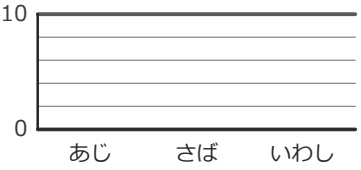

⑧ 正一 入った ボールを 正の字で 数えました。何こですか。

＿＿＿＿＿＿ こ

⑨ ひょうを ぼうグラフに かこう。

ひょう

曜日	数
月	4
火	8
水	6

読んだ 本（ページ）

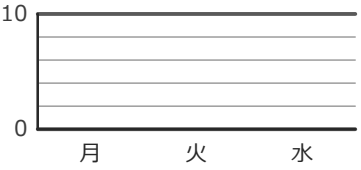

⑩ 正丅 とんだ 回数を 正の字で 数えました。何回ですか。

＿＿＿＿＿＿ 回

⑪ ひょうを ぼうグラフに かこう。

ひょう

動物	数
ねこ	8
パンダ	4
ぞう	6

すきな 動物（人）

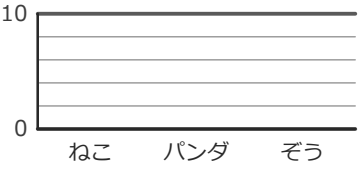

⑫ 正正丅 えらんだ 人を 正の字で 数えました。何人ですか。

＿＿＿＿＿＿ 人

いちごドリル プリント

解きおわったら よんでね
答えと次の1枚がひらきます

小3 ぼうグラフ とっくんドリル②-1【こたえ】

なまえ ＿＿＿＿＿＿＿＿

×があったら「②-2」へ。ぜんぶ〇なら つぎの そうごうテストへ

学習日 ＿＿＿＿＿＿＿＿

① ひょう→ぼうグラフ（1目もり2）

ひろった 貝（こ）

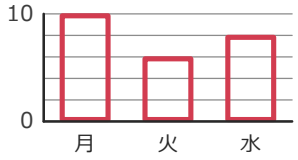

月5目もり
火3目もり
水4目もり

よくある×：数の 目もりまで かこうと する

② 正の字13

答え 13こ

よくある×：3こ

（正の字の 字の 数（3）を 答える）

③ ひょう→ぼうグラフ（1目もり2）

さいた 花（本）

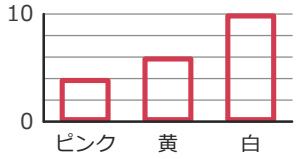

ピンク2目もり
黄3目もり
白5目もり

よくある×：ピンクを 4目もりの 高さに かく

④ 正の字8

答え 8回

よくある×：2回

（正の字の 字の 数（2）を 答える）

⑤ ひょう→ぼうグラフ（1目もり2）

さいた 花（本）



赤5目もり
ピンク4目もり
黄2目もり

よくある×：黄を 4目もりの 高さに かく

⑥ 正の字14

答え 14こ

よくある×：3こ

（正の字の 字の 数（3）を 答える）

⑦ ひょう→ぼうグラフ（1目もり2）

とった 魚（ひき）

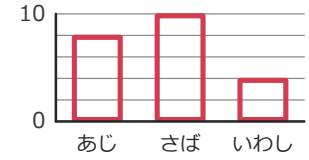

あじ4目もり
さば5目もり
いわし2目もり

よくある×：いわしを 4目もりの 高さに かく

⑧ 正の字6

答え 6こ

よくある×：2こ

（正の字の 字の 数（2）を 答える）

⑨ ひょう→ぼうグラフ（1目もり2）

読んだ 本（ページ）

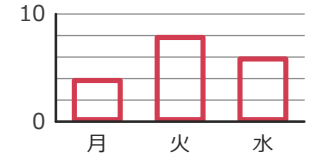

月2目もり
火4目もり
水3目もり

よくある×：月を 4目もりの 高さに かく

⑩ 正の字7

答え 7回

よくある×：2回

（正の字の 字の 数（2）を 答える）

⑪ ひょう→ぼうグラフ（1目もり2）

すきな 動物（人）



ねこ4目もり
パンダ2目もり
ぞう3目もり

よくある×：パンダを 4目もりの 高さに かく

⑫ 正の字12

答え 12人

よくある×：3人

（正の字の 字の 数（3）を 答える）

丸つけ：ぼうは、先が 正しい 目もりの 線の 上なら〇（となりの 線なら×）。
×が多い型は、練習プリント③④（ときかたつき）で ときかたを 見直す。

いちごドリル プリント