小3 ぼうグラフ とっくんドリル②-1

ぼうを かく・正の字・その他（12問）

なまえ ＿＿＿＿＿＿＿＿

学習日 ＿＿＿＿＿＿＿＿

・ぼうは 1目もりの 大きさに 合わせて かく
・正の字は 1つで 5

① ひょうを ぼうグラフに かこう。

ひょう

曜日	数
月	10
火	6
水	8

ひろった 貝（こ）

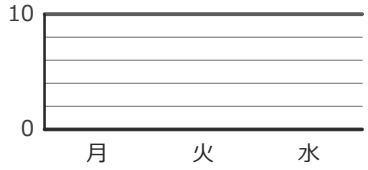

② 正正下 ひろった どんぐりを 正の字で 数えました。何こですか。

＿＿＿＿＿＿ こ

③ ひょうを ぼうグラフに かこう。

ひょう

花	数
ピンク	4
黄	6
白	10

さいた 花（本）

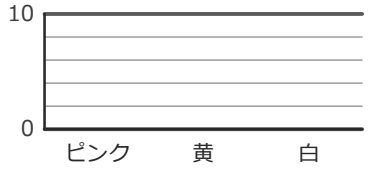

④ 正下 とんだ 回数を 正の字で 数えました。何回ですか。

＿＿＿＿＿＿ 回

⑤ ひょうを ぼうグラフに かこう。

ひょう

花	数
赤	10
ピンク	8
黄	4

さいた 花（本）

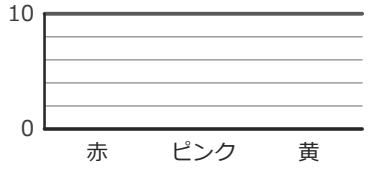

⑥ 正正丅 入った ボールを 正の字で 数えました。何こですか。

＿＿＿＿＿＿ こ

⑦ ひょうを ぼうグラフに かこう。

ひょう

魚	数
あじ	8
さば	10
いわし	4

とった 魚（ひき）

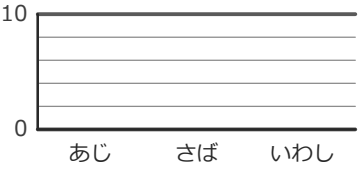

⑧ 正一 入った ボールを 正の字で 数えました。何こですか。

＿＿＿＿＿＿ こ

⑨ ひょうを ぼうグラフに かこう。

ひょう

曜日	数
月	4
火	8
水	6

読んだ 本（ページ）

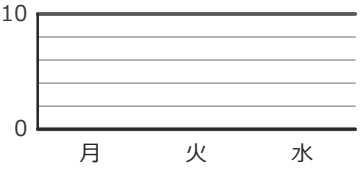

⑩ 正丅 とんだ 回数を 正の字で 数えました。何回ですか。

＿＿＿＿＿＿ 回

⑪ ひょうを ぼうグラフに かこう。

ひょう

動物	数
ねこ	8
パンダ	4
ぞう	6

すきな 動物（人）

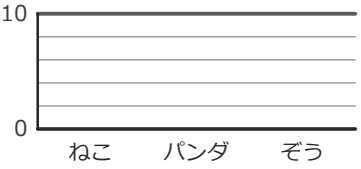

⑫ 正正丅 えらんだ 人を 正の字で 数えました。何人ですか。

＿＿＿＿＿＿ 人

いちごドリル プリント

解きおわったら よんでね
答えと次の1枚がひらきます