小3 ぼうグラフ とっくんドリル①-5

1目もり・たんい・よこ向き・じゅんい（12問）

なまえ ＿＿＿＿＿＿＿＿

学習日 ＿＿＿＿＿＿＿＿

・グラフの 題と 1目もりの 大きさを 先に 見る
・答えは 下線に 書く

①

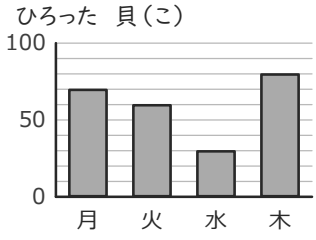

木よう日の 数は
いくつ？

＿＿＿＿＿＿
（たんいも 書こう）

②

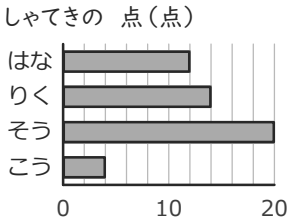

りくは
何点ですか。

＿＿＿＿＿＿ 点

③

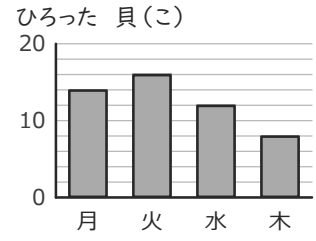

水よう日の 数は
いくつ？

＿＿＿＿＿＿
（たんいも 書こう）

④

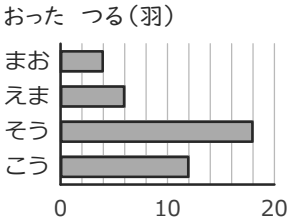

まおは
何羽ですか。

＿＿＿＿＿＿ 羽

⑤

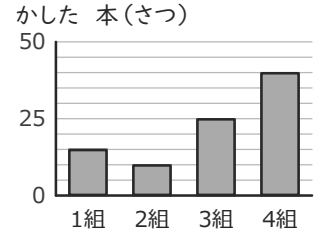

4組の 数は
いくつ？

＿＿＿＿＿＿
（たんいも 書こう）

⑥

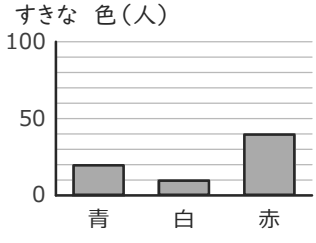

多い 方から
2ばんめは
どれですか。

＿＿＿＿＿＿

⑦

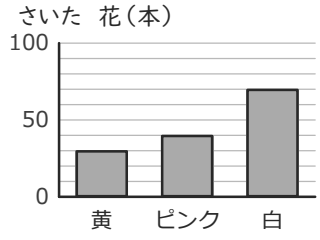

ピンクの 数は
いくつ？

＿＿＿＿＿＿
（たんいも 書こう）

⑧

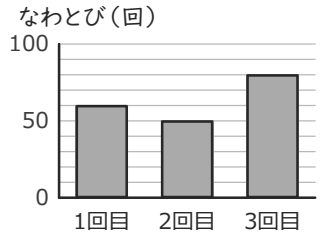

多い 方から
2ばんめは
どれですか。

＿＿＿＿＿＿

⑨

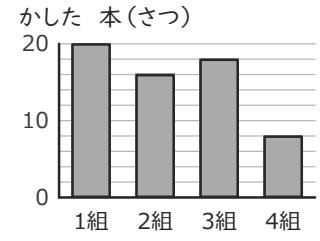

2組の 数は
いくつ？

＿＿＿＿＿＿
（たんいも 書こう）

⑩

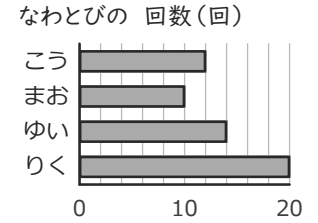

まおは
何回ですか。

＿＿＿＿＿＿ 回

⑪

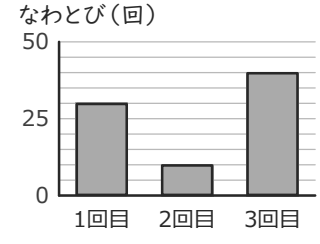

3回目の 数は
いくつ？

＿＿＿＿＿＿
（たんいも 書こう）

⑫

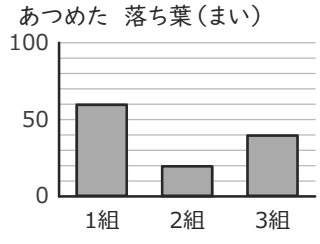

多い 方から
2ばんめは
どれですか。

＿＿＿＿＿＿

小3 ぼうグラフ とっくんドリル①-5【こたえ】

なまえ ＿＿＿＿＿＿＿＿

×は 練習プリント→「①-1」へ。ぜんぶ〇なら つぎの そうごうテストへ

学習日 ＿＿＿＿＿＿＿＿

1 **木よう日の数（たんい）**

答え　80こ

よくある×：8

（目もりの 数を 答え、題の（ ）の たんいを 見ない）

2 **よこ向きのりく**

答え　14点

よくある×：20点

（となりの 行（そう）の ぼうを 読む）

3 **水よう日の数（たんい）**

答え　12こ

よくある×：6

（目もりの 数を 答え、題の（ ）の たんいを 見ない）

4 **よこ向きのまお**

答え　4羽

よくある×：6羽

（となりの 行（えま）の ぼうを 読む）

5 **4組の数（たんい）**

答え　40さつ

よくある×：8

（目もりの 数を 答え、題の（ ）の たんいを 見ない）

6 **多い方から2ばんめ**

答え　青

よくある×：白

（左から 2ばんめを 答える）

7 **ピンクの数（たんい）**

答え　40本

よくある×：4

（目もりの 数を 答え、題の（ ）の たんいを 見ない）

8 **多い方から2ばんめ**

答え　1回目

よくある×：2回目

（左から 2ばんめを 答える）

9 **2組の数（たんい）**

答え　16さつ

よくある×：8

（目もりの 数を 答え、題の（ ）の たんいを 見ない）

10 **よこ向きのまお**

答え　10回

よくある×：14回

（となりの 行（ゆい）の ぼうを 読む）

11 **3回目の数（たんい）**

答え　40回

よくある×：8

（目もりの 数を 答え、題の（ ）の たんいを 見ない）

12 **多い方から2ばんめ**

答え　3組

よくある×：2組

（左から 2ばんめを 答える）

丸つけ：たんいを 書く 問題は、数と たんいの 両方で〇。
×が多い型は、練習プリント①②（ときかたつき）で ときかたを 見直す。