# 小3 ぼうグラフ とっくんドリル①-5

1目もり・たんい・よこ向き・じゅんい（12問）

なまえ ＿＿＿＿＿＿＿＿

学習日 ＿＿＿＿＿＿＿＿

**・グラフの 題と 1目もりの 大きさを 先に 見る**
**・答えは 下線に 書く**

**①**

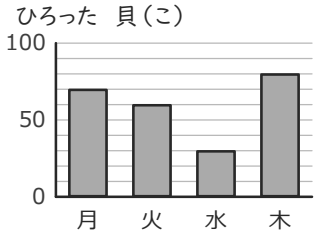


木よう日の 数は
いくつ？

＿＿＿＿＿＿
（たんいも 書こう）

**②**

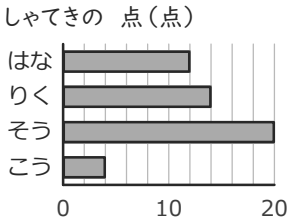


りくは
何点ですか。

＿＿＿＿＿＿ 点

**③**

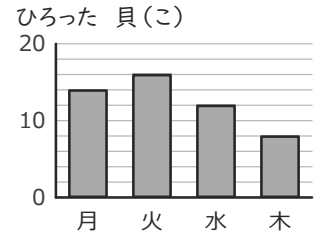


水よう日の 数は
いくつ？

＿＿＿＿＿＿
（たんいも 書こう）

**④**

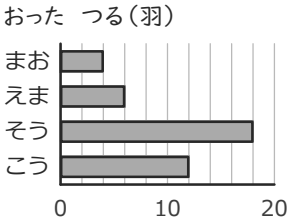


まおは
何羽ですか。

＿＿＿＿＿＿ 羽

**⑤**

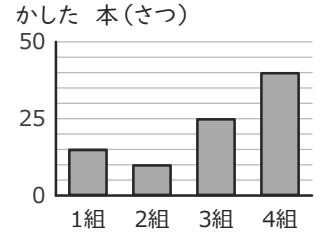


4組の 数は
いくつ？

＿＿＿＿＿＿
（たんいも 書こう）

**⑥**

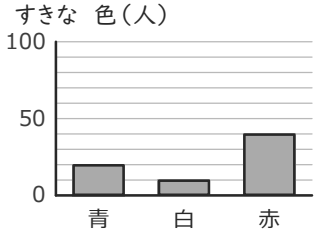


多い 方から
2ばんめは
どれですか。

＿＿＿＿＿＿

**⑦**

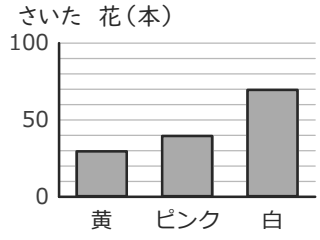


ピンクの 数は
いくつ？

＿＿＿＿＿＿
（たんいも 書こう）

**⑧**

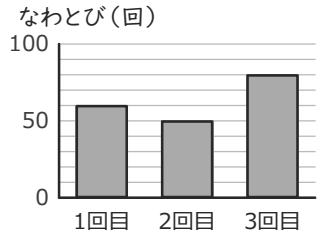


多い 方から
2ばんめは
どれですか。

＿＿＿＿＿＿

**⑨**

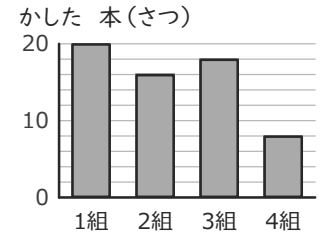


2組の 数は
いくつ？

＿＿＿＿＿＿
（たんいも 書こう）

**⑩**

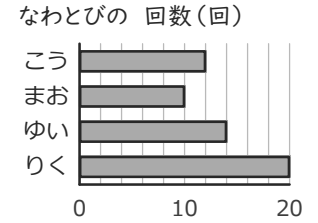


まおは
何回ですか。

＿＿＿＿＿＿ 回

**⑪**

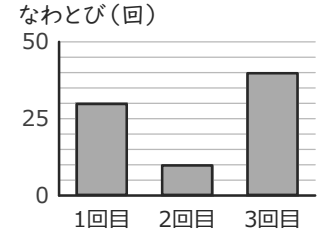


3回目の 数は
いくつ？

＿＿＿＿＿＿
（たんいも 書こう）

**⑫**

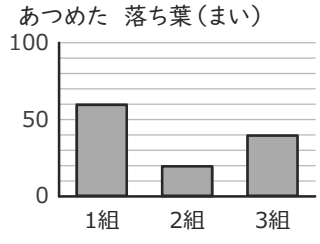


多い 方から
2ばんめは
どれですか。

＿＿＿＿＿＿