小3 ぼうグラフ とっくんドリル①-4

1目もり・たんい・よこ向き・じゅんい（12問）

なまえ ＿＿＿＿＿＿＿＿

学習日 ＿＿＿＿＿＿＿＿

・グラフの 題と 1目もりの 大きさを 先に 見る
・答えは 下線に 書く

①

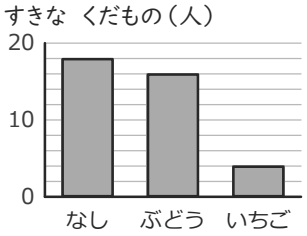

ぶどうは
何人ですか。

＿＿＿＿＿＿ 人

②

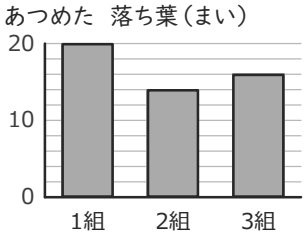

少ない 方から
2ばんめは
どれですか。

＿＿＿＿＿＿

③

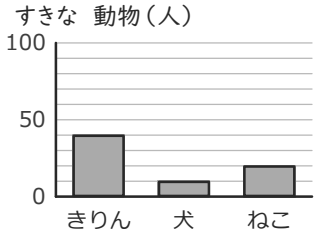

きりんは
何人ですか。

＿＿＿＿＿＿ 人

④

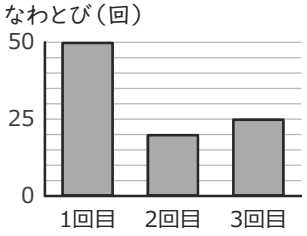

いちばん
少ないのは
どれですか。

＿＿＿＿＿＿

⑤

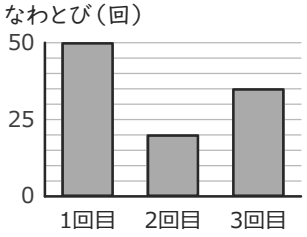

2回目は
何回ですか。

＿＿＿＿＿＿ 回

⑥

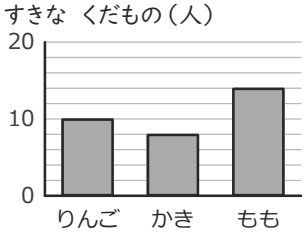

少ない 方から
2ばんめは
どれですか。

＿＿＿＿＿＿

⑦

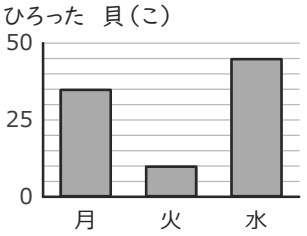

このグラフの
1目もりは
いくつですか。

＿＿＿＿＿＿

⑧

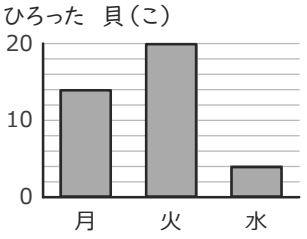

少ない 方から
2ばんめは
どれですか。

＿＿＿＿＿＿

⑨

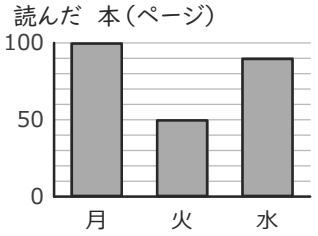

このグラフの
1目もりは
いくつですか。

＿＿＿＿＿＿

⑩

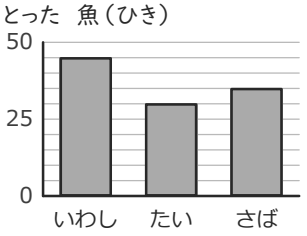

いちばん
少ないのは
どれですか。

＿＿＿＿＿＿

⑪

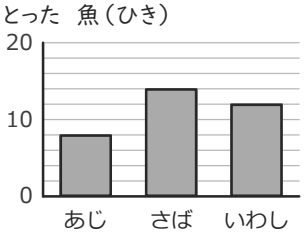

このグラフの
1目もりは
いくつですか。

＿＿＿＿＿＿

⑫

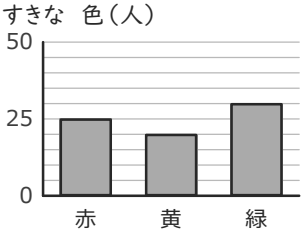

いちばん
少ないのは
どれですか。

＿＿＿＿＿＿

いちごドリル プリント

解きおわったら よんでね
答えと次の1枚がひらきます

小3 ぼうグラフ とっくんドリル①-4【こたえ】

なまえ ＿＿＿＿＿＿＿＿

×があったら「①-5」へ。ぜんぶ〇なら つぎの そうごうテストへ

学習日 ＿＿＿＿＿＿＿＿

① ぶどうの数（1目もり2）

答え 16人

よくある×：8人

（1目もりを 1と して 目もりの 数（8）を 答える）

② 少ない方から2ばんめ

答え 3組

よくある×：2組

（左から 2ばんめを 答える）

③ きりんの数（1目もり10）

答え 40人

よくある×：4人

（1目もりを 1と して 目もりの 数（4）を 答える）

④ いちばん少ない

答え 2回目

よくある×：1回目

（左はしの ぼうを 答える）

⑤ 2回目の数（1目もり5）

答え 20回

よくある×：4回

（1目もりを 1と して 目もりの 数（4）を 答える）

⑥ 少ない方から2ばんめ

答え りんご

よくある×：かき

（左から 2ばんめを 答える）

⑦ 1目もりの大きさ（5）

答え 5

よくある×：1

（数字の あいだ（5目もり）を 見ずに 1目もりを 1と する）

⑧ 少ない方から2ばんめ

答え 月

よくある×：火

（左から 2ばんめを 答える）

⑨ 1目もりの大きさ（10）

答え 10

よくある×：1

（数字の あいだ（5目もり）を 見ずに 1目もりを 1と する）

⑩ いちばん少ない

答え たい

よくある×：いわし

（左はしの ぼうを 答える）

⑪ 1目もりの大きさ（2）

答え 2

よくある×：1

（数字の あいだ（5目もり）を 見ずに 1目もりを 1と する）

⑫ いちばん少ない

答え 黄

よくある×：赤

（左はしの ぼうを 答える）

×が多い型は、練習プリント①②（ときかたつき）で ときかたを 見直す。