小3 ぼうグラフ とっくんドリル①-4

1目もり・たんい・よこ向き・じゅんい（12問）

なまえ ＿＿＿＿＿＿＿＿

学習日 ＿＿＿＿＿＿＿＿

・グラフの 題と 1目もりの 大きさを 先に 見る
・答えは 下線に 書く

①

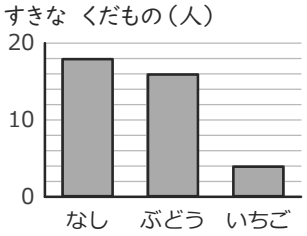

ぶどうは
何人ですか。

＿＿＿＿＿＿ 人

②

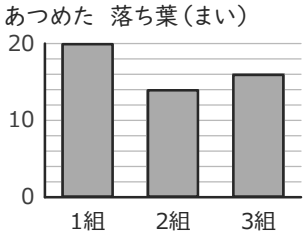

少ない 方から
2ばんめは
どれですか。

＿＿＿＿＿＿

③

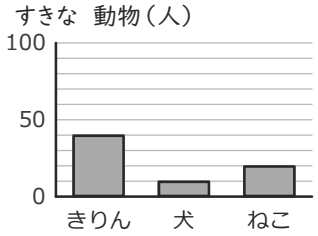

きりんは
何人ですか。

＿＿＿＿＿＿ 人

④

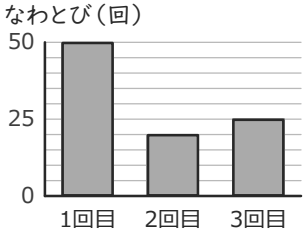

いちばん
少ないのは
どれですか。

＿＿＿＿＿＿

⑤

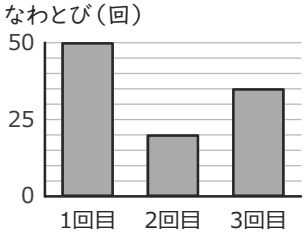

2回目は
何回ですか。

＿＿＿＿＿＿ 回

⑥

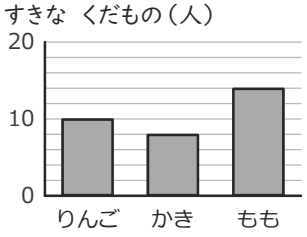

少ない 方から
2ばんめは
どれですか。

＿＿＿＿＿＿

⑦

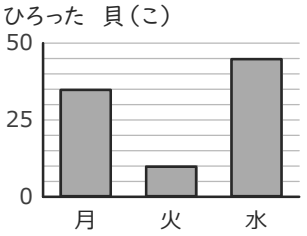

このグラフの
1目もりは
いくつですか。

＿＿＿＿＿＿

⑧

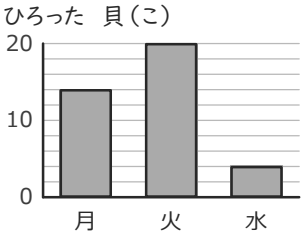

少ない 方から
2ばんめは
どれですか。

＿＿＿＿＿＿

⑨

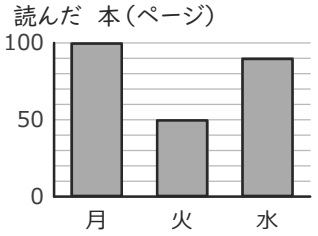

このグラフの
1目もりは
いくつですか。

＿＿＿＿＿＿

⑩

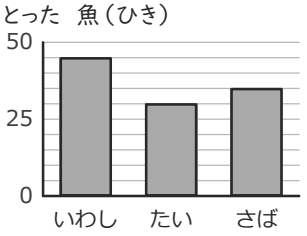

いちばん
少ないのは
どれですか。

＿＿＿＿＿＿

⑪

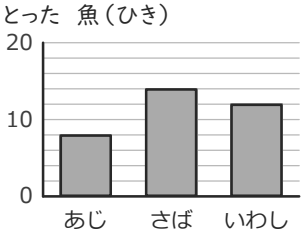

このグラフの
1目もりは
いくつですか。

＿＿＿＿＿＿

⑫

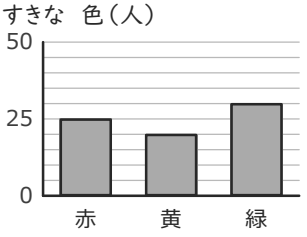

いちばん
少ないのは
どれですか。

＿＿＿＿＿＿

いちごドリル プリント

解きおわったら よんでね
答えと次の1枚がひらきます