小3 ぼうグラフ とっくんドリル①-3

1目もり・たんい・よこ向き・じゅんい（12問）

なまえ ＿＿＿＿＿＿＿＿

学習日 ＿＿＿＿＿＿＿＿

・グラフの 題と 1目もりの 大きさを 先に 見る
・答えは 下線に 書く

①

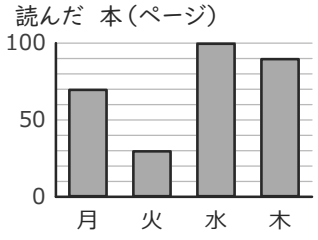

水よう日の 数は いくつ？

＿＿＿＿＿＿

（たんいも 書こう）

②

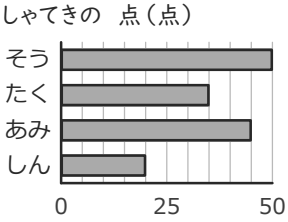

たくは 何点ですか。

＿＿＿＿＿＿ 点

③

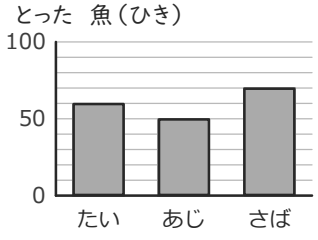

たいの 数は いくつ？

＿＿＿＿＿＿

（たんいも 書こう）

④

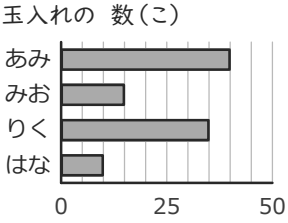

みおは 何こですか。

＿＿＿＿＿＿ こ

⑤

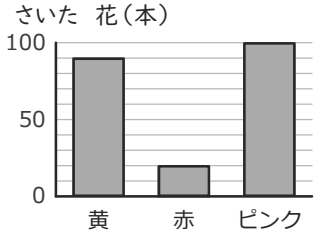

黄は 何本ですか。

＿＿＿＿＿＿ 本

⑥

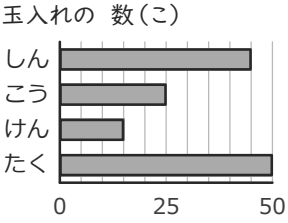

しんは 何こですか。

＿＿＿＿＿＿ こ

⑦

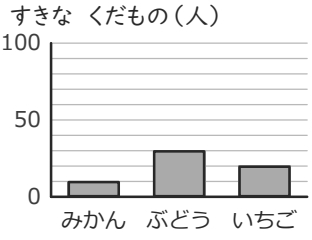

みかんは 何人ですか。

＿＿＿＿＿＿ 人

⑧

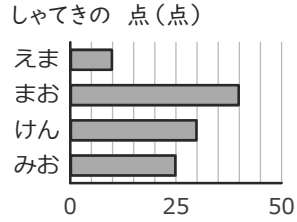

えまは 何点ですか。

＿＿＿＿＿＿ 点

⑨

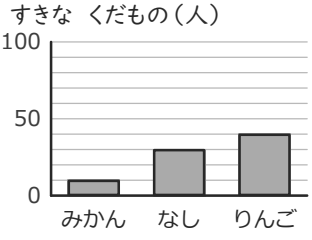

りんごは 何人ですか。

＿＿＿＿＿＿ 人

⑩

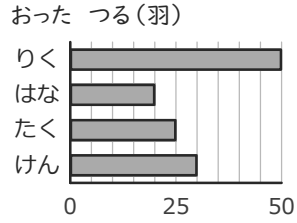

はなは 何羽ですか。

＿＿＿＿＿＿ 羽

⑪

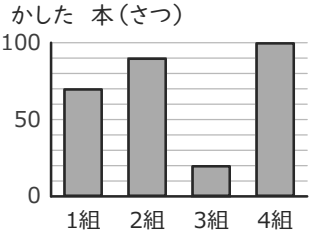

4組の 数は いくつ？

＿＿＿＿＿＿

（たんいも 書こう）

⑫

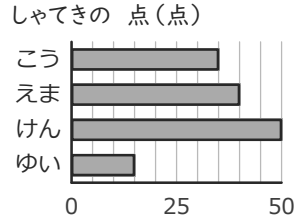

えまは 何点ですか。

＿＿＿＿＿＿ 点

小3 ぼうグラフ とっくんドリル①-3【こたえ】

なまえ ＿＿＿＿＿＿＿＿

×があったら「①-4」へ。ぜんぶ〇なら つぎの そうごうテストへ

学習日 ＿＿＿＿＿＿＿＿

① 水よう日の数（たんい）

答え 100ページ

よくある×：10
（目もりの 数を 答え、題の（ ）の たんいを 見ない）

② よこ向きのたく

答え 35点

よくある×：45点
（となりの 行（あみ）の ぼうを 読む）

③ たいの数（たんい）

答え 60ひき

よくある×：6
（目もりの 数を 答え、題の（ ）の たんいを 見ない）

④ よこ向きのみお

答え 15こ

よくある×：35こ
（となりの 行（りく）の ぼうを 読む）

⑤ 黄の数（1目もり10）

答え 90本

よくある×：9本
（1目もりを 1と して 目もりの 数（9）を 答える）

⑥ よこ向きのしん

答え 45こ

よくある×：25こ
（となりの 行（こう）の ぼうを 読む）

⑦ みかんの数（1目もり10）

答え 10人

よくある×：1人
（1目もりを 1と して 目もりの 数（1）を 答える）

⑧ よこ向きのえま

答え 10点

よくある×：40点
（となりの 行（まお）の ぼうを 読む）

⑨ りんごの数（1目もり10）

答え 40人

よくある×：4人
（1目もりを 1と して 目もりの 数（4）を 答える）

⑩ よこ向きのはな

答え 20羽

よくある×：25羽
（となりの 行（たく）の ぼうを 読む）

⑪ 4組の数（たんい）

答え 100さつ

よくある×：10
（目もりの 数を 答え、題の（ ）の たんいを 見ない）

⑫ よこ向きのえま

答え 40点

よくある×：50点
（となりの 行（けん）の ぼうを 読む）

丸つけ：たんいを 書く 問題は、数と たんいの 両方で〇。
×が多い型は、練習プリント①②（ときかたつき）で ときかたを 見直す。