小3 ぼうグラフ とっくんドリル①-3

1目もり・たんい・よこ向き・じゅんい（12問）

なまえ ＿＿＿＿＿＿＿＿

学習日 ＿＿＿＿＿＿＿＿

・グラフの 題と 1目もりの 大きさを 先に 見る
・答えは 下線に 書く

①

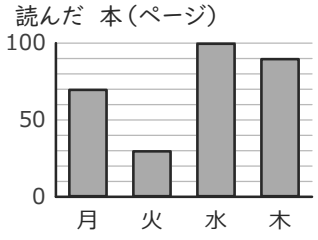

水よう日の 数は いくつ？

＿＿＿＿＿＿

（たんいも 書こう）

②

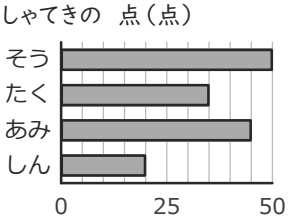

たくは 何点ですか。

＿＿＿＿＿＿ 点

③

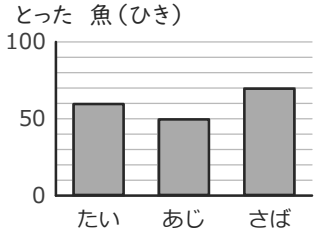

たいの 数は いくつ？

＿＿＿＿＿＿

（たんいも 書こう）

④

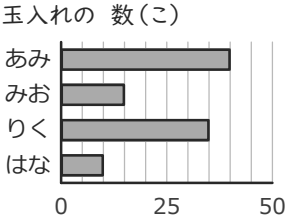

みおは 何こですか。

＿＿＿＿＿＿ こ

⑤

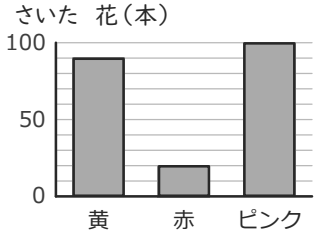

黄は 何本ですか。

＿＿＿＿＿＿ 本

⑥

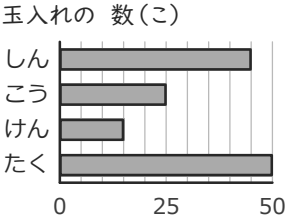

しんは 何こですか。

＿＿＿＿＿＿ こ

⑦

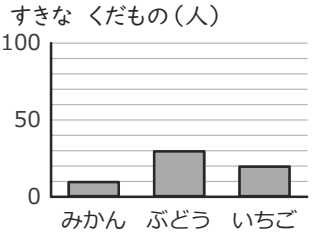

みかんは 何人ですか。

＿＿＿＿＿＿ 人

⑧

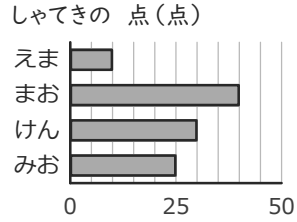

えまは 何点ですか。

＿＿＿＿＿＿ 点

⑨

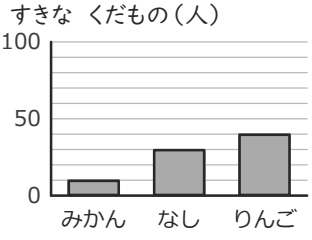

りんごは 何人ですか。

＿＿＿＿＿＿ 人

⑩

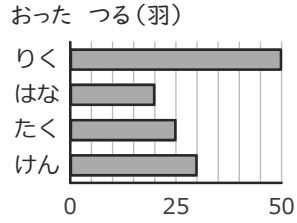

はなは 何羽ですか。

＿＿＿＿＿＿ 羽

⑪

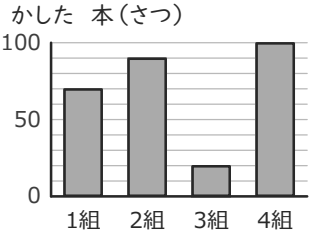

4組の 数は いくつ？

＿＿＿＿＿＿

（たんいも 書こう）

⑫

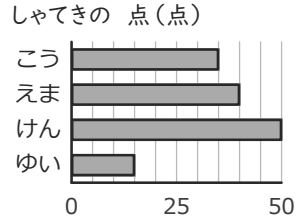

えまは 何点ですか。

＿＿＿＿＿＿ 点