小3 ぼうグラフ とっくんドリル①-2

1目もり・たんい・よこ向き・じゅんい（12問）

なまえ ＿＿＿＿＿＿＿＿

学習日 ＿＿＿＿＿＿＿＿

・グラフの 題と 1目もりの 大きさを 先に 見る
・答えは 下線に 書く

①

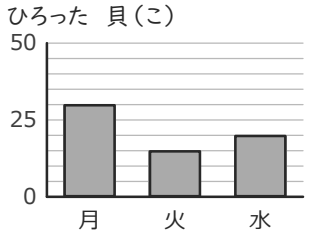

月よう日は
何こですか。

＿＿＿＿＿＿ こ

②

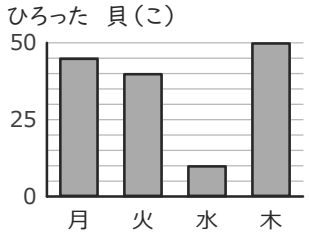

多い 方から
3ばんめは
どれですか。

＿＿＿＿＿＿

③

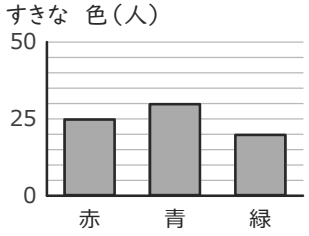

赤は
何人ですか。

＿＿＿＿＿＿ 人

④

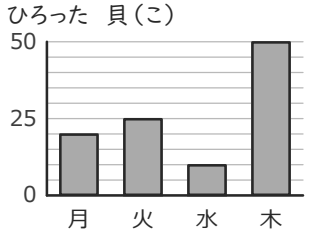

多い 方から
3ばんめは
どれですか。

＿＿＿＿＿＿

⑤

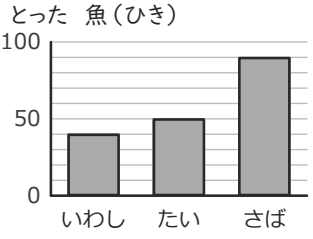

このグラフの
1目もりは
いくつですか。

＿＿＿＿＿＿

⑥

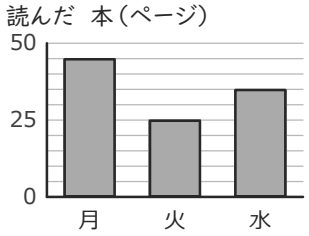

多い 方から
2ばんめは
どれですか。

＿＿＿＿＿＿

⑦

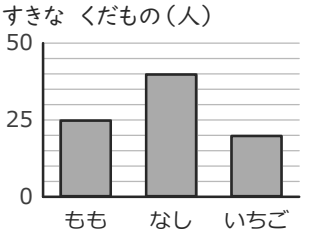

なしは
何人ですか。

＿＿＿＿＿＿ 人

⑧

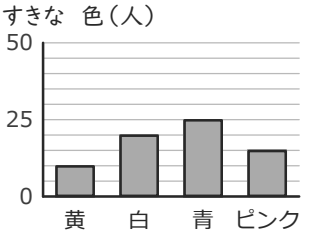

多い 方から
3ばんめは
どれですか。

＿＿＿＿＿＿

⑨

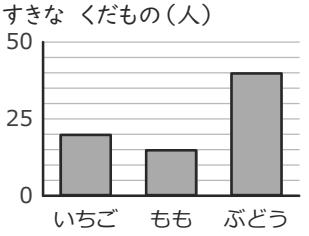

ももは
何人ですか。

＿＿＿＿＿＿ 人

⑩

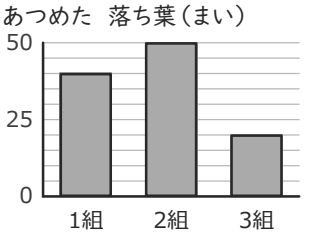

多い 方から
2ばんめは
どれですか。

＿＿＿＿＿＿

⑪

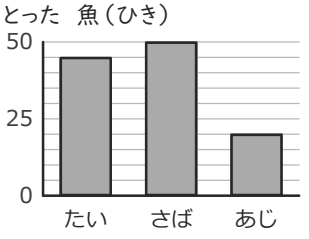

このグラフの
1目もりは
いくつですか。

＿＿＿＿＿＿

⑫

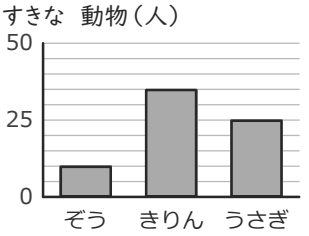

多い 方から
2ばんめは
どれですか。

＿＿＿＿＿＿

いちごドリル プリント

解きおわったら よんでね
答えと次の1枚がひらきます

小3 ぼうグラフ とっくんドリル①-2【こたえ】

なまえ ＿＿＿＿＿＿＿＿

×があったら「①-3」へ。ぜんぶ〇なら つぎの そうごうテストへ

学習日 ＿＿＿＿＿＿＿＿

① 月よう日の数（1目もり5）

答え　30こ

よくある×：6こ

（1目もりを 1と して 目もりの 数（6）を 答える）

② 多い方から3ばんめ

答え　火

よくある×：水

（左から 3ばんめを 答える）

③ 赤の数（1目もり5）

答え　25人

よくある×：5人

（1目もりを 1と して 目もりの 数（5）を 答える）

④ 多い方から3ばんめ

答え　月

よくある×：水

（左から 3ばんめを 答える）

⑤ 1目もりの大きさ（10）

答え　10

よくある×：1

（数字の あいだ（5目もり）を 見ずに 1目もりを 1と する）

⑥ 多い方から2ばんめ

答え　水

よくある×：火

（左から 2ばんめを 答える）

⑦ なしの数（1目もり5）

答え　40人

よくある×：8人

（1目もりを 1と して 目もりの 数（8）を 答える）

⑧ 多い方から3ばんめ

答え　ピンク

よくある×：青

（左から 3ばんめを 答える）

⑨ ももの数（1目もり5）

答え　15人

よくある×：3人

（1目もりを 1と して 目もりの 数（3）を 答える）

⑩ 多い方から2ばんめ

答え　1組

よくある×：2組

（左から 2ばんめを 答える）

⑪ 1目もりの大きさ（5）

答え　5

よくある×：1

（数字の あいだ（5目もり）を 見ずに 1目もりを 1と する）

⑫ 多い方から2ばんめ

答え　うさぎ

よくある×：きりん

（左から 2ばんめを 答える）

×が多い型は、練習プリント①②（ときかたつき）で ときかたを 見直す。