小3 ぼうグラフ とっくんドリル①-2

1目もり・たんい・よこ向き・じゅんい（12問）

なまえ ＿＿＿＿＿＿＿＿

学習日 ＿＿＿＿＿＿＿＿

・グラフの 題と 1目もりの 大きさを 先に 見る
・答えは 下線に 書く

①

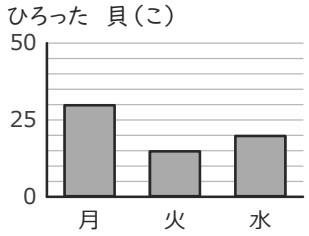

月よう日は
何こですか。

＿＿＿＿＿＿ こ

②

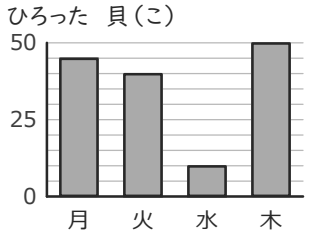

多い 方から
3ばんめは
どれですか。

＿＿＿＿＿＿

③

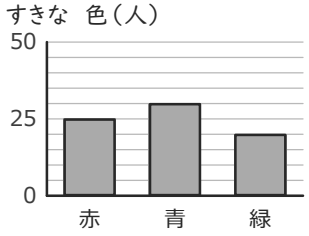

赤は
何人ですか。

＿＿＿＿＿＿ 人

④

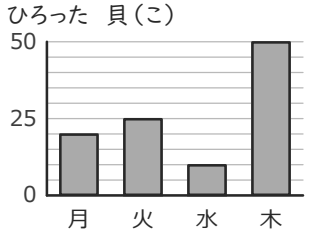

多い 方から
3ばんめは
どれですか。

＿＿＿＿＿＿

⑤

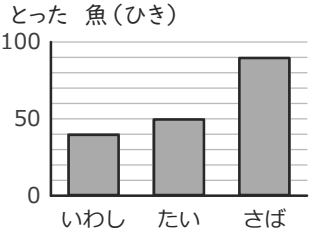

このグラフの
1目もりは
いくつですか。

＿＿＿＿＿＿

⑥

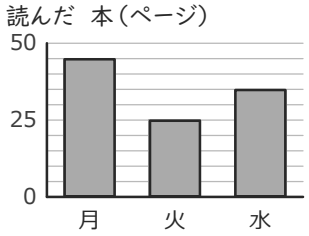

多い 方から
2ばんめは
どれですか。

＿＿＿＿＿＿

⑦

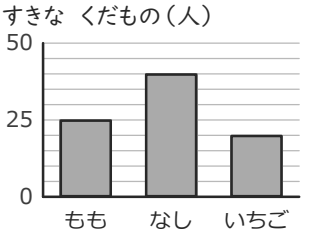

なしは
何人ですか。

＿＿＿＿＿＿ 人

⑧

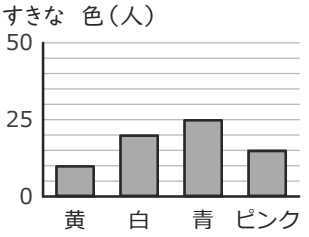

多い 方から
3ばんめは
どれですか。

＿＿＿＿＿＿

⑨

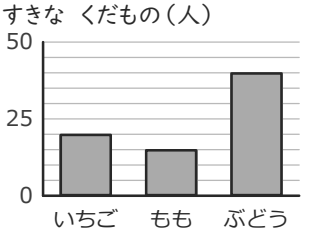

ももは
何人ですか。

＿＿＿＿＿＿ 人

⑩

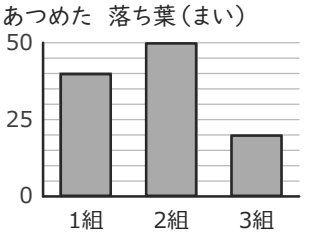

多い 方から
2ばんめは
どれですか。

＿＿＿＿＿＿

⑪

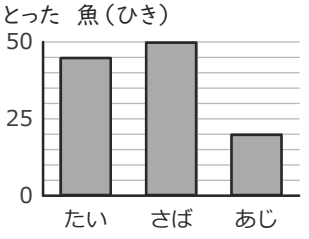

このグラフの
1目もりは
いくつですか。

＿＿＿＿＿＿

⑫

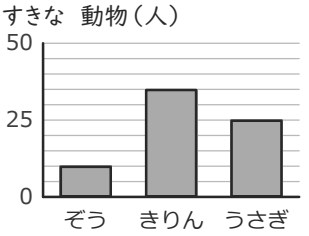

多い 方から
2ばんめは
どれですか。

＿＿＿＿＿＿

いちごドリル プリント

解きおわったら よんでね
答えと次の1枚がひらきます