小3 ぼうグラフ とっくんドリル①-1

1目もり・たんい・よこ向き・じゅんい（12問）

なまえ ＿＿＿＿＿＿＿＿

学習日 ＿＿＿＿＿＿＿＿

・グラフの 題と 1目もりの 大きさを 先に 見る
・答えは 下線に 書く

①

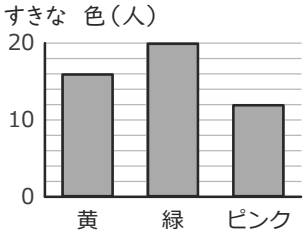

ピンクは
何人ですか。

＿＿＿＿＿＿ 人

②

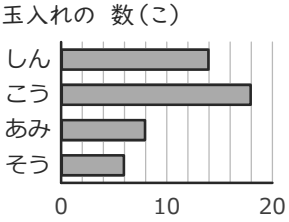

こうは
何こですか。

＿＿＿＿＿＿ こ

③

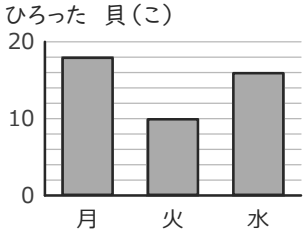

水よう日は
何こですか。

＿＿＿＿＿＿ こ

④

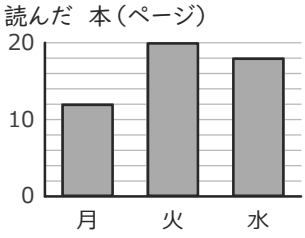

多い 方から
2ばんめは
どれですか。

＿＿＿＿＿＿

⑤

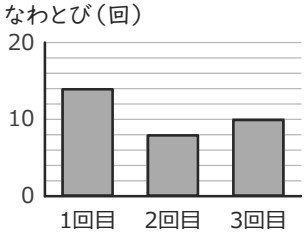

1回目は
何回ですか。

＿＿＿＿＿＿ 回

⑥

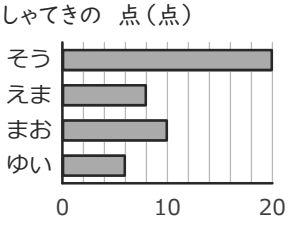

そうは
何点ですか。

＿＿＿＿＿＿ 点

⑦

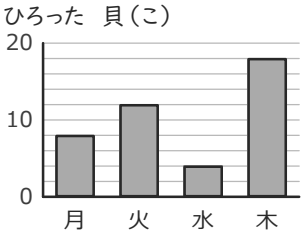

木よう日の 数は
いくつ？

＿＿＿＿＿＿

（たんいも 書こう）

⑧

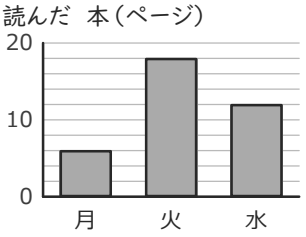

多い 方から
2ばんめは
どれですか。

＿＿＿＿＿＿

⑨

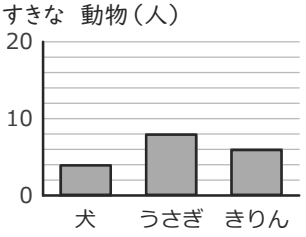

きりんは
何人ですか。

＿＿＿＿＿＿ 人

⑩

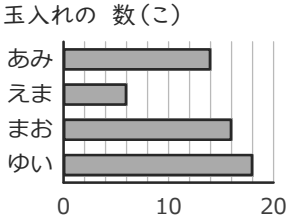

まおは
何こですか。

＿＿＿＿＿＿ こ

⑪

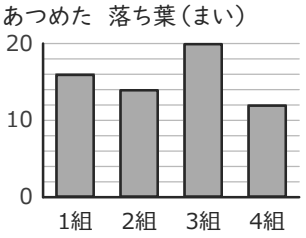

2組の 数は
いくつ？

＿＿＿＿＿＿

（たんいも 書こう）

⑫

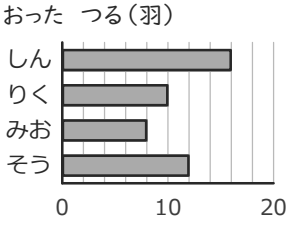

みおは
何羽ですか。

＿＿＿＿＿＿ 羽

小3 ぼうグラフ とっくんドリル①-1【こたえ】

なまえ ＿＿＿＿＿＿＿＿

×があったら「①-2」へ。ぜんぶ〇なら つぎの そうごうテストへ

学習日 ＿＿＿＿＿＿＿＿

① ピンクの数（1目もり2）

答え 12人

よくある×：6人

（1目もりを 1と して 目もりの 数（6）を 答える）

② よこ向きのこう

答え 18こ

よくある×：8こ

（となりの 行（あみ）の ぼうを 読む）

③ 水よう日の数（1目もり2）

答え 16こ

よくある×：8こ

（1目もりを 1と して 目もりの 数（8）を 答える）

④ 多い方から2ばんめ

答え 水

よくある×：火

（左から 2ばんめを 答える）

⑤ 1回目の数（1目もり2）

答え 14回

よくある×：7回

（1目もりを 1と して 目もりの 数（7）を 答える）

⑥ よこ向きのそう

答え 20点

よくある×：8点

（となりの 行（えま）の ぼうを 読む）

⑦ 木よう日の数（たんい）

答え 18こ

よくある×：9

（目もりの 数を 答え、題の（ ）の たんいを 見ない）

⑧ 多い方から2ばんめ

答え 水

よくある×：火

（左から 2ばんめを 答える）

⑨ きりんの数（1目もり2）

答え 6人

よくある×：3人

（1目もりを 1と して 目もりの 数（3）を 答える）

⑩ よこ向きのまお

答え 16こ

よくある×：18こ

（となりの 行（ゆい）の ぼうを 読む）

⑪ 2組の数（たんい）

答え 14まい

よくある×：7

（目もりの 数を 答え、題の（ ）の たんいを 見ない）

⑫ よこ向きのみお

答え 8羽

よくある×：12羽

（となりの 行（そう）の ぼうを 読む）

丸つけ：たんいを 書く 問題は、数と たんいの 両方で〇。
×が多い型は、練習プリント①②（ときかたつき）で ときかたを 見直す。