小3 ぼうグラフ とっくんドリル①-1

1目もり・たんい・よこ向き・じゅんい（12問）

なまえ ＿＿＿＿＿＿＿＿

学習日 ＿＿＿＿＿＿＿＿

・グラフの 題と 1目もりの 大きさを 先に 見る
・答えは 下線に 書く

①

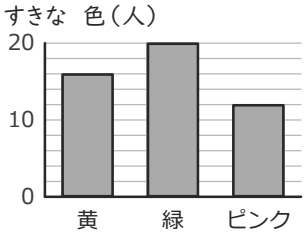

ピンクは
何人ですか。

＿＿＿＿＿＿ 人

②

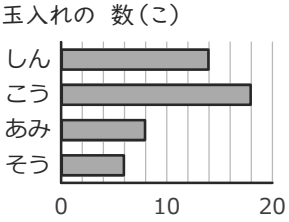

こうは
何こですか。

＿＿＿＿＿＿ こ

③

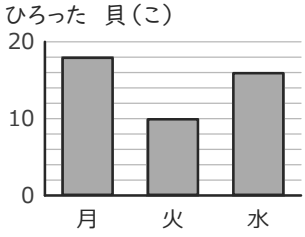

水よう日は
何こですか。

＿＿＿＿＿＿ こ

④

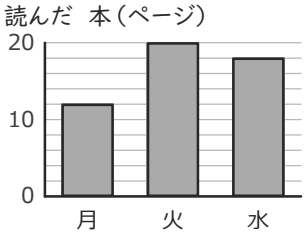

多い 方から
2ばんめは
どれですか。

＿＿＿＿＿＿

⑤

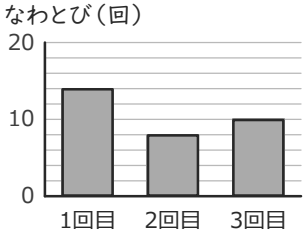

1回目は
何回ですか。

＿＿＿＿＿＿ 回

⑥

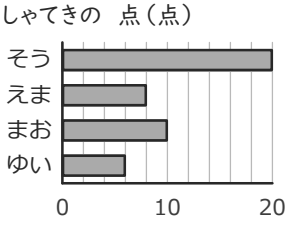

そうは
何点ですか。

＿＿＿＿＿＿ 点

⑦

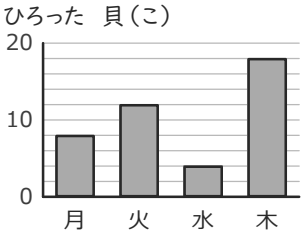

木よう日の 数は
いくつ？

＿＿＿＿＿＿

（たんいも 書こう）

⑧

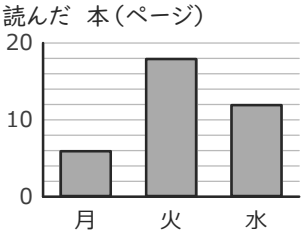

多い 方から
2ばんめは
どれですか。

＿＿＿＿＿＿

⑨

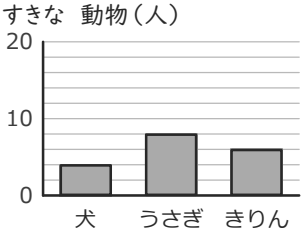

きりんは
何人ですか。

＿＿＿＿＿＿ 人

⑩

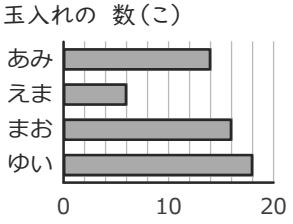

まおは
何こですか。

＿＿＿＿＿＿ こ

⑪

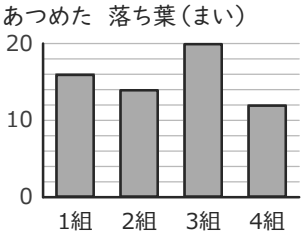

2組の 数は
いくつ？

＿＿＿＿＿＿

（たんいも 書こう）

⑫

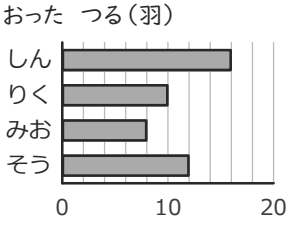

みおは
何羽ですか。

＿＿＿＿＿＿ 羽