小3 ぼうグラフ そうごうテスト（その1）

つまずきを6つ、2問ずつ（100点）

なまえ ＿＿＿＿＿＿＿＿

学習日 ＿＿＿＿＿＿＿＿

答えは 下線に 書く（ぼうグラフの 問題は グラフの 線に 合わせて ぼうを かく）

① 8点

すきな くだもの（人）

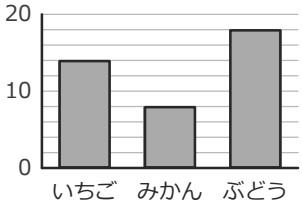

ぶどうは
何人ですか。

＿＿＿＿＿＿ 人

② 8点

正 正 下

とんだ 回数を
正の字で 数えました。
何回ですか。

＿＿＿＿＿＿ 回

③ 8点

ひょうを ぼうグラフに かこう。

ひょう

すきな 色	数
赤	8
青	4
黄	10

すきな 色（人）

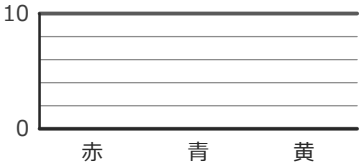

④ 8点

すきな あそび（人）

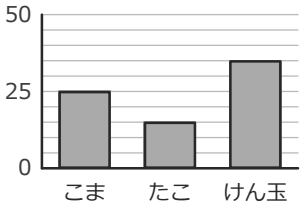

多い 方から
2ばんめは
どれですか。

＿＿＿＿＿＿

⑤ 8点

犬が すきな 人は、1組は
2組より 何人 多いですか。

1組（人）

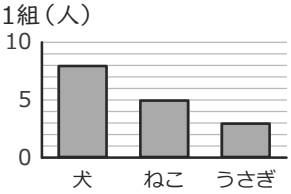

2組（人）

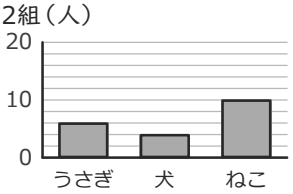

＿＿＿＿＿＿ 人

⑥ 8点

1組

なまえ	人数
りんご	5
みかん	8
ぶどう	3

2組

なまえ	人数
みかん	7
ぶどう	4
りんご	6

2つの 組を
あわせると、
みかんは 何人ですか。

＿＿＿＿＿＿ 人

⑦ 8点

なわとびの 回数（回）

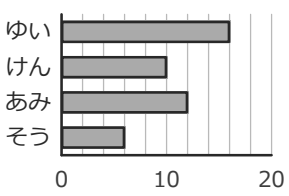

けんは
何回ですか。

＿＿＿＿＿＿ 回

⑧ 8点

	男	女	合計
1組	12	9	21
2組	8	11	19
合計	20	20	**あ**

ひょうの あに
入る 数は
いくつですか。

＿＿＿＿＿＿

⑨ 9点

ひょうを ぼうグラフに かこう。

ひょう

とった 魚	数
あじ	20
さば	10
いわし	25

とった 魚（ひき）

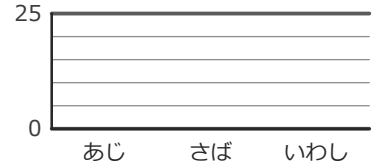

⑩ 9点

読んだ 本（ページ）

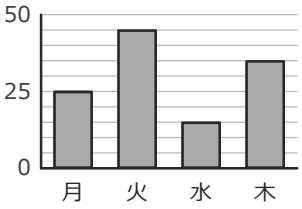

木よう日に 読んだ
数は いくつ？

＿＿＿＿＿＿

（たんいも 書こう）

⑪ 9点

なしが すきな 人が
多いのは、どちらの 組ですか。

3組（人）

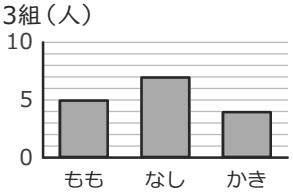

4組（人）

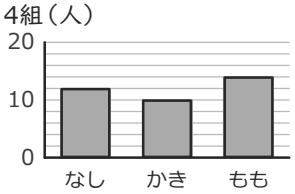

＿＿＿＿＿＿

⑫ 9点

しゅるい	数(人)
犬	11
ねこ	9
うさぎ	4
小鳥	2
金魚	5

多い 2つ いがいを
まとめた「その他」は
何人ですか。

＿＿＿＿＿＿ 人

小3 ぼうグラフ そうごうテスト（その1）【こたえ】

なまえ ＿＿＿＿＿＿＿＿

つまずきごとに2問（2問とも〇なら OK）。ぜんぶ〇なら「そうごうテスト（その2）」へ　学習日 ＿＿＿＿＿＿＿＿

1 1目もりの 大きさ・たんいを まちがえる

→「練習プリント①（目もりを読む）」→「とっくんドリル①」

問1 ぶどうの数（1目もり2）

答え 18人

よくある×：9人
（1目もりを 1と して 目もりの 数（9）を 答える）

問10 木よう日の数（たんい）

答え 35ページ

よくある×：7
（目もりの 数を 答え、題の（ ）の たんいを 見ない）

2 よこ向き・じゅんいを 読みまちがえる

→「練習プリント②（よこ向きと順位）」→「とっくんドリル①」

問4 多い方から2ばんめ

答え こま

よくある×：たこ
（左から 2ばんめを 答える）

問7 よこ向きのけん

答え 10回

よくある×：12回
（となりの 行（あみ）の ぼうを 読む）

3 ぼうの 高さを 目もりに 合わせられない

→「練習プリント③（ぼうをかく）」→「とっくんドリル②」

問3 ひょう→ぼうグラフ（1目もり2）

答え 赤い ぼう
（赤4目もり・青2目もり・黄5目もり）

よくある×：青を 4目もりの 高さに かく
（数を そのまま 目もりの 数に する（1目もりは 2））

問9 ひょう→ぼうグラフ（1目もり5）

答え 赤い ぼう
（あじ4目もり・さば2目もり・いわし5目もり）

よくある×：数の 目もりまで かこうと する
（数を そのまま 目もりの 数に する（1目もりは 5））

4 正の字・「その他」を まちがえる

→「練習プリント④（正の字とひょう）」→「とっくんドリル②」

問2 正の字13

答え 13回

よくある×：3回
（正の字の 字の 数（3）を 答える）

問12 その他の数

答え 11人

よくある×：9人
（その他に 入れる ものを 1つ 入れわすれる）

5 目もりが ちがう 2つの グラフで まちがえる

→「練習プリント⑤（2つのグラフ）」→「とっくんドリル③」

問5 1組と2組の犬のちがい

答え 4人

よくある×：6人
（目もりの 数どうしを ひく（1目もりの 大きさが ちがう））

問11 なしはどちらの組が多い

答え 4組

よくある×：3組
（ぼうの 高さだけで くらべる（1目もりが ちがう））

6 ひょうの 合計・2つの ひょうで まちがえる

→「練習プリント⑥（ひょうの合計）」→「とっくんドリル③」

問6 1組と2組のみかんをあわせる

答え 15人

よくある×：12人
（ならびの ちがう ひょうで、同じ 行どうしを たす）

問8 表の右下の合計

答え 40

よくある×：80
（たての 合計と よこの 合計を 両方 たす）

丸つけ：ぼうは、先が 正しい 目もりの 線の 上なら〇（となりの 線なら×）。たんいを 書く 問題は、数と たんいの 両方で〇。
まちがえたら、まず 練習プリント（ときかたつき）、つぎに とっくんドリルへ。