小3 ぼうグラフ そうごうテスト（その1）

つまずきを6つ、2問ずつ（100点）

なまえ ＿＿＿＿＿＿＿＿

学習日 ＿＿＿＿＿＿＿＿

答えは 下線に 書く（ぼうグラフの 問題は グラフの 線に 合わせて ぼうを かく）

① 8点

すきな くだもの（人）

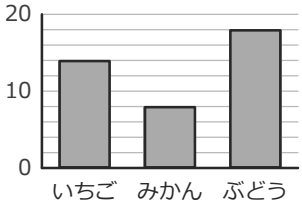

ぶどうは
何人ですか。

＿＿＿＿＿＿ 人

② 8点

正 正 下

とんだ 回数を
正の字で 数えました。
何回ですか。

＿＿＿＿＿＿ 回

③ 8点

ひょうを ぼうグラフに かこう。

ひょう

すきな 色	数
赤	8
青	4
黄	10

すきな 色（人）

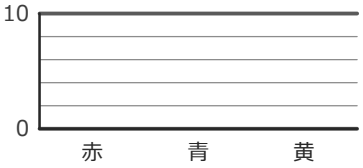

④ 8点

すきな あそび（人）

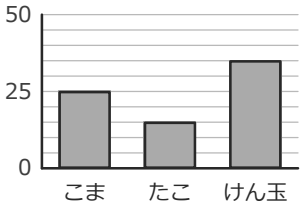

多い 方から
2ばんめは
どれですか。

＿＿＿＿＿＿

⑤ 8点

犬が すきな 人は、1組は
2組より 何人 多いですか。

1組（人）

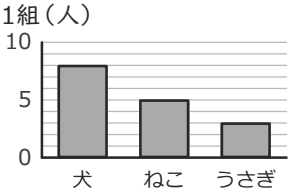

2組（人）

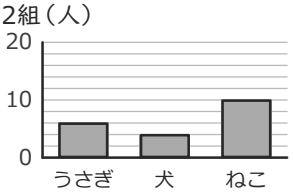

＿＿＿＿＿＿ 人

⑥ 8点

1組

なまえ	人数
りんご	5
みかん	8
ぶどう	3

2組

なまえ	人数
みかん	7
ぶどう	4
りんご	6

2つの 組を
あわせると、
みかんは 何人ですか。

＿＿＿＿＿＿ 人

⑦ 8点

なわとびの 回数（回）

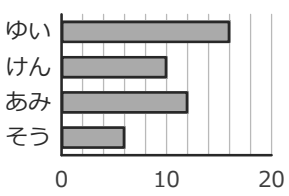

けんは
何回ですか。

＿＿＿＿＿＿ 回

⑧ 8点

	男	女	合計
1組	12	9	21
2組	8	11	19
合計	20	20	**あ**

ひょうの あに
入る 数は
いくつですか。

＿＿＿＿＿＿

⑨ 9点

ひょうを ぼうグラフに かこう。

ひょう

とった 魚	数
あじ	20
さば	10
いわし	25

とった 魚（ひき）

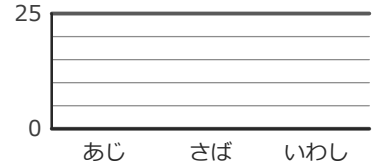

⑩ 9点

読んだ 本（ページ）

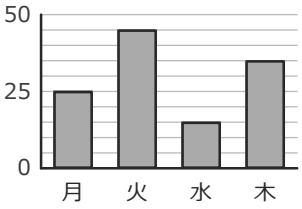

木よう日に 読んだ
数は いくつ？

＿＿＿＿＿＿

（たんいも 書こう）

⑪ 9点

なしが すきな 人が
多いのは、どちらの 組ですか。

3組（人）

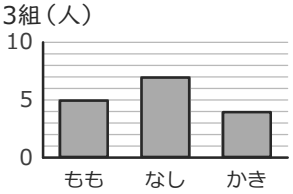

4組（人）

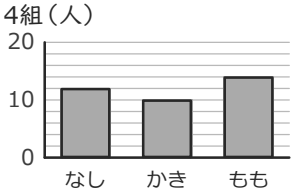

＿＿＿＿＿＿

⑫ 9点

しゅるい	数(人)
犬	11
ねこ	9
うさぎ	4
小鳥	2
金魚	5

多い 2つ いがいを
まとめた「その他」は
何人ですか。

＿＿＿＿＿＿ 人