折れ線グラフ はじめのテスト

5つのつまずきをたしかめよう

なまえ ＿＿＿＿＿＿＿＿

ひづけ ＿＿＿＿＿＿＿＿

・答えを書きましょう
・③は、ひょうの数をグラフにかきます。点を打って、左から順に直線でむすびます

① **気温(度)**

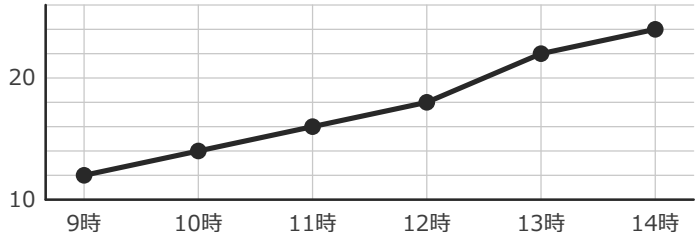

グラフは、ある日の気温です。12時から13時までに、気温は何度上がりましたか。

＿＿＿＿ **度**

② **ア 草の高さ(cm)**

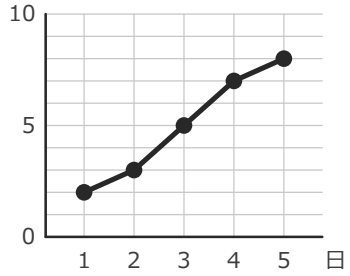

イ 草の高さ(cm)

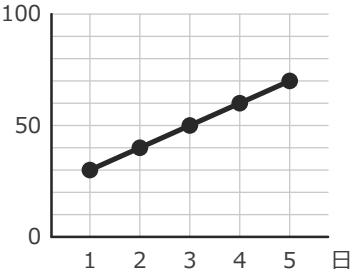

アとイは、ちがう草の高さのグラフです。1日めから5日めまでに、高さが大きくふえたのは、どちらですか。

＿＿＿＿

③ **かりた本の数(さつ)**

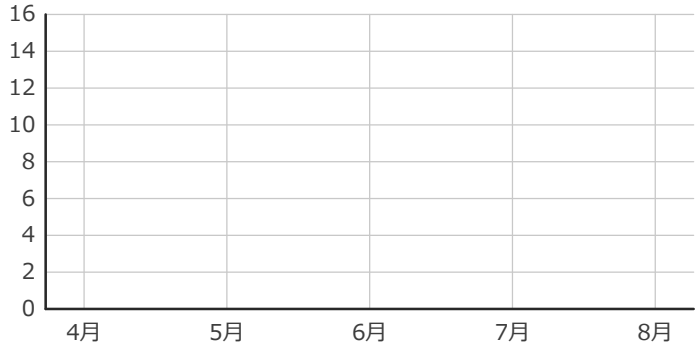

図書室で本をかりた数です。ひょうを見て、折れ線グラフにかきましょう。

月	さつ
4月	8
5月	14
6月	6
7月	12
8月	4

④ **気温と水温(度)**

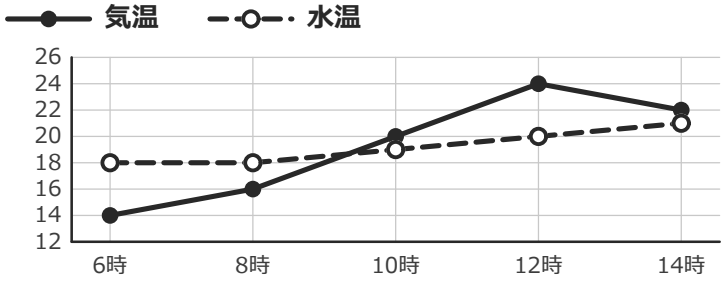

プールのそばで、気温と水温をはかりました。水温が20度になったのは、何時ですか。

＿＿＿＿ **時**

⑤ **かしだし数(さつ)**

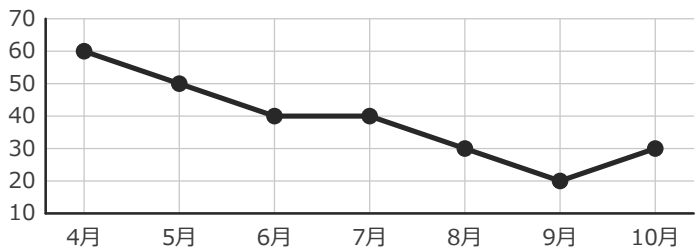

ある教室の、本のかしだし数です。4月から10月までに、数はどうなりましたか。

ふえた・へった ＿＿＿＿

ちがい ＿＿＿＿ **さつ**

いちごドリル プリント

つづきの無料プリント
「折れ線グラフ」のプリント一覧がひらきます

折れ線グラフ ×だけ練習①(読む)

目もりの大きさと、全体の変化の見方

なまえ ＿＿＿＿＿＿＿＿

ひづけ ＿＿＿＿＿＿＿＿

・答えを書きましょう
・1目もりの大きさは、数字と数字のあいだの目もりの数で決まります
・ふえたか、へったかは、はじめとおわりをくらべます

① グラフは、アイスが売れた数です。3日めには、何こ売れましたか。

売れたアイスの数(こ)

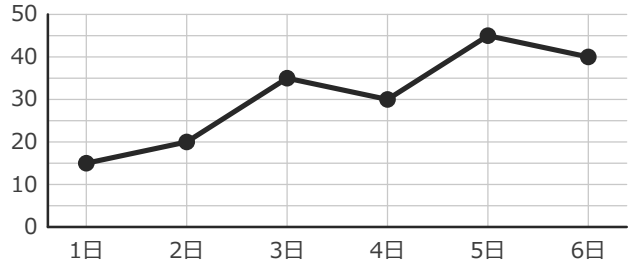

こ

② 学校を休んだ人の数です。1週から6週までに、数はどうなりましたか。

休んだ人の数(人)

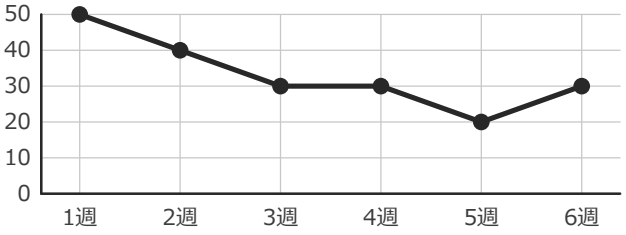

ふえた・へった　　ちがい

人

③ グラフは、バケツの水の高さです。2回めから4回めまでに、何cmふえましたか。

水の高さ(cm)

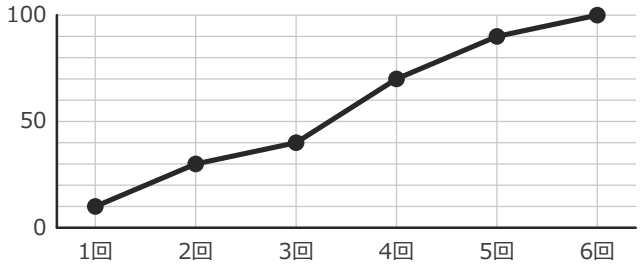

cm

④ とれたいちごの数です。1日から6日までに、数はどうなりましたか。

とれたいちごの数(こ)

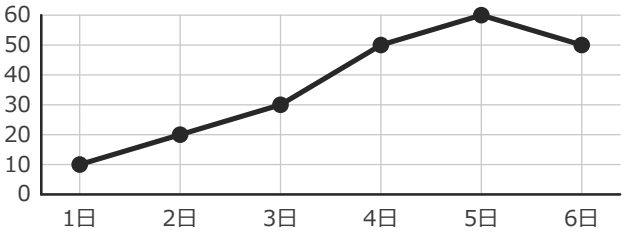

ふえた・へった　　ちがい

こ

⑤ グラフは、ろうそくの長さです。30分のときの長さは、何cmですか。

ろうそくの長さ(cm)

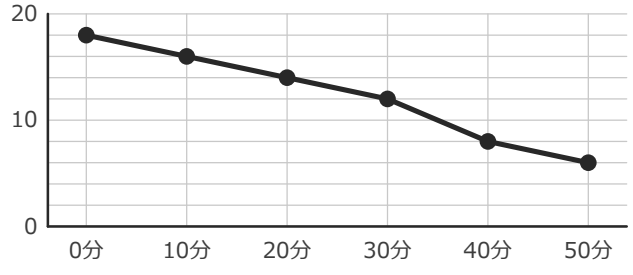

cm

⑥ 池の水の深さです。5月から10月までに、深さはどうなりましたか。

池の水の深さ(cm)

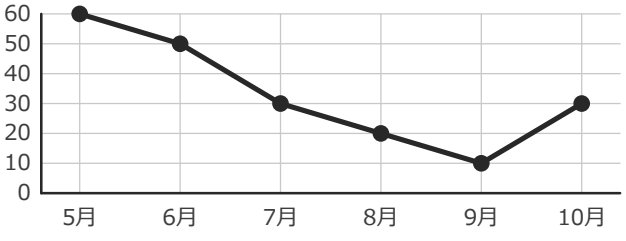

ふえた・へった　　ちがい

cm

いちごドリル プリント

つづきの無料プリント
「折れ線グラフ」のプリント一覧がひらきます

折れ線グラフ ×だけ練習②(かく)

ひょうの数を、点とせんでグラフにかく

なまえ ＿＿＿＿＿＿＿＿

ひづけ ＿＿＿＿＿＿＿＿

・ひょうの数を、グラフにかきましょう
・点は、たての線と横の線が交わるところに打ちます
・点は、左から順に直線でむすびます

① ほけんしつに来た人の数です。ひょうを見て、グラフにかきましょう。

来た人の数(人)

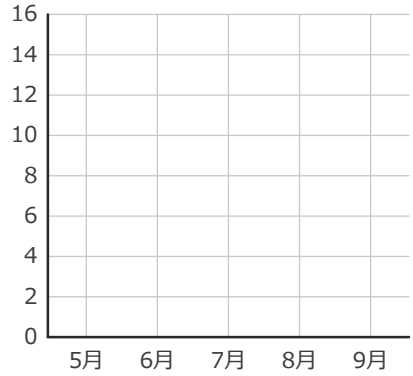

月	人
5月	6
6月	12
7月	4
8月	10
9月	14

② あつめたぎゅうにゅうパックの数です。ひょうを見て、グラフにかきましょう。

あつめた数(こ)

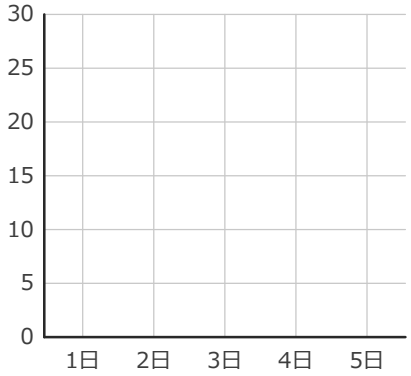

日	こ
1日	10
2日	25
3日	15
4日	30
5日	5

③ サッカーのゴールの数です。ひょうを見て、グラフにかきましょう。

ゴールの数(本)

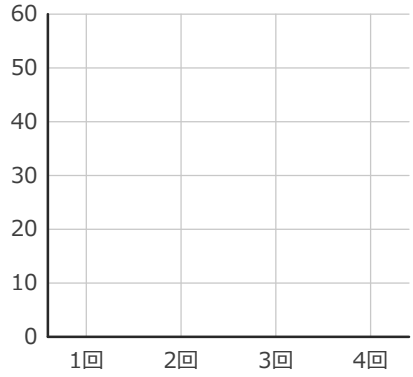

回	本
1回	20
2回	50
3回	30
4回	60

④ 水そうの水の温度です。ひょうを見て、グラフにかきましょう。

水の温度(度)

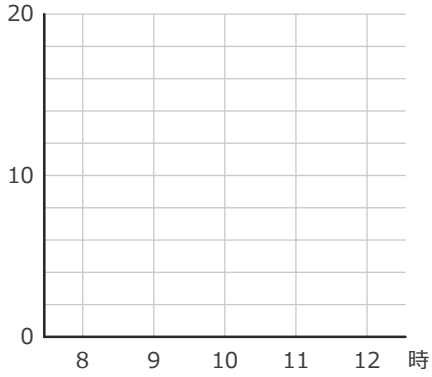

時	度
8時	6
9時	14
10時	8
11時	18
12時	12

⑤ 学級文庫の、月ごとの本の数です。ひょうを見て、グラフにかきましょう。

本の数(さつ)

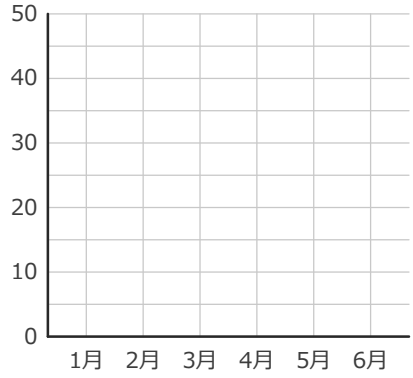

月	さつ
1月	15
2月	35
3月	20
4月	45
5月	25
6月	40

⑥ 売れたジュースの数です。ひょうを見て、グラフにかきましょう。

売れた数(本)

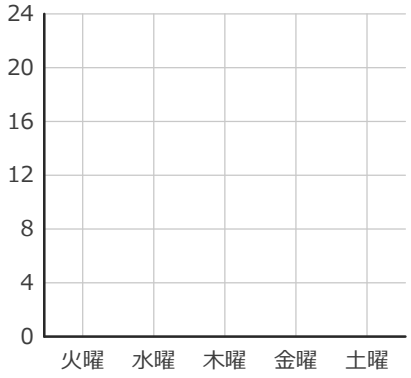

曜日	本
火曜	12
水曜	20
木曜	8
金曜	24
土曜	16

いちごドリル プリント

つづきの無料プリント
「折れ線グラフ」のプリント一覧がひらきます

折れ線グラフ ×だけ練習③(くらべる)

2つのグラフや2本の線の見分け方

なまえ ＿＿＿＿＿＿＿＿

ひづけ ＿＿＿＿＿＿＿＿

・答えを書きましょう
・グラフが2つあるときは、1目もりの大きさをたしかめて、ふえた数をくらべます
・線が2本あるときは、線の見本で見分けます

① アは水そう、イはふろの水の高さです。1分めから5分めまでに、高さが大きくふえたのは、どちらですか。

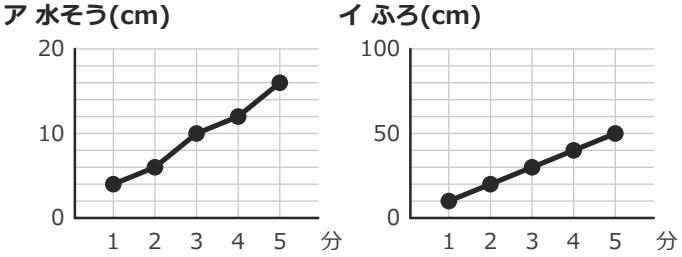

② はれの日と雨の日の、お客さんの数です。雨の日のお客さんが30人になったのは、何時ですか。

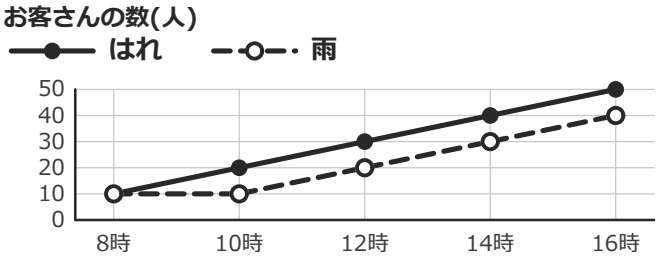

時

③ さくらさんとゆうとさんが歩いた道のりです。さくらさんの3回めの道のりは、何mですか。

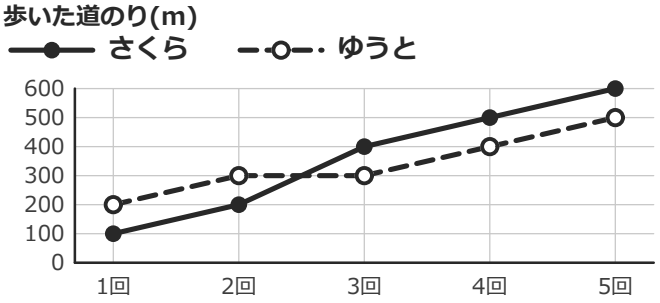

m

④ アはたけのこ、イはつくしの高さです。1日めから5日めまでに、高さが大きくふえたのは、どちらですか。

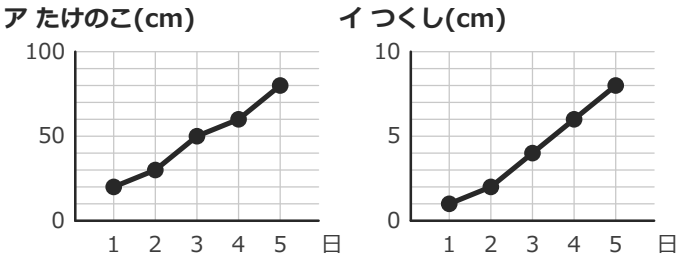

⑤ アはざいりょう、イはかんづめの重さです。1日めから5日めまでに、重さが大きくふえたのは、どちらですか。

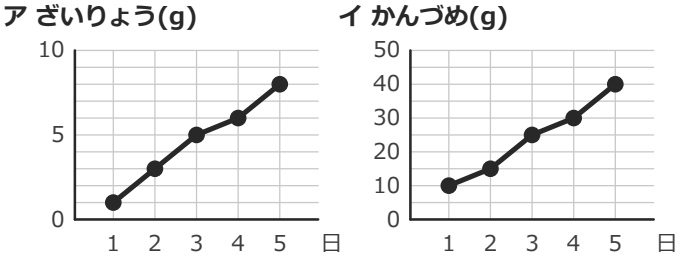

⑥ ひまわりとあさがおの高さです。ひまわりの高さが40cmになったのは、何週めですか。

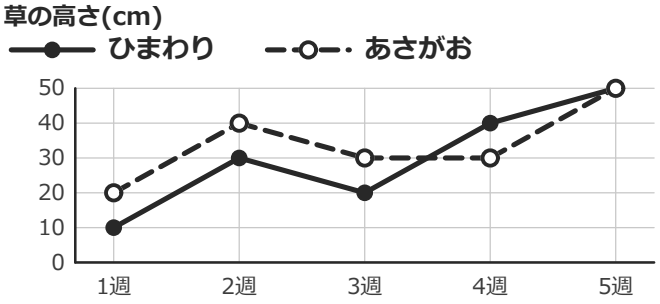

週め

いちごドリル プリント

つづきの無料プリント
「折れ線グラフ」のプリント一覧がひらきます

折れ線グラフ まとめテスト

5つのつまずきを、ちがうグラフでたしかめよう

なまえ ＿＿＿＿＿＿＿＿

ひづけ ＿＿＿＿＿＿＿＿

・はじめのテストとちがうグラフで、答えを書きましょう
・⑤は、ひょうの数をグラフにかきます。点を打って、左から順に直線でむすびます

① **A店とB店の売れた数(こ)**

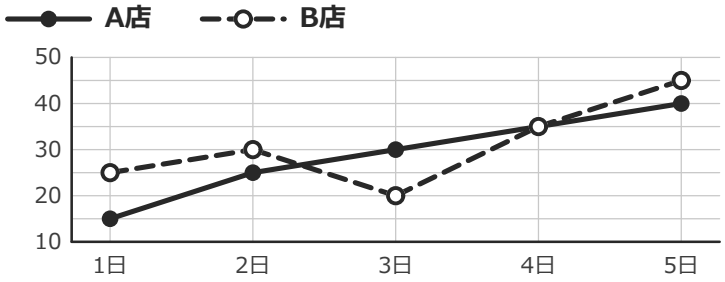

A店とB店の売れた数をくらべました。A店が30こになったのは、何日めですか。

＿＿＿＿ **日め**

② **売れたパンの数(こ)**

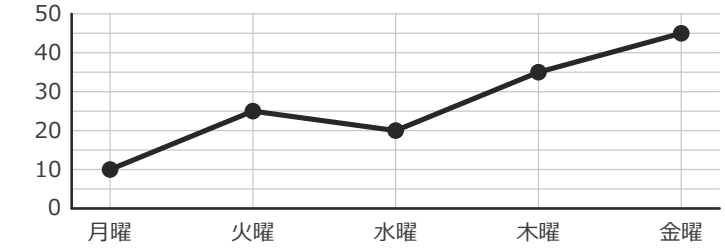

グラフは、1週間に売れたパンの数です。水曜日から木曜日までに、何こふえましたか。

＿＿＿＿ **こ**

③ **来た人の数(人)**

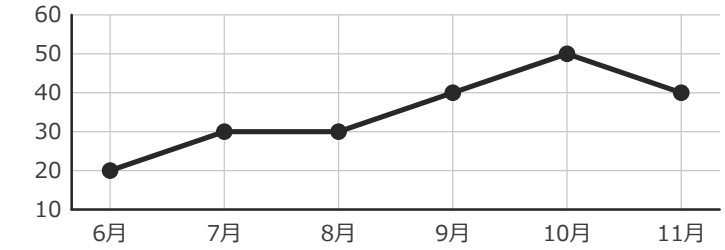

ある公園に来た人の数です。6月から11月までに、数はどうなりましたか。

ふえた・へった ＿＿＿＿

ちがい ＿＿＿＿ **人**

④ **ア あさがお(cm)**

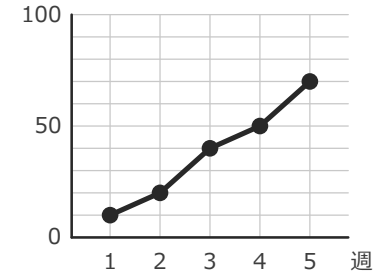

イ ミニトマト(cm)

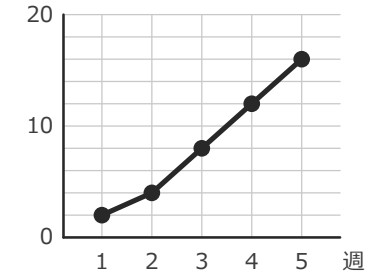

アはあさがお、イはミニトマトの高さです。1週めから5週めまでに、高さが大きくふえたのは、どちらですか。

＿＿＿＿

⑤ **遊んだ人の数(人)**

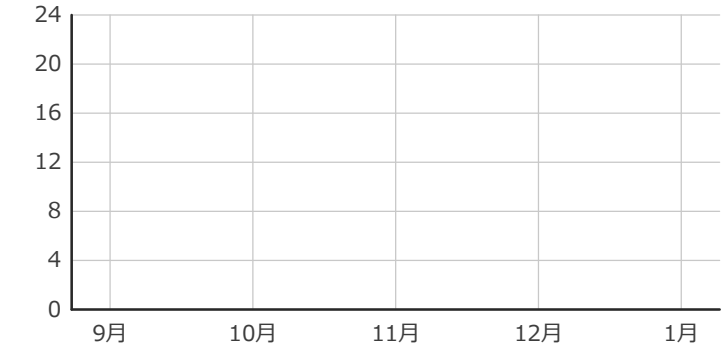

校庭で遊んだ人の数です。ひょうを見て、折れ線グラフにかきましょう。

月	人
9月	12
10月	4
11月	16
12月	8
1月	20

いちごドリル プリント

つづきの無料プリント
「折れ線グラフ」のプリント一覧がひらきます

折れ線グラフ はじめのテスト【こたえ】

5つのつまずきをたしかめよう

なまえ ＿＿＿＿＿＿＿＿＿＿

ひづけ ＿＿＿＿＿＿＿＿＿＿

① 気温(度)

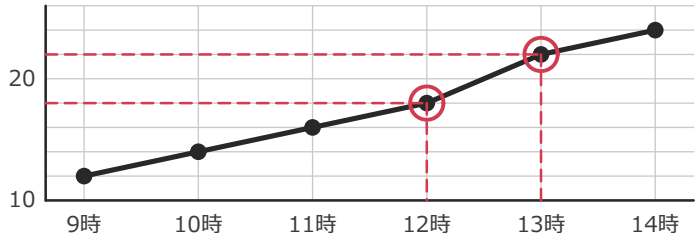

4 度

→ 1目もりは2度です。1目もりを1と読んで2度とする誤答に注意。

式 22－18＝4

まちがえたら → ×だけ練習①

② ア 草の高さ(cm)　イ 草の高さ(cm)

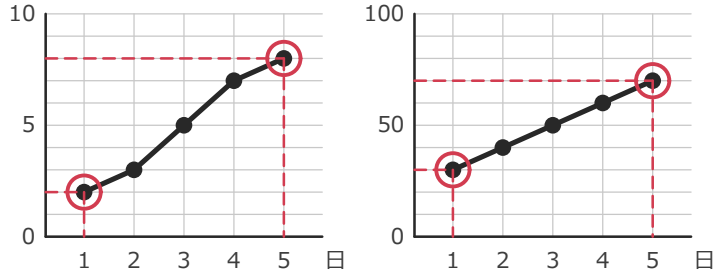

イ

→ アは1目もり1cm、イは1目もり10cmです。線のかたむきだけで「ア」とする誤答に注意。

式 ア 8－2＝6 ／ イ 70－30＝40

まちがえたら → ×だけ練習③

③ かりた本の数(さつ)

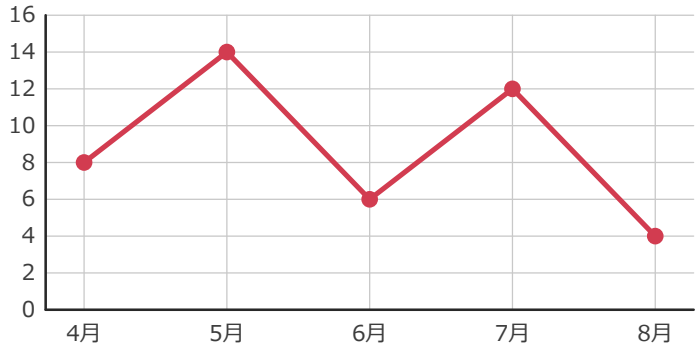

→ 点は、たての線と横の線が交わるところに打ち、4月→8月の順にむすびます。数の大きい順にむすぶと線が行き来します。目で見て、点が正しい横線の上にのっていればOKです。となりの横線に寄っていたらまちがいです。

点: 4月8、5月14、6月6、7月12、8月4

まちがえたら → ×だけ練習②

④ 気温と水温(度)

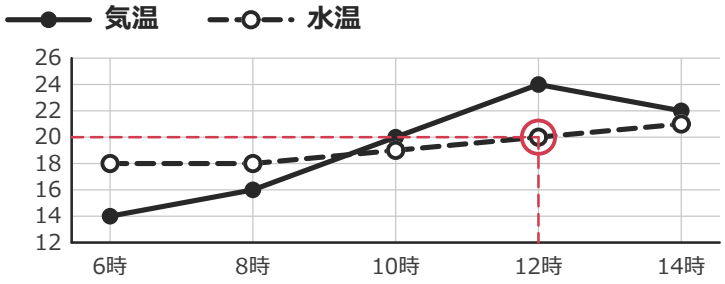

12 時

→ 点線(白い丸)が水温です。実線(黒い丸)の気温が20度なのは10時。線の見本を見ちがえた誤答に注意。

水温(点線)が20の点 → 12時

まちがえたら → ×だけ練習③

⑤ かしだし数(さつ)

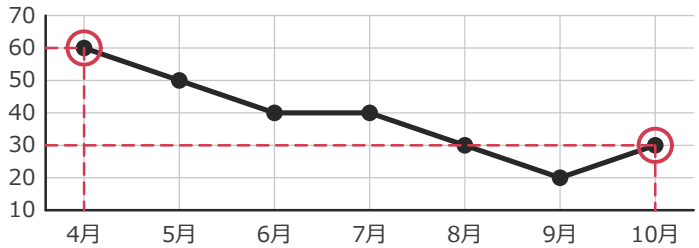

ふえた・へった **へった**

ちがい **30** さつ

→ 最後の9月→10月だけ上がっていますが、はじめ(4月)とおわり(10月)をくらべます。ふえたとする誤答に注意。

式 60－30＝30（へった）

まちがえたら → ×だけ練習①

折れ線グラフ ×だけ練習①(読む)【こたえ】

目もりの大きさと、全体の変化の見方

なまえ ＿＿＿＿＿＿＿＿

ひづけ ＿＿＿＿＿＿＿＿

① 売れたアイスの数(こ)

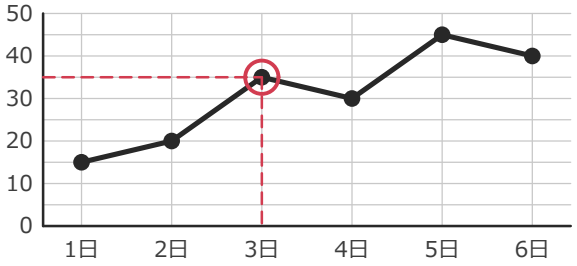

35 こ

→ 1目もりは5こです。1目もりを1と読んで7ことする誤答に注意。

3日の点の高さ → 35

② 休んだ人の数(人)

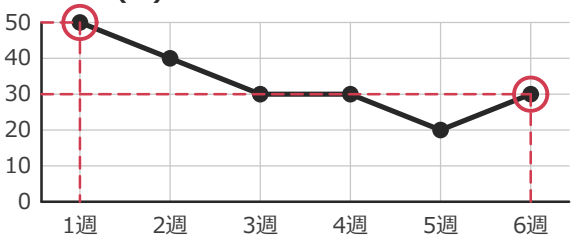

ふえた・へった：へった　ちがい：20 人

→ 最後の5週→6週だけ上がっていますが、はじめ(1週)とおわり(6週)をくらべます。ふえたとする誤答に注意。

式 50－30＝20（へった）

③ 水の高さ(cm)

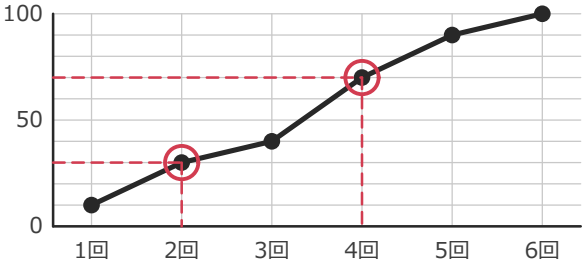

40 cm

→ 1目もりは10cmです。1目もりを1と読んで4cmとする誤答に注意。

式 70－30＝40

④ とれたいちごの数(こ)

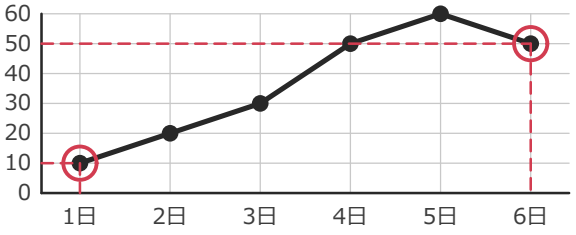

ふえた・へった：ふえた　ちがい：40 こ

→ 最後の5日→6日だけ下がっていますが、はじめ(1日)とおわり(6日)をくらべます。へったとする誤答に注意。

式 50－10＝40（ふえた）

⑤ ろうそくの長さ(cm)

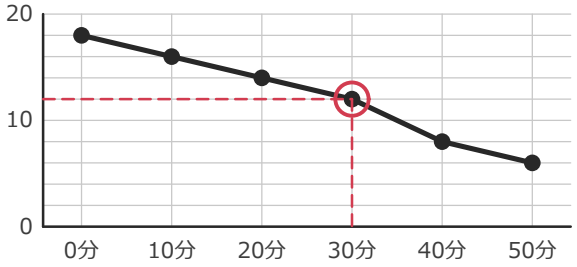

12 cm

→ 1目もりは2cmです。1目もりを1と読んで6cmとする誤答に注意。

30分の点の高さ → 12

⑥ 池の水の深さ(cm)

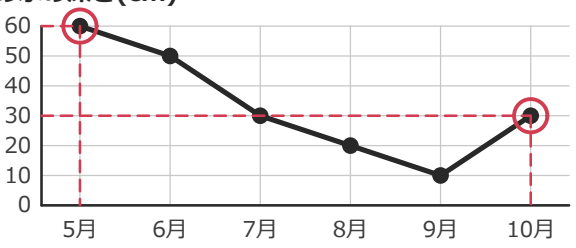

ふえた・へった：へった　ちがい：30 cm

→ 最後の9月→10月だけ上がっていますが、はじめ(5月)とおわり(10月)をくらべます。ふえたとする誤答に注意。

式 60－30＝30（へった）

折れ線グラフ ×だけ練習②(かく)【こたえ】

ひょうの数を、点とせんでグラフにかく

なまえ ＿＿＿＿＿＿＿＿＿＿

ひづけ ＿＿＿＿＿＿＿＿＿＿

① 来た人の数(人)

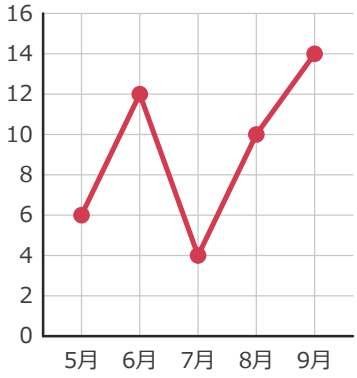

→ 点は、たての線と横の線が交わるところに打ち、5月→9月の順にむすびます。数の大きい順にむすぶと線が行き来します。目で見て、点が正しい横線の上にのっていればOKです。となりの横線に寄っていたらまちがいです。

② あつめた数(こ)

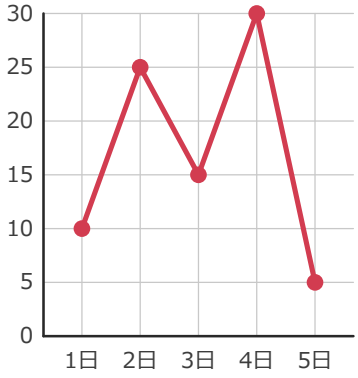

→ 点は、たての線と横の線が交わるところに打ち、1日→5日の順にむすびます。数の大きい順にむすぶと線が行き来します。目で見て、点が正しい横線の上にのっていればOKです。となりの横線に寄っていたらまちがいです。

③ ゴールの数(本)

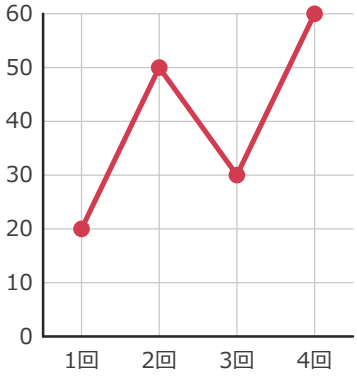

→ 点は、たての線と横の線が交わるところに打ち、1回→4回の順にむすびます。数の大きい順にむすぶと線が行き来します。目で見て、点が正しい横線の上にのっていればOKです。となりの横線に寄っていたらまちがいです。

④ 水の温度(度)

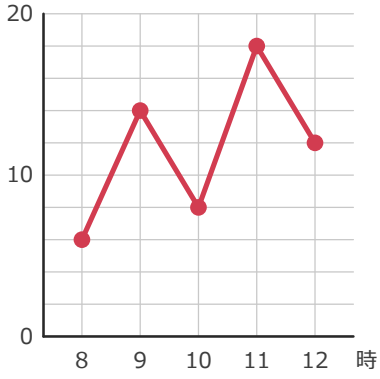

→ 点は、たての線と横の線が交わるところに打ち、8時→12時の順にむすびます。数の大きい順にむすぶと線が行き来します。目で見て、点が正しい横線の上にのっていればOKです。となりの横線に寄っていたらまちがいです。

⑤ 本の数(さつ)

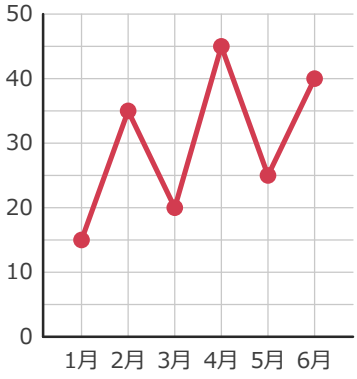

→ 点は、たての線と横の線が交わるところに打ち、1月→6月の順にむすびます。数の大きい順にむすぶと線が行き来します。目で見て、点が正しい横線の上にのっていればOKです。となりの横線に寄っていたらまちがいです。

⑥ 売れた数(本)

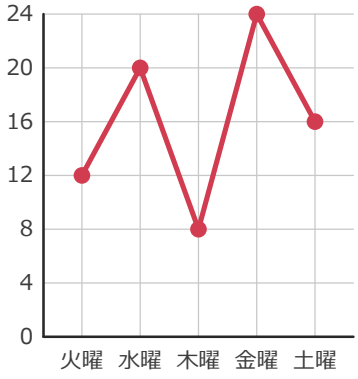

→ 点は、たての線と横の線が交わるところに打ち、火曜→土曜の順にむすびます。数の大きい順にむすぶと線が行き来します。目で見て、点が正しい横線の上にのっていればOKです。となりの横線に寄っていたらまちがいです。

折れ線グラフ ×だけ練習③(くらべる)【こたえ】

2つのグラフや2本の線の見分け方

なまえ ＿＿＿＿＿＿＿＿

ひづけ ＿＿＿＿＿＿＿＿

① ア 水そう(cm)　イ ふろ(cm)

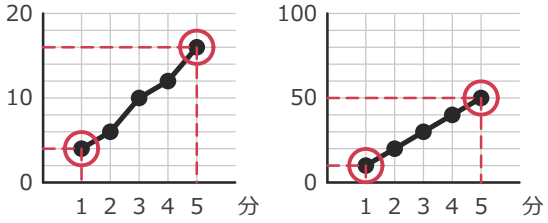

イ

→ アは1目もり2cm、イは1目もり10cmです。線のかたむきだけで「ア」とする誤答に注意。

式 ア 16－4＝12 ／ イ 50－10＝40

② お客さんの数(人)

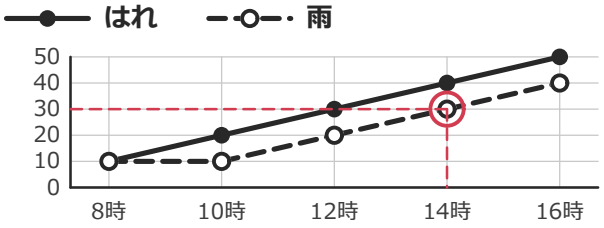

14 **時**

→ 点線(白い丸)が雨の日です。実線(黒い丸)のはれの日が30人なのは12時。線の見本を見ちがえた誤答に注意。

雨(点線)が30の点 → 14時

③ 歩いた道のり(m)

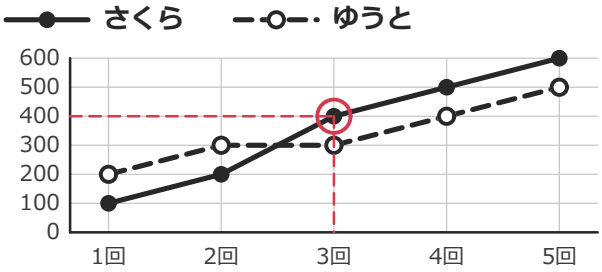

400 **m**

→ 実線(黒い丸)がさくらさん、点線(白い丸)がゆうとさんです。ゆうとさんの3回めは300m。線の見本を見ちがえた誤答に注意。

さくら(実線)の3回 → 400

④ ア たけのこ(cm)　イ つくし(cm)

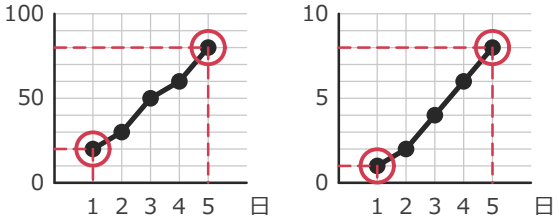

ア

→ アは1目もり10cm、イは1目もり1cmです。線のかたむきだけで「イ」とする誤答に注意。

式 ア 80－20＝60 ／ イ 8－1＝7

⑤ ア ざいりょう(g)　イ かんづめ(g)

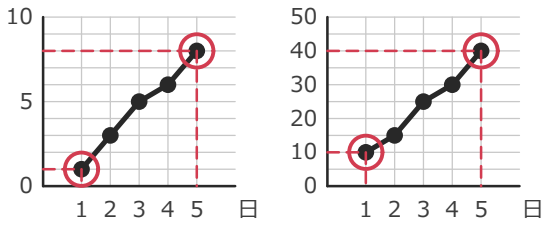

イ

→ アは1目もり1g、イは1目もり5gです。線のかたむきだけで「ア」とする誤答に注意。

式 ア 8－1＝7 ／ イ 40－10＝30

⑥ 草の高さ(cm)

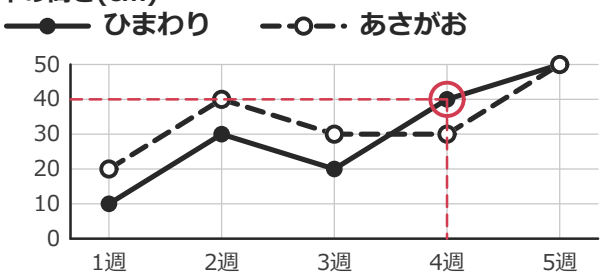

4 **週め**

→ 実線(黒い丸)がひまわり、点線(白い丸)があさがおです。あさがおが40cmなのは2週め。線の見本を見ちがえた誤答に注意。

ひまわり(実線)が40の点 → 4週

折れ線グラフ まとめテスト【こたえ】

5つのつまずきを、ちがうグラフでたしかめよう

なまえ ＿＿＿＿＿＿＿＿＿＿

ひづけ ＿＿＿＿＿＿＿＿＿＿

① A店とB店の売れた数(こ)

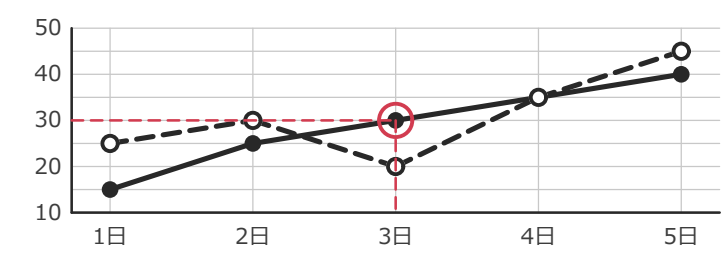

3 日め

→ 実線(黒い丸)がA店、点線(白い丸)がB店です。B店が30こなのは2日め。線の見本を見ちがえた誤答に注意。

A店(実線)が30の点 → 3日

まちがえたら → ×だけ練習③

② 売れたパンの数(こ)

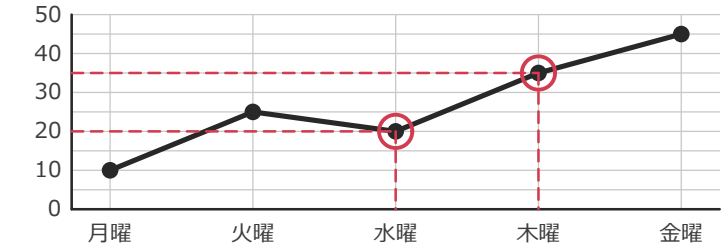

15 こ

→ 1目もりは5こです。1目もりを1と読んで3ことする誤答に注意。

式 35－20＝15

まちがえたら → ×だけ練習①

③ 来た人の数(人)

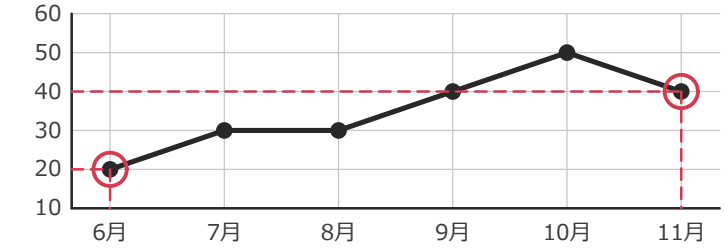

ふえた・へった **ふえた**

ちがい **20** 人

→ 最後の10月→11月だけ下がっていますが、はじめ(6月)とおわり(11月)をくらべます。へったとする誤答に注意。

式 40－20＝20（ふえた）

まちがえたら → ×だけ練習①

④ ア あさがお(cm) イ ミニトマト(cm)

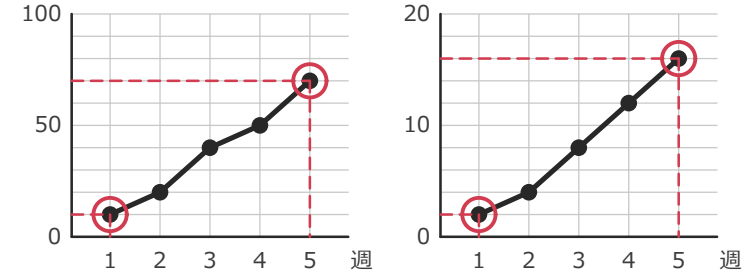

ア

→ アは1目もり10cm、イは1目もり2cmです。線のかたむきだけで「イ」とする誤答に注意。

式 ア 70－10＝60 ／ イ 16－2＝14

まちがえたら → ×だけ練習③

⑤ 遊んだ人の数(人)

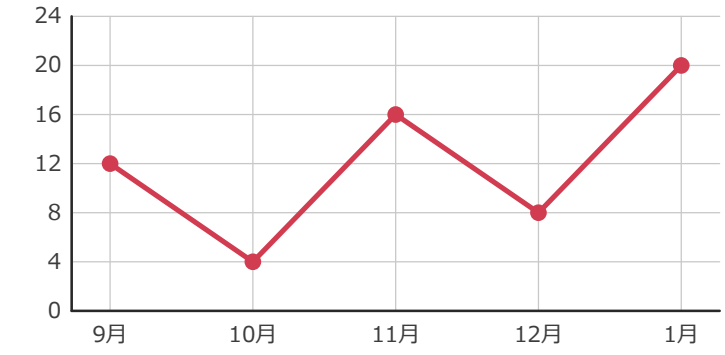

→ 点は、たての線と横の線が交わるところに打ち、9月→1月の順にむすびます。数の大きい順にむすぶと線が行き来します。目で見て、点が正しい横線の上にのっていればOKです。となりの横線に寄っていたらまちがいです。

点: 9月12、10月4、11月16、12月8、1月20

まちがえたら → ×だけ練習②