折れ線グラフ はじめのテスト

5つのつまずきをたしかめよう

なまえ ＿＿＿＿＿＿＿＿

ひづけ ＿＿＿＿＿＿＿＿

・答えを書きましょう
・③は、ひょうの数をグラフにかきます。点を打って、左から順に直線でむすびます

① **気温(度)**

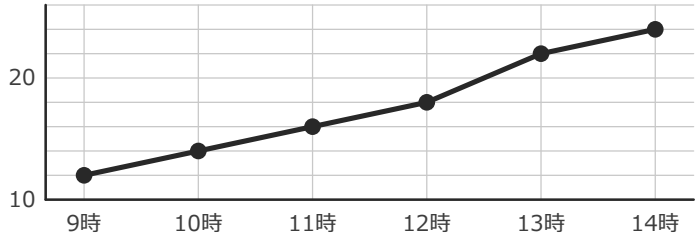

グラフは、ある日の気温です。12時から13時までに、気温は何度上がりましたか。

＿＿＿＿ **度**

② **ア 草の高さ(cm)**

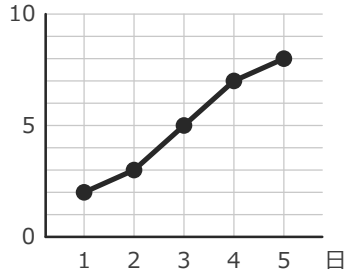

イ 草の高さ(cm)

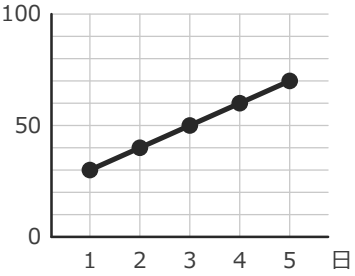

アとイは、ちがう草の高さのグラフです。1日めから5日めまでに、高さが大きくふえたのは、どちらですか。

＿＿＿＿

③ **かりた本の数(さつ)**

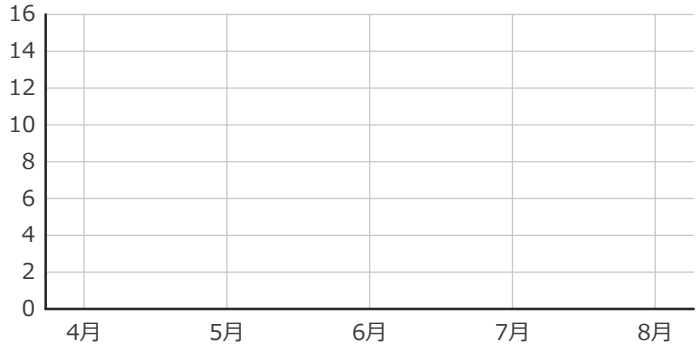

図書室で本をかりた数です。ひょうを見て、折れ線グラフにかきましょう。

月	さつ
4月	8
5月	14
6月	6
7月	12
8月	4

④ **気温と水温(度)**

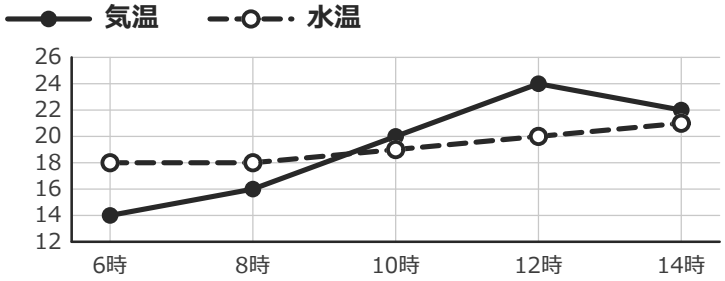

プールのそばで、気温と水温をはかりました。水温が20度になったのは、何時ですか。

＿＿＿＿ **時**

⑤ **かしだし数(さつ)**

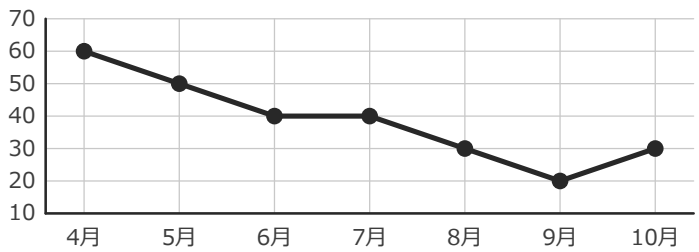

ある教室の、本のかしだし数です。4月から10月までに、数はどうなりましたか。

ふえた・へった ＿＿＿＿

ちがい ＿＿＿＿ **さつ**

いちごドリル プリント

つづきの無料プリント
「折れ線グラフ」のプリント一覧がひらきます

折れ線グラフ ×だけ練習①(読む)

目もりの大きさと、全体の変化の見方

なまえ ＿＿＿＿＿＿＿＿

ひづけ ＿＿＿＿＿＿＿＿

・答えを書きましょう
・1目もりの大きさは、数字と数字のあいだの目もりの数で決まります
・ふえたか、へったかは、はじめとおわりをくらべます

① グラフは、アイスが売れた数です。3日めには、何こ売れましたか。

売れたアイスの数(こ)

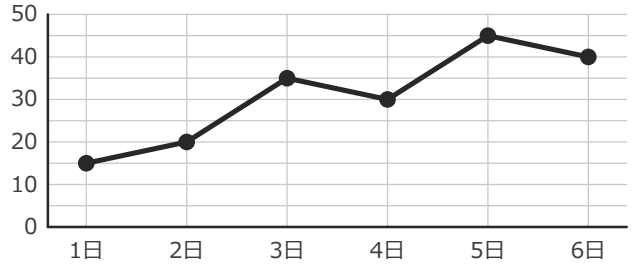

こ

② 学校を休んだ人の数です。1週から6週までに、数はどうなりましたか。

休んだ人の数(人)

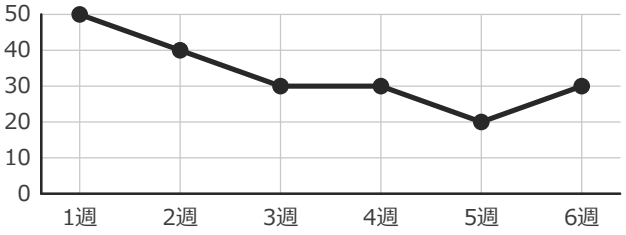

ふえた・へった　　ちがい

人

③ グラフは、バケツの水の高さです。2回めから4回めまでに、何cmふえましたか。

水の高さ(cm)

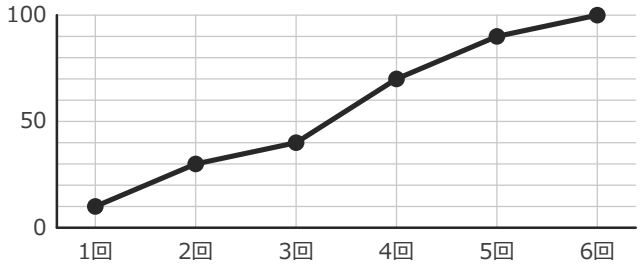

cm

④ とれたいちごの数です。1日から6日までに、数はどうなりましたか。

とれたいちごの数(こ)

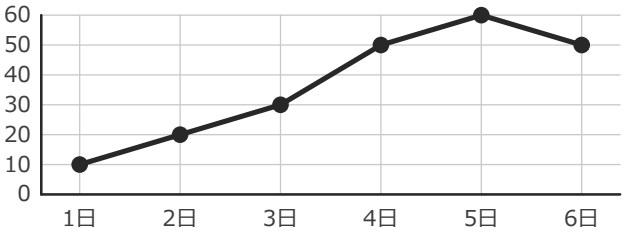

ふえた・へった　　ちがい

こ

⑤ グラフは、ろうそくの長さです。30分のときの長さは、何cmですか。

ろうそくの長さ(cm)

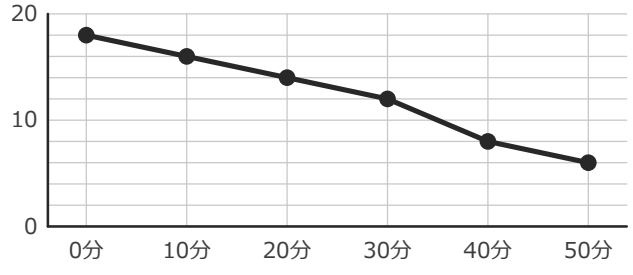

cm

⑥ 池の水の深さです。5月から10月までに、深さはどうなりましたか。

池の水の深さ(cm)

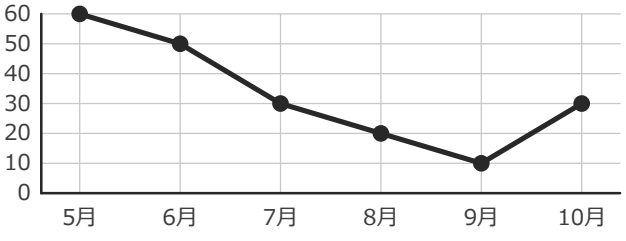

ふえた・へった　　ちがい

cm

いちごドリル プリント

つづきの無料プリント
「折れ線グラフ」のプリント一覧がひらきます

折れ線グラフ ×だけ練習②(かく)

ひょうの数を、点とせんでグラフにかく

なまえ ＿＿＿＿＿＿＿＿

ひづけ ＿＿＿＿＿＿＿＿

・ひょうの数を、グラフにかきましょう
・点は、たての線と横の線が交わるところに打ちます
・点は、左から順に直線でむすびます

① ほけんしつに来た人の数です。ひょうを見て、グラフにかきましょう。

来た人の数(人)

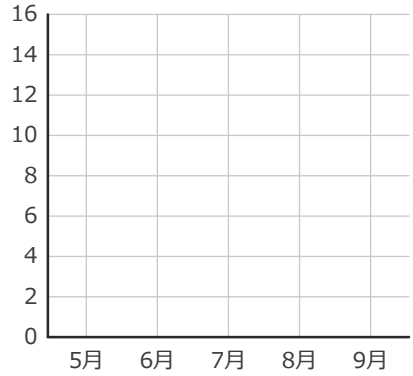

月	人
5月	6
6月	12
7月	4
8月	10
9月	14

② あつめたぎゅうにゅうパックの数です。ひょうを見て、グラフにかきましょう。

あつめた数(こ)

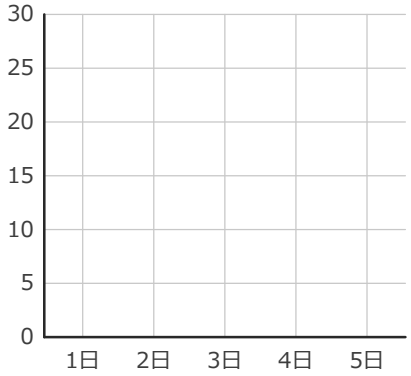

日	こ
1日	10
2日	25
3日	15
4日	30
5日	5

③ サッカーのゴールの数です。ひょうを見て、グラフにかきましょう。

ゴールの数(本)

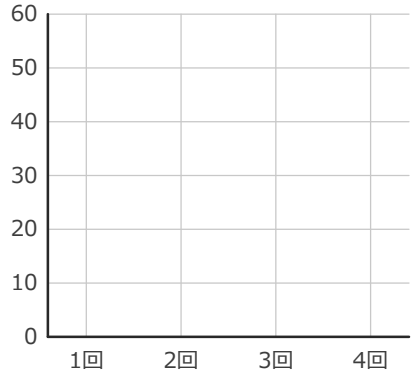

回	本
1回	20
2回	50
3回	30
4回	60

④ 水そうの水の温度です。ひょうを見て、グラフにかきましょう。

水の温度(度)

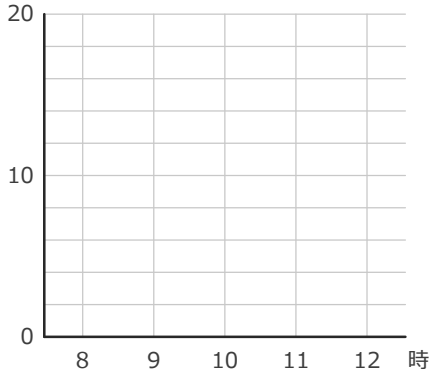

時	度
8時	6
9時	14
10時	8
11時	18
12時	12

⑤ 学級文庫の、月ごとの本の数です。ひょうを見て、グラフにかきましょう。

本の数(さつ)

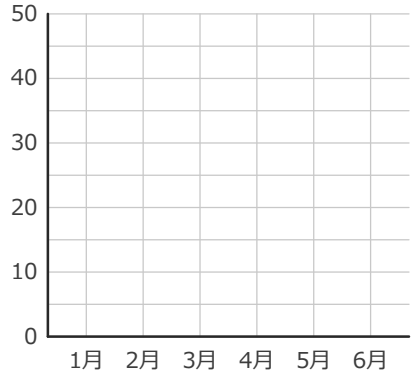

月	さつ
1月	15
2月	35
3月	20
4月	45
5月	25
6月	40

⑥ 売れたジュースの数です。ひょうを見て、グラフにかきましょう。

売れた数(本)

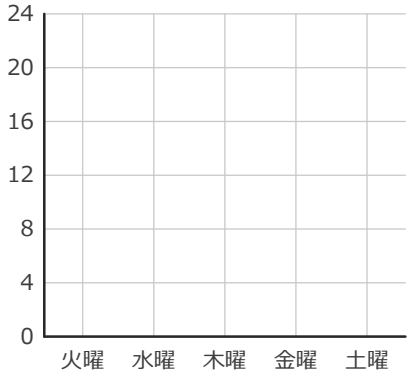

曜日	本
火曜	12
水曜	20
木曜	8
金曜	24
土曜	16

いちごドリル プリント

つづきの無料プリント
「折れ線グラフ」のプリント一覧がひらきます

折れ線グラフ ×だけ練習③(くらべる)

2つのグラフや2本の線の見分け方

なまえ ＿＿＿＿＿＿＿＿

ひづけ ＿＿＿＿＿＿＿＿

・答えを書きましょう
・グラフが2つあるときは、1目もりの大きさをたしかめて、ふえた数をくらべます
・線が2本あるときは、線の見本で見分けます

① アは水そう、イはふろの水の高さです。1分めから5分めまでに、高さが大きくふえたのは、どちらですか。

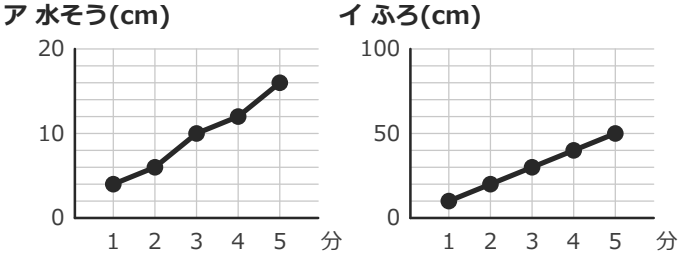

② はれの日と雨の日の、お客さんの数です。雨の日のお客さんが30人になったのは、何時ですか。

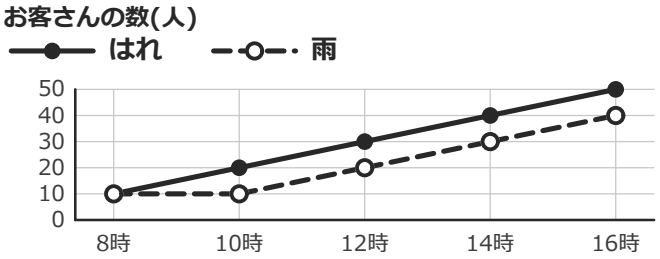

時

③ さくらさんとゆうとさんが歩いた道のりです。さくらさんの3回めの道のりは、何mですか。

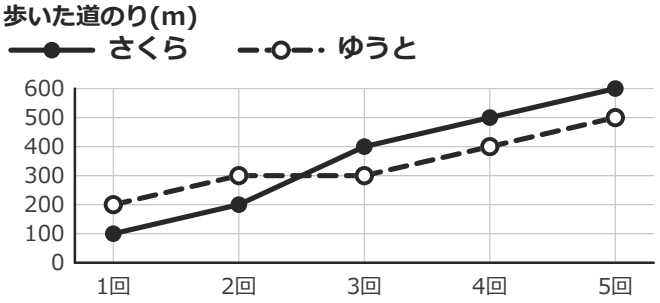

m

④ アはたけのこ、イはつくしの高さです。1日めから5日めまでに、高さが大きくふえたのは、どちらですか。

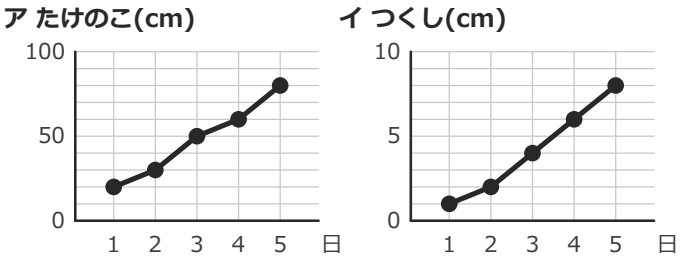

⑤ アはざいりょう、イはかんづめの重さです。1日めから5日めまでに、重さが大きくふえたのは、どちらですか。

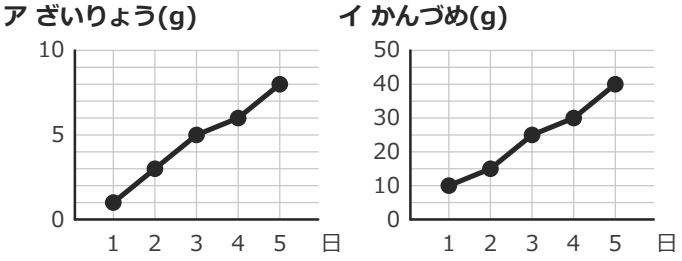

⑥ ひまわりとあさがおの高さです。ひまわりの高さが40cmになったのは、何週めですか。

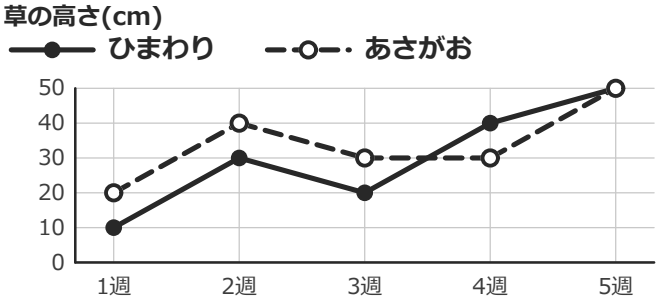

週め

いちごドリル プリント

つづきの無料プリント
「折れ線グラフ」のプリント一覧がひらきます

折れ線グラフ まとめテスト

5つのつまずきを、ちがうグラフでたしかめよう

なまえ ＿＿＿＿＿＿＿＿

ひづけ ＿＿＿＿＿＿＿＿

・はじめのテストとちがうグラフで、答えを書きましょう
・⑤は、ひょうの数をグラフにかきます。点を打って、左から順に直線でむすびます

① **A店とB店の売れた数(こ)**

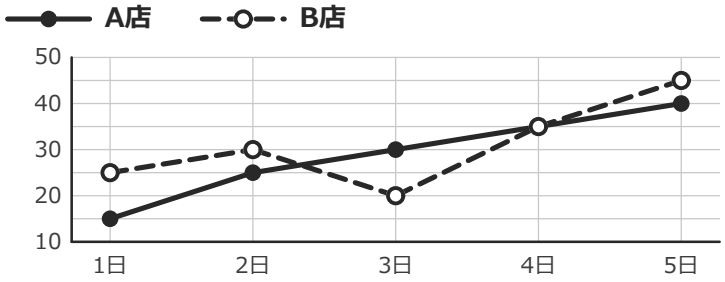

A店とB店の売れた数をくらべました。A店が30こになったのは、何日めですか。

＿＿＿＿ **日め**

② **売れたパンの数(こ)**

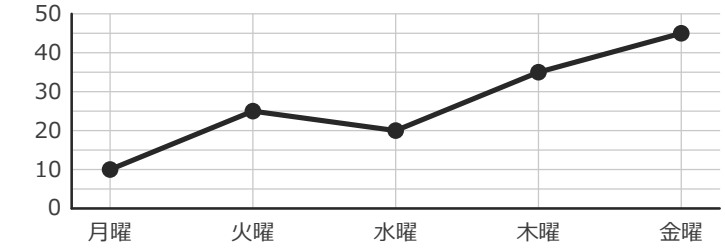

グラフは、1週間に売れたパンの数です。水曜日から木曜日までに、何こふえましたか。

＿＿＿＿ **こ**

③ **来た人の数(人)**

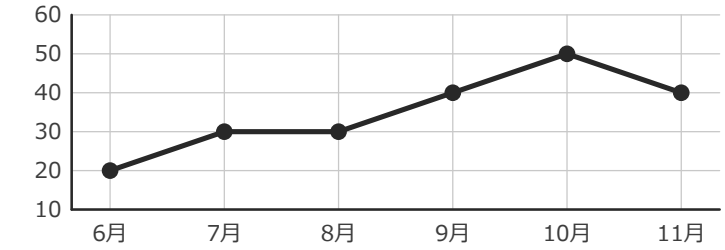

ある公園に来た人の数です。6月から11月までに、数はどうなりましたか。

ふえた・へった ＿＿＿＿

ちがい ＿＿＿＿ **人**

④ **ア あさがお(cm)**

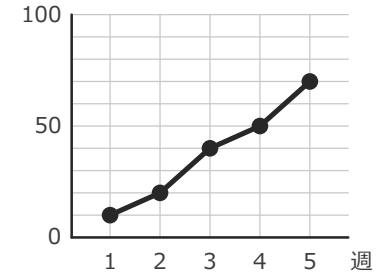

イ ミニトマト(cm)

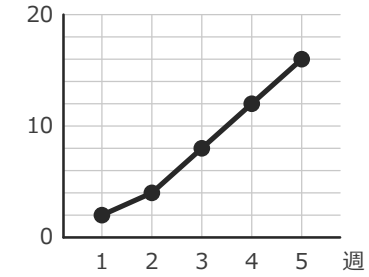

アはあさがお、イはミニトマトの高さです。1週めから5週めまでに、高さが大きくふえたのは、どちらですか。

＿＿＿＿

⑤ **遊んだ人の数(人)**

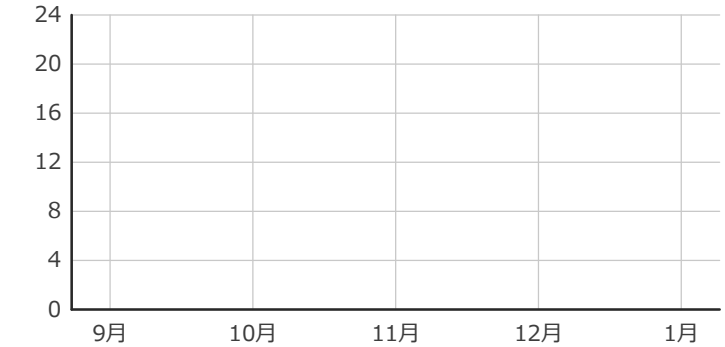

校庭で遊んだ人の数です。ひょうを見て、折れ線グラフにかきましょう。

月	人
9月	12
10月	4
11月	16
12月	8
1月	20

いちごドリル プリント

つづきの無料プリント
「折れ線グラフ」のプリント一覧がひらきます