折れ線グラフ まとめテスト

5つのつまずきを、ちがうグラフでたしかめよう

なまえ ＿＿＿＿＿＿＿＿

ひづけ ＿＿＿＿＿＿＿＿

・はじめのテストとちがうグラフで、答えを書きましょう
・⑤は、ひょうの数をグラフにかきます。点を打って、左から順に直線でむすびます

① **A店とB店の売れた数(こ)**

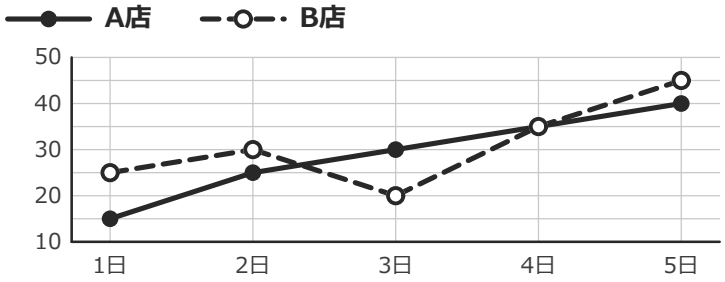

A店とB店の売れた数をくらべました。A店が30こになったのは、何日めですか。

＿＿＿＿ **日め**

② **売れたパンの数(こ)**

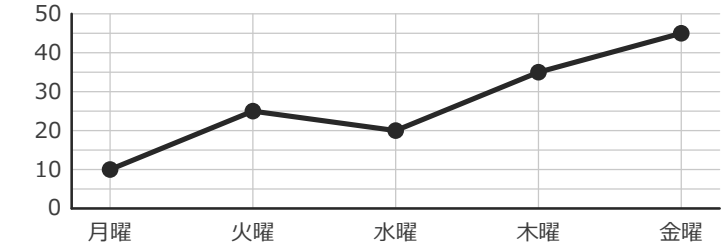

グラフは、1週間に売れたパンの数です。水曜日から木曜日までに、何こふえましたか。

＿＿＿＿ **こ**

③ **来た人の数(人)**

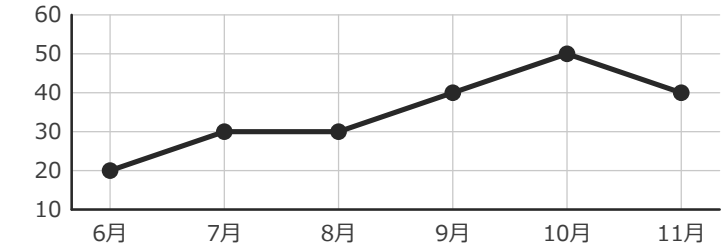

ある公園に来た人の数です。6月から11月までに、数はどうなりましたか。

ふえた・へった ＿＿＿＿

ちがい ＿＿＿＿ **人**

④ **ア あさがお(cm)**

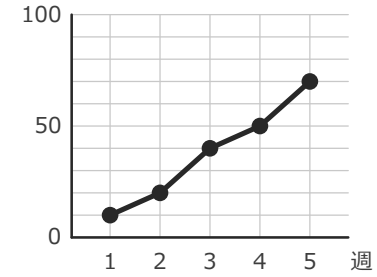

イ ミニトマト(cm)

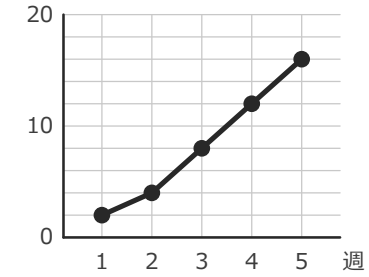

アはあさがお、イはミニトマトの高さです。1週めから5週めまでに、高さが大きくふえたのは、どちらですか。

＿＿＿＿

⑤ **遊んだ人の数(人)**

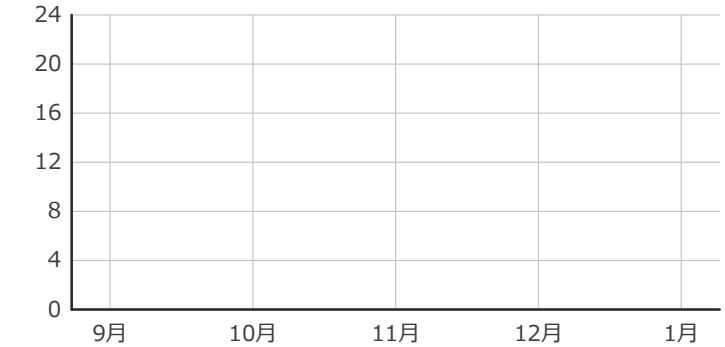

校庭で遊んだ人の数です。ひょうを見て、折れ線グラフにかきましょう。

月	人
9月	12
10月	4
11月	16
12月	8
1月	20

いちごドリル プリント

つづきの無料プリント
「折れ線グラフ」のプリント一覧がひらきます

折れ線グラフ まとめテスト【こたえ】

5つのつまずきを、ちがうグラフでたしかめよう

なまえ ＿＿＿＿＿＿＿＿＿＿

ひづけ ＿＿＿＿＿＿＿＿＿＿

① A店とB店の売れた数(こ)

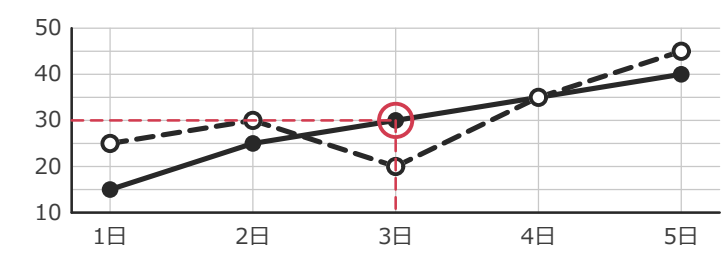

3 日め

→ 実線(黒い丸)がA店、点線(白い丸)がB店です。B店が30こなのは2日め。線の見本を見ちがえた誤答に注意。

A店(実線)が30の点 → 3日

まちがえたら → ×だけ練習③

② 売れたパンの数(こ)

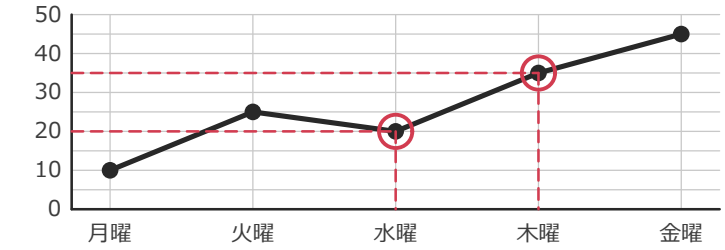

15 こ

→ 1目もりは5こです。1目もりを1と読んで3ことする誤答に注意。

式 35－20＝15

まちがえたら → ×だけ練習①

③ 来た人の数(人)

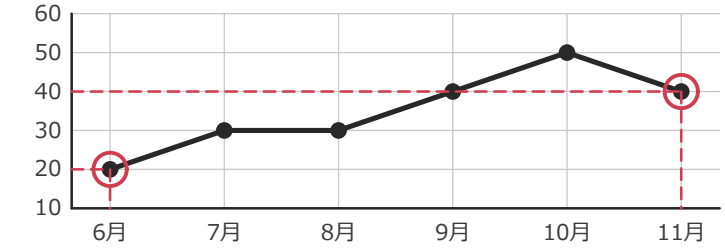

ふえた・へった **ふえた**

ちがい **20** 人

→ 最後の10月→11月だけ下がっていますが、はじめ(6月)とおわり(11月)をくらべます。へったとする誤答に注意。

式 40－20＝20（ふえた）

まちがえたら → ×だけ練習①

④ ア あさがお(cm) イ ミニトマト(cm)

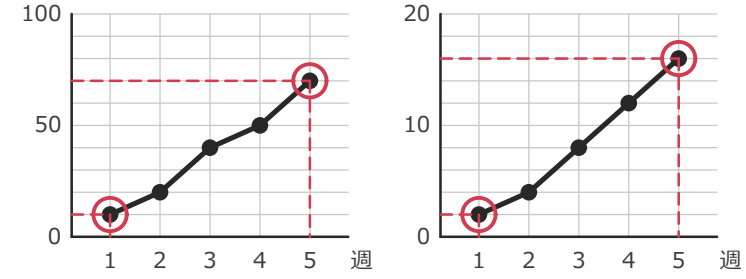

ア

→ アは1目もり10cm、イは1目もり2cmです。線のかたむきだけで「イ」とする誤答に注意。

式 ア 70－10＝60 ／ イ 16－2＝14

まちがえたら → ×だけ練習③

⑤ 遊んだ人の数(人)

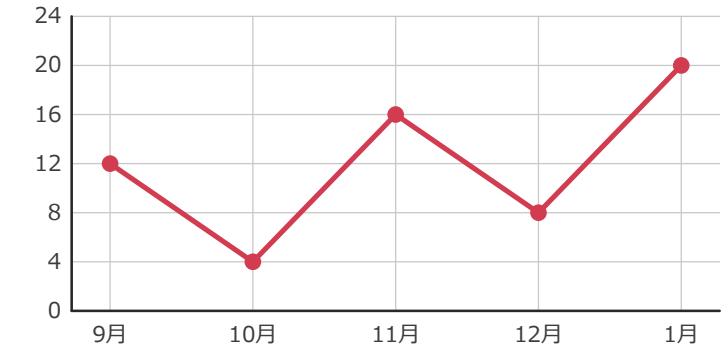

→ 点は、たての線と横の線が交わるところに打ち、9月→1月の順にむすびます。数の大きい順にむすぶと線が行き来します。目で見て、点が正しい横線の上にのっていればOKです。となりの横線に寄っていたらまちがいです。

点: 9月12、10月4、11月16、12月8、1月20

まちがえたら → ×だけ練習②