折れ線グラフ ×だけ練習③(くらべる)

2つのグラフや2本の線の見分け方

なまえ ＿＿＿＿＿＿＿＿

ひづけ ＿＿＿＿＿＿＿＿

・答えを書きましょう
・グラフが2つあるときは、1目もりの大きさをたしかめて、ふえた数をくらべます
・線が2本あるときは、線の見本で見分けます

① アは水そう、イはふろの水の高さです。1分めから5分めまでに、高さが大きくふえたのは、どちらですか。

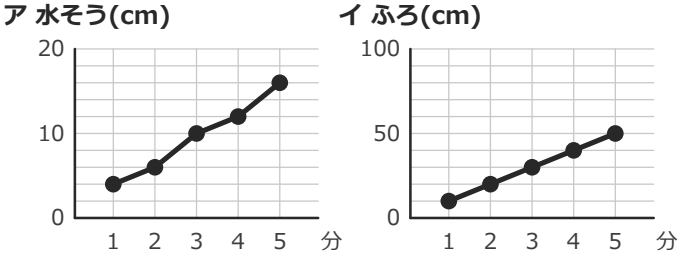

② はれの日と雨の日の、お客さんの数です。雨の日のお客さんが30人になったのは、何時ですか。

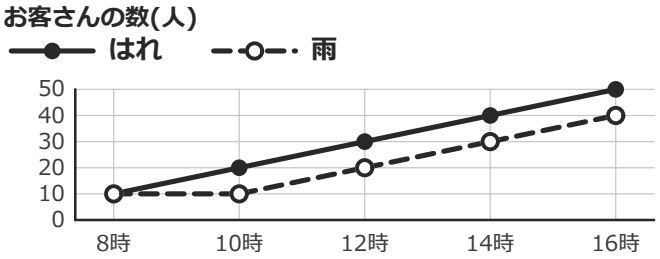

時

③ さくらさんとゆうとさんが歩いた道のりです。さくらさんの3回めの道のりは、何mですか。

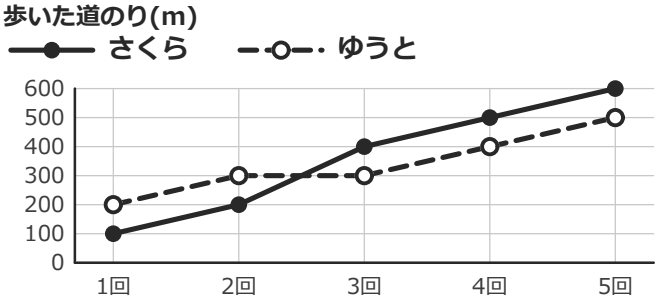

m

④ アはたけのこ、イはつくしの高さです。1日めから5日めまでに、高さが大きくふえたのは、どちらですか。

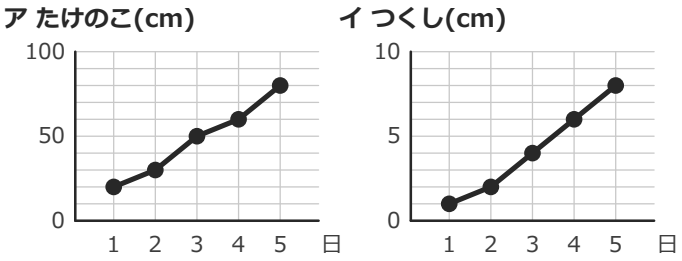

⑤ アはざいりょう、イはかんづめの重さです。1日めから5日めまでに、重さが大きくふえたのは、どちらですか。

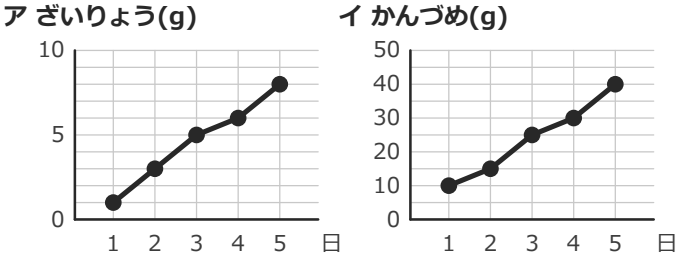

⑥ ひまわりとあさがおの高さです。ひまわりの高さが40cmになったのは、何週めですか。

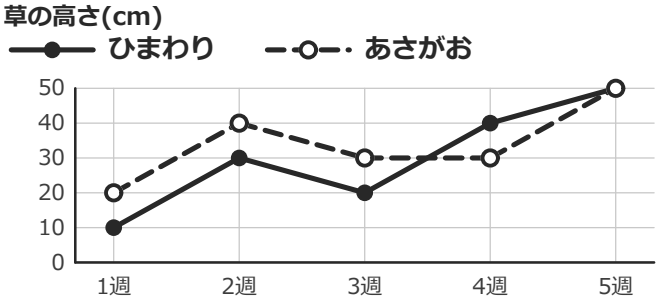

週め

いちごドリル プリント

つづきの無料プリント
「折れ線グラフ」のプリント一覧がひらきます

折れ線グラフ ×だけ練習③(くらべる)【こたえ】

2つのグラフや2本の線の見分け方

なまえ ＿＿＿＿＿＿＿＿

ひづけ ＿＿＿＿＿＿＿＿

① ア 水そう(cm)　イ ふろ(cm)

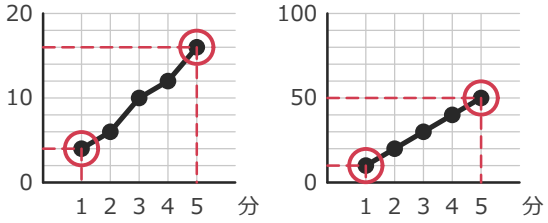

イ

→ アは1目もり2cm、イは1目もり10cmです。線のかたむきだけで「ア」とする誤答に注意。

式 ア 16－4＝12 ／ イ 50－10＝40

② お客さんの数(人)

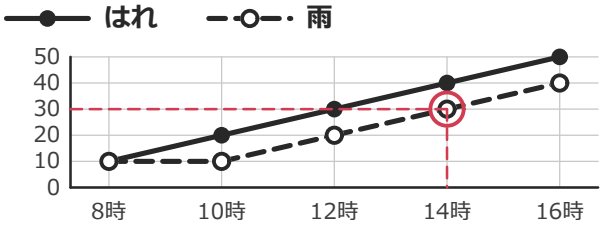

14 **時**

→ 点線(白い丸)が雨の日です。実線(黒い丸)のはれの日が30人なのは12時。線の見本を見ちがえた誤答に注意。

雨(点線)が30の点 → 14時

③ 歩いた道のり(m)

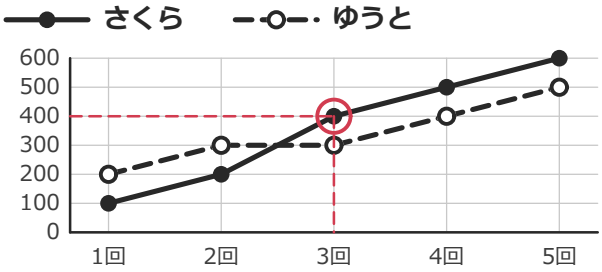

400 **m**

→ 実線(黒い丸)がさくらさん、点線(白い丸)がゆうとさんです。ゆうとさんの3回めは300m。線の見本を見ちがえた誤答に注意。

さくら(実線)の3回 → 400

④ ア たけのこ(cm)　イ つくし(cm)

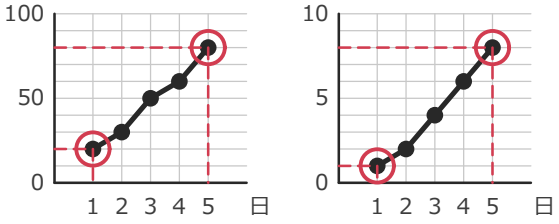

ア

→ アは1目もり10cm、イは1目もり1cmです。線のかたむきだけで「イ」とする誤答に注意。

式 ア 80－20＝60 ／ イ 8－1＝7

⑤ ア ざいりょう(g)　イ かんづめ(g)

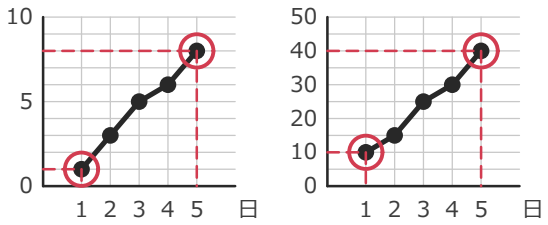

イ

→ アは1目もり1g、イは1目もり5gです。線のかたむきだけで「ア」とする誤答に注意。

式 ア 8－1＝7 ／ イ 40－10＝30

⑥ 草の高さ(cm)

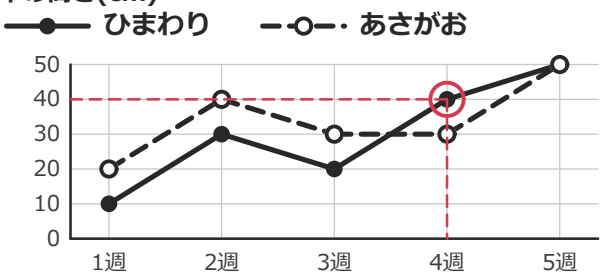

4 **週め**

→ 実線(黒い丸)がひまわり、点線(白い丸)があさがおです。あさがおが40cmなのは2週め。線の見本を見ちがえた誤答に注意。

ひまわり(実線)が40の点 → 4週